Библиотека автомобилиста

АРИЙ
0309

ТЕМАТИЧЕСКИЕ ВОПРОСЫ

для проверки знаний

- Правил и безопасности дорожного движения
- законодательства
- основ оказания первой медицинской помощи
- составления Европротокола
- этики и режимов труда и отдыха водителя
- основ устройства и эксплуатации ТС, его влияния на экологию

Включены вопросы, содержание которых соответствует вынесенным на теоретический экзамен в сервисных центрах МВД Украины

5-е издание

ABCDE
базовый набор вопросов
2020

АРИЙ

1.11 **Видимостью в направлении движения считается максимальное расстояние, на котором с места водителя можно четко распознать:**

1. Только дорожные знаки и светофоры.
2. Только границы элементов дороги.
3. Границы элементов дороги и расположение участников движения.

1.12 **Велосипедная дорожка показана на рисунке:**

1. Слева. 2. Справа.
3. Обоих.

1.13 **Лица, нарушающие Правила дорожного движения, несут ответственность:**

1. Только согласно действующему законодательству.
2. Только согласно приказам владельцев дорог.
3. Только согласно приказам Национальной полиции.
4. Согласно всем вышеперечисленным нормативам и приказам.

1.14 **Преимуществом считается право на первоочередное движение по отношению:**

1. Только к водителям транспортных средств на перекрестках.
2. Только к пешеходам.
3. К любым участникам дорожного движения.

1.15 **На каком из рисунков выполнена стоянка, если она длится более 5 минут?**

1

2

3

1.16 **Водитель, создавший опасность или препятствие для движения, обязан предупредить и сообщить о них:**

1. Уполномоченное подразделение Национальной полиции.
2. Владельца дороги.
3. Участников дорожного движения.
4. Всех вышеперечисленных.

1.17 **Автомобильной дорогой (улицей) считается часть территории, в том числе в населенном пункте, предназначенная для движения:**

1. Только механических транспортных средств.
2. Только механических транспортных средств, мопедов и велосипедов.
3. Транспортных средств и пешеходов.

1.18 **Примыкающая территория предназначена для:**

1. Сквозного проезда через дворы.
2. Разворота транспортных средств.
3. Въезда во дворы, на стоянки, автозаправочные станции, строительные площадки либо выезда из них.

1.19 **Тротуаром считается элемент дороги, предназначенный для движения:**

1. Только пешеходов.
2. Пешеходов и велосипедистов.
3. Пешеходов, а также остановки или стоянки легковых автомобилей и мотоциклов.

1.20 **Трамвайный путь — элемент дороги, предназначенный для движения рельсовых транспортных средств, который ограничивается по ширине:**

1. Трамвайными рельсами.
2. Специально выделенной отмосткой трамвайной линии или дорожной разметкой.
3. Только дорожной разметкой.

Вопрос подобного содержания может быть поставлен вам на теоретическом экзамене в сервисном центре МВД Украины.

1.21 **На каком из рисунков показан обгон?**



1 2

1.22 **К автомагистрали относится автомобильная дорога:**

1. Не имеющая пересечений на одном уровне только с другими дорогами, пешеходными либо велосипедными дорожками.
2. Только имеющая отдельные проезжие части для каждого направления движения, разделенные разделительной полосой.
3. Не имеющая пересечений на одном уровне только с железнодорожными и трамвайными путями.
4. Со всеми вышеперечисленными особенностями.

1.23 **Использовать дорогу не по ее назначению разрешается только по решению:**

1. Автотранспортных организаций, согласованному с владельцем дороги.
2. Национальной полиции, согласованному с владельцем дороги.
3. Владельца дороги или уполномоченного им органа, согласованному с Национальной полицией.

1.24 **Что из изображенного относится к транспортным средствам?**

1. Трамвай, автомобиль и мотоцикл.
2. Трамвай и автомобиль.
3. Велосипед, автомобиль и мотоцикл.
4. Велосипед, трамвай, автомобиль и мотоцикл.
5. Все изображенные.

1.25 **К маршрутным транспортным средствам относятся:**

1. Любые транспортные средства, осуществляющие перевозку пассажиров более 8 человек.
2. Любые автобусы, троллейбусы и трамваи.
3. Автобусы, микроавтобусы, троллейбусы, трамваи и такси, движущиеся по установленным маршрутам и имеющие определенные места на дороге для посадки (высадки) пассажиров.

1.26 **Габаритно-весовой контроль — это проверка:**

1. Только весовых параметров транспортного средства.
2. Только габаритных параметров транспортного средства.
3. Габаритных и весовых параметров транспортного средства.
4. Габаритных и весовых параметров транспортного средства, прицепа и груза.

1.27 **Обзорностью считается объективная возможность видеть с места водителя:**

1. Только состояние поверхности проезжей части, ее ширину, наличие обочин или тротуаров.
2. Только наличие дорожных знаков, дорожной разметки, светофоров и ограждений.
3. Только наличие препятствий на определенном участке дороги.
4. Любое перечисленное выше.
5. Только перечисленное в ответах 1 и 2.

1.28 **Вынужденной остановкой считается прекращение движения транспортного средства из-за:**

1. Только его технической неисправности.
2. Только опасности, создаваемой перевозимым грузом либо препятствием на дороге.
3. Только опасности, создаваемой состоянием участника дорожного движения.
4. Любого перечисленного выше.

1.29 **Какое транспортное средство является для вас препятствием?**

1. Только легковой автомобиль.
2. Только стоящий микроавтобус.
3. Оба транспортных средства.

1.30 **К рельсовому транспортному средству относится:**

1. Транспортное средство, движущееся по трамвайному пути.
2. Только трамваи.
3. Трамваи и платформы со специальным оборудованием, движущиеся по трамвайным путям.

Вопрос подобного содержания может быть поставлен вам на теоретическом экзамене в сервисном центре МВД Украины.

1/38

1.31 Главной дорогой считается дорога:

1. Только с покрытием по отношению к грунтовой или обозначенная соответствующими знаками.
2. Только четырехполосная по отношению к двухполосной и двухполосная к однополосной.
3. Только с большей интенсивностью движения по отношению к дороге с меньшей интенсивностью.
4. Любая из перечисленных выше.

1.32 Согласно Правилам к мотоциклам приравниваются мотороллеры, мотоколяски и механические транспортные средства, разрешенная масса которых не превышает:

1. 300 кг.
2. 400 кг.
3. 500 кг.

1.33 Эстакада – инженерное сооружение, предназначенное для движения:

1. Только транспортных средств.
2. Транспортных средств и (или) пешеходов.

1.34 Безопасным интервалом считается расстояние, при котором обеспечена безопасность дорожного движения: *

1. Между боковыми частями транспортных средств, движущихся только во встречном направлении.
2. Между боковыми частями транспортных средств, движущихся только в попутном направлении.
3. Только между движущимся транспортным средством и другим объектом.
4. Во всех перечисленных выше случаях.

1.35 Согласно Правилам перекрестком считается: *

1. Только место пересечения дорог в одном уровне.
2. Только место примыкания или разветвления дорог в одном уровне.
3. Только место примыкания к дороге выезда с примыкающей территории.
4. Все вышеперечисленные места.
5. Только места, перечисленные в ответах 1 и 2.

1.36 Какое из изображенных транспортных средств согласно Правилам считается велосипедом?

1. Только 1.
2. Только 1 и 2.
3. Только 1, 2 и 3.
4. Только 1, 2 и 4.
5. Все изображенные.

1.37 К грузовому автомобилю относится автомобиль, который по своей конструкции и оборудованию предназначен для перевозки:

1. Груза.
2. Пассажиров и их багажа.
3. Груза или пассажиров и их багажа.

1.38 В каком из перечисленных случаев прекращение движения транспортного средства на время больше 5 минут считается остановкой?

1. Если это необходимо только для посадки (высадки) пассажиров либо погрузки (разгрузки) груза.
2. Если это необходимо только для предоставления преимущества в движении.
3. В любом из перечисленных случае.

1.39 В этой ситуации опередить микроавтобус на перекрестке разрешается:



1. Только водителю мотоцикла.
2. Только водителю легкового автомобиля.
3. Водителям мотоцикла и легкового автомобиля.

1.40 Опасность или препятствие для движения могут быть созданы:

1. Только действиями участников дорожного движения.
2. Только бездействием участников дорожного движения.
3. Действиями либо бездействием участников дорожного движения или иных лиц.

* Вопрос подобного содержания может быть поставлен вам на теоретическом экзамене в сервисном центре МВД Украины.

1.41 ✻ **Недостаточной видимостью считается видимость дороги в направлении движения менее 300 м:**

1. Только в сумерках, в условиях тумана, дождя, снегопада и т. п.
2. Только на участках крутых подъемов, закруглениях дороги.
3. Только ограниченная насаждениями или транспортными средствами.
4. Во всех вышеперечисленных случаях.

1.42 **На каком рисунке неправильно указан стрелкой край проезжей части?**

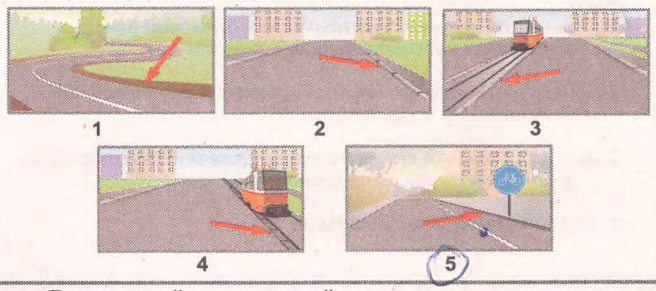

1.43 **К транспортному средству относится устройство, предназначенное для перевозки:**

1. Только людей.
2. Только груза.
3. Только груза без установленного на нем специального оборудования.
4. Людей и (или) груза, а также установленного на нем специального оборудования или механизмов.

1.44 ✻ **Безопасной дистанцией считается расстояние до транспортного средства, которое в случае внезапного его торможения или остановки позволит вам предотвратить столкновение без выполнения какого-либо маневра, если это транспортное средство движется:**

1. Впереди по той же полосе, что и автомобиль, которым вы управляете.
2. Впереди по любой полосе в попутном направлении с автомобилем, которым вы управляете.
3. Во встречном направлении при отсутствии разделительной полосы.
4. В любом направлении или по любой полосе.

1.45 **К мосту относится сооружение, предназначенное для движения:**

1. Над другой дорогой.
2. Только через реку или овраг.
3. Через реку, овраг и иные препятствия.

1.46 **К дорожно-транспортному происшествию относится событие, в результате которого:**

1. Только погибли люди.
2. Только погибли или ранены люди.
3. Только причинен материальный ущерб.
4. Погибли или ранены люди либо причинен материальный ущерб.

1.47 ✻ **Населенным пунктом считается застроенная территория, въезды на которую и выезды с которой обозначаются дорожными знаками:**

1. Только «Начало населенного пункта» и «Конец населенного пункта» на синем фоне. РУДНЯ ~~РУДНЯ~~
2. Только «Начало населенного пункта» и «Конец населенного пункта» на белом фоне. ОДЕСА ~~ОДЕСА~~
3. «Начало населенного пункта» и «Конец населенного пункта» на белом или синем фоне. ОДЕСА ~~ОДЕСА~~ РУДНЯ ~~РУДНЯ~~

1.48 **Кто из лиц, изображенных на рисунке, является водителем?**

1. Лицо, обучающее вождению.
2. Лицо, управляющее транспортным средством и не имеющее удостоверение водителя.
3. Оба перечисленные лица.

1.49 **Колонной пешеходов считается организованная группа людей, движущихся по:**

1. Проезжей части в одном направлении.
2. Обочине навстречу движению транспортных средств не более чем по три человека в ряд.
3. Тротуарам и пешеходным дорожкам не более чем по три человека в ряд.

1.50 **Дорожной обстановкой считается совокупность факторов, характеризующихся:**

1. Только дорожными условиями.
2. Только наличием препятствий на определенном участке дороги.
3. Только интенсивностью и уровнем организации дорожного движения.
4. Всеми вышеперечисленными факторами.
5. Только факторами, перечисленными в ответах 2 и 3.

✻ Вопрос подобного содержания может быть поставлен вам на теоретическом экзамене в сервисном центре МВД Украины.

1.51 Вне границ пешеходного перехода дорогу переходит:

1. Мужчина.
2. Женщина.
3. Оба пешехода.

1.52 Участником дорожного движения считается лицо, принимающее непосредственное участие в процессе движения на дороге в качестве: *

1. Только водителя или пешехода.
2. Только водителя, пешехода или пассажира.
3. Водителя, пешехода, пассажира, погонщика животных, велосипедиста, а также лица, движущегося в кресле колесном.

1.53 К путепроводу относится инженерное сооружение мостового типа в месте пересечения:

1. Только над автомагистралью.
2. Только над автомагистралью или дорогой для автомобилей.
3. Только над железной дорогой.
4. Над любой дорогой (улицей), в том числе железной дорогой.

1.54 Совокупностью каких факторов характеризуются дорожные условия?

1. Только видимостью в направлении движения и состоянием поверхности проезжей части.
2. Только шириной проезжей части, величиной ее уклонов на спусках и подъемах, виражами и закруглениями.
3. Только наличием тротуаров или обочин, искусственного освещения.
4. Только наличием средств организации дорожного движения и их состоянием.
5. Всех перечисленных выше факторов.

1.55 На каком рисунке водитель выезжает из жилой зоны? *

1. На левом.

2. На правом.

1.56 Какое максимальное количество мест для сидения (с местом водителя включительно) может быть в легковом автомобиле согласно Правилам?

1. Четыре.
2. Шесть.
3. Восемь.
4. Девять.
5. Десять.

1.57 Обгоном считается опережение одного или нескольких транспортных средств: *

1. Связанное с выездом на полосу встречного движения.
2. Связанное с выездом из занимаемой полосы и движение со скоростью, превышающей установленную для данных дорожных условий.
3. Со скоростью, превышающей скорость попутного транспортного средства, движущегося по смежной полосе.
4. Выполняемое в любых вышеперечисленных случаях.

1.58 Безопасной скоростью считается скорость: *

1. При которой водитель имеет возможность безопасно управлять транспортным средством и контролировать его движение в конкретных дорожных условиях.
2. Которая определена только технической характеристикой данного транспортного средства.
3. Которая определена как предельная для движения в населенных пунктах.
4. Указанная в ответах 2 и 3.

1.59 Выполнить объезд остановившегося грузового автомобиля по направлению, показанному стрелкой:



1. Разрешается только при отсутствии линии, обозначающей край проезжей части.
2. Разрешается независимо от наличия линии, обозначающей край проезжей части.
3. Запрещается.

1.60 Разрешенной максимальной массой считается масса снаряженного транспортного средства с грузом, водителем и пассажирами, установленная технической характеристикой как максимально допустимая: *

1. Только пассажирских транспортных средств.
2. Только грузовых автомобилей.
3. Только мотоциклов.
4. Любого транспортного средства.

* Вопрос подобного содержания может быть поставлен вам на теоретическом экзамене в сервисном центре МВД Украины.

1.61 **Регулировщиком считается лицо, регулирующее дорожное движение, имеющее экипировку и удостоверение:**

1. Только полицейского.
2. Только сотрудника военной инспекции безопасности дорожного движения.
3. Только дежурного на железнодорожном переезде или паромной переправе.
4. Любого перечисленного выше.

1.62 **Главной дорогой считается дорога, обозначенная знаками:**

1. Только «Пересечение со второстепенной дорогой».
2. Только «Примыкание второстепенной дороги».
3. Только «Главная дорога».
4. Только «Преимущество перед встречным движением».
5. Любыми перечисленными в ответах 1–3.

1.63 **Опережением считается движение транспортного средства со скоростью, превышающей скорость попутного транспортного средства, движущегося:**

1. Только по крайней правой полосе.
2. Только по крайней левой полосе.
3. Рядом по смежной полосе.

1.64 **Опасность для движения наступает при:**

1. Неудовлетворительной дорожной обстановке, которая препятствует дорожному движению.
2. Изменении дорожной обстановки или технического состояния транспортного средства, которое вынуждает водителя к изменению направления движения.
3. Изменении дорожной обстановки или технического состояния транспортного средства, которое угрожает безопасности дорожного движения и вынуждает водителя немедленно уменьшить скорость или остановить транспортное средство.

1.65 **Где может быть расположена пешеходная дорожка?**

1. За пределами дороги и обозначена знаками или .
2. В пределах дороги и обозначена знаком .
3. В пределах дороги или вне ее и обозначена знаком .

1.66 **Нарушает ли Правила водитель микроавтобуса, остановившись в зоне знака «Стоянка запрещена» на время больше 5 минут?**



1. Нарушает.
2. Не нарушает.

1.67 **Что из перечисленного относится к эксплуатации транспортного состава?**

1. Транспортировка тягачом прицепа согласно инструкции по его использованию.
2. Перемещение грузовым автомобилем легкового автомобиля на жесткой или гибкой сцепке.
3. Любое перечисленное выше действие.

1.68 **Кто может быть владельцем транспортного средства?**

1. Только физическое лицо.
2. Только юридическое лицо.
3. Физическое или юридическое лицо.

1.69 **Колонна транспортных средств – это:**

1. Организованная группа из трех и более транспортных средств, совместно движущихся в одном направлении непосредственно друг за другом с постоянно включенным ближним светом фар.
2. Группа автомобилей, состоящая из оперативного транспортного средства с включенным проблесковым маячком синего цвета и сопровождаемого автомобиля.

1.70 **На каком из рисунков изображена дорога с разделительной полосой?**



1. Только на левом.
2. Только на правом.
3. На обоих.

Вопрос подобного содержания может быть поставлен вам на теоретическом экзамене в сервисном центре МВД Украины.

1.71 **Буксировка может осуществляться:**

1. Только на жесткой сцепке.
2. Только на гибкой сцепке.
3. Только способом частичной погрузки на платформу.
4. Только способом частичной погрузки на специальное опорное приспособление.
5. Любым из перечисленных выше способов.

1.72 **Пассажиром считается лицо, пользующееся и находящееся:**

1. Только в маршрутном микроавтобусе, но непричастное к управлению им.
2. Только в троллейбусе и трамвае.
3. В любом транспортном средстве, но непричастное к управлению им.

1.73 **Водитель какого транспортного средства движется по главной дороге?**





1. Мотоцикла и трактора.
2. Легкового автомобиля и мотоцикла.
3. Микроавтобуса, грузового и легкового автомобилей.

1.74 **К велосипеду относится транспортное средство:**

1. Которое приводится в движение мускульной силой человека или с помощью двигателя объемом до 50 куб.см.
2. Двухколесное и имеющее двигатель с рабочим объемом до 50 куб. см.
3. Которое приводится в движение мускульной силой человека, находящегося на нем, кроме инвалидных колясок.

1.75 **Ограниченной обзорностью считается видимость дороги в направлении движения, ограниченная:**

1. Только туманом, дождем, снегопадом.
2. Только геометрическими параметрами дороги, придорожными инженерными сооружениями, насаждениями и другими объектами.
3. Только транспортными средствами.
4. Любым вышеперечисленным.
5. Только перечисленным в ответах 2 и 3.

1.76 **Пешеходом считается лицо, участвующее в дорожном движении:**

1. Вне транспортных средств, в том числе выполняющее на дороге работу.
2. Только вне механических транспортных средств, в том числе выполняющее на дороге работу.
3. Вне транспортных средств и не выполняющее на дороге какой-либо работы.

1.77 **На каком рисунке показан железнодорожный переезд?**





1. Только на левом.
2. Только на правом.
3. На обоих.

1.78 **Темным временем суток считается часть суток от:**

1. Начала вечерних сумерек до начала видимости дороги на расстоянии более 300 м.
2. Захода солнца до восхода солнца.
3. Начала вечерних до окончания утренних сумерек.

1.79 **В такой ситуации легковой автомобиль для вас является:**



1. Препятствием для движения.
2. Опасностью для движения.

1.80 **Согласно Правилам полосой для движения нерельсовых транспортных средств считается продольная полоса на проезжей части:**

1. Если ее ширина не менее 2,5 м и обозначена дорожной разметкой.
2. Если она обозначена дорожной разметкой и имеет ширину, достаточную для движения любых транспортных средств.
3. Если ее ширина не менее 2,75 м и обозначена или не обозначена дорожной разметкой.

Вопрос подобного содержания может быть поставлен вам на теоретическом экзамене в сервисном центре МВД Украины.

1.81 **Выполняет ли водитель легкового автомобиля поворот с крайнего положения?**



1. Да.
2. Нет.

1.82 **По велосипедной дорожке движение разрешается:**

1. Только на велосипедах.
2. Только на мопедах.
3. На мопедах и велосипедах.

1.83 **Согласно Правилам к мопедам относятся двухколесные транспортные средства:**

1. С боковым прицепом или без него, имеющие двигатель с рабочим объемом более 50 куб. см или электродвигатель мощностью более 4 кВт.
2. Имеющие двигатель с рабочим объемом до 50 куб. см или электродвигатель мощностью до 4 кВт.
3. Только без бокового прицепа, имеющие двигатель с рабочим объемом 50 куб. см или электродвигатель мощностью 4 кВт.

1.84 **В населенном пункте движется водитель:**

1. Грузового автомобиля.
2. Мотоцикла.

1.85 **Видимость в направлении движения должна учитываться водителем при выборе:**

1. Только безопасной скорости и осуществления безопасного маневра.
2. Только места стоянки вне населенных пунктов.
3. Только места разворота или обгона.
4. Всего вышеперечисленного.
5. Только мест, перечисленных в ответах 2 и 3.

1.86 * **Разделительная полоса автомобильной дороги предназначена для:**

1. Разворота транспортных средств.
2. Стоянки транспортных средств.
3. Разделения смежных проезжих частей и движения пешеходов при наличии там тротуара.
4. Любого перечисленного в ответах.

1.87 **Какое из изображенных транспортных средств относится к прицепам?**



1. Прицепы к легковому и грузовому автомобилям.
2. Прицепы к легковому и грузовому автомобилям, а также полуприцеп.
3. Все изображенные.
4. Все изображенные, за исключением бокового прицепа к мотоциклу.

1.88 * **В каком из перечисленных случае участник дорожного движения не выполнил требование Правил «уступить дорогу»?**

1. Если он проследовал без остановки перед перекрестком.
2. Если он осуществил выезд на автомагистраль без остановки.
3. Если он вынудил других участников движения, имеющих преимущество, изменить направление или скорость движения.
4. В любом из перечисленных выше случае.

1.89 * **Жилой зоной считается:**

1. Дворовая территория, предназначенная для движения только пешеходов.
2. Часть населенного пункта, предназначенная для движения только пешеходов и велосипедистов.
3. Дворовая территория, а также часть населенного пункта, обозначенная дорожным знаком «Жилая зона».

1.90 * **На каком из рисунков правильно показано синим цветом границы перекрестка?**

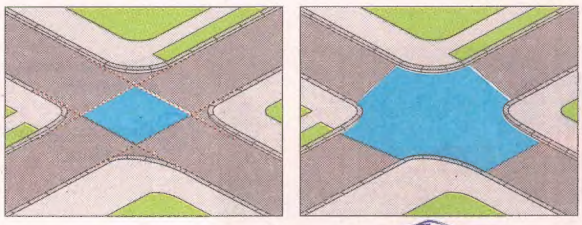

1 2

* Вопрос подобного содержания может быть поставлен вам на теоретическом экзамене в сервисном центре МВД Украины.

Тормозным путем считается расстояние, которое проходит транспортное средство при экстренном торможении с:

1. Момента реакции водителя на опасность для движения до места остановки транспортного средства.
2. Начала воздействия на орган управления тормозной системы до места остановки транспортного средства.
3. Места ярко выраженных следов торможения до места остановки транспортного средства.

К механическим транспортным средствам относятся:



1. Автомобили, автобусы и мотоциклы.
2. Трактора и самоходные машины.
3. Легковые, грузовые автомобили, мотоциклы и мопеды.
4. Только перечисленные в ответах 1 и 2 транспортные средства.
5. Все вышеперечисленные транспортные средства.

Препятствием для движения считается неподвижный объект в пределах полосы движения транспортного средства или объект, движущийся попутно в пределах этой полосы и который вынуждает водителя:

1. Только уменьшать скорость движения транспортного средства или выполнить объезд.
2. Только уменьшать скорость движения или остановить транспортное средство.
3. Маневрировать или уменьшать скорость движения вплоть до остановки транспортного средства.

Краем проезжей части (для нерельсовых транспортных средств) считается видимая условная либо обозначенная дорожной разметкой линия на проезжей части:

1. Только в местах ее примыкания к обочине, тротуару или газону.
2. Только в местах ее примыкания к разделительной полосе или полосе для движения трамваев.
3. Только в местах ее примыкания к велосипедной или пешеходной дорожке.
4. В любом перечисленном выше месте.

Согласно Правилам проезжей частью считается элемент дороги, предназначенный для движения:

1. Только механических транспортных средств.
2. Нерельсовых транспортных средств.
3. Механических транспортных средств и пешеходов.

На каком рисунке изображен мотоцикл, если его разрешенная масса не превышает 400 кг?

1. Только на левом.
2. Только на правом.
3. На обоих.

При отсутствии дорожной разметки границы пешеходного перехода определяются:

1. Расстоянием между дорожными знаками, обозначающими переход.
2. Расстоянием между пешеходными светофорами.
3. При отсутствии пешеходных светофоров, дорожных знаков и разметки — шириной тротуаров или обочин.
4. Одним из вышеупомянутых.

На каком рисунке изображена дорога с разделительной полосой?

1. Только на левом.
2. Только на правом.
3. На обоих.

Сколько проезжих частей имеет эта дорога?



1. Одну.
2. Две.
3. Четыре.

Сколько полос для движения имеет эта дорога?

1. Две.
2. Три.
3. Четыре.
4. Пять.
5. Шесть.

Вопрос подобного содержания может быть поставлен вам на теоретическом экзамене в сервисном центре МВД Украины.

1.101 **Опасность ослепления для водителя состоит в том, что во время такого физиологического состояния он объективно не имеет возможности на минимальном расстоянии:**

1. Только выявить препятствия.
2. Только распознать границы элементов дороги.
3. Осуществить оба действия.

1.102 **В каком случае совершается вынужденная остановка?**

1. Остановка на проезжей части из-за технической неисправности транспортного средства.
2. Остановка на проезжей части, чтобы уступить дорогу пешеходу.
3. Остановка по требованию регулировщика.
4. Во всех перечисленных случаях.

Проезжая часть изображенной дороги имеет:

1. Одну полосу для движения.
2. Две полосы для движения.
3. Три полосы для движения.

Двигаясь по грунтовой дороге, вы выезжаете:

1. На главную дорогу.
2. На равнозначную дорогу.

1.105 **Какие из изображенных транспортных средств Правила относят к автопоезду?**



1. Только «А».
2. Только «Б».
3. Только «В».
4. Все изображенные.

1.106 **На каком из рисунков изображен островок безопасности?**





1. Только на левом. 2. Только на правом. 3. На обоих.

Что из изображенного, согласно Правилам, следует считать «газоном»?

1 2 3

Что из перечисленного Правила считают «маневром»?

1. Только повороты налево, направо и перестроение из полосы в полосу.
2. Только перестроение из полосы в полосу.
3. Только начало движения и движение задним ходом.
4. Только повороты направо и налево, разворот и съезд с проезжей части.
5. Все перечисленное.

Движется в населенном пункте водитель:

1. Мотоцикла.
2. Легкового автомобиля.

Сколько перекрестков изображено на рисунке?

1. Один.
2. Два.
3. Четыре.

Вопрос подобного содержания может быть поставлен вам на теоретическом экзамене в сервисном центре МВД Украины.

2. Обязанности и права водителей механических транспортных средств

Если во время дорожно-транспортного происшествия повреждены только застрахованные транспортные средства и нет погибших и травмированных, по взаимному согласию участников происшествия допускается:

1. Составить совместное уведомление о дорожно-транспортном происшествии в соответствии с утвержденным образцом.
2. Зафиксировать повреждения транспортных средств и после подписи участников происшествия передать материалы в страховую организацию для их дальнейшего оформления.
3. Осуществить обмен страховыми полисами и разъехаться.
4. Выполнить любое из перечисленных выше действий.

Какие документы должен предъявить полицейскому для проверки водитель легкового автомобиля?

1. Только удостоверение на право управления транспортным средством.
2. Только регистрационный документ на транспортное средство.
3. Только полис страхования гражданско-правовой ответственности.
4. Все вышеперечисленные документы.
5. Только документы, перечисленные в ответах 1 и 2.

Водитель должен предоставлять транспортное средство для доставки в ближайшее лечебное учреждение лиц, нуждающихся в экстренной (скорой) медицинской помощи:

1. Только полицейским.
2. Только работникам здравоохранения.
3. Полицейским и работникам здравоохранения.

Что из перечисленного в ответах должен выполнить в первую очередь водитель, ставший участником дорожно-транспортного происшествия, в котором пострадали люди?

1. Сообщить в орган или уполномоченное подразделение Национальной полиции о происшествии.
2. Вызвать карету скорой медицинской помощи.
3. Записать фамилии и адреса очевидцев.

Кому из перечисленных разрешается находиться в транспортном средстве и не пристегиваться ремнем безопасности при движении в населенном пункте, если транспортное средство оборудовано ими?

1. Только лицу, обучающему вождению в транспортном средстве, если за рулем ученик.
2. Только водителям и пассажирам оперативных и специальных транспортных средств и такси.
3. Только водителям и пассажирам с инвалидностью, физиологические особенности которых мешают пользоваться ремнями безопасности.
4. Всем названным выше лицам.

Водителю запрещено передавать управление транспортным средством лицам, находящимся в состоянии алкогольного, наркотического или иного опьянения:

1. Во всех случаях.
2. Кроме случаев доставки в лечебное учреждение лиц, нуждающихся в неотложной медицинской помощи.
3. Кроме случаев транспортировки поврежденных транспортных средств.

Водитель с инвалидностью, управляющий мотоколяской или автомобилем, обозначенным опознавательным знаком «Водитель с инвалдностью», может отступать от требований дорожных знаков:

1. «Преимущество встречного движения».
2. «Въезд запрещен» и «Ограничение максимальной скорости». 50
3. «Движение запрещено», «Движение механических транспортных средств запрещено», «Стоянка запрещена».
4. Любых вышеперечисленных.

Какие из перечисленных дополнительные документы должен иметь при себе водитель механического транспортного средства, перевозящий крупногабаритный или тяжеловесный груз?

1. Технические условия на перевозку.
2. Свидетельство о допуске водителя и допуске транспортного средства к перевозке.
3. Разрешение на движение.
4. Все перечисленные выше документы.

Какие из перечисленных в ответах действия должен выполнить водитель, причастный к дорожно-транспортному происшествию?

1. Немедленно остановить транспортное средство и оставаться на месте происшествия.
2. Включить аварийную световую сигнализацию и выставить знак аварийной остановки.
3. Сообщить о происшествии в полицию и ждать прибытия полицейских.
4. Выполнить все перечисленные действия.

Для обеспечения безопасности дорожного движения водитель обязан перед выездом:

1. Проверить и обеспечить технически исправное состояние транспортного средства.
2. Осмотреть транспортное средство.
3. Проверить уровень масла в двигателе, наличие достаточного количества горючего, жидкость в системе охлаждения.
4. Выполнить все вышеперечисленные действия.

Вопрос подобного содержания может быть поставлен вам на теоретическом экзамене в сервисном центре МВД Украины.

2.11 Водитель — владелец транспортного средства имеет право:

1. Только на возмещение расходов в случае предоставления транспортного средства работникам полиции и органа здравоохранения.
2. Только на безопасные и удобные условия для движения.
3. Только запрашивать оперативную информацию о дорожных условиях и направлениях движения.
4. На все перечисленное выше.
5. Только на перечисленное в ответах 1 и 2.

2.12 Какие действия из перечисленных должен в первую очередь выполнить водитель, который стал участником дорожно-транспортного происшествия?

1. Оградить место происшествия.
2. Включить аварийную световую сигнализацию и выставить знак аварийной остановки.
3. Записать данные свидетелей и составить схему происшествия.

Кто согласно требованиям Правил в этом случае обязан пользоваться ремнем безопасности?

1. Только лицо, обучающее вождению.
2. Только лицо, обучающееся вождению.
3. Оба перечисленные лица.

2.14 Владелец транспортного средства, а также лицо, которое использует такое транспортное средство на законных основаниях, могут передавать управление транспортным средством другому лицу:

1. Имеющему при себе удостоверение на право управления транспортным средством соответствующей категории.
2. Обучающемуся вождению транспортного средства.
3. Имеющему при себе любое удостоверение на право управления транспортным средством.
4. Любому упомянутому выше.

Владелец транспортного средства имеет право на возмещение убытков, понесенных вследствие несоответствия требованиям безопасности движения состояния:

1. Только автомобильных дорог.
2. Только улиц и железнодорожных переездов.
3. Только улиц.
4. Автомобильных дорог, улиц и железнодорожных переездов.

2.17 Водителю запрещается управлять транспортным средством под воздействием лекарственных препаратов:

1. Снижающих только быстроту реакции.
2. Снижающих только внимание.
3. Снижающих быстроту реакции и внимание.
4. Любых.

Право на управление автомобилями категории B1, B, C1, C, колесными тракторами, другими механизмами, которые эксплуатируются на улично-дорожной сети, за исключением автобусов, трамваев и троллейбусов, предоставляется с:

1. 16-летнего возраста.
2. 17-летнего возраста.
3. 18-летнего возраста.
4. 19-летнего возраста.
5. 20-летнего возраста.

Для обеспечения безопасности дорожного движения водитель обязан:

1. Только не загрязнять проезжую часть и полосу отвода автомобильных дорог.
2. Только сообщать дорожно-эксплуатационным организациям или Национальной полиции о выявленных фактах создания препятствия для движения.
3. Только не осуществлять действий, вследствие которых могут быть повреждены дороги и их составляющие.
4. Выполнять все изложенные выше обязанности.
5. Выполнять обязанности, изложенные в ответах 2 и 3.

2.19 Водитель должен пройти медицинское освидетельствование для определения состояния алкогольного опьянения по требованию:

1. Только полицейского.
2. Только работника прокуратуры.
3. Только работника страховой компании.
4. Любого вышеназванного лица.
5. Полицейского или страховой компании.

Передавать управление транспортным средством лицу, не имеющему удостоверения на право управления им, разрешается:

1. Если владелец транспортного средства находится в нем.
2. Если это касается только обучения вождению согласно требованиям Правил.
3. Если лицо является ближайшим родственником.
4. Во всех перечисленных выше случаях.

Вопрос подобного содержания может быть поставлен вам на теоретическом экзамене в сервисном центре МВД Украины.

Согласно требованиям Правил водитель, причастный к дорожно-транспортному происшествию, обязан сообщить о нем в:

1. Дорожно-эксплуатационную службу.
2. Орган или уполномоченное подразделение Национальной полиции.
3. Страховую компанию.

Управлять транспортным средством в болезненном состоянии, в состоянии утомления, а также находясь под воздействием лекарственных препаратов, снижающих скорость реакции и внимание:

1. Разрешено не более чем в течение 30 минут.
2. Разрешено не более чем в течение 1 часа.
3. Запрещено.

Во время движения транспортного средства пользоваться средствами связи, держа их в руке, разрешается водителю:

1. Любого транспортного средства при вызове экстренной службы.
2. Любого транспортного средства.
3. Любого транспортного средства при прочтении SMS-сообщения.
4. Только оперативного транспортного средства во время выполнения неотложного служебного задания.

Какие из перечисленных документы должен иметь при себе водитель механического транспортного средства?

1. Только удостоверение на право управления транспортным средством соответствующей категории.
2. Только регистрационный документ на транспортное средство (технический талон).
3. Только полис (сертификат) обязательного страхования гражданско-правовой ответственности владельца наземного транспортного средства.
4. Все перечисленные выше документы.
5. Только документы, перечисленные в ответах 1 и 2.

Водитель какого транспортного средства должен предоставлять его полицейским для транспортировки поврежденных транспортных средств?

1. Только легкового автомобиля.
2. Только грузового микроавтобуса.
3. Только грузового автомобиля.
4. Грузового и легкового автомобилей.

Право на управление мототранспортными средствами и мотоколясками предоставляется с:

1. 15-летнего возраста.
2. 16-летнего возраста.
3. 17-летнего возраста.

Водителю запрещается управлять транспортным средством в состоянии:

1. Только алкогольного опьянения.
2. Только наркотического опьянения.
3. Только под воздействием лекарственных препаратов, снижающих внимание и скорость реакции.
4. Перечисленном в ответах 1–3.
5. Перечисленном только в ответах 1 и 2.

На автомобилях, оборудованных средствами пассивной безопасности, водитель и пассажиры должны пользоваться:

1. Только подголовниками.
2. Только ремнями безопасности.
3. Обоими вышеперечисленными средствами.

Водителю с инвалидностью, управляющему мотоколяской или автомобилем, обозначенными опознавательным знаком «Водитель с инвалидностью», или водителю, перевозящему пассажира с инвалидностью, останавливать транспортное средство в зоне действия дорожного знака «Остановка запрещена» с табличкой «Кроме лиц с инвалидностью»:

1. Разрешается.
2. Запрещается.

Если вследствие дорожно-транспортного происшествия нет пострадавших и не нанесен материальный ущерб третьим лицам, а транспортные средства могут безопасно двигаться, водители (при наличии взаимного согласия в оценке обстоятельств случившегося) могут:

1. Разъехаться, обменявшись расписками.
2. Прибыть на ближайший пост или в орган Национальной полиции для оформления материалов происшествия, предварительно составив схему происшествия и поставив подписи под ней.
3. Обменяться страховыми полисами и разъехаться.
4. Выполнить любое из перечисленных выше действий.

Вопрос подобного содержания может быть поставлен вам на теоретическом экзамене в сервисном центре МВД Украины.

2.31 **Право на управление автомобилями с прицепами или полуприцепами, а также теми, что предназначены для перевозки крупногабаритных, тяжеловесных и опасных грузов, предоставляется с:**

1. 18-летнего возраста.
2. 19-летнего возраста.
3. 20-летнего возраста.
4. 21-летнего возраста.
5. 22-летнего возраста.

2.32 **Что из перечисленного в ответах должен выполнить в первую очередь водитель, причастный к дорожно-транспортному происшествию с пострадавшими людьми?**

1. Освободить проезжую часть.
2. Принять возможные меры для оказания домедицинской помощи пострадавшим.
3. Сообщить о дорожно-транспортном происшествии в орган или уполномоченное подразделение Национальной полиции.
4. Записать фамилии и адреса очевидцев.

2.33 **Какие дополнительные документы из перечисленных должен иметь при себе водитель механического транспортного средства, перевозящий опасный груз?**

1. Товаро-транспортный документ на опасный груз.
2. Только свидетельство о допуске водителя к перевозке.
3. Только свидетельство о допуске транспортного средства к перевозке.
4. Только согласование маршрута дорожной перевозки.
5. Все перечисленные выше документы.

2.34 **Водителю запрещается управлять транспортным средством:**

1. Не зарегистрированным в уполномоченном органе МВД.
2. Без номерного знака.
3. Без знака о заключении договора страхования гражданско-правовой ответственности владельцев наземных транспортных средств.
4. В случаях, изложенных в ответах 1 и 2.
5. В случаях, изложенных в ответах 1–3.

2.35 **Для обеспечения безопасности дорожного движения водитель перед выездом обязан:**

1. Проверить только техническое состояние транспортного средства и комплектность документов, подать сигналы световыми указателями.
2. Проверить только правильность размещения груза, наличие документов, включить ближний свет или противотуманные фары.
3. Проверить и обеспечить технически исправное состояние и комплектность транспортного средства, правильность размещения и крепления груза.
4. Выполнить только действия, перечисленные в ответах 1 и 2.

2.36 **Водитель должен предоставлять транспортное средство полицейскому:**

1. Только для преследования правонарушителей и доставки их в органы Национальной полиции.
2. Только для транспортировки поврежденных транспортных средств (грузовых автомобилей).
3. Только для отправки водителя на медицинский осмотр для определения состояния алкогольного опьянения.
4. Во всех вышеперечисленных случаях.
5. В случаях, перечисленных в ответах 1 и 2, а также работникам здравоохранения для доставки в ближайшее лечебное учреждение лиц, нуждающихся в неотложной медицинской помощи.

2.37 **Водитель имеет право:**

1. Знать причину остановки, проверки и осмотра транспортного средства должностным лицом государственного органа, осуществляющим надзор за дорожным движением, а также его фамилию и должность.
2. Требовать от лица, осуществляющего надзор за дорожным движением и остановившего транспортное средство, предъявления удостоверения его личности.
3. Получать необходимую помощь от должностных лиц и организаций, участвующих в обеспечении безопасности дорожного движения.
4. Обжаловать действия полицейского в случае нарушения им законодательства.
5. На все, перечисленное в ответах.

Водитель какого автомобиля-такси нарушает Правила, перевозя пассажиров, не пристегнутых ремнями безопасности?

1. Только зеленого цвета.
2. Только красного цвета.
3. Оба нарушают.
4. Оба не нарушают.

2.39 **Обязан ли водитель по требованию полицейского дать возможность осмотреть транспортное средство в соответствии с законодательством при наличии на то законных оснований?**

1. Обязан только на посту Национальной полиции.
2. Обязан проследовать в отделение полиции.
3. Обязан.
4. Не обязан.
5. Обязан предоставить возможность проверить только номера агрегатов.

2.40 **Согласно требованиям Правил водитель обязан пройти внеочередной медицинский осмотр с целью определения способности безопасно управлять транспортным средством по решению:**

1. Полицейского при наличии соответствующих оснований.
2. Представителя страховой компании или аварийного комиссара.
3. Уполномоченного лица предприятия (организации).
4. Любого названного выше лица.

Вопрос подобного содержания может быть поставлен вам на теоретическом экзамене в сервисном центре МВД Украины.

Водитель — владелец транспортного средства имеет право:

1. Доверить распоряжаться транспортным средством другому лицу.
2. Передать управление транспортным средством лицу, имеющему при себе водительское удостоверение соответствующей категории.
3. Осуществлять оба вышеперечисленные действия.

Водитель легкового автомобиля должен предоставлять свое транспортное средство:

1. Полицейским для выполнения непредвиденных и неотложных служебных обязанностей, связанных с преследованием правонарушителей.
2. Полицейским и работникам здравоохранения для доставки в ближайшее учреждения здравоохранения лиц, нуждающихся в экстренной (скорой) медицинской помощи.
3. Полицейским для транспортировки поврежденных транспортных средств.
4. Для выполнения всех вышеперечисленных действий.
5. Для выполнения действий, перечисленных в ответах 1 и 2.

В случае невозможности вызвать на место дорожно-транспортного происшествия карету экстренной (скорой) медицинской помощи и отправить пострадавших в учреждение здравоохранения водитель, причастный к ДТП, обязан:

1. Зафиксировать расположение следов происшествия и положение транспортного средства после его остановки, отвезти пострадавших в ближайшее лечебное учреждение и возвратиться на место происшествия.
2. Немедленно отвезти пострадавших в лечебное учреждение и возвратиться на место происшествия.

Кому из перечисленных разрешается находиться в транспортном средстве с непристегнутыми ремнями безопасности при движении вне населенного пункта, если транспортное средство оборудовано ими?

1. Только водителям и пассажирам с инвалидностью.
2. Только водителям и пассажирам оперативных и специальных транспортных средств и такси.
3. Только лицу, обучающему вождению в транспортном средстве, если за рулем ученик.
4. Всем названным выше лицам.

Водитель какого автомобиля нарушил Правила, остановившись на этом участке дороги?

1. Только красного автомобиля.
2. Только синего автомобиля.
3. Оба нарушили.
4. Оба не нарушили.

Какие из перечисленных обязанности по обеспечению безопасности дорожного движения возлагаются на водителя?

1. Только быть внимательным, следить за дорожной обстановкой и соответственно реагировать на ее изменение.
2. Только следить за правильностью расположения и крепления груза.
3. Только следить за техническим состоянием транспортного средства и не отвлекаться от управления им в дороге.
4. Выполнять все вышеперечисленные требования.
5. Выполнять только перечисленные в ответах 1 и 2.

При каких условиях водители застрахованных транспортных средств могут не сообщать о дорожно-транспортном происшествии в орган Национальной полиции?

1. Только при отсутствии травмированных (погибших) людей.
2. Только при достижении согласия относительно обстоятельств совершения дорожно-транспортного происшествия.
3. Только при составлении водителями совместного сообщения о дорожно-транспортном происшествии в соответствии с установленным Моторным (транспортным) страховым бюро образцом.
4. Только при отсутствии у водителей признаков алкогольного, наркотического или другого опьянения или пребывания под воздействием лекарственных препаратов, снижающих внимание и скорость реакции.
5. При выполнении всех перечисленных выше условий.

Правила запрещают водителю управлять транспортным средством с номерным знаком, который:

1. Не принадлежит этому средству.
2. В темное время суток не освещен.
3. Закреплен не в установленном для этого месте.
4. Закрыт другими предметами или загрязнен, что не дает возможности распознать символы с расстояния 20 м.
5. Подпадает под любое из перечисленных требований.

В случае причастности к ДТП водителю до проведения медицинского осмотра без назначения медицинского работника употреблять алкоголь, наркотики, а также лекарственные препараты, изготовленные на их основе (кроме тех, которые входят в официально утвержденный состав аптечки):

1. Запрещено только в теплое время года.
2. Запрещено.
3. Разрешено в небольшом количестве.

Владелец транспортного средства имеет право:

1. Только доверять в установленном порядке пользоваться или распоряжаться транспортным средством другому лицу.
2. Только на возмещение затрат в случае предоставления транспортного средства работнику органа здравоохранения для доставки в лечебное учреждение пострадавшего при дорожно-транспортном происшествии.
3. Пользоваться всеми перечисленными выше правами.

Вопрос подобного содержания может быть поставлен вам на теоретическом экзамене в сервисном центре МВД Украины.

3. Движение транспортных средств со специальными сигналами

3.1 Водителям оперативных транспортных средств с включенным проблесковым маячком синего или красного цвета и специальным звуковым сигналом отступать от требований дорожных знаков, сигналов светофоров, правил маневрирования, скорости движения и обгона:

1. Разрешается.
2. Запрещается.
3. Разрешается отступать только от требований дорожных знаков и сигналов светофора.

3.2 Водитель автомобиля с включенным маячком оранжевого цвета при проезде перекрестка обязан:



1. Уступить дорогу только легковому автомобилю.
2. Уступить дорогу только вам.
3. Уступить дорогу обоим транспортным средствам.
4. Дождаться включения разрешающего сигнала светофора и начать движение.

3.3 Преимущество в движении:

1. Имеете вы.
2. Имеет водитель автомобиля пожарной службы.

3.4 Водители каких транспортных средств обязаны уступить дорогу автомобилю с включенным маячком и специальным звуковым сигналом?



1. Всех, независимо от направления их движения.
2. Только грузового автомобиля.
3. Только трамвая.
4. Только автобуса.

3.5 Водителю красного автомобиля выполнить опережение в этой ситуации:

1. Разрешается, поскольку дорога имеет три полосы для движения в одном направлении.
2. Разрешается, только если скорость движения колонны менее 40 км/ч.
3. Запрещается.

3.6 Преимущество в движении:

1. Имеете вы.
2. Имеет водитель специального автомобиля.

3.7 Двигаясь с включенным проблесковым маячком и звуковым сигналом «сирена», водитель специального автомобиля:



1. Должен продолжить движение в направлении стрелки дополнительной секции светофора, уступив дорогу другим автомобилям.
2. Имеет преимущество в движении и может повернуть налево.
3. Должен ожидать разрешающего сигнала светофора для поворота налево.

3.8 На оперативном или специальном транспортном средстве во время выполнения неотложного служебного задания могут быть включены:

1. Синий или красный проблесковый маячок.
2. Синий и красный проблесковые маячки.
3. Зеленый проблесковый маячок.
4. Синий и зеленый проблесковые маячки.
5. Одна из вышеперечисленных комбинаций маячков.

3.9 Автомобили проедут перекресток в таком порядке:

1. «Полиция», «Скорая помощь».
2. «Скорая помощь», «Полиция».

3.10 При приближении транспортного средства с включенным проблесковым маячком синего цвета и (или) специальным звуковым сигналом водители всех транспортных средств обязаны:

1. Остановить транспортное средство возле правого края проезжей части.
2. Уступить дорогу и обеспечить беспрепятственный проезд сопровождающего и сопровождаемых транспортных средств.

Вопрос подобного содержания может быть поставлен вам на теоретическом экзамене в сервисном центре МВД Украины.

3.11 В каком ответе правильно указаны ваши действия?

1. Продолжить движение, обеспечив безопасный интервал.
2. Снизить скорость движения вплоть до остановки.
3. Остановить автомобиль у правого края проезжей части.

3.12 Автомобилю скорой медицинской помощи уступить дорогу обязаны водители:



1. Только автобуса.
2. Только легкового автомобиля.
3. Обоих транспортных средств.

3.13 В этой дорожной ситуации преимущество в движении:

1. Имеет водитель специального автомобиля.
2. Имеете вы.

3.14 Разрешается ли осуществлять обгон и опережение колонны транспортных средств, сопровождаемой автомобилями с включенными проблесковыми маячками синего и зеленого цвета?

1. Разрешается.
2. Запрещается.
3. Разрешается, если скорость движения колонны не превышает 40 км/ч.
4. Разрешается осуществлять только опережение.

3.15 Движение разрешено:

1. Водителю автомобиля скорой помощи.
2. Водителю автомобиля полиции.

3.16 Преимущество в движении:



1. Имеете вы.
2. Имеет водитель автомобиля скорой медицинской помощи.

3.17 После проезда какого автомобиля, сопровождающего колонну транспортных средств, отменяется ограничение на движение других транспортных средств?



1. Только 1.
2. Автомобиля 2 или 3.
3. Только 2.
4. Только 3.
5. Любого из показанных.

3.18 Обязан ли водитель желтого автомобиля принять вправо и остановиться в этом случае?

1. Обязан.
2. Не обязан.

3.19 В этом случае при движении прямо вы:



1. Имеете преимущество.
2. Обязаны уступить дорогу автомобилю оперативной службы.

3.20 Двигаться по смежным полосам со скоростью колонны и занимать место в колонне, сопровождаемой автомобилями с включенными проблесковыми маячками синего и зеленого цвета:

1. Разрешается.
2. Запрещается.
3. Разрешается, только если скорость колонны не превышает 40 км/ч.
4. Разрешается, если колонна движется по крайней правой полосе.

Вопрос подобного содержания может быть поставлен вам на теоретическом экзамене в сервисном центре МВД Украины.

3.21 **Включение проблескового маячка оранжевого цвета на механическом транспортном средстве дорожно-эксплуатационной службы во время выполнения работы на дороге служит:**

1. Только для привлечения внимания участников дорожного движения.
2. Только для предупреждения участников дорожного движения об опасности.
3. Для привлечения внимания и предупреждения об опасности.

3.22 **Нарушает ли мотоциклист Правила, двигаясь со скоростью 70 км/ч?**

1. Нарушает.
2. Не нарушает.

3.23 **Разрешается ли водителю автомобиля скорой помощи, движущемуся с включенным специальным звуковым сигналом, выполнить опережение на этом перекрестке?**



1. Запрещается.
2. Разрешается.

3.24 **Разрешается ли вам обогнать грузовой и сопровождающий его легковой автомобили при отсутствии встречных транспортных средств?**



1. Разрешается.
2. Запрещается.
3. Разрешается только в случае, если их скорость не превышает 30 км/ч.

3.25 **Водитель автомобиля с включенным маячком и специальным звуковым сигналом может продолжить движение:**



1. Только направо.
2. Только прямо или направо.
3. Только направо или налево.
4. Во всех направлениях.

3.26 **Водитель какого автомобиля должен принять вправо и остановиться в этом случае?**

1. Желтого.
2. Красного.
3. Обоих автомобилей.

3.27 **Водитель автомобиля с включенным маячком и специальным звуковым сигналом может продолжить движение:**

1. Только прямо или направо.
2. Только налево или на разворот.
3. Во всех направлениях.

3.28 **В этом случае вы:**

1. Можете повернуть направо одновременно с проездом автомобиля с включенным маячком.
2. Обязаны остановить автомобиль у правого края проезжей части.
3. Обязаны уступить дорогу перед выездом на перекресток.

3.29 **Приближаясь к неподвижному транспортному средству с включенным проблесковым маячком синего цвета, которое стоит на обочине (возле проезжей части) или на проезжей части водитель должен:**

1. Снизить скорость вплоть до остановки.
2. Снизить скорость до 40 км/ч и в случае подачи регулировщиком соответствующего сигнала остановиться.
3. Вести транспортное средство как можно ближе к правому краю проезжей части.

3.30 **При приближении транспортного средства с включенным проблесковым маячком красного цвета водители других транспортных средств на дороге без разделительной полосы обязаны:**

1. Немедленно остановить транспортное средство.
2. Остановить транспортное средство возле правого края проезжей части (на правой обочине).
3. Вести транспортное средство как можно ближе к правому краю проезжей части.

Вопрос подобного содержания может быть поставлен вам на теоретическом экзамене в сервисном центре МВД Украины.

При проезде этого перекрестка водитель автомобиля дорожной службы:



1. Имеет преимущество в движении.
2. Должен уступить дорогу трамваю.

Водители оперативных или специальных транспортных средств во время выполнения неотложного служебного задания могут отступать от требований Правил при включении:

1. Только проблескового маячка синего или красного цвета.
2. Только специального звукового сигнала.
3. Одновременно обоих перечисленных выше устройств.

3.33 Разрешается ли вам обогнать этот автомобиль, который движется со скоростью 30 км/ч?

1. Разрешается.
2. Запрещается.

3.34 Какие из перечисленных в ответах действия вы должны выполнить, увидев такой приближающийся автомобиль?

1. Вести автомобиль как можно ближе к правому краю проезжей части.
2. Немедленно уменьшить скорость движения вплоть до остановки.
3. Остановить автомобиль у правого края проезжей части или на обочине.

3.35 Двигаясь на спуск, должен ли водитель скорой медицинской помощи уступить дорогу в этой ситуации?

1. Должен.
2. Не должен.

3.36 Какой из показанных автомобилей должен замыкать колонну транспортных средств, которая сопровождается автомобилем с включенными проблесковыми маячками синего и красного или только красного цвета?



1. Только автомобиль 1.
2. Автомобиль 2 или 3.

Движение через железнодорожный переезд:

1. Разрешается только водителю автомобиля скорой помощи.
2. Разрешается только водителю автомобиля дорожной службы.
3. Водителям обоих транспортных средств разрешается.
4. Водителям обоих транспортных средств запрещается.

Разрешается ли водителю красного легкового автомобиля движение со скоростью 90 км/ч в этой ситуации?



1. Разрешается.
2. Запрещается.

Как вы должны поступить в этой ситуации?

1. Снизить скорость движения до 40 км/ч и осторожно проехать этот участок дороги.
2. Только остановиться.
3. Выполнить одно из перечисленных выше действий.

В этой ситуации Правила вам предписывают:

1. Снизить скорость движения до 40 км/ч.
2. Только остановиться.
3. Выполнить одно из перечисленных выше действий.

Вопрос подобного содержания может быть поставлен вам на теоретическом экзамене в сервисном центре МВД Украины.

3.41 **Включение проблескового маячка оранжевого цвета на механическом транспортном средстве дорожно-эксплуатационной службы во время выполнения работы на дороге:**

1. Дает преимущество в движении.
2. Не дает преимущества в движении.

3.42 **На оперативном или специальном транспортном средстве с включенными проблесковыми маячками синего или красного цвета во время выполнения неотложного служебного задания специальный звуковой сигнал включается:**

1. Всегда в населенном пункте.
2. Всегда вне населенного пункта.
3. Только при необходимости дополнительного привлечения внимания участников дорожного движения.

3.43 **При приближении автомобиля с включенным маячком и звуковым сигналом водитель красного автомобиля должен:**



1. Прекратить опережение мотоцикла и уступить дорогу.
2. Остановить автомобиль у правого края проезжей части или на обочине.
3. Немедленно уменьшить скорость движения вплоть до остановки.

3.44* **Преимущество в движении имеет:**

1. Водитель автомобиля скорой помощи.
2. Водитель автомобиля полиции, сопровождающий колонну.

* Вопрос подобного содержания может быть поставлен вам на теоретическом экзамене в сервисном центре МВД Украины.

4. Обязанности и права пешеходов

4.1 Правила нарушает:

1. Только пешеход 1.
2. Только пешеход 2.
3. Оба пешехода.

4.2 Пешеходам разрешается идти по краю проезжей части дороги навстречу движению транспортных средств:

1. Только если нет тротуаров или передвигаться по ним невозможно.
2. Если нет тротуаров, пешеходных дорожек и отсутствуют обочины или передвигаться по ним невозможно.
3. Только в темное время суток или в условиях недостаточной видимости, если отсутствуют обочины.
4. Во всех упомянутых случаях.

4.3 Имеет ли пешеход преимущество при переходе проезжей части по обозначенным нерегулируемым пешеходным переходам?

1. Не имеет.
2. Имеет.
3. Имеет только на обозначенных соответствующими дорожными знаками.
4. Имеет только на обозначенных дорожной разметкой.

4.4 При включении сигнала светофора, разрешающего движение транспортным средствам, пешеход должен:

1. Остановиться на разделительной полосе и ожидать включения сигнала светофора, который разрешает движение.
2. Завершить переход дороги.

4.5 Пешеходам запрещается:

1. Только внезапно выходить, выбегать на проезжую часть, в том числе на пешеходный переход.
2. Только выходить на проезжую часть, не убедившись в отсутствии опасности для себя и других участников движения.
3. Обе приведенные выше действия.

4.6 Разрешается ли пешеходам ожидать автобус в заездном «кармане»?

1. Разрешается, если это не препятствует движению автобусов.
2. Разрешается, чтобы не создавать препятствий для движения пешеходов.
3. Запрещается.

4.7 Организованную группу детей переводить по проезжей части:

1. Разрешено только в сопровождении взрослых.
2. Разрешено при условии соблюдения требований движения организованных групп людей.
3. Разрешено при условии соблюдения обоих перечисленных выше условий.
4. Запрещено.

4.8 Движение организованной группы людей по проезжей части дороги разрешается только:

1. В направлении движения транспортных средств колонной, не более чем по четыре человека в ряд при условии, что колонна не занимает больше половины ширины проезжей части одного направления движения.
2. Навстречу движению транспортных средств колонной, не более чем по четыре человека в ряд при условии, что колонна не занимает больше половины ширины полосы проезжей части.

4.9 На регулируемом пешеходном переходе пешеход имеет преимущественное право на движение:

1. Всегда.
2. Во время движения на разрешающий сигнал светофора.

4.10 Разрешается ли пешеходу выходить на проезжую часть до остановки трамвая на обозначенном этим знаком участке дороги?

1. Разрешается.
2. Запрещается.
3. Разрешается только при отсутствии нерельсовых транспортных средств.

Вопрос подобного содержания может быть поставлен вам на теоретическом экзамене в сервисном центре МВД Украины.

Если трамвайная остановка не оборудована посадочной площадкой, пешеходы могут выходить на проезжую часть:

1. Только со стороны дверей трамвая и только после его остановки.
2. Со стороны дверей трамвая при его приближении к остановке.
3. С любой стороны трамвая на его остановке.

Кто из пешеходов нарушает Правила, переходя дорогу?

1. Только пешеходы 1 и 3.
2. Только пешеходы 2 и 3.
3. Только пешеходы 3 и 4.
4. Только пешеходы 2 и 4.

Переход дороги осуществляется с нарушением Правил на рисунке:

1. Слева.
2. Справа.
3. На обоих.

В темное время суток и в условиях недостаточной видимости пешеходы должны выделять себя для своевременного их обнаружения другими участниками дорожного движения, двигаясь:

1. Только по проезжей части.
2. Только по обочине.
3. По дороге в любом случае.

Кто из участников дорожного движения нарушает Правила, двигаясь вне населенного пункта?

1. Только пешеход, везущий тележку.
2. Только пешеход, ведущий велосипед.
3. Оба нарушают.
4. Оба не нарушают.

При включении сигнала светофора, запрещающего движение, пешеход должен:



1. Завершить переход проезжей части.
2. Остановиться на островке безопасности или линии, разделяющей транспортные потоки противоположных направлений.

За пределами населенных пунктов вести мотоцикл, мопед или велосипед по краю проезжей части навстречу движению транспортных средств:

1. Разрешается.
2. Запрещается.
3. Разрешается только в светлое время суток.

Ожидать транспортное средство пешеходы должны:

1. На тротуаре.
2. На посадочной площадке.
3. На обочине.
4. В любом из перечисленных выше месте.

Водить организованные группы детей по обочине дороги, если нет тротуаров и пешеходных дорожек:

1. Разрешается в светлое время суток только навстречу движению транспортных средств, а в темное время суток — только в направлении движения транспортных средств.
2. Разрешается только в светлое время суток в направлении движения транспортных средств.
3. Запрещается.

Пешеходу следует:



1. Покинуть проезжую часть, не задерживаясь.
2. Возвратиться на середину проезжей части.
3. Возвратиться назад на тротуар.

Вопрос подобного содержания может быть поставлен вам на теоретическом экзамене в сервисном центре МВД Украины.

4.21 В каких из перечисленных в ответах случаях пешеход обязан находиться на месте совершения дорожно-транспортного происшествия до прибытия полицейских?

1. Если он был очевидцем происшествия.
2. Если он сообщил в орган или уполномоченное подразделение Национальной полиции о происшествии.
3. В случае причастности к происшествию.
4. В любом вышеперечисленном случае.

Кто из пешеходов нарушает Правила, переходя дорогу?

1. Мужчина.
2. Женщина.

Организованная группа людей, которая движется колонной по проезжей части, должна:

1. Всегда иметь сопровождающих с красными флажками впереди и позади колонны на расстоянии 10–15 м с левой стороны.
2. В темное время суток и в условиях недостаточной видимости иметь сопровождающих с зажженными фонарями: спереди - белого цвета, сзади - красного.
3. Обозначаться так, как перечисляется в обоих ответах.

Пешеходам разрешается идти по дороге навстречу движению транспортных средств за пределами населенных пунктов:

1. Только при движении по обочине.
2. Только при движении по краю проезжей части.
3. В обоих вышеперечисленных случаях.
4. Только если они переносят громоздкие предметы или ведут велосипед.

Если в зоне видимости нет пешеходного перехода или перекрестка, пешеходам переходить проезжую часть вне их:

1. Запрещается во всех случаях.
2. Разрешается на дорогах, имеющих не более четырех полос движения для обоих его направлений.
3. Разрешается на дорогах, имеющих не более трех полос движения для обоих его направлений.

Пешеходы, не успевшие закончить переход проезжей части дороги одного направления движения, должны находиться:

1. На островке безопасности или линии, разделяющей транспортные потоки противоположных направлений.
2. На средине проезжей части.
3. В одном из вышеперечисленных мест.

Пешеходам, переносящим громоздкие предметы, двигаться по краю проезжей части, если их движение по тротуарам, пешеходным дорожкам или обочинам создаст препятствия для других участников движения:

1. Разрешается.
2. Разрешается только в светлое время суток.
3. Запрещается.

4.28 В случае причастности пешехода к дорожно-транспортному происшествию он должен:

1. Оказать возможную помощь пострадавшим.
2. Записать фамилии и адреса очевидцев.
3. Сообщить орган или уполномоченное подразделение Национальной полиции о случившемся.
4. Находиться на месте происшествия до прибытия полицейских.
5. Выполнить все вышеперечисленные действия.

4.29 Пешеходам выходить на проезжую часть из-за стоящих транспортных средств и объектов, ограничивающих обзорность:

1. Запрещается.
2. Разрешается, убедившись в отсутствии приближающихся транспортных средств.
3. Разрешается только из-за стоящих легковых автомобилей или мотоциклов.

Вопрос подобного содержания может быть поставлен вам на теоретическом экзамене в сервисном центре МВД Украины.

5. Обязанности и права пассажиров

Пассажирам грузового автомобиля во время движения сидеть в необорудованном для сидения месте:

1. Разрешается при перевозке или сопровождении груза.
2. Разрешается, если груз находится ниже уровня бортов кузова.
3. Запрещается.

Осуществлять посадку (высадку) пассажиров разрешается только после остановки транспортного средства и:

1. Только с посадочной площадки.
2. Только с тротуара или обочины (при отсутствии посадочной площадки).
3. Только с крайней полосы проезжей части, но не со стороны сопредельной полосы для движения (при невозможности с тротуара или обочины).
4. Всех вышеперечисленных мест.

Пребывая в транспортном средстве, оборудованном ремнями безопасности, пользоваться ими должны пассажиры, сидящие на:

1. Переднем сиденьи.
2. Заднем сиденьи.
3. Всех сиденьях транспортного средства.

В каком случае из перечисленных пассажиру транспортного средства разрешается стоять во время движения?

1. При сопровождении груза в кузове грузового автомобиля, даже если он не оборудован для перевозки пассажиров.
2. Если число пассажиров превышает количество мест для сидения в микроавтобусе.
3. Если это предусмотрено конструкцией транспортного средства.
4. В любом перечисленном выше случае.

Правильно осуществляют посадку (высадку):

1. Только пассажир сзади автомобиля.
2. Только пассажир со стороны тротуара.
3. Пассажир со стороны тротуара и сзади автомобиля.
4. Правильно все пассажиры.

Что из перечисленного запрещается пассажирам транспортного средства?

1. Отвлекать внимание водителя от управления транспортным средством, препятствовать закрытию дверей и использовать для езды подножки.
2. Находиться во время движения в автомобиле-такси в населенном пункте с непристегнутыми ремнями безопасности.
3. Перечисленное в обоих ответах.

Пассажир какого транспортного средства нарушает Правила?



1. Только мотоцикла.
2. Только автомобиля.
3. Обоих.

Что из перечисленного должен выполнить пассажир, причастный к дорожно-транспортному происшествию?

1. Только оказать возможную помощь пострадавшим в ДТП.
2. Только сообщить о происшествии в орган или уполномоченное подразделение Национальной полиции.
3. Только находиться на месте происшествия и ожидать прибытия полицейских.
4. Выполнить все перечисленные действия.
5. Только выполнить действия, перечисленные в ответах 1 и 2.

Пассажирам транспортного средства во время движения запрещается:

1. Только препятствовать закрытию дверей.
2. Только использовать для езды подножки.
3. Только использовать для езды выступы транспортных средств.
4. Все вышеперечисленное.

Разрешено ли осуществлять посадку (высадку) пассажиров со стороны сопредельной полосы движения при наличии тротуара (обочины)?

1. Разрешено только в светлое время суток.
2. Разрешено при условии, что не будут создаваться помехи для других транспортных средств.
3. Запрещено.

Вопрос подобного содержания может быть поставлен вам на теоретическом экзамене в сервисном центре МВД Украины.

6. Требования к велосипедистам

Велосипедистам перевозить пассажиров:

1. Разрешается.
2. Запрещается.
3. Запрещается, за исключением детей до 7 лет на дополнительном сиденьи, оборудованном надежно закрепленными подножками.
4. Запрещается, за исключением детей в возрасте до 7 лет.

Нарушают ли велосипедисты Правила?

1. Только велосипедист, движущийся слева.
2. Оба велосипедиста.
3. Никто не нарушает.

При движении в темное время суток велосипедист будет нарушать Правила, поскольку на велосипеде:

1. Отсутствует фара.
2. Отсутствуют световозвращатели.
3. Отсутствуют все перечисленные выше устройства.

При каких условиях из перечисленных в ответах разрешается велосипедисту движение в светлое время суток?

1. С неисправным тормозом.
2. С неисправным звуковым сигналом.
3. Без световозвращателей.
4. Неисправны или отсутствуют все перечисленные выше устройства.

Кто имеет преимущество при проезде пересечения с велосипедной дорожкой?

1. Водитель мотоцикла.
2. Велосипедист.

По каким дорогам запрешается двигаться велосипедистам, если рядом нет специально обустроенной велосипедной дорожки?

1. По автомагистралям.
2. По дорогам для автомобилей.
3. По обычным дорогам.
4. По дорогам, перечисленным в ответах 1 и 2.
5. По всем перечисленным дорогам.

Велосипедистам буксировать прицеп:

1. Разрешается.
2. Запрещается.
3. Запрещается, кроме прицепов, предусмотренных для эксплуатации с велосипедом.

Велосипедистам запрещается ездить:

1. Не держась за руль.
2. Сняв ноги с педалей (подножек).
3. В обоих перечисленных выше случаях.

Нарушает ли Правила велосипедист, двигаясь по обочине дороги в этом случае без включенной фары или без световозвращателей?

1. Не нарушает.
2. Нарушает.

Нарушаются ли Правила в изображенных ситуациях?



1. Только на изображенной слева.
2. Только на изображенной справа.
3. На обеих не нарушаются.
4. На обеих нарушаются.

Вопрос подобного содержания может быть поставлен вам на теоретическом экзамене в сервисном центре МВД Украины.

6.11 **Нарушает ли Правила велосипедист, двигаясь вне велосипедной дорожки?**

1. Нарушает.
2. Не нарушает, если выполняет опережение переднего велосипедиста.

6.12 **При достижении какого минимального возраста разрешается двигаться по дороге на велосипеде?**

1. 12-летнего.
2. 13-летнего.
3. 14-летнего.
4. 15-летнего.
5. 16-летнего.

6.13 **Движение на велосипедах по тротуарам и пешеходным дорожкам:**

1. Разрешается.
2. Запрещается.
3. Разрешается только детям на детских велосипедах под присмотром взрослых.

6.14 **Кто имет преимущество при проезде пересечения с велосипедной дорожкой?**



1. Велосипедист.
2. Вы.

Какого цвета должны быть установлены световозвращатели на велосипеде?

1. Белый – спереди, оранжевый – по бокам, красный – сзади.
2. Красный – спереди и сзади, оранжевый – по бокам.
3. Оранжевый – спереди, красный – сзади.

6.16 **Какие грузы разрешается перевозить велосипедисту?**

1. Только такие, которые не мешают управлять велосипедом.
2. Только такие, которые не создают препятствий другим участникам дорожного движения.
3. Только такие, которые не нарушают устойчивости велосипеда.
4. Все перечисленные выше грузы.
5. Только грузы, перечисленные в ответах 1 и 2.

6.17 **Какая дистанция должна быть между группами велосипедистов, движущихся в колонне?**

1. 20–40 м.
2. 40–60 м.
3. 60–80 м.
4. 80–100 м.
5. 100–120 м.

6.18 **Кто из велосипедистов нарушает Правила при перевозке пассажиров?**



1. Перевозящий взрослого на багажнике.
2. Перевозящий ребенка.
3. Оба нарушают.

6.19 **Двигаясь группами, велосипедисты должны ехать:**

1. Не более чем по два в ряд.
2. Не более чем по три в ряд.
3. Только один за другим.

Вопрос подобного содержания может быть поставлен вам на теоретическом экзамене в сервисном центре МВД Украины.

7. Требования к лицам, управляющим гужевым транспортом, и погонщикам животных

7.2а **Вести животных по дороге с асфальтобетонным покрытием, если рядом есть грунтовая дорога:**

1. Разрешается только в светлое время суток.
2. Разрешается только по обочине.
3. Разрешается не более двух животных на одного погонщика.
4. Разрешается во всех перечисленных выше случаях.
5. Запрещается.

7.2б **При выезде на дорогу в месте с ограниченной обзорностью Правила нарушаются в ситуации, изображенной на рисунке:**

1. Слева.
2. Справа.

7.3 **Двигаясь в темное время суток и в условиях недостаточной видимости, извозчик должен включить слева фонари:**

1. Спереди и сзади красного цвета.
2. Спереди и сзади белого цвета.
3. Спереди – белого, сзади – красного цвета.

7.4а **По возможности двигаться по дорогам местного значения лицам, которые управляют гужевым транспортом и погонщикам животных пользоваться дорогами государственного значения:**

1. Разрешено.
2. Запрещено.

7.4б **Правила перегона животных в показанной ситуации:**



1. Нарушаются.
2. Не нарушаются, если перегон осуществляется в светлое время суток.
3. Не нарушается, если привлекается достаточное количество погонщиков.

Оставлять в пределах полосы отвода дороги животных без надзора:

1. Запрещается.
2. Разрешается только за пределами обочины дороги.
3. Разрешается только не ближе 10 м от края земляного полотна дороги.

7.7 **Перегонять животных по дороге в темное время суток и в условиях недостаточной видимости:**

1. Разрешается.
2. Запрещается.
3. Разрешается с включенными фонарями белого и красного цвета.
4. Разрешается только в условиях недостаточной видимости по обочине.

7.8 **Правила нарушает:**

1. Только возчик гужевой повозки.
2. Только погонщик животного.
3. Оба участника дорожного движения.

7.9 **Оборудованы световозвращателями:**



1. Правильно только гужевая повозка.
2. Правильно только сани.
3. Правильно повозка и сани.
4. Неправильно повозка и сани.

7.10 **В каких случаях при движении по дороге в темное время суток и в условиях недостаточной видимости на гужевой повозке (санях) должны включаться фонари?**

1. Только если движение осуществляется по дороге вне населенного пункта.
2. Только если движение осуществляется по дороге в населенном пункте.
3. Во всех случаях.

Вопрос подобного содержания может быть поставлен вам на теоретическом экзамене в сервисном центре МВД Украины.

В темное время суток и в условиях недостаточной видимости движение по дороге на гужевой повозке, не оборудованной световозвращателями:

1. Запрещается.
2. Запрещается только в темное время суток.
3. Запрещается только на дороге вне населенных пунктов.

Правила перегона животных в показанной ситуации:

1. Не нарушаются, если перегон осуществляется в светлое время суток.
2. Не нарушаются, если привлекается достаточное количество погонщиков.
3. Нарушаются.

В каком возрасте разрешается управлять гужевой повозкой или перегонять животных по дороге?

1. Не моложе 12 лет.
2. Не моложе 14 лет.
3. Управлять повозкой лицам не моложе 15 лет, а перегонять животных — 12 лет.

Перегонять стадо животных по дороге в светлое время суток:

1. Разрешается по всей ширине дороги только в населенных пунктах.
2. Разрешается только так, чтобы не занимать больше половины ширины проезжей части дороги.
3. Разрешается только как можно ближе к правому краю дороги.
4. Разрешается только по обочине.
5. Запрещается.

Правила перевозки пассажиров нарушает извозчик на рисунке:

1. Слева.
2. Справа.
3. Обоих.

В темное время суток и в условиях недостаточной видимости на гужевой повозке должны быть установлены фонари:

1. С правой стороны повозки.
2. С обеих сторон повозки.
3. С левой стороны повозки.

Вопрос подобного содержания может быть поставлен вам на теоретическом экзамене в сервисном центре МВД Украины.

8. Регулирование дорожного движения

8.1 **Знаки сервиса информируют участников дорожного движения о:**

1. Расположении территорий и объектов, где действуют специальные правила.
2. Расположении объектов обслуживания.
3. Всем перечисленном выше.

8.2 **Обязаны ли вы нарушить требования дорожной разметки по требованию полицейского?**

1. Не обязан, если имеется другой путь объезда места дорожно-транспортного происшествия.
2. Обязан.

8.3 **В этой ситуации движение:**



1. Вам разрешается только налево, пешеходам — в направлении «Б».
2. Вам разрешается во всех направлениях, пешеходам — в направлении «Б».
3. Вам разрешается во всех направлениях, пешеходам — запрещается.
4. Вам разрешается прямо или налево, пешеходам — запрещается.
5. Вам запрещается, пешеходам разрешается в изображенных стрелками направлениях.

8.4 **В каком направлении имеет право двигаться водитель легкового автомобиля в этой ситуации?**

1. Только прямо.
2. Только прямо и налево.
3. Прямо, налево и на разворот.

8.5 **Движение через перекресток разрешается водителям:**



1. Зеленого и синего легковых автомобилей.
2. Грузового автомобиля и зеленого легкового автомобиля.
3. Белого автомобиля и микроавтобуса.
4. Только грузового автомобиля.

8.6 **На каком из этих рисунков дорожное движение регулируется?**



1. На левом. 2. На правом. 3. На обоих.

8.7 **В этом случае движение:**



1. Разрешается вам и водителю трамвая только направо.
2. Разрешается вам налево или на разворот, водителю трамвая — только налево.
3. Вам и водителю трамвая запрещается.

8.8 **При включении желтого сигнала светофора водителю грузового автомобиля:**

1. Разрешается продолжить движение при невозможности остановить его без экстренного торможения, обеспечив при этом безопасность движения.
2. Необходимо немедленно остановить автомобиль.

8.9 **Действие какого из изображенных светофоров распространяется только на пешеходов?**

1. Только первого.
2. Только второго.
3. Только третьего.
4. Первого и третьего.
5. Всех изображенных.

8.10 **В этом случае вам движение:**

1. Разрешается только прямо.
2. Разрешается прямо или направо.
3. Разрешается только направо.
4. Запрещается.

Вопрос подобного содержания может быть поставлен вам на теоретическом экзамене в сервисном центре МВД Украины.

Цифровое табло под светофором информирует о:



1. Разрешенной скорости движения.
2. Времени, оставшемся до конца горения зеленого сигнала.
3. Времени, оставшемся до включения красного сигнала светофора.

В этом случае движение разрешается:

1. Вам и водителю встречного автомобиля.
2. Водителю грузового автомобиля и микроавтобуса.
3. Только водителю микроавтобуса.

Для проезда направо ви должны:

1. Остановить транспортное средство перед перекрестком и ожидать сигнала регулировщика, который разрешает движение.
2. Занять крайнее правое положение и быть готовым пропустить пешехода, переходящего проезжую часть перед грудью регулировщика.

Движение прямо разрешается:

1. Вам, уступив дорогу легковому автомобилю.
2. Только вам.
3. Только водителю легкового автомобиля.

Два мигающих желтых сигнала светофора движение:

1. Разрешают и информируют о наличии опасного пешеходного перехода.
2. Запрещают и информируют о наличии пешеходов на переходе.
3. Запрещают и предупреждают о необходимости остановки перед переходом.

Движение разрешается:

1. Трамваю и автобусу.
2. Грузовому автомобилю и трамваю.
3. Только автобусу.
4. Только трамваю.

В этом случае вам движение:



1. Разрешается только направо.
2. Разрешается только прямо или направо.
3. Разрешается во всех направлениях.
4. Запрещается.

Развернуться в указанном месте водителю:

1. Разрешено.
2. Запрещено.

Объехать препятствие разрешается:



1. На легковом автомобиле только с правой стороны.
2. На грузовом автомобиле только с левой стороны.
3. С правой или левой стороны на любом транспортном средстве.

В этой ситуации движение:

1. Разрешается вам и водителю трамвая прямо или направо.
2. Разрешается вам и водителю трамвая только направо.
3. Разрешается вам только направо, водителю трамвая — прямо или направо.
4. Вам и водителю трамвая запрещается.

Вопрос подобного содержания может быть поставлен вам на теоретическом экзамене в сервисном центре МВД Украины.

8.21 **По какому из направлений, показанных стрелками, разрешается движение легковому автомобилю?**

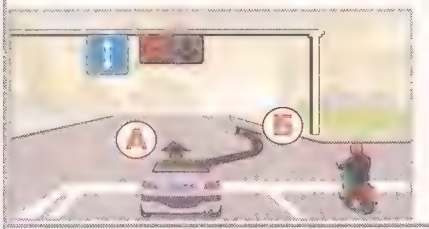

1. Только «А».
2. Только «Б».
3. По любому.

8.22 **В этой ситуации движение:**



1. Вам разрешается прямо или направо, пешеходам — в направлении Б.
2. Вам разрешается прямо или направо, пешеходам — в направлениях А и В.
3. Вам запрещается, пешеходам разрешается во всех изображенных стрелками направлениях.
4. Вам разрешается прямо или направо, пешеходам — запрещается.

8.23 **В этом случае движение:**

1. Разрешается вам во всех направлениях, водителю трамвая — запрещается.
2. Разрешается вам и водителю трамвая во всех направлениях.
3. Разрешается вам и водителю трамвая только прямо.
4. Вам и водителю трамвая запрещается.

8.24 **Стрелка на красном сигнале светофора, расположенного над правой полосой, информирует водителя легкового автомобиля о том, что:**

1. Поворот направо разрешен при любом сигнале светофора.
2. Необходимо уступить дорогу пешеходам при повороте направо.
3. Поворот направо разрешается при зеленом сигнале светофора.

8.25 **При подаче регулировщиком сигнала, запрещающего движение транспортных средств и пешеходов на перекрестке с нанесенной разметкой «зебра», водитель должен остановить транспортное средство только:**

1. Перед пешеходным переходом.
2. Перед пересекаемой проезжей частью.
3. Не ближе 10 м до пешеходного перехода.

8.26 **Движение налево разрешается:**

1. Вам, уступив дорогу микроавтобусу.
2. Только вам.
3. Только водителю микроавтобуса.

8.27 **Движение транспортных средств регулируется светофорами:**

1. Только первым и третьим.
2. Только первым.
3. Первым, третьим и четвертым.
4. Всеми изображенными.

8.28 **Кому из водителей в этом случае разрешено движение?**



1. Только трамвая и мотоциклисту.
2. Только мотоциклисту.
3. Только мотоциклисту и легкового автомобиля.
4. Трамвая, мотоциклисту и легкового автомобиля.

8.29 **В этой ситуации движение:**



1. Вам разрешается только направо, пешеходам — запрещается.
2. Вам запрещается, пешеходам разрешается только в направлении «Б».
3. Вам запрещается, пешеходам разрешается только в направлениях «А» и «В».
4. Вам запрещается, пешеходам разрешается во всех изображенных стрелками направлениях.

8.30 **Водитель какого транспортного средства нарушает Правила, двигаясь через перекресток прямо?**

1. Только мотоцикла.
2. Только легкового автомобиля.
3. Обоих.

Вопрос подобного содержания может быть поставлен вам на теоретическом экзамене в сервисном центре МВД Украины.

8.31 **В этом случае вам движение:**

1. Разрешается только прямо.
2. Разрешается только налево.
3. Разрешается во всех направлениях.
4. Запрещается.

8.32 **Дорожные знаки имеют преимущество перед дорожной разметкой:**

1. Только на улицах населенного пункта.
2. Только на дорогах вне населенного пункта.
3. На всей улично-дорожной сети.

8.33 **Красный сигнал светофора движение:**



1. Запрещает.
2. Разрешает.
3. Разрешает, при отсутствии других транспортных средств.

8.34 **Чем в этом случае должны руководствоваться вы и водитель автомобиля?**



1. Только сигналами регулировщика.
2. Сигналами регулировщика и знаками приоритета.
3. Сигналами регулировщика и светофора.

8.35 **В этой ситуации водителю легкового автомобиля проехать перекресток разрешается:**

1. Только прямо или направо.
2. Только налево.
3. Только налево и в обратном направлении.
4. В любом направлении.

8.36 **Осуществить движение:**

1. Разрешается вам только налево, пешеходу — в направлении «А».
2. Разрешается вам во всех направлениях, пешеходу — только в направлении «Б».
3. Разрешается вам только прямо, пешеходу — запрещается.
4. Разрешается вам во всех направлениях, пешеходу — запрещается.
5. Вам запрещается, пешеходу разрешается в обоих показанных стрелками направлениях.

8.37 **В этой ситуации водителю легкового автомобиля движение:**

1. Разрешается.
2. Запрещается.

Мигающий сигнал бело-лунного цвета показывает, что:

1. Движение транспортных средств запрещается.
2. Сигнализация исправна и движение транспортных средств не запрещено.
3. Движение через переезд разрешено только по сигналу дежурного.

При выключении или неисправности трамвайных светофоров водители трамваев должны руководствоваться:

1. Требованиями правила «помеха справа».
2. Требованиями светофоров со световыми сигналами красного, желтого и зеленого цветов.

Какая последовательность размещения сигналов светофоров при горизонтальном их расположении?

1. Сигнал красного цвета — слева, зеленого — справа.
2. Сигнал красного цвета — справа, зеленого — слева.

Вопрос подобного содержания может быть поставлен вам на теоретическом экзамене в сервисном центре МВД Украины.

8.41 **Движение через перекресток:**

1. Разрешено только водителю трамвая.
2. Разрешено вам и водителю трамвая.
3. Разрешено только вам.
4. Запрещено всем.

8.42 **Осуществить движение:**

1. Разрешается только налево.
2. Разрешается налево или на разворот.
3. Запрещается.

8.43 **Сигнал в виде зеленой стрелки в дополнительной секции информирует водителей о том, что движение налево:**



1. Запрещается.
2. Разрешается лишь при включении зеленого сигнала в основной секции светофора.
3. Разрешается при условии беспрепятственного пропуска транспортных средств, движущихся с других направлений.

8.44 **В этой ситуации вам движение:**

1. Разрешается только налево.
2. Разрешается только направо.
3. Разрешается налево или направо.
4. Запрещается.

8.45 **О приближении к опасному участку дороги, характере опасности и необходимости принятия мер для безопасного проезда водителей информируют:**

1. Знаки сервиса.
2. Информационно-указательные знаки.
3. Предписывающие знаки.
4. Предупреждающие знаки.

8.46 **Желтый сигнал этого светофора:**



1. Указывает, что есть дополнительная полоса для движения в данном направлении.
2. Указывает на полосу, по которой движение запрещено.
3. Запрещает движение, информирует о смене сигнала реверсивного светофора и необходимости перестроения на полосу движения справа.

8.47 **Сигналами регулировщика являются:**

1. Только положение его корпуса и (или) жесты руками.
2. Положение его корпуса, а также жесты руками, в том числе с жезлом или диском с красным световозвращателем.
3. Только жесты руками с жезлом.

8.48 **Желтый сигнал светофора в этом случае движение:**

1. Разрешает и предупреждает о предстоящей смене сигналов.
2. Разрешает и информирует о предстоящем включении зеленого сигнала.
3. Запрещает и предупреждает о предстоящей смене сигналов.

8.49 **Движение через перекресток разрешается:**

1. Только водителю красного автомобиля.
2. Только водителю микроавтобуса.
3. Водителям обоих транспортных средств.

8.50 **В этой ситуации движение:**

1. Разрешается вам и водителю трамвая только направо.
2. Вам разрешается прямо или направо, водителю трамвая — только прямо.
3. Вам и водителю трамвая разрешается прямо или направо.
4. Вам и водителю трамвая запрещается.

Вопрос подобного содержания может быть поставлен вам на теоретическом экзамене в сервисном центре МВД Украины.

При работе светофора в режиме мигания желтого сигнала двигаться следует согласно правилам проезда:



1. Нерегулируемых перекрестков.
2. Регулируемых перекрестков.

Звуковой сигнал с мигающими красными сигналами изображенного светофора информируют участников дорожного движения о том, что:



1. Движение транспортных средств через переезд запрещено.
2. Сигнализация исправна и движение транспортных средств не запрещено.

8.53 **В этой ситуации вам движение:**

1. Разрешается только прямо или направо.
2. Разрешается только направо.
3. Разрешается налево или на разворот.
4. Запрещается.

8.54 **Сочетание красного и желтого сигналов светофора движение:**



1. Запрещает и информирует о предстоящем включении красного сигнала.
2. Запрещает и информирует о предстоящем включении зеленого сигнала.
3. Разрешает и информирует о предстоящем включении зеленого сигнала.

Водителю автомобиля движение через перекресток:

1. Разрешается только направо.
2. Разрешается только прямо или направо.
3. Запрещается.

8.56 **Светофор с двумя красными сигналами или одним белолунным и двумя красными применяется для регулирования движения:**

1. На перекрестках, где проезжая часть имеет не более двух полос для движения в каждом направлении.
2. На железнодорожных переездах.
3. На дорогах с реверсивной полосой.

В этой ситуации движение:

1. Разрешается вам и водителю трамвая во всех направлениях.
2. Разрешается вам и водителю трамвая только прямо.
3. Разрешается вам прямо или направо, водителю трамвая — только прямо.
4. Вам и водителю трамвая запрещается.

В этой ситуации вам движение:

1. Разрешается только прямо.
2. Разрешается направо или налево.
3. Разрешается только направо.
4. Запрещается.

8.59 **Преимущественное право на движение имеет водитель:**

1. Трамвая.
2. Зеленого автомобиля.
3. Красного автомобиля.

Каким транспортным средствам разрешено движение?

1. Только мотоциклу.
2. Только грузовому автомобилю.
3. Только грузовому и легковому автомобилям.
4. Всем транспортным средствам.

Вопрос подобного содержания может быть поставлен вам на теоретическом экзамене в сервисном центре МВД Украины.

8.61 Регулирование дорожного движения осуществляется:

1. Светофорами или дорожными знаками.
2. Разметкой или дорожным оборудованием.
3. Перечисленными выше средствами или регулировщиком.

8.62 В этой ситуации движение:

1. Разрешается вам и водителю трамвая только направо.
2. Вам разрешается прямо или направо, водителю трамвая — только направо.
3. Разрешается вам направо или налево, водителю трамвая — прямо или направо.
4. Вам и водителю трамвая запрещается.

8.63 В этой ситуации движение:



1. Разрешается вам и водителю трамвая только направо.
2. Разрешается вам и водителю трамвая только налево.
3. Разрешается вам только направо, водителю трамвая — только налево.
4. Запрещается вам и водителю трамвая.

8.64 Сигналами какого светофора должны руководствоваться водители трамваев?



1. Только первого.
2. Только второго.
3. Только первого, второго и третьего.
4. Только первого, второго и четвертого.
5. Всех изображенных.

8.65 Желтый мигающий сигнал светофора движение:



1. Разрешает и информирует о наличии опасного нерегулируемого перекрестка.
2. Запрещает и информирует о предстоящем включении зеленого сигнала.
3. Запрещает и информирует о предстоящем включении красного сигнала.

8.66 В этом случае вы должны:



1. Остановиться, перестроившись на правую полосу.
2. Остановить автомобиль перед дорожной разметкой «Стоп-линия».
3. Остановить автомобиль перед светофором.

8.67 Черные контурные стрелки на сигналах желтого и красного цвета светофора информируют о разрешенных направлениях движения при:

1. Включенном зеленом сигнале светофора.
2. Желтом и красном сигналах светофора и обязывают уступить дорогу транспортным средствам, движущимся с других направлений.

8.68 Въезд на полосу, обозначенную с обеих сторон двойной прерывистой дорожной разметкой, при выключенных сигналах реверсивного светофора, расположенного над этой полосой:

1. Запрещается.
2. Разрешается.
3. Разрешается только для выполнения опережения, если нет движущихся во встречном направлении транспортных средств.

8.69 В этой ситуации движение вам:

1. Разрешается только налево или на разворот.
2. Разрешается только направо.
3. Разрешается только прямо, налево или на разворот.
4. Разрешается во всех направлениях.
5. Запрещается.

8.70 В этом случае вам движение:

1. Разрешается только прямо.
2. Разрешается во всех направлениях.
3. Разрешается только налево.
4. Запрещается.

Вопрос подобного содержания может быть поставлен вам на теоретическом экзамене в сервисном центре МВД Украины.

Движение через переезд при мигающих только красных сигналах светофора:



1. Разрешается.
2. Запрещается.

В этой ситуации движение:



1. Вам разрешается только направо, пешеходу — только в направлении «А».
2. Вам разрешается только направо, пешеходу — только в направлении «Б».
3. Вам разрешается только направо, пешеходу — запрещается в обоих направлениях.
4. Вам запрещается, пешеходу разрешается в изображенных стрелками направлениях.

Движение налево разрешается:

1. Только вам.
2. Вам и водителю трамвая.
3. Только водителю трамвая.
4. Водителям всех транспортных средств, уступая дорогу находящимся справа.

Каким из изображенных светофоров обозначается опасный пешеходный переход?

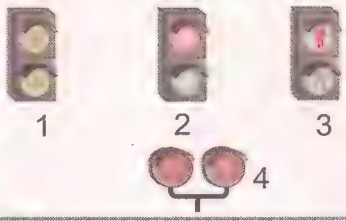

1. Первым.
2. Вторым.
3. Третьим.
4. Четвертым.
5. Первым или четвертым.

В этой ситуации движение:



1. Разрешается только водителю трамвая налево.
2. Разрешается водителю трамвая и вам направо.
3. Разрешается только водителю трамвая направо.
4. Запрещается вам и водителю трамвая.

При этих сигналах светофора преимущество в движении имеет:



1. Водитель микроавтобуса.
2. Водитель трамвая.

Если при включении желтого сигнала светофора вы не имеете возможности остановить автомобиль перед разметкой «Стоп-линия» без экстренного торможения, то:

1. Необходимо обязательно остановить его перед пересекаемой проезжей частью.
2. Разрешается двигаться дальше при условии обеспечения безопасности движения.
3. Разрешается двигаться дальше, включив аварийную сигнализацию.

В этой ситуации движение разрешается:



1. Вам и водителю трамвая только прямо.
2. Вам и водителю трамвая прямо или направо.
3. Вам прямо или направо, водителю трамвая — только прямо.
4. Вам во всех направлениях, водителю трамвая — прямо или направо.

Сигналом какого светофора в этой ситуации должен руководствоваться водитель?



1. Только установленного на въезде на перекресток.
2. Только установленного на выезде с перекрестка.
3. Каждого светофора.

Перед требованиями каких дорожных знаков сигналы регулировщика имеют преимущество?

1. Только приоритета.
2. Только информационно-указательных.
3. Только предупреждающих и предписывающих.
4. Всех перечисленных выше дорожных знаков.

Вопрос подобного содержания может быть поставлен вам на теоретическом экзамене в сервисном центре МВД Украины.

Движение разрешается вам и водителю:

1. Легкового автомобиля.
2. Микроавтобуса.
3. Грузового автомобиля.

Водителю какого транспортного средства в этом случае разрешается выполнить разворот?

1. Грузового автомобиля.
2. Микроавтобуса.
3. Мотоцикла.
4. Легкового автомобиля.

Движение по дороге:





1. Разрешается только в ситуации, изображенной на левом рисунке.
2. Разрешается только в ситуации, изображенной на правом рисунке.
3. Запрещается в обеих ситуациях.

При подаче светофором сигнала, запрещающего движение, водитель, подъезжая к перекрестку, где отсутствует разметка «Стоп-линия» или знак «Место остановки», должен остановить транспортное средство только:

1. Перед пересекаемой проезжей частью.
2. Перед светофором.
3. Не ближе 10 м до светофора.

В этой ситуации движение разрешается:

1. Вам и водителю трамвая во всех направлениях.
2. Вам и водителю трамвая только прямо или направо.
3. Вам во всех направлениях, водителю трамвая — только направо.
4. Вам и водителю трамвая только направо.

В этой ситуации вы должны:



1. Проехать вперед и остановиться после окончания сплошной желтой линии.
2. Остановить транспортное средство в указанном полицейским месте с соблюдением правил остановки.

Преимущество в движении имеет водитель:



1. Синего автомобиля.
2. Красного автомобиля.

Предупреждающие знаки применяются для информирования водителей о:



1. Приближении к опасному участку дороги и характере опасности.
2. Расположении участков дороги, где действуют специальные правила.
3. Приближении к участкам дороги, где вводятся определенные ограничения в движении.
4. Всем перечисленном выше.

В этом случае вам движение:

1. Разрешается только прямо.
2. Разрешается только направо.
3. Разрешается во всех направлениях.
4. Запрещается.

Имеют ли временные дорожные знаки, закрепленные на щите с желтым фоном, преимущество перед постоянными дорожными знаками и дорожной разметкой?

1. Имеют.
2. Не имеют.
3. Имеют только перед дорожными знаками.
4. Имеют только перед дорожной разметкой.

Вопрос подобного содержания может быть поставлен вам на теоретическом экзамене в сервисном центре МВД Украины.

8.91 **Водителю какого транспортного средства разрешается движение через перекресток?**

1. Только зеленого автомобиля.
2. Только синего автомобиля.
3. Только мотоцикла.
4. Обоих автомобилей.

8.92 **Подъезжая к перекрестку, вы:**

1. Можете проехать перекресток во всех направлениях.
2. Обязаны остановить автомобиль перед светофором.
3. Можете повернуть направо, пропустив пешеходов.

8.93 **Каким из изображенных светофоров регулируется движение на железнодорожном переезде?**

1. Первым.
2. Вторым.
3. Третьим.

8.94 **Водителю легкового автомобиля в этом случае выполнить поворот направо:**

1. Разрешается.
2. Запрещается.
3. Разрешается при отсутствии пешеходов на переходе.

В случае подачи регулировщиком сигнала, запрещающего движение, или включения запрещающего сигнала светофора водитель должен остановить транспортное средство:

1. Перед светофором или пешеходным переходом при отсутствии дорожной разметки «Стоп-линия» или знака «Место остановки».
2. Только перед дорожным знаком «Место остановки».
3. Только перед дорожной разметкой «Стоп-линия».
4. Перед всем перечисленным.

В этом случае вам движение:

1. Разрешается только прямо.
2. Разрешается во всех направлениях.
3. Разрешается только налево или на разворот.
4. Запрещается.

Преимущество в движении имеет водитель:

1. Мотоцикла.
2. Автомобиля.

8.98 **Для поворота направо в этом случае вы:**



1. Должны ожидать разрешающего сигнала светофора.
2. Должны уступить дорогу только мотоциклисту.
3. Должны уступить дорогу мотоциклисту и пешеходу.
4. Можете поворачивать, имея преимущество.

В этой ситуации движение:

1. Разрешается вам и водителю трамвая только направо.
2. Вам запрещается, водителю трамвая — разрешается только направо.
3. Вам и водителю трамвая запрещается.

При этом жесте регулировщика движение разрешается только:



1. Водителю встречного легкового автомобиля.
2. Вам.
3. Водителю грузового автомобиля.
4. Водителям встречного легкового автомобиля и грузового автомобиля.

Вопрос подобного содержания может быть поставлен вам на теоретическом экзамене в сервисном центре МВД Украины.

В этой ситуации движение:



1. Вам запрещается, пешеходам разрешается только в направлении «А».
2. Вам разрешается направо, пешеходам разрешается только в направлении «Б».
3. Вам запрещается, пешеходам разрешается в изображенных стрелками направлениях.
4. Запрещается вам и пешеходам.

Услышав команду остановиться, поданную при помощи громкоговорящего устройства полицейским, водитель обязан остановиться, двигаясь:

1. Только в населенном пункте.
2. Только вне населенного пункта.
3. В любом месте.

В этой ситуации вам движение:

1. Разрешается только прямо.
2. Разрешается во всех направлениях.
3. Разрешается налево или на разворот.
4. Запрещается.

В этой ситуации движение разрешается:



1. Вам и водителю трамвая только прямо или направо.
2. Вам и водителю трамвая только прямо или налево.
3. Вам прямо или направо, водителю трамвая — прямо или налево.
4. Вам прямо или налево, водителю трамвая — прямо или направо.

Информационно-указательные знаки:

1. Только вводят или отменяют определенный режим движения.
2. Только информируют участников движения о расположении населенных пунктов, различных объектов и территорий, где действуют специальные правила.
3. Применяются во всех перечисленных выше случаях.

Осуществить движение вам:



1. Разрешается только прямо.
2. Разрешается только прямо или направо.
3. Разрешается во всех направлениях.
4. Запрещается.

Красные мигающие сигналы светофора движение:



1. Разрешают.
2. Разрешают при условии соблюдения безопасности движения.
3. Запрещают.

Для поворота налево в этой ситуации вы должны:

1. Выполнять маневр, уступая дорогу встречным транспортным средствам.
2. Остановиться перед стоп-линией и ждать сигнала светофора, который разрешает этот маневр.

Преимущество в движении имеет водитель:

1. Легкового автомобиля.
2. Автобуса.

В этой ситуации вам движение:



1. Разрешается только налево.
2. Разрешается только налево или на разворот.
3. Разрешается во всех направлениях.
4. Запрещается.

Вопрос подобного содержания может быть поставлен вам на теоретическом экзамене в сервисном центре МВД Украины.

8.14 **В этой ситуации движение:**



1. Разрешается вам и водителю трамвая только направо или налево.
2. Разрешается вам и водителю трамвая во всех направлениях.
3. Вам разрешается во всех направлениях, водителю трамвая — запрещается.
4. Вам и водителю трамвая запрещается.

8.12 **Дополнительный сигнал реверсивного светофора в виде желтой стрелки движение транспортных средств по полосе, обозначенной с обеих сторон двойной прерывистой дорожной разметкой:**

1. Запрещает.
2. Разрешает.
3. Запрещает только грузовых автомобилей, тракторов, самоходных машин и механизмов.

8.11 **В этой ситуации движение:**



1. Вам запрещается, пешеходу разрешается только в направлении «А».
2. Вам запрещается, пешеходу разрешается только в направлении «Б».
3. Вам запрещается, пешеходу разрешается в изображенных стрелками направлениях.
4. Вам разрешается прямо или направо, пешеходу — запрещается.

8.14 **В этой ситуации вам движение:**

1. Разрешается только прямо.
2. Разрешается во всех направлениях.
3. Разрешается только налево или на разворот.
4. Запрещается.

8.15 **Вам и водителю встречного автомобиля движение разрешается:**

1. Во всех направлениях.
2. Только направо.
3. Только прямо или направо.
4. Только прямо.
5. Только налево или на разворот.

В этом случае движение:



1. Запрещается вам и водителю трамвая.
2. Разрешается вам и водителю трамвая во всех направлениях.
3. Разрешается водителю трамвая прямо, направо и налево, вам — запрещается.

В этой ситуации вам движение:



1. Разрешается только направо.
2. Разрешается только налево или направо.
3. Запрещается.

В этой ситуации вам движение направо:

1. Запрещено.
2. Разрешено при условии предоставления преимущества участникам дорожного движения, которые имеют преимущественное право на движение.

Каким транспортным средствам разрешается движение?

1. Только мотоциклу.
2. Только грузовому автомобилю.
3. Только грузовому и легковому автомобилям.
4. Всем транспортным средствам.

Знаки приоритета устанавливают очередность проезда:

1. Перекрестков, пересечений проезжих частей или узких участков дороги.
2. Только перекрестков и пересечений проезжих частей.
3. Только регулируемых перекрестков.
4. Только нерегулируемых перекрестков неравнозначных дорог.
5. Всех перечисленных выше мест.

Вопрос подобного содержания может быть поставлен вам на теоретическом экзамене в сервисном центре МВД Украины.

8.121 В этой ситуации движение:

1. Разрешается вам только направо, пешеходу — в направлении «А».
2. Разрешается вам только направо, пешеходу — в направлении «А» или «Б».
3. Вам запрещается, пешеходу — разрешается только в направлении «А».
4. Разрешается вам только направо, пешеходу — запрещается.
5. Вам и пешеходу запрещается.

8.122 В этой ситуации водителю легкового автомобиля движение разрешается:

1. Во всех направлениях.
2. Только прямо или направо.
3. Только направо.
4. Только прямо.

8.123 Регулировщик использует сигнал свистком для привлечения внимания:

1. Только водителей.
2. Только пешеходов.
3. Участников дорожного движения.

В этой ситуации движение:



1. Разрешается вам и водителю трамвая только прямо.
2. Разрешается вам во всех направлениях, водителю трамвая — только прямо.
3. Разрешается вам и водителю трамвая только налево.
4. Вам и водителю трамвая запрещается.

8.125 Каким транспортным средствам разрешается движение?

1. Только мотоциклу.
2. Только легковому автомобилю.
3. Только легковому автомобилю и мотоциклу.
4. Только мотоциклу и трамваю.
5. Всем транспортным средствам.

В этом случае движение:



1. Разрешается вам и водителю трамвая только направо.
2. Вам запрещается, водителю трамвая разрешается только направо.
3. Вам и водителю трамвая запрещается.

8.127 Звуковой сигнал на пешеходном переходе движение пешеходов:

1. Разрешает.
2. Запрещает.

В этом случае вам движение:



1. Разрешается только прямо.
2. Разрешается во всех направлениях.
3. Разрешается только прямо или направо.
4. Запрещается.

8.129 При этом сигнале регулировщика движение вам:

1. Разрешается только направо.
2. Разрешается только прямо или направо.
3. Разрешается налево или на разворот.
4. Запрещается.

В этой ситуации движение:

1. Разрешается вам и водителю трамвая только прямо или направо.
2. Разрешается вам прямо или направо, водителю трамвая — только прямо.
3. Разрешается вам и водителю трамвая во всех направлениях.
4. Вам и водителю трамвая запрещается.

Вопрос подобного содержания может быть поставлен вам на теоретическом экзамене в сервисном центре МВД Украины.

8.131 Этот сигнал светофора информирует о:

1. Наличии дополнительной полосы для движения в данном направлении.
2. Преимуществе при движении по указанной стрелкой полосе.
3. Смене сигнала реверсивного светофора и необходимости перестроения на полосу движения справа.
4. Всем перечисленном выше.

8.132 В этой ситуации движение:

1. Разрешается вам и водителю трамвая только направо.
2. Вам разрешается прямо или направо, водителю трамвая — только прямо.
3. Вам и водителю трамвая разрешается прямо или направо.
4. Вам и водителю трамвая запрещается.

8.133 Для проезда направо вы должны:



1. Остановить транспортное средство перед перекрестком и ожидать разрешающего сигнала регулировщика.
2. Занять крайнее правое положение и быть готовым пропустить пешеходов, переходящих проезжую часть за спиной регулировщика.

8.134 В этой ситуации движение:



1. Вам и водителю трамвая разрешено только прямо.
2. Вам и водителю трамвая разрешено во всех направлениях.
3. Вам разрешено во всех направлениях, водителю трамвая — запрещено.
4. Вам разрешено только прямо или направо, водителю трамвая — прямо или налево.

8.135 В этой ситуации движение:



1. Разрешается вам и водителю трамвая только направо.
2. Разрешается вам во всех направлениях, водителю трамвая — прямо или налево.
3. Разрешается водителю трамвая только налево, вам — запрещается.
4. Вам и водителю трамвая запрещается.

8.136 При включении зеленых сигналов изображенного светофора разворот:

1. Запрещается.
2. Разрешается во всех случаях.
3. Разрешается, если он не запрещен дорожными знаками.

8.137 При этом жесте регулировщика движение разрешается:

1. Только водителю легкового автомобиля.
2. Водителям легкового и грузового автомобилей.
3. Только водителю грузового автомобиля.
4. Только мотоциклисту.

8.138 В этой ситуации вам движение:

1. Разрешается только прямо.
2. Разрешается только направо.
3. Разрешается прямо и в обратном направлении.
4. Запрещается.

8.139 Запрещающие знаки:

1. Вводят или отменяют определенные режимы движения.
2. Вводят или отменяют определенные ограничения в движении.
3. Вводят или отменяют определенный порядок проезда участков дорог.

8.140 В этом случае вам движение:

1. Разрешается только прямо.
2. Разрешается прямо или направо.
3. Разрешается только направо.
4. Запрещается.

Вопрос подобного содержания может быть поставлен вам на теоретическом экзамене в сервисном центре МВД Украины.

Водителям каких транспортных средств разрешается движение направо?



1. Всех.
2. Только легкового автомобиля.
3. Только грузового автомобиля и велосипеда.

В этой ситуации движение:



1. Разрешается вам только направо, пешеходу — в направлении «Б».
2. Разрешается вам только направо, пешеходу — в направлении «А» или «Б».
3. Вам запрещается, пешеходу разрешается только в направлении «А».
4. Вам и пешеходу запрещается.

8.143 **Каким транспортным средствам в этом случае разрешается движение?**

1. Только трамваю и мотоциклисту.
2. Только мотоциклисту.
3. Только мотоциклисту и легковому автомобилю.
4. Трамваю, мотоциклисту и легковому автомобилю.

Если регулировщик рукой или жезлом указывает на транспортное средство, водитель:

1. Должен остановить транспортное средство в месте, на которое укажет регулировщик, с соблюдением правил остановки.
2. Обязан немедленно остановить транспортное средство и включить аварийную световую сигнализацию.
3. Снизить скорость и перестроиться для движения как можно ближе к правому краю проезжей части.

В этой ситуации вам движение:



1. Разрешается только прямо.
2. Разрешается только направо.
3. Разрешается прямо или направо.
4. Запрещается.

8.146 **В этой ситуации движение:**



1. Вам разрешается во всех направлениях, водителю трамвая — запрещается.
2. Вам разрешается только налево, водителю трамвая – направо или налево.
3. Вам разрешается во всех направлениях, водителю трамвая – только налево.
4. Вам и водителю трамвая разрешается во всех направлениях.

В этом случае вам движение:

1. Разрешается только налево.
2. Разрешается только прямо или налево.
3. Разрешается во всех направлениях.
4. Запрещается.

Сигнал в виде зеленой стрелки в дополнительной секции светофора, включенный вместе с зеленым сигналом основного светофора, информирует о том, что:

1. Движение разрешается, но необходимо уступить дорогу другим транспортным средствам.
2. Вы имеете преимущество в указанном стрелкой направлении движения перед водителями транспортных средств, движущихся с других направлений.
3. Движение в направлении стрелки запрещается.

При включении зеленого сигнала изображенного светофора разворот:



1. Запрещено.
2. Разрешено во всех случаях.
3. Разрешено, если он не запрещен дорожными знаками.

В этом случае выполнить разворот вам:

1. Разрешается.
2. Запрещается.

Вопрос подобного содержания может быть поставлен вам на теоретическом экзамене в сервисном центре МВД Украины.

В этой ситуации с нарушением Правил остановился водитель:

1. Легкового автомобиля.
2. Грузового автомобиля.

В этом случае вам движение:

1. Разрешается только налево.
2. Разрешается только налево или на разворот.
3. Разрешается во всех направлениях.
4. Запрещается.

При этих сигналах светофоров движение разрешается:

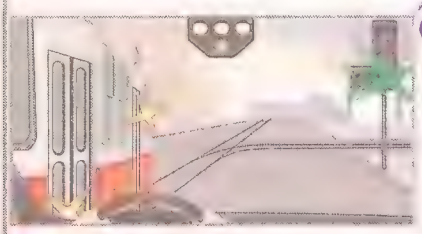

1. Только вам.
2. Вам и водителю трамвая.
3. Только водителю трамвая.

В этой ситуации движение:

1. Разрешается вам и водителю трамвая только прямо.
2. Разрешается вам и водителю трамвая прямо или направо.
3. Разрешается вам прямо или направо, водителю трамвая — только прямо.
4. Вам и водителю трамвая запрещается.

При этом жесте регулировщика вам:

1. Разрешается только поворот направо.
2. Разрешается движение прямо или направо.
3. Движение запрещено.

8.356 Предписывающие дорожные знаки:

1. Только показывают обязательные направления движения.
2. Только разрешают движение некоторым категориям его участников по отдельным участкам проезжей части.
3. Только вводят или отменяют некоторые ограничения в движении.
4. Обязывают выполнять предписания, изложенные во всех перечисленных выше ответах.
5. Обязывают выполнять предписания, изложенные в ответах 1 и 2.

Водитель какого автомобиля нарушает Правила, двигаясь в направлении изображенных на рисунке стрелок при выключенных сигналах реверсивного светофора?

1. Только легкового автомобиля.
2. Только мотоцикла.
3. Оба нарушают.

В этой ситуации вам движение:

1. Разрешается направо или налево.
2. Разрешается только направо.
3. Запрещается.

В этой ситуации движение:

1. Разрешается вам и водителю трамвая только прямо.
2. Вам и водителю трамвая запрещается.
3. Разрешается водителю трамвая только прямо, вам — запрещается.
4. Разрешается вам только налево, водителю трамвая — только прямо.

В этом случае вам движение:

1. Разрешается только прямо.
2. Разрешается только направо.
3. Запрещается.

Вопрос подобного содержания может быть поставлен вам на теоретическом экзамене в сервисном центре МВД Украины.

При регулировании движения светофором с сигналами бело-лунного цвета, расположенными в виде буквы «Т», движение трамваю разрешается только при включении одновременно:

1. Трех верхних сигналов.
2. Нижнего и одного или нескольких верхних сигналов.
3. Любого из верхних сигналов.

Движение пешеходов регулирует светофор:

1 2

1. Только первый.
2. Только второй.
3. Первый и второй.

В этой ситуации движение:



1. Разрешается вам во всех направлениях, водителю трамвая только налево.
2. Разрешается вам во всех направлениях, водителю трамвая — прямо или налево.
3. Разрешается вам только налево, водителю трамвая —прямо или налево.
4. Вам запрещается, водителю трамвая разрешается прямо или налево.

В этой ситуации вам движение разрешается:



1. Прямо, налево или на разворот.
2. Во всех направлениях.
3. Только налево или на разворот.

В этом случае вам движение:

1. Разрешается только направо.
2. Разрешается только прямо или направо.
3. Разрешается во всех направлениях.
4. Запрещается.

В этой ситуации движение:

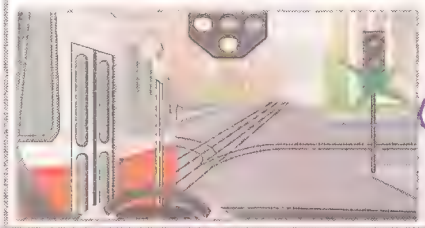

1. Вам разрешается во всех направлениях, водителю трамвая — запрещается.
2. Вам разрешается только направо, водителю трамвая — только налево.
3. Вам разрешается во всех направлениях, водителю трамвая — только налево.
4. Вам и водителю трамвая разрешено только налево.

В этом случае вам движение:



1. Разрешается только прямо.
2. Разрешается только направо.
3. Разрешается во всех направлениях.
4. Запрещается.

В этой ситуации вам движение:

1. Разрешается только направо.
2. Разрешается только направо или налево.
3. Разрешается налево или на разворот.
4. Запрещается.

В этом случае движение:

1. Разрешается вам и водителю трамвая только направо.
2. Вам запрещается, водителю трамвая разрешается только налево.
3. Вам разрешается только прямо, водителю трамвая — запрещается.
4. Вам и водителю трамвая запрещается.

Если регулировщик поднял руку вверх, то движение запрещено во всех направлениях:

1. Только транспортным средствам.
2. Транспортным средствам и пешеходам.
3. Только пешеходам.

Вопрос подобного содержания может быть поставлен вам на теоретическом экзамене в сервисном центре МВД Украины.

8.171 В этом случае вам движение:

1. Разрешается только налево.
2. Разрешается только направо.
3. Разрешается во всех направлениях.
4. Запрещается.

8.172 Движение через перекресток:

1. Разрешается только водителю трамвая.
2. Разрешается вам и водителю трамвая.
3. Разрешается только вам.
4. Запрещается всем.

8.173 Сигнал в виде зеленой стрелки в дополнительной секции, включенный вместе с желтым или красным сигналом светофора, информирует водителей о том, что:

1. Движение в направлении стрелки разрешается при условии беспрепятственного пропуска транспортных средств, движущихся с других направлений.
2. Они имеют преимущество в движении в направлении стрелки перед водителями транспортных средств, движущихся с других направлений.
3. Движение транспортных средств в направлении стрелки запрещается.

8.174 В этом случае вам движение:

1. Разрешается только прямо.
2. Разрешается прямо и направо.
3. Разрешается только направо.
4. Запрещается.

8.175 В этой ситуации движение:

1. Разрешается вам и водителю трамвая только прямо.
2. Вам запрещается, водителю трамвая — разрешается прямо или налево.
3. Разрешается вам и водителю трамвая только налево.

8.176 В этом случае вам движение:

1. Разрешается только прямо.
2. Разрешается налево или на разворот.
3. Разрешается только направо.
4. Запрещается.

8.177 В этой ситуации вам движение:

1. Разрешается только направо.
2. Разрешается только направо или налево.
3. Запрещается.

8.178 Если сигнал светофора имеет вид силуэта пешехода, то его действие распространяется:

1. Только на пешеходов.
2. На пешеходов и водителей велосипедов.
3. На пешеходов и водителей всех транспортных средств.

8.179 При включении красного сигнала изображенного светофора движение запрещается:



1. В один ряд.
2. По всей ширине проезжей части.
3. По полосе, над которой он расположен.

8.180 В этой ситуации движение разрешается:



1. Вам и водителю трамвая только налево.
2. Вам и водителю трамвая только прямо.
3. Вам во всех направлениях, водителю трамвая — только налево.
4. Водителю трамвая только прямо, вам – запрещается.

Вопрос подобного содержания может быть поставлен вам на теоретическом экзамене в сервисном центре МВД Украины.

Требование об остановке транспортного средства подается полицейским с помощью:

1. Только сигнального диска с красным сигналом или светоотражателем или руки, указывает на соответствующее транспортное средство и дальнейшее место его остановки.
2. Только включенного проблескового маячка синего и красного или только красного цвета и (или) специального звукового сигнала.
3. Только громкоговорящего устройства.
4. Только специального табло, на котором отмечается требование об остановке транспортного средства.
5. Любого из перечисленного выше.

В этой ситуации движение:

1. Разрешается вам и водителю трамвая только направо.
2. Вам запрещается, водителю трамвая разрешается только направо.
3. Вам разрешается прямо или направо, водителю трамвая — запрещается.
4. Вам и водителю трамвая запрещается

8.183 **Сигналами какого светофора должны руководствоваться велосипедисты?**

1

2

3

1. Только первого.
2. Только первого и второго.
3. Только третьего.
4. Всех изображенных.

В этой ситуации вы должны:

1. Остановиться с применением экстренного торможения.
2. Остановиться не далее 50 м от автомобиля полиции.
3. Остановить транспортное средство в указанном полицейским месте с соблюдением правил остановки.

К дорожному оборудованию, устанавливаемому на опасных участках дорог, относятся:

1. Только направляющие столбики.
2. Только дорожные ограждения.
3. Только пешеходные ограждения.
4. Все средства, перечисленные выше.

В этом случае вам движение:

1. Разрешается только направо.
2. Разрешается прямо или направо.
3. Запрещается.

В данной ситуации движение разрешено:

1. Вам и водителю трамвая только налево.
2. Вам и водителю трамвая прямо или налево.
3. Вам и водителю трамвая во всех направлениях.
4. Вам во всех направлениях, водителю трамвая — только налево.

В этой ситуации движение:



1. Разрешается только вам.
2. Разрешается только водителю трамвая.
3. Разрешается вам и водителю трамвая.
4. Запрещается вам и водителю трамвая.

8.189 **Сигнал светофора в виде зеленой стрелки, указывающей налево:**

1. Разрешает только поворот налево.
2. Запрещает поворот налево и разворот во всех случаях.
3. Разрешает поворот налево и разворот, если он не запрещен дорожными знаками.
4. Разрешает поворот налево и разворот только при включенном зеленом сигнале в основном светофоре.

В этом случае вам движение:

1. Разрешается только прямо или налево.
2. Разрешается только направо.
3. Разрешается только налево.
4. Разрешается во всех направлениях.
5. Запрещается.

Вопрос подобного содержания может быть поставлен вам на теоретическом экзамене в сервисном центре МВД Украины.

При включенных красных сигналах изображенного светофора движение транспортных средств через переезд:



1. Разрешается, если водитель убедится в отсутствии поезда.
2. Запрещается.

В этом случае движение разрешается:



1. Вам и водителю трамвая только налево.
2. Вам и водителю трамвая прямо или налево.
3. Вам и водителю трамвая во всех направлениях.
4. Вам во всех направлениях, водителю трамвая — только налево.

Мигающий зеленый сигнал светофора движение транспортных средств:

1. Разрешает, но информирует о том, что вскоре будет включен сигнал, запрещающий движение.
2. Запрещает и информирует о предстоящей смене сигнала.
3. Запрещает и информирует о наличии регулируемого пешеходного перехода на пересекаемой дороге.

В этой ситуации движение разрешено:



1. Вам только прямо, водителю трамвая — прямо или налево.
2. Вам и водителю трамвая только прямо.
3. Вам прямо или направо, водителю трамвая — прямо или налево.
4. Вам только прямо, водителю трамвая — только направо.

8:195 **В этой ситуации вам движение:**

1. Разрешается только налево или направо.
2. Разрешается только направо.
3. Запрещается.

8:196 **В этой ситуации вам движение:**



1. Разрешается только налево или направо.
2. Разрешается только направо.
3. Разрешается налево или на разворот.
4. Запрещается.

В этом случае вам движение:

1. Разрешается только прямо.
2. Разрешается только прямо или направо.
3. Разрешается только налево.
4. Запрещается.

Таблички к дорожным знакам уточняют или ограничивают действие дорожных знаков:

1. Тех, вместе с которыми они установлены.
2. Только предупреждающих или запрещающих.
3. Только знаков сервиса.

В этой ситуации вам движение:

1. Разрешается только налево.
2. Разрешается только направо.
3. Разрешается во всех направлениях.
4. Запрещается.

8:200 **В этой ситуации вам движение:**



1. Разрешается только прямо.
2. Разрешается только прямо или направо.
3. Разрешается только направо.
4. Запрещается.

Вопрос подобного содержания может быть поставлен вам на теоретическом экзамене в сервисном центре МВД Украины.

8.201 В этом случае вам движение:

1. Разрешается только направо.
2. Разрешается только налево или на разворот.
3. Разрешается только налево.
4. Запрещается.

В этом случае участники дорожного движения должны руководствоваться:



1. Сигналами светофора.
2. Сигналами регулировщика.

В этом случае вам движение:



1. Разрешается только прямо.
2. Разрешается налево или на разворот.
3. Разрешается только направо.
4. Запрещается.

В этой ситуации движение:

1. Разрешается вам и водителю трамвая только направо или налево.
2. Разрешается вам и водителю трамвая только направо.
3. Вам запрещается, водителю трамвая разрешается направо или налево.
4. Вам и водителю трамвая запрещается.

8.205 Как располагаются основные световые сигналы светофоров?

1. Только вертикально.
2. Только горизонтально.
3. Вертикально или горизонтально.

8.206 Выпуклое зеркало как дополнительное средство регулирования применяется для расширения обзорности:

1. Только на перекрестках с ограниченной обзорностью.
2. Только в местах с недостаточной обзорностью.
3. В обоих вышеперечисленных случаях.

В этой ситуации вам движение:

1. Разрешено, при условии предоставления пешеходу возможности завершить переход.
2. Запрещено, следует дождаться сигнала светофора, разрешающего движение.

8.208 Дорожная разметка используется с дорожными знаками:

1. Требования которых она подчеркивает или уточняет.
2. Требования которых отменяет.
3. Требования которых усиливает.
4. Во всех вышеперечисленных случаях.

В этой ситуации движение:



1. Вам и водителю трамвая разрешается только прямо.
2. Вам разрешается прямо, налево или на разворот, водителю трамвая — прямо или направо.
3. Вам и водителю трамвая разрешается только налево.
4. Вам запрещается, водителю трамвая разрешается только прямо.

8.210 В этой ситуации вам движение:



1. Разрешается только направо.
2. Разрешается только прямо или направо.
3. Разрешается во всех направлениях.
4. Запрещается.

Вопрос подобного содержания может быть поставлен вам на теоретическом экзамене в сервисном центре МВД Украины.

Во время проезда перекрестка в этом случае вы должны руководствоваться:



1. Только сигналами светофора.
2. Только знаками приоритета.
3. Обоими средствами организации движения.

В этой ситуации вам движение:

1. Разрешается только налево или направо.
2. Разрешается только направо.
3. Разрешается во всех направлениях.
4. Запрещается.

В этой ситуации движение:

1. Разрешается вам только направо, водителю трамвая — во всех направлениях.
2. Разрешается вам и водителю трамвая только направо.
3. Вам и водителю трамвая запрещается.

Мигающий бело-лунный сигнал светофора на железнодорожном переезде:

1. Предупреждает о приближении поезда.
2. Показывает, что сигнализация исправна и движение транспортных средств не запрещает.
3. Информирует о том, что начинает опускаться шлагбаум.
4. Запрещает движение транспортных средств через переезд.

В этом случае вам движение:

1. Разрешается только прямо или направо.
2. Разрешается только направо.
3. Разрешается во всех направлениях.
4. Запрещается.

Осуществить движение:

1. Вам и водителю трамвая разрешается только прямо.
2. Вам и водителю трамвая разрешается во всех направлениях.
3. Вам разрешается во всех направлениях, водителю трамвая — запрещается.
4. Вам разрешается только прямо или налево, водителю трамвая — запрещается.

Вертикальная разметка наносится на дорожных сооружениях и элементах оборудования дорог в виде полос:

1. Только черно-белого цвета.
2. Только красно-белого цвета.
3. Только черно-белого и красно-белого цвета.
4. Черно-белого, красно-белого и желтого цвета.

В этом случае вам движение:

1. Разрешается только прямо или направо.
2. Разрешается только направо.
3. Разрешается во всех направлениях.
4. Запрещается.

Зеленый сигнал этого светофора в виде направленной вниз стрелки:

1. Разрешает движение по полосе, над которой он расположен.
2. Запрещает движение по полосе, над которой он расположен.
3. Обязывает двигаться лишь по полосе, на которую указывает стрелка.

В этой ситуации движение:



1. Разрешается вам и водителю трамвая только направо.
2. Разрешается вам и водителю трамвая только прямо.
3. Разрешается вам прямо или направо, водителю трамвая — только прямо.
4. Запрещается вам и водителю трамвая.

Вопрос подобного содержания может быть поставлен вам на теоретическом экзамене в сервисном центре МВД Украины.

8.221 **В этом случае вам движение:**

1. Разрешается только налево.
2. Разрешается только направо.
3. Запрещается.

8.222 **Черные контурные стрелки на красном и желтом сигналах светофора:**

1. Не изменяют значения этих сигналов и информируют водителей о разрешенных направлениях движения при зеленом сигнале.
2. Разрешают движение транспортных средств в направлении стрелки при условии беспрепятственного пропуска транспортных средств, движущихся с других направлений.

8.223 **При этом жесте регулировщика движение в направлениях, показанных на рисунке стрелками, разрешается:**

1. Только водителю легкового автомобиля.
2. Только водителю мотоцикла.
3. Водителям обоих транспортных средств.

8.224 **В этой ситуации движение:**



1. Разрешается вам и водителю трамвая только прямо или налево.
2. Разрешается вам во всех направлениях, водителю трамвая — только налево.
3. Разрешается вам и водителю трамвая только налево.
4. Вам и водителю трамвая запрещается.

8.225 **В этом случае вам движение:**

1. Разрешается только прямо.
2. Разрешается только прямо или направо.
3. Разрешается только направо или налево.
4. Запрещается.

В этой ситуации движение:



1. Вам разрешается во всех направлениях, водителю трамвая — запрещается.
2. Вам разрешается только налево, водителю трамвая — направо или налево.
3. Вам разрешается во всех направлениях, водителю трамвая — только налево.
4. Вам и водителю трамвая разрешается во всех направлениях.

В этой ситуации вам движение:

1. Разрешается только направо.
2. Разрешается направо или налево.
3. Разрешается во всех направлениях.
4. Запрещается.

8.228 **Какие из перечисленных средств относятся к дорожному оборудованию?**

1. Только ограждения и световое сигнальное оборудование в местах дорожных работ.
2. Только предупреждающие световые тумбы на островках безопасности.
3. Средства, перечисленные выше, а также выпуклые зеркала.

В этом случае вам движение:

1. Разрешается только прямо.
2. Разрешается во всех направлениях.
3. Разрешается только налево.
4. Запрещается.

8.230 **В этом случае вам движение:**



1. Разрешается только направо.
2. Разрешается только налево или на разворот.
3. Разрешается только прямо, налево или на разворот.
4. Запрещается.

Вопрос подобного содержания может быть поставлен вам на теоретическом экзамене в сервисном центре МВД Украины.

Водители каких транспортных средств нарушают Правила, двигаясь с учетом включенных указателей поворотов?



1. Только синего автомобиля.
2. Трамвая и белого автомобиля.
3. Только мотоцикла.
4. Только белого автомобиля.
5. Трамвая и синего автомобиля.

При выключенных световых сигналах изображенного светофора, расположенного над полосой для реверсивного движения, въезд на нее:

1. Разрешается, если полоса расположена слева.
2. Запрещается.
3. Разрешается только для выполнения опережения.

В этом случае движение:

1. Разрешается вам и водителю трамвая только прямо.
2. Вам запрещается, водителю трамвая разрешается только прямо.
3. Разрешается водителю трамвая только налево, вам — запрещается.
4. Разрешается вам только налево, водителю трамвая — только прямо.

8.234 **В этом случае вам движение:**



1. Разрешается только направо или налево.
2. Разрешается только направо.
3. Запрещается.

8.235 **В этом случае вам движение:**



1. Разрешается только прямо.
2. Разрешается во всех направлениях.
3. Разрешается налево или на разворот.
4. Запрещается.

8.236 **Движение троллейбусов регулируется сигналами светофора:**

1. Только второго и третьего.
2. Только первого.
3. Второго, третьего и четвертого.
4. Только второго и четвертого.
5. Всех изображенных.

В какой последовательности располагаются сигналы светофоров с вертикальным расположением?

1. Сигнал красного цвета — снизу, зеленого — сверху.
2. Сигнал красного цвета — сверху, зеленого — снизу.

В этом случае вам движение:

1. Разрешается только направо.
2. Разрешается во всех направлениях.
3. Запрещается.

Движение разрешено водителю:

1. Только трамвая.
2. Только легкового автомобиля.
3. Только мотоцикла.
4. Трамвая и легкового автомобиля.
5. Всех транспортных средств.

В этой ситуации вам движение:

1. Разрешается только налево или направо.
2. Разрешается только направо.
3. Разрешается во всех направлениях.
4. Запрещается.

Вопрос подобного содержания может быть поставлен вам на теоретическом экзамене в сервисном центре МВД Украины.

8.242 В этой ситуации движение разрешается:

1. Вам и водителю трамвая только прямо или направо.
2. Вам и водителю трамвая только прямо.
3. Вам прямо или направо, водителю трамвая — только прямо.
4. Вам во всех направлениях, водителю трамвая — только прямо.

8.243 Горизонтальная дорожная разметка, нанесенная на проезжей части или по верху бордюра:



1. Устанавливает определенные режимы и порядок движения.
2. Отменяет или уточняет требования запрещающих дорожных знаков.
3. Информирует об опасном участке и режиме движения на нем.

8.244 Какой из направляющих столбиков обозначает внешний край правой обочины?



1. Изображенный слева.
2. Изображенный справа.

8.245 В этой ситуации движение разрешается:

1. Вам и водителю трамвая только прямо.
2. Вам прямо или направо, водителю трамвая — прямо или налево.
3. Вам прямо, водителю трамвая — только налево.
4. Вам и водителю трамвая прямо или направо.

8.246 Световые сигналы какого из изображенных светофоров разрешают движение трамвая?



1. Только верхнего.
2. Только нижнего.
3. Обоих.

8.247 В этом случае вам движение:



1. Разрешается только направо.
2. Разрешается только прямо или направо.
3. Разрешается только прямо.
4. Запрещается.

8.248 Какой сигнал реверсивного светофора разрешает движение по той полосе, над которой он установлен?



8.249 В этом случае вам движение направо:

1. Разрешается.
2. Запрещается.

8.250 Для поворота направо вы:

1. Должны дождаться разрешающего сигнала светофора.
2. Имеете преимущество в движении.
3. Должны уступить дорогу всем участникам движения.

Вопрос подобного содержания может быть поставлен вам на теоретическом экзамене в сервисном центре МВД Украины.

8.251 В этой ситуации движение:

1. Пешеходу разрешается только в направлении «А», вам — только направо.
2. Пешеходу разрешается только в направлении «Б», вам — запрещается.
3. Пешеходу разрешается в изображенных стрелками направлениях, вам — запрещается.
4. Вам и пешеходу запрещается.

8.252 В этом случае, поворачивая направо, вы должны:

1. Остановиться перед перекрестком и ожидать сигнал регулировщика, который разрешает движение.
2. Занять крайнее правое положение и быть готовым пропустить пешехода, переходящего проезжую часть перед грудью регулировщика.

Сочетание красного сигнала светофора со звуковым сигналом на железнодорожном переезде движение:

1. Запрещает.
2. Разрешает, но это предупреждает водителей о необходимости убедиться в отсутствии приближающегося поезда.
3. Разрешает, и водитель имеет преимущество в движении.

В этом случае вам движение:

1. Разрешается только прямо.
2. Разрешается во всех направлениях.
3. Разрешается только направо.
4. Запрещается.

Каким транспортным средствам разрешено движение?

1. Только мотоциклу.
2. Только микроавтобусу.
3. Только микроавтобусу и легковому автомобилю.
4. Всем транспортным средствам.

В этой ситуации вам движение:

1. Разрешается только прямо.
2. Разрешается налево или на разворот.
3. Запрещается.

В этом случае вам движение:

1. Разрешается только прямо или направо.
2. Разрешается только направо.
3. Разрешается во всех направлениях.
4. Запрещается.

8.258 Водителю трамвая в этом случае движение:

1. Разрешается.
2. Запрещается.

8.259 В этой ситуации движение:

1. Разрешается вам и водителю трамвая во всех направлениях.
2. Разрешается вам и водителю трамвая только прямо.
3. Вам и водителю трамвая запрещается во всех направлениях.

Контурная стрелка на основном зеленом сигнале светофора информирует о:

1. Наличии дополнительной секции и указывает направление, в котором разрешено движение при основном сигнале светофора.
2. Разрешенном направлении движения при включении сигнала дополнительной секции.

Вопрос подобного содержания может быть поставлен вам на теоретическом экзамене в сервисном центре МВД Украины.

8.261 **В этой ситуации вам движение:**

1. Разрешается только налево или направо.
2. Разрешается только направо.
3. Разрешается во всех направлениях.
4. Запрещается.

8.262 **В этой ситуации вам движение:**



1. Разрешается только прямо.
2. Разрешается только налево или на разворот.
3. Разрешается во всех направлениях.
4. Запрещается.

При появлении впереди вас патрульного автомобиля с включенным специальным табло вы обязаны:

1. Снизить скорость и двигаться в правой полосе как можно правее.
2. Остановиться с соблюдением правил остановки.

В этой ситуации движение разрешается:



1. Вам и водителю трамвая только прямо или направо.
2. Вам и водителю трамвая только прямо или налево.
3. Вам прямо или направо, водителю трамвая — прямо или налево.
4. Вам прямо, налево или на разворот, водителю трамвая — прямо или направо.

8.265 **Если светофор работает в режиме мигания желтого сигнала, в этой ситуации движение:**



1. Разрешается вам и водителю трамвая.
2. Разрешается вам, водителю трамвая — запрещается.
3. Вам и водителю трамвая запрещается.

Кому из водителей в этом случае разрешено движение?



1. Только мотоциклисту.
2. Только легкового автомобиля.
3. Только микроавтобуса.
4. Мотоциклисту и легкового автомобиля.
5. Всех транспортных средств.

Этот светофор информирует об:

1. Улице, дороге или полосе проезжей части, направление движения на которых может изменяться на противоположное.
2. Улице, дороге с полосой для движения маршрутных транспортных средств.

В этой ситуации движение:



1. Разрешается вам и водителю трамвая только направо.
2. Вам запрещается, водителю трамвая разрешается только направо.
3. Разрешается вам только направо, водителю трамвая — во всех направлениях.
4. Вам и водителю трамвая запрещается.

В этой ситуации движение разрешено:



1. Вам только направо, водителю трамвая — прямо или налево.
2. Вам и водителю трамвая только прямо.
3. Вам прямо или направо, водителю трамвая — прямо или налево.
4. Вам и водителю трамвая только направо.

В этой ситуации движение:

1. Разрешается вам и водителю трамвая прямо или налево.
2. Вам и водителю трамвая запрещается.
3. Разрешается водителю трамвая прямо или налево, вам — запрещается.
4. Разрешается вам только направо, водителю трамвая — прямо или налево.

Вопрос подобного содержания может быть поставлен вам на теоретическом экзамене в сервисном центре МВД Украины.

9. Предупреждающие сигналы

9.1 Водитель какого автомобиля нарушает Правила, двигаясь в условиях недостаточной видимости?



1. Только грузового автомобиля.
2. Только легкового автомобиля.
3. Обоих автомобилей.

9.2 Какие сигналы считаются предупреждающими?

1. Только подаваемые световыми указателями поворота или рукой.
2. Только звуковые сигналы и переключение света фар.
3. Только включение опознавательного знака автопоезда и проблескового маячка оранжевого цвета.
4. Любой вышеперечисленный сигнал.
5. Только перечисленные в ответах 1 и 2.

9.3 Водитель какого из транспортных средств подает предупреждающий сигнал о повороте налево?

1 2 3

1. Только 1.
2. Только 1 и 2.
3. Все подают.

9.4 В этой ситуации для привлечения внимания водителя грузового автомобиля при обгоне разрешается применять:

1. Только переключение света фар.
2. Только звуковой сигнал.
3. Переключение света фар и звуковой сигнал.

9.5 В каких случаях водитель обязан включать аварийную световую сигнализацию?

1. Только в случае причастности к дорожно-транспортному происшествию.
2. Только в случае ослепления водителя светом фар.
3. Только в случае вынужденной остановки на дороге.
4. Во всех перечисленных выше случаях.

9.6 На каком минимальном расстоянии до начала поворота вне населенного пункта должен быть подан предупреждающий сигнал?

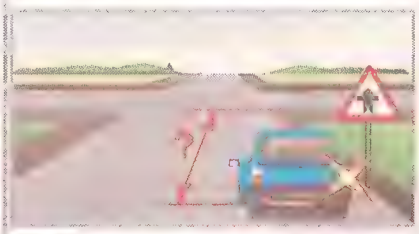

1. 50 – 100 м.
2. 100 – 150 м.
3. 150 – 200 м.
4. 200 – 250 м.

9.7 Если транспортное средство не оборудовано аварийной световой сигнализацией или она неисправна, то водитель обязан в случае вынужденной остановки установить:

1. Только знак аварийной остановки.
2. Только мигающий красный фонарь.
3. Знак аварийной остановки или мигающий красный фонарь.

9.8 В каком случае не требуется подача предупреждающего сигнала световыми указателями поворота или рукой?

1. Перед остановкой у края проезжей части.
2. Перед въездом на закругление дороги, обозначенным дорожным знаком «Опасный поворот направо» или «Опасный поворот налево».
3. Перед поворотом при съезде на площадку для отдыха.
4. Перед изменением направления движения.
5. Во всех перечисленных выше случаях.

9.9 Намереваясь развернуться, вы должны подать предупреждающий сигнал указателем поворота или рукой за:

1. 50–100 м до разворота.
2. 100–150 м до разворота.
3. 150–200 м до разворота.

9.10 В случае неисправности световых сигналов торможения водитель обязан подавать сигналы торможения:

1. Левой или правой рукой, поднятой вверх.
2. Правой рукой, вытянутой в сторону и согнутой в локте вверх.
3. Левой рукой, вытянутой в сторону и согнутой в локте вверх.

✻ Вопрос подобного содержания может быть поставлен вам на теоретическом экзамене в сервисном центре МВД Украины.

9.11 На каком минимальном расстоянии до механического транспортного средства вне населенного пункта должен быть выставлен знак аварийной остановки или мигающий красный фонарь?



1. 20 м.
2. 30 м.
3. 40 м.
4. 50 м.

9.12 В случае неисправности или отсутствия световых указателей поворота водитель транспортного средства обязан подавать сигнал поворота налево:

1. Только левой рукой, вытянутой в сторону.
2. Только правой рукой, вытянутой в сторону и согнутой в локте под прямым углом вверх.
3. Одним из перечисленных выше действий.

9.13 Разрешено ли вам во время движения вне населенного пукнкта применить звуковой сигнал для привлечения внимания водителя автомобиля, которого вы обгоняете?

1. Разрешается.
2. Запрещается.

9.14 Какими должны быть действия водителя автобуса при вынужденной остановке, если видимость дороги в одном из направлений менее 100 м?

1. Только включить аварийную световую сигнализацию.
2. Только установить знак аварийной остановки либо мигающий красный фонарь.
3. Выполнить оба действия.

9.15 При ослеплении водитель должен включить:



1. Ближний свет фар.
2. Аварийную световую сигнализацию.
3. Дальний свет фар.

9.16 Какие световые приборы должен включить водитель буксирующего грузового автомобиля при вынужденной остановке в этом случае?



1. Ближний свет фар.
2. Аварийную световую сигнализацию.

9.17 Двигаться в светлое время суток с включенным ближним светом фар должны:

1. Только грузовой автомобиль.
2. Только микроавтобус.
3. Только легковой автомобиль.
4. Только грузовой автомобиль и мотоцикл.
5. Все, кроме легкового автомобиля.

9.18 Во время остановки колонны на дороге:



1. Необходимо выставить сзади колонны знак аварийной остановки.
2. Включить аварийную сигнализацию на переднем и заднем автомобилях.
3. На всех автомобилях включить аварийную сигнализацию.

9.19 Водителю пользоваться дальним светом фар как предупреждающим сигналом:

1. Запрещается во всех случаях.
2. Запрещается только в условиях, когда это может привести к ослеплению других водителей.
3. Разрешается во всех случаях.

9.20 Намереваясь осуществить движение по кругу в обратном направлении, водитель должен включить указатель правого поворота:

1. Перед перекрестком.
2. После проезда третьего съезда с перекрестка.

Вопрос подобного содержания может быть поставлен вам на теоретическом экзамене в сервисном центре МВД Украины.

В случае неисправности или отсутствия световых указателей поворота водитель транспортного средства обязан подавать сигнал поворота направо:

1. Только правой рукой, вытянутой в сторону.
2. Только левой рукой, вытянутой в сторону и согнутой в локте под прямым углом вверх.
3. Одним из перечисленных выше действием.

Намереваясь остановиться через 20 м за перекрестком, вы включите указатель поворота:



1. За 50–100 м до места остановки.
2. Непосредственно перед перекрестком.
3. После проезда половины перекрестка.

Если на буксируемом транспортном средстве отсутствует или неисправна аварийная световая сигнализация, то оно должно быть обозначено знаком:

1 2 3 4

Какие световые приборы должен включить водитель легкового автомобиля во время его буксировки?

1. Ближний свет фар.
2. Аварийную световую сигнализацию.

Какие световые приборы должны быть включены в светлое время суток на механическом транспортном средстве при движении в колонне?

1. Габаритные фонари или противотуманные фары.
2. Ближний свет фар.
3. Аварийная световая сигнализация.
4. Дальний свет фар.

Вместе с включением аварийной световой сигнализации следует установить знак аварийной остановки либо мигающий красный фонарь:

1. Только в случае совершения дорожно-транспортного происшествия.
2. Только в случае вынужденной остановки в местах с ограниченной обзорностью дороги хотя бы в одном направлении менее 100 м.
3. Во всех перечисленных выше случаях.

На каком минимальном расстоянии до механического транспортного средства в населенном пункте должен быть выставлен знак аварийной остановки или мигающий красный фонарь?

1. 10 м.
2. 20 м.
3. 30 м.
4. 40 м.

Въехав в тоннель с искусственным освещением, вы должны включить:



1. Только габаритные огни.
2. Только аварийную сигнализацию.
3. Ближний свет фар.

Какую из перечисленных в ответах световую сигнализацию необходимо включить в светлое время суток на механических транспортных средствах во время буксировки?

1. Аварийную световую сигнализацию на обоих ТС.
2. Ближний свет фар на обоих ТС.
3. Ближний свет фар на буксирующем ТС и аварийную световую сигнализацию — на буксируемом.
4. Аварийную световую сигнализацию на буксирующем ТС и ближний свет фар — на буксируемом.

Дает ли водителю синего легкового автомобиля подача предупреждающего сигнала преимущество по отношению к водителю желтого автомобиля?



1. Дает.
2. Не дает.

Вопрос подобного содержания может быть поставлен вам на теоретическом экзамене в сервисном центре МВД Украины.

Подачу предупреждающего сигнала рукой в этом случае водителю следует закончить:



1. Непосредственно перед началом выполнения маневра.
2. За 25 м до начала выполнения маневра в населенном пункте.
3. За 50 м до начала выполнения маневра.

Если вас остановил полицейский, вы должны включить:

1. Стояночные огни.
2. Аварийную световую сигнализацию.
3. Выключить наружное освещение автомобиля.

В каких случаях при перевозке организованной группы детей на автобусе в светлое время суток должен быть включен ближний свет фар?

1. Только при движении в населенных пунктах.
2. Только при движении вне населенного пункта.
3. В обоих перечисленных случаях.

На каком минимальном расстоянии до начала поворота в населенном пункте должен быть подан предупреждающий сигнал?

1. 20 – 50 м.
2. 50 – 100 м.
3. 100 – 150 м.
4. 150 – 200 м.

В каких местах Правилами запрещается подача звукового сигнала?

1. На дорогах вне населенных пунктов, кроме случаев привлечения внимания водителя обгоняемого транспортного средства.
2. В населенных пунктах, кроме случаев, когда без этого невозможно предотвратить дорожно-транспортное происшествие.
3. В обоих перечисленных местах.

Кто из водителей в этом случае должен включить аварийную световую сигнализацию?

1. Только водитель легкового автомобиля.
2. Только водитель микроавтобуса.
3. Оба водителя.

На транспортном средстве, обозначенном опознавательным знаком «Дети» и перевозящем организованную группу детей, аварийная световая сигнализация должна быть включена:

1. Только во время посадки детей.
2. Только во время высадки детей.
3. Только во время движения транспортного средства.
4. Во всех перечисленных выше случаях.
5. В случаях, перечисленных в ответах 1 и 2.

При неисправных световых указателях поворота поворот направо подается:

1. Левой рукой, вытянутой в сторону и согнутой в локте под прямым углом.
2. Правой рукой, вытянутой в сторону и согнутой в локте под прямым углом.
3. Левой или правой рукой, поднятой вверх.

С 1 октября по 1 мая на всех механических транспортных средствах должны быть включены дневные ходовые огни, а в случае их отсутствия в конструкции транспортного средства — ближний свет фар при движении:

1. Только вне населенных пунктов.
2. Только в населенных пунктах.
3. Как в населенных пунктах, так и вне их.

Дневные ходовые огни, а в случае их отсутствия в конструкции транспортного средства — ближний свет фар должны быть включены на всех механических транспортных средствах во время движения вне населенных пунктов:

1. С 1 мая по 1 октября.
2. С 1 октября по 1 мая.
3. Во все времена года.

Вопрос подобного содержания может быть поставлен вам на теоретическом экзамене в сервисном центре МВД Украины.

9.42 **Знак аварийной остановки на движущемся грузовом автомобиле информирует вас о:**

1. Том, что грузовой автомобиль буксируется.
2. Движении грузового автомобиля с техническими неисправностями.
3. Одном из приведенных выше.

9.43 **Водитель транспортного средства обязан подавать сигналы световыми указателями поворота:**

1. Только перед началом движения.
2. Только перед перестроением.
3. Только перед поворотом или разворотом.
4. Во всех вышеперечисленных случаях.

9.44 **Разрешается ли в этом случае водителю грузового автомобиля применить звуковой сигнал для привлечения внимания водителя обгоняемого легкового автомобиля?**

1. Разрешается.
2. Запрещается.

9.45 **Что из перечисленного в ответах должен предпринять водитель легкового автомобиля в этом случае?**

1. Включить аварийную световую сигнализацию.
2. Только выставить знак аварийной остановки.
3. Только включить габаритные фонари.
4. Выполнить все вышеперечисленные действия.
5. Выполнить действия, перечисленные в ответах 1 и 2.

9.46 **В каких случаях водитель должен подавать предупреждающий сигнал перед остановкой?**

1. Только в случае, если за ним движется другое транспортное средство.
2. Только в населенных пунктах.
3. Только в темное время суток и в условиях недостаточной видимости.
4. В любом случае, кроме тех, если он может быть непонятным для других участников дорожного движения.

9.47 **При совершении дорожно-транспортного происшествия водители должны:**

1. Только включить аварийную световую сигнализацию.
2. Только выставить знаки аварийной остановки.
3. Выполнить оба вышеперечисленные действия.

9.48 **Каким образом следует обозначить транспортное средство с технической неисправностью, если такое движение разрешено Правилами?**

1. Включением ближнего света фар.
2. Включением аварийной световой сигнализации.
3. Включением габаритных (стояночных) огней.
4. Включением любых из перечисленных выше световых приборов.

9.49 **Должен ли водитель маршрутного автобуса а этом случае подавать предупреждающий сигнал начала движения?**

1. Должен.
2. Не должен.
3. Должен только в случае наличия сзади транспортных средств.

9.50 **В светлое время суток ближний свет фар должен быть включен:**



1. Только на маршрутном автобусе.
2. Только на грузовом автомобиле, перевозящем опасный груз.
3. На маршрутном автобусе и грузовом автомобиле.
4. Только на легковом автомобиле.

9.51 **Какой предупреждающий сигнал должен быть включен на маршрутном автобусе в этом случае?**

1. Габаритные фонари или противотуманные фары.
2. Ближний свет фар.
3. Аварийная световая сигнализация.

✻ Вопрос подобного содержания может быть поставлен вам на теоретическом экзамене в сервисном центре МВД Украины.

10. Начало движения и изменение его направления

10.1 По какой траектории вам разрешается развернуться?



1. Только по «А».
2. Только по «Б».
3. Только по «В».
4. По «А» или «В».
5. По любой.

10.2 Подъехать задним ходом к пешеходу, который стоит возле пешеходного перехода, водителю автомобиля:

1. Запрещено.
2. Разрешено.

10.3 По какой из изображенных на рисунке траекторий разрешается водителю выполнить разворот?

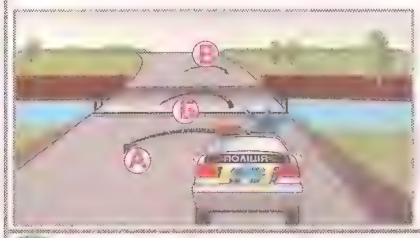

1. Только по «А».
2. Только по «Б».
3. Только по «В».
4. По «А» или «В».
5. По любой.

10.4 Водитель какого транспортного средства правильно занял положение на проезжей части перед перекрестком для разворота?

1. Только мотоцикла.
2. Только грузового автомобиля.
3. Обоих транспортных средств правильно.
4. Обоих транспортных средств неправильно.

10.5 Выезжая на дорогу, в этом случае вы:

1. Имеете преимущество в движении перед водителем красного легкового автомобиля.
2. Должны уступить дорогу транспортным средствам, движущимся по этой дороге.

10.6 Выезжая со двора, водитель легкового автомобиля должен:

1. Остановить автомобиль у края проезжей части, уступая дорогу только мотоциклисту.
2. Остановить автомобиль перед тротуаром, уступая дорогу пешеходу и мотоциклисту.

10.7 По какой из показанных траекторий Правила разрешают выполнить поворот?



1. Только по «А».
2. Только по «Б».
3. Только по «В».
4. Только по «А» и «Б».
5. По всех.

10.8 При одновременном перестроении преимущество в движении имеет водитель:

1. Мотоцикла.
2. Автомобиля.

10.9 По какой траектории водителю легкового автомобиля разрешается выполнить разворот?



1. Только по «В».
2. По «А» и «В».
3. Только по «А».
4. По любой.

10.10 Согласно Правилам перед поворотом направо, налево или разворотом водитель должен занять соответствующее крайнее положение на проезжей части, предназначенной для движения в этом направлении:

1. Не менее чем за 100 м.
2. Не менее чем за 50 м.
3. Заблаговременно.

Вопрос подобного содержания может быть поставлен вам на теоретическом экзамене в сервисном центре МВД Украины.

Движение задним ходом запрещено:

1. Только на въездах в тоннель.
2. Только на выездах из тоннеля.
3. Только в тоннеле.
4. Во всех вышеперечисленных местах.

10.12 Водитель какого транспортного средства имеет преимущество в движении на перекрестке?



1. Водитель грузового автомобиля.
2. Водитель автомобиля пожарной службы.

По какой траектории вам следует выполнять поворот налево?

1. Только по «А».
2. Только по «Б».
3. По любой.

По какой из изображенных на рисунке траекторий разрешается водителю этого автомобиля разворот?



1. Только по «А».
2. Только по «Б».
3. По любой.

Разрешается ли водителю транспортного средства выполнить разворот в технологическом разрыве разделительной полосы автомагистрали?

1. Разрешается при соблюдении условий безопасности дорожного движения.
2. Запрещается.
3. Разрешается при видимости дороги более 300 м.

Повернуть в левую полосу движения при выезде с перекрестка водителю желтого автомобиля:



1. Разрешено.
2. Запрещено.

10.17 Должен ли водитель синего автомобиля при развороте уступить вам дорогу, если вы выполняете обгон?

1. Должен.
2. Не должен.

По какой траектории водителю легкового автомобиля разрешается выполнить разворот?

1. Только по «Б».
2. По «А» и «Б».
3. Только по «А».
4. На изображенном перекрестке разворот запрещен.

Водитель транспортного средства перед началом движения и каким-либо изменением его направления должен:

1. Убедиться, что это будет безопасным и не создаст препятствий или опасности другим участникам дорожного движения.
2. Только подать сигнал световыми указателями поворота.
3. Только подать звуковой сигнал.
4. Подать любой сигнал, перечисленный в ответах 2 и 3.

10.20 При одновременном перестроении этих транспортных средств преимущество в движении имеет водитель:

1. Белого автомобиля.
2. Зеленого автомобиля.

Вопрос подобного содержания может быть поставлен вам на теоретическом экзамене в сервисном центре МВД Украины.

При выполнении разворота водитель грузового автомобиля должен уступить дорогу:

1. Только легковому автомобилю.
2. Только автомобилю скорой медицинской помощи.
3. Обоим автомобилям.

По какой из показанных траекторий вам следует выезжать на дорогу?



1. Только по «А».
2. Только по «Б».
3. По любой из показанных.

Двигаться задним ходом в таких дорожных условиях:

1. Разрешено при включенных задних противотуманных фонарях.
2. Запрещено.

При повороте направо транспортное средство должно двигаться:

1. Не ближе одного метра до правого края проезжей части.
2. Ближе к правому краю проезжей части.
3. По любой полосе, не создавая препятствий другим участникам дорожного движения.

Должен ли водитель грузового автомобиля при перестроении уступить дорогу легковому автомобилю?

1. Должен.
2. Не должен.

Преимущество в движении имеет:

1. Водитель автомобиля «А».
2. Водитель автомобиля «Б».

Как необходимо поступить водителю в случае, если нет возможности самостоятельно обеспечить безопасность дорожного движения при движении автомобиля задним ходом?

1. Периодически подавать звуковой сигнал.
2. Прибегнуть к помощи других лиц.
3. Только прекратить движение.

Разрешается ли водителю легкового автомобиля развернуться в этом месте?

1. Разрешается.
2. Запрещается.

При выполнении поворота налево или разворота вне перекрестка водитель автомобиля:

1. Должен уступить дорогу трамваю встречного направления.
2. Должен уступить дорогу трамваю попутного направления.
3. Должен уступить дорогу обоим трамваям.
4. Имеет преимущество в движении.

Разрешено ли водителю красного автомобиля повернуть направо из этого положения?



1. Разрешено.
2. Запрещено

Вопрос подобного содержания может быть поставлен вам на теоретическом экзамене в сервисном центре МВД Украины.

Движение транспортных средств задним ходом на дорогах с односторонним движением:

1. Запрещено только в населенных пунктах.
2. Запрещено только вне населенных пунктов.
3. Разрешено при невозможности подъехать к объекту иным образом и если не создаются опасности или препятствия другим участникам движения.

Если в месте съезда с дороги имеется полоса торможения, то водитель, который намеревается повернуть на другую дорогу, должен снижать скорость:

1. Не далее чем за 100 м до начала полосы.
2. Не далее чем за 50 м до начала полосы.
3. Только на этой полосе.

Водитель какого транспортного средства правильно проезжает перекресток с круговым движением?

1. Только легкового автомобиля.
2. Только автобуса.
3. Обоих транспортных средств неправильно.
4. Обоих транспортных средств правильно.

Поворачивая направо на примыкающую территорию, вы:

1. Имеете преимущество перед велосипедистом.
2. Должны уступить дорогу велосипедисту.

Разрешается ли водителю автопоезда в этой ситуации повернуть направо?



1. Разрешается.
2. Запрещается.

В каком случае водитель транспортного средства должен уступить дорогу другому транспортному средству при перестроении?

1. Если транспортное средство движется в попутном направлении по той полосе, на которую он намерен перестроиться.
2. Только в случае, если транспортное средство движется в попутном направлении справа.
3. Только в случае, если транспортное средство движется в попутном направлении слева.

Водитель какого транспортного средства правильно выполняет поворот направо?



1. Легкового автомобиля.
2. Мотоцикла.
3. Обоих транспортных средств правильно.
4. Обоих транспортных средств неправильно.

В этой ситуации преимущество в движении принадлежит:

1. Вам.
2. Водителю грузового автомобиля.

Согласно требованиям Правил поворот налево необходимо выполнять так, чтобы при выезде с пересечения проезжих частей транспортное средство не оказалось на:

1. Крайней левой полосе движения.
2. Полосе встречного движения.
3. Обочине, полосе торможения или разгона.
4. В местах, указанных в ответах 1 и 2.

В каких из перечисленных в ответах случаях водителю транспортного средства запрещается Правилами выполнить разворот?

1. Только от места установки знака «Тоннель» до въезда в тоннель.
2. Только за 50 м от въезда в тоннель.
3. Только в тоннеле.

Вопрос подобного содержания может быть поставлен вам на теоретическом экзамене в сервисном центре МВД Украины.

Водитель какого транспортного средства нарушает Правила, поворачивая налево?

1. Только мотоцикла.
2. Только грузового автомобиля.
3. Обоих нарушают.
4. Обоих не нарушают.

На этом участке дороги движение задним ходом запрещается:

1. Только водителю легкового автомобиля.
2. Только водителю грузового автомобиля.
3. Водителям обоих автомобилей.

В каких случаях водителю транспортного средства запрещается Правилами выполнить разворот?

1. Только при видимости дороги менее 100 м в каждом направлении.
2. Только при видимости дороги менее 100 м хотя бы в одном направлении.
3. Только при видимости дороги менее 100 м в направлении по ходу движения.

Во время съезда с дороги во двор, на стоянку, автозаправочную станцию и другие примыкающие территории водитель транспортного средства должен уступить дорогу:

1. Только транспортным средствам, выезжающим на дорогу.
2. Пешеходам и велосипедистам, направление движения которых он пересекает.
3. Всем перечисленным выше категориям участников дорожного движения.

При движении с одинаковой скоростью преимущество на этом участке дороги имеет водитель:

1. Легкового автомобиля.
2. Мотоцикла.

На этих участках дорог разворот запрещается:

1. Только водителю автобуса.
2. Только водителю легкового автомобиля.
3. Водителям обоих автомобилей.

В каком из перечисленных в ответах случае водитель транспортного средства может выполнить разворот от правого края проезжей части или с правой обочины?

1. Если габариты транспортного средства не позволяют выполнить разворот из крайнего левого положения.
2. В любом случае на регулируемом перекрестке.
3. В любом случае на нерегулируемом перекрестке, если транспортное средство находится на главной дороге.
4. Если это запрещено из крайнего левого положения.

Во время движения задним ходом водитель не должен:

1. Пользоваться зеркалами заднего вида.
2. Создавать препятствия или опасность другим участникам движения.
3. Пользоваться помощью посторонних лиц.
4. Подавать звуковой сигнал.

Разрешается ли мотоциклисту развернуться на перекрестке этой дороги?

1. Разрешается.
2. Запрещается.

Водитель какого транспортного средства имеет преимущество при выполнении поворота направо в этом случае?

1. Грузового автомобиля.
2. Кареты скорой медицинской помощи.

Вопрос подобного содержания может быть поставлен вам на теоретическом экзамене в сервисном центре МВД Украины.

В каких из перечисленных в ответах местах разрешается движение транспортного средства задним ходом?

1. На перекрестках.
2. На мостах.
3. На путепроводах.
4. На автомагистралях.
5. В жилой зоне.

На каком из перечисленных в ответах железнодорожном переезде водителю запрещается выполнить разворот?

1. Только со шлагбаумом.
2. Только без шлагбаума.
3. Только на многопутном.
4. Только на однопутном.
5. На любом из перечисленных.

Разрешается ли вам выполнить разворот в обозначенном стрелкой месте?



1. Разрешается.
2. Запрещается.

Водитель какого транспортного средства должен уступить дорогу?

1. Мотоцикла.
2. Легкового автомобиля.

По какой траектории разрешается водителю мотоцикла выполнить разворот?



1. Только по «А».
2. Только по «А» и «Б».
3. Только по «В».
4. Только по «А» и «В».
5. По любой.

При видимости дороги 70 м по ходу движения разворот в направлении стрелки водителю автомобиля:

1. Разрешается.
2. Запрещается.

10.37 **По какой из показанных траекторий следует съезжать с дороги?**



1. Только по «А».
2. Только по «Б».
3. По любой из показанных.

10.38 **По какой траектории разрешается выполнить поворот направо?**

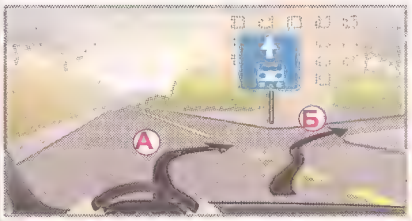

1. Только по «А».
2. По «А» и «Б».
3. Только по «Б».

В случае необходимости для обеспечения безопасности дорожного движения при выполнении разворота не из крайнего положения следует:

1. Проехать вперед и найти безопасное место для выполнения разворота.
2. Обратиться за помощью к другим лицам.

Водитель, выполняющий поворот налево или разворот из крайнего правого положения вне перекрестка, должен уступить дорогу транспортным средствам, движущимся:

1. Только во встречном направлении.
2. Только во встречном направлении и выполняющим обгон.
3. Во встречном и попутном направлениях.

Вопрос подобного содержания может быть поставлен вам на теоретическом экзамене в сервисном центре МВД Украины.

10.61 **Правильно ли водитель автопоезда занял положение на проезжей части для разворота?**

1. Правильно.
2. Неправильно.

10.62 **В каких из перечисленных в ответах местах водителю запрещается выполнять разворот?**

1. Ближе 10 м от перекрестков.
2. На нерегулируемых перекрестках, если на пересекаемой дороге организовано одностороннее движение.
3. На пешеходных переходах и ближе 10 м от них.
4. Во всех перечисленных выше местах.

Водитель какого транспортного средства правильно занял положение на проезжей части перед перекрестком для движения налево?

1. Только легкового автомобиля.
2. Только автобуса.
3. Обоих транспортных средств.

Если траектории движения транспортных средств пересекаются, а очередность проезда не обусловлена Правилами дорожного движения, то уступить дорогу должен водитель, к которому транспортное средство приближается:

1. С левой стороны.
2. С правой стороны.

Намереваясь повернуть налево, должны ли вы дать возможность движущемуся впереди автомобилю выполнить разворот?

1. Должны.
2. Не должны.

В этой ситуации, двигаясь в указанных стрелками направлениях, преимущество в движении при проезде перекрестка принадлежит водителю:

1. Синего автомобиля.
2. Красного автомобиля.

Так как не занял крайнюю полосу

10.63 **В этой ситуации преимущество в движении принадлежит водителю:**



1. Микроавтобуса.
2. Легкового автомобиля.

В этой ситуации, двигаясь в указанных стрелками направлениях, преимущество в движении при проезде перекрестка принадлежит водителю:

1. Легкового автомобиля.
2. Мотоцикла.

Выполняя поворот направо, Правила:



1. Нарушает водитель красного автомобиля.
2. Нарушает водитель желтого автомобиля.
3. Водители обоих автомобилей не нарушают.

Должен ли водитель легкового автомобиля уступить дорогу грузовому автомобилю, если он намерен перестроиться на правую полосу?



1. Должен.
2. Не должен.

Вопрос подобного содержания может быть поставлен вам на теоретическом экзамене в сервисном центре МВД Украины.

10.71 **При наличии трамвайной колеи посредине проезжей части водитель, выполняющий поворот налево или разворот вне перекрестка, должен уступить дорогу трамваю:**

1. Только встречного направления.
2. Только попутного направления.
3. Движущемуся как во встречном, так и в попутном направлениях.

10.72 **В чем должен убедиться водитель перед перестроением во время движения по дороге?**

1. Только в том, что это будет безопасным.
2. Только в том, что это не создаст препятствий или опасности другим участникам дорожного движения.
3. Во всем перечисленном в ответах 1 и 2.

10.73 **Должен ли мотоциклист уступать дорогу легковому автомобилю?**



1. Должен.
2. Не должен.

10.74 ✻ **На каких железнодорожных переездах запрещено движение задним ходом?**

1. Только на регулируемых.
2. Только на нерегулируемых.
3. На всех.

10.75 ✻ **Двигаясь задним ходом, Правила нарушаются водителем:**

1. Автомобиля.
2. Микроавтобуса.
3. Обоих транспортных средств.

10.76 **По какой траектории мотоциклисту разрешается выполнить разворот?**

1. Только по «А».
2. Только по «Б».
3. Только по «В».
4. По «А» или «В».
5. По любой.

10.77 ✻ **Выехать с перекрестка одновременно с грузовым автомобилем водителю легкового автомобиля:**

1. Разрешено.
2. Запрещено

10.78 **На этих участках дорог движение задним ходом запрещается:**

1. Только водителю легкового автомобиля.
2. Только водителю грузового автомобиля.
3. Водителям обоих автомобилей.

10.79 ✻ **Если в месте въезда на дорогу имеется полоса разгона, то водитель, осуществляя движение по ней, должен вливаться в транспортный поток:**

1. С преимуществом перед водителями транспортных средств, движущихся по этой дороге.
2. Уступая дорогу транспортным средствам, движущимся по этой дороге.

10.80 **В каких случаях водителю транспортного средства запрещается Правилами выполнить разворот на мосту?**

1. Только в случае, если ширина моста менее 9 м.
2. Только в случае, если смежные проезжие части разделены трамвайной линией.
3. Только если посредине проезжей части нанесена сплошная линия дорожной разметки.
4. В любых, в том числе во всех перечисленных случаях.

✻ Вопрос подобного содержания может быть поставлен вам на теоретическом экзамене в сервисном центре МВД Украины.

11. Расположение транспортных средств на дороге

11.1 Разрешается ли водителю легкового автомобиля вести его так, как показано на рисунке?

1. Разрешается.
2. Не разрешается.

11.2 Разрешается ли водителю трактора выехать на левую полосу при скорости движения мопеда 20 км/ч?

1. Разрешается.
2. Запрещается.

11.3 На дорогах, имеющих две и более полос для движения в одном направлении, при отсутствии других транспортных средств водители нерельсовых транспортных средств могут двигаться левее крайней правой полосы движения при выполнении:



1. Только опережения.
2. Только объезда.
3. Только перестроения перед поворотом налево или разворотом.
4. Любого из вышеперечисленных маневров.

11.4 Разрешается ли велосипедисту выполнить поворот налево на этом перекрестке?



1. Разрешается.
2. Запрещается.

11.5 В каких случаях водителям транспортных средств разрешается выезд на полосу встречного движения на дороге, которая имеет по одной полосе для движения в каждом направлении и не разделена сплошной линией дорожной разметки?

1. Только во время обгона.
2. Только для остановки или стоянки на левой стороне дороги в разрешенных случаях.
3. Только при объезде транспортного средства или другого препятствия.
4. Во всех перечисленных выше случаях.

11.6 Разрешается ли водителю легкового автомобиля выполнить объезд стоящего на остановке трамвая с выездом на трамвайный путь попутного направления?

1. Разрешается, если посадка и высадка осуществляются с проезжей части.
2. Запрещается.
3. Разрешается, при отсутствии трамвая попутного направления.

11.7 В каких случаях при движении в населенных пунктах водителю грузового автомобиля с разрешенной максимальной массой свыше 3,5 т разрешается выезжать на крайнюю левую полосу дороги с односторонним движением, имеющей по меньшей мере три полосы для движения?

1. Только для остановки у левого края дороги в разрешенных случаях с целью погрузки или разгрузки груза.
2. Только для поворота налево.
3. Только для опережения.
4. Во всех перечисленных выше случаях.
5. В случаях, перечисленных в ответах 1 и 2.

11.8 В каком из перечисленных в ответах случае водитель автобуса после выполнения опережения обязан занять правую полосу?

1. Только при движении вне населенного пункта.
2. Только при движении в населенном пункте.
3. Во всех случаях, если правая полоса свободна от транспорта на безопасной дистанции.

11.9 Нарушает ли водитель синего легкового автомобиля Правила, опережая красный автомобиль по трамвайному пути?

1. Нарушает.
2. Не нарушает.

11.10 По какой из траекторий разрешено движение велосипедисту?



1. Только по «А».
2. По «А» или «Б».

Вопрос подобного содержания может быть поставлен вам на теоретическом экзамене в сервисном центре МВД Украины.

1.13 **Разрешается ли выезд нерельсовых транспортных средств на трамвайные пути, отделенные от проезжей части сплошной линией дорожной разметки?**

1. Разрешается, если полосы проезжей части заняты другими транспортными средствами.
2. Разрешается во время опережения транспортного средства, движущегося со скоростью менее 40 км/ч, а также для поворота налево или разворота.
3. Разрешается в обоих перечисленных случаях.
4. Запрещается.

1.14 **Велосипедисту объехать стоящий легковой автомобиль:**

1. Разрешается.
2. Запрещается.

1.15 **В каких случаях допускается движение транспортных средств по тротуарам?**

1. Если это не затрудняет движение пешеходов.
2. Если остается свободным для движения пешеходов не менее 2 м тротуара.
3. Для выполнения работ или обслуживания торговых и других предприятий, расположенных непосредственно возле этих тротуаров, если нет других подъездов.
4. Во всех перечисленных выше случаях.

1.16 **На какой из дорог разрешено велосипедисту выполнить поворот налево или разворот?**



1 2 3

1.17 **Разрешается ли водителю грузового автомобиля выполнить маневр в указанном стрелкой направлении?**

1. Разрешается, если посадка и высадка осуществляются с проезжей части.
2. Запрещается.
3. Разрешается, при отсутствии трамвая попутного направления.

1.18 **На дорогах с двусторонним движением, имеющих по меньшей мере две полосы для движения в одном направлении, выезд на крайнюю левую полосу для движения в этом же направлении разрешается:**

1. Только если другие полосы заняты.
2. Только для поворота налево или разворота.
3. Во всех перечисленных выше случаях.

1.19 **В каких случаях разрешается менять полосу на проезжей части при интенсивном движении транспортных средств?**

1. Для объезда препятствия, поворота, разворота или остановки.
2. Только для объезда препятствия.
3. Только для поворота или разворота.

1.20 **Нарушает ли водитель легкового автомобиля Правила, выехав на трамвайные пути попутного направления для выполнения поворота налево?**

1. Нарушает.
2. Не нарушает.

1.21 **В каких случаях водителям нерельсовых транспортных средств разрешается выезжать на трамвайный путь попутного направления при проезде перекрестков?**

1. Если количество полос и направления движения по ним не определены соответствующими информационно-указательными знаками.
2. Если количество полос и направления движения по ним определены соответствующими информационно-указательными знаками.
3. В обоих перечисленных случаях.

1.22 **Согласно Правилам при одновременном движении по обочине пешехода и мопеда преимущество имеет:**

1. Водитель мопеда.
2. Пешеход.

✻ Вопрос подобного содержания может быть поставлен вам на теоретическом экзамене в сервисном центре МВД Украины.

11.21 В каком из перечисленных в ответах случае разрешается выезд на полосу встречного движения на изображенном участке дороги?



1. Только для обгона и объезда препятствия.
2. Только для остановки или стоянки у левого края проезжей части.
3. В обоих случаях.

11.22 Водитель, поворачивающий на дорогу, которая имеет полосу для реверсивного движения, может перестраиваться на эту полосу:

1. Только после проезда реверсивного светофора с сигналом, разрешающим движение по этой полосе.
2. Только после проезда перекрестка.
3. Только в случае, если на ней отсутствуют транспортные средства, движущиеся навстречу.
4. Во всех перечисленных выше случаях.

11.23 Разрешается ли вам выехать на трамвайный путь в указанном стрелкой направлении?

1. Разрешается.
2. Запрещается.
3. Разрешается, если трамвайный путь свободен на достаточном расстоянии.

11.24 Согласно Правилам на дорогах, имеющих две и более полос для движения в одном направлении, водитель нерельсового транспортного средства должен вести его:

1. Как можно ближе к правому краю проезжей части.
2. По любой полосе, если их количество определено дорожной разметкой.
3. Только с учетом безопасного интервала до транспортных средств, движущихся по полосе встречного движения.

11.25 Разрешается ли водителю велосипеда выполнить поворот налево на этом перекрестке?

1. Разрешается.
2. Запрещается.

11.26 Для выполнения поворота налево вы должны:



1. Занять крайнее положение слева на проезжей части.
2. Занять крайнее положение справа на проезжей части.
3. Предварительно выехать на трамвайный путь попутного направления.

11.27 Выехать на трамвайные пути попутного направления для опережения легкового автомобиля вам:



1. Разрешено.
2. Запрещено.

11.28 Разрешается ли водителю грузового автомобиля с разрешенной максимальной массой более 3,5 т выехать на левую полосу этой дороги для разгрузки груза?



1. Разрешается.
2. Запрещается.

11.29 При отсутствии разметки или дорожных знаков, определяющих количество полос на проезжей части, водитель транспортного средства обязан самостоятельно определить это с учетом:

1. Только габаритов транспортного средства.
2. Только безопасных интервалов между транспортными средствами.
3. Только ширины проезжей части соответствующего направления движения.
4. Всех вышеперечисленных факторов.

11.30 Разрешается ли водителю скорой медицинской помощи выехать на трамвайный путь в этом случае?

1. Разрешается.
2. Запрещается.

Вопрос подобного содержания может быть поставлен вам на теоретическом экзамене в сервисном центре МВД Украины.

1.31 **На такой дороге выехать на крайнюю левую полосу разрешается:**

1. Если правые полосы заняты.
2. Для поворота налево и разворота.
3. Для остановки или стоянки на левой стороне дороги с односторонним движением в населенных пунктах, если это не противоречит правилам остановки.
4. В любом из вышеперечисленных случаев.

1.32 **По какой траектории водитель нерельсового транспортного средства должен осуществлять поворот налево?**

1. По «А».
2. По «Б».

1.33 **Разрешается ли водителям транспортных средств выезжать на полосу встречного движения на дорогах с двусторонним движением, имеющим не менее двух полос для движения в одном направлении?**

1. Разрешается для обгона при отсутствии сплошной линии разметки.
2. Разрешается для остановки или стоянки при отсутствии сплошной линии разметки.
3. Разрешается во всех перечисленных выше случаях.
4. Запрещается.

1.34 **Разрешается ли вам выехать на трамвайный путь попутного направления для опережения легкового автомобиля?**

1. Разрешается, если трамвайный путь возвышен не более чем на 20 см над уровнем проезжей части.
2. Запрещается.
3. Разрешается, при отсутствии попутного трамвая.

1.35 **Каким транспортным средствам разрешается движение по тротуарам?**

1. Только легковым автомобилям.
2. Только транспортным средствам с разрешенной максимальной массой до 3,5 т.
3. Только на велосипедах.
4. Транспортным средствам, обслуживающим предприятия, расположенные возле тротуаров, если нет других подъездов.
5. Всем перечисленным выше транспортным средствам.

1.36 **Если дорога имеет по меньшей мере две полосы для движения в одном направлении, выехать на предназначенную для встречного движения сторону дороги вам:**

1. Разрешено только вне населенного пункта.
2. Разрешено только в населенном пункте.
3. Запрещено.

1.37 **Водителю транспортного средства, скорость движения которого не должна превышать 40 км/ч или которое по техническим причинам не может развивать такую скорость, выехать на крайнюю левую полосу разрешается:**



1. Только для объезда препятствия.
2. Только для перестроения перед поворотом налево или разворотом.
3. Для выполнения любого из вышеперечисленных маневров.

1.38 **Водитель какого транспортного средства неправильно занял положение на проезжей части?**

1. Только грузового автомобиля.
2. Только автобуса.
3. Грузового автомобиля и автобуса.

1.39 **В каких случаях водителям нерельсовых транспортных средств разрешается движение вне перекрестков по трамвайному пути попутного направления, расположеному на одном уровне с проезжей частью для нерельсовых транспортных средств?**

1. Только во время объезда, если ширина проезжей части недостаточна для выполнения этого маневра без выезда на трамвайный путь.
2. Только если это не запрещено дорожными знаками или дорожной разметкой.
3. В обоих перечисленных случаях.

1.40 **Какой из изображенных стрелками маневр не противоречит Правилам дорожного движения?**

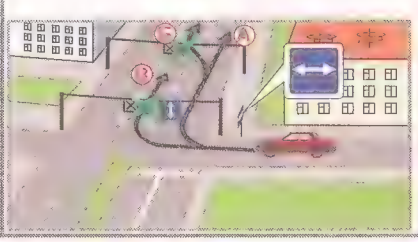

1. Только «А».
2. Только «А» и «Б».
3. Только «В».
4. Все не противоречат.

Вопрос подобного содержания может быть поставлен вам на теоретическом экзамене в сервисном центре МВД Украины.

1141 **По какой траектории водитель нерельсового транспортного средства должен осуществлять поворот налево?**

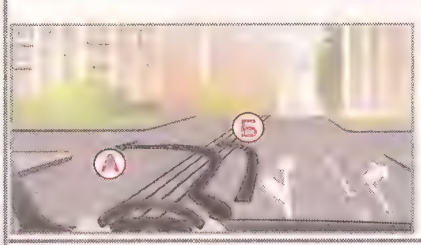

1. По «А».
2. По «Б».

1142 **Разрешается ли вам повернуть налево так, как показано стрелкой?**



1. Разрешается.
2. Запрещается.

Водитель какого транспортного средства неправильно занял полосу для движения?

1. Только легкового автомобиля.
2. Только грузового автомобиля.
3. Легкового автомобиля и велосипеда.

Выезд на обочину встречного направления движения:

1. Разрешается только для остановки или стоянки на левой стороне дороги.
2. Только для аварийной остановки.
3. Запрещается.

Разрешается ли вам выехать на разделительную полосу для опережения грузового автомобиля ?



1. Разрешается.
2. Запрещается.

Разрешается ли вам опередить автобус, выехав на трамвайный путь попутного направления?

1. Разрешается.
2. Запрещается.

В каких случаях водителям транспортных средств, которые по техническим причинам не могут развивать скорость движения более 40 км/ч, разрешается выезжать на левую полосу дороги, имеющей две полосы для движения в одном направлении?

1. Только для выполнения объезда.
2. Только при перестроении перед поворотом налево или разворотом.
3. Когда выполняется объезд или перестроение перед поворотом налево или разворотом.

Разрешается ли вам опередить легковой автомобиль по направлению, указанному стрелкой?

1. Разрешается.
2. Запрещается.

Выехать на трамвайные пути попутного направления для объезда микроавтобуса вам:



1. Разрешено.
2. Запрещено.

Разрешается ли водителю легкового автомобиля опередить грузовой автомобиль с выездом на трамвайный путь попутного направления?



1. Запрещается.
2. Разрешается.

Вопрос подобного содержания может быть поставлен вам на теоретическом экзамене в сервисном центре МВД Украины.

При выполнении разрешенного маневра с выездом на полосу встречного движения на дороге, имеющей по одной полосе в каждом направлении, преимущество имеет водитель транспортного средства:

1. Выполняющего маневр во всех случаях.
2. Выполняющего маневр только при его завершении.
3. Движущегося во встречном направлении.

Количество полос на проезжей части для движения нерельсовых транспортных средств определяется:

1. Только дорожной разметкой.
2. Только дорожными знаками «Направления движения по полосам» и «Направление движения по полосам».
3. Дорожной разметкой или дорожными знаками «Направления движения по полосам» и «Направление движения по полосам», а при их отсутствии — самими водителями с учетом ширины проезжей части соответствующего направления движения, габаритов транспортных средств и безопасных интервалов между ними.

При выполнении поворота с трамвайной линии не должно создаваться препятствий:

1. Трамваю попутного направления.
2. Трамваю встречного направления.
3. Трамваям как попутного, так и встречного направления.

На дорогах, имеющих две и более полос для движения в одном направлении, при отсутствии других нерельсовых транспортных средств вы должны двигаться:



1. По любой полосе.
2. Как можно ближе к правому краю проезжей части.

Выехать на полосу встречного движения для обгона вам:

1. Разрешено.
2. Запрещено.

Разрешается ли водителю грузового автомобиля движение по левой полосе проезжей части?



1. Разрешается во время опережения, обгона или перестроения перед объездом, поворотом или разворотом.
2. Запрещается.

В каких случаях водителям транспортных средств разрешается выезд на крайнюю левую полосу на дорогах с односторонним движением в населенных пунктах, имеющих по меньшей мере две полосы для движения?

1. Только для остановки или стоянки на левой стороне дороги в разрешенных случаях.
2. Только для поворота налево.
3. Только если другие полосы заняты.
4. Во всех перечисленных выше случаях.
5. Только в случаях, перечисленных в ответах 2 и 3.

Водитель какого транспортного средства правильно занял полосу для движения на проезжей части, если все они двигаются со скоростью 50 км/ч?



1. Грузового автомобиля и мотоцикла без бокового прицепа.
2. Мотоцикла с боковым прицепом.
3. Обоих мотоциклов.
4. Мотоцикла без бокового прицепа.

В каком из мест вам разрешено остановиться?



1. Только в «А».
2. Только в «Б».
3. В любом из показанных.

Разрешено ли вам выехать на полосу встречного движения для обгона микроавтобуса?



1. Разрешено.
2. Запрещено.

Вопрос подобного содержания может быть поставлен вам на теоретическом экзамене в сервисном центре МВД Украины.

В каком направлении разрешается велосипедисту выполнить маневр в этом случае?



1. Только «А».
2. Только «Б».
3. Только «В».
4. «А» или «В».
5. «Б» или «В».

Разрешается ли велосипедисту выполнить объезд стоящего грузового автомобиля на этом участке дороги?



1. Разрешается.
2. Запрещается.

Выезжать на трамвайные пути встречного направления Правилами:

1. Разрешено.
2. Запрещено.

Разрешается ли вам выехать на трамвайный путь попутного направления для опережения грузового автомобиля, если вы управляете легковым автомобилем?

1. Запрещается.
2. Разрешается только в случае, если скорость движения грузового автомобиля не более 30 км/ч.
3. Разрешается.

Выехать на трамвайные пути попутного направления для опережения легкового автомобиля вам:



1. Разрешено.
2. Запрещено.

Во время движения по проезжей части на велосипедах, мопедах, гужевых повозках (санях) и всадникам разрешается отступать от требования двигаться только в один ряд по правой крайней полосе как можно правее:

1. Только при выполнении объезда препятствия.
2. Только при выполнении поворота налево и разворота на дорогах с одной полосой для движения в каждом направлении и без трамвайной колеи посередине.
3. В обоих перечисленных выше случаях.

Согласно Правилам на дорогах с тремя полосами для движения в одном направлении грузовым автомобилям с разрешенной максимальной массой более 3,5 т на крайнюю левую полосу разрешается выезжать:

1. Для поворота налево или разворота.
2. Для опережения.
3. В обоих перечисленных выше случаях.

По какой из траекторий должен быть выполнен разворот?

1. «А».
2. «Б».

Разрешается ли водителю скорой помощи выехать на трамвайный путь в этом случае?

1. Запрещается.
2. Разрешается.

В каких случаях разрешается движение по обочине на велосипедах, мопедах и гужевых повозках?

1. Если это не создает препятствий пешеходам.
2. Только в светлое время суток.
3. Только при интенсивном движении механических транспортных средств.

Вопрос подобного содержания может быть поставлен вам на теоретическом экзамене в сервисном центре МВД Украины.

12. Скорость движения

С какой максимальной скоростью разрешается движение водителю легкового автомобиля после проезда перекрестка?



1. 50 км/ч.
2. 60 км/ч.
3. 70 км/ч.
4. 90 км/ч.
5. С любой скоростью, обеспечивающей безопасность дорожного движения.

С какой максимальной скоростью разрешается движение мотоцикла на автомагистрали, если его водитель имеет водительский стаж 3 года?

1. 70 км/ч.
2. 80 км/ч.
3. 90 км/ч.
4. 110 км/ч.
5. 130 км/ч.

С какой максимальной скоростью разрешается движение легковому автомобилю в населенном пункте, обозначенном этим знаком?

1. 20 км/ч.
2. 40 км/ч.
3. 50 км/ч.
4. 90 км/ч.

Водителю какого транспортного средства разрешается движение со скоростью 90 км/ч на этом участке дороги?

1. Мотоцикла.
2. Микроавтобуса.
3. Обоим разрешается.
4. Обоим запрещается.

Водитель какого транспортного средства не нарушает Правила, двигаясь со скоростью 20 км/ч?

1. Только автомобиля, обслуживающего предприятие связи.
2. Только автомобиля дорожной службы.
3. Оба нарушают.
4. Оба не нарушают.

В этом случае максимальная скорость движения грузового автомобиля не должна превышать:

1. 50 км/ч.
2. 60 км/ч.
3. 70 км/ч.
4. 80 км/ч.
5. 90 км/ч.

С какой максимальной скоростью разрешается продолжить движение водителю легкового автомобиля после проезда этого дорожного знака?

1. 60 км/ч.
2. 70 км/ч.
3. 80 км/ч.
4. 90 км/ч.
5. 100 км/ч.

С какой максимальной скоростью разрешается движение водителю грузового автомобиля на этом участке дороги?

1. 70 км/ч.
2. 90 км/ч.
3. 100 км/ч.

С какой максимальной скоростью разрешено движение водителю автомобиля на такой дороге?

1. 70 км/ч.
2. 80 км/ч.
3. 90 км/ч.
4. 110 км/ч.
5. 130 км/ч.

Водители каких транспортных средств нарушают Правила, двигаясь со скоростью 90 км/ч?

1. Только микроавтобуса.
2. Только мотоцикла с боковым прицепом.
3. Обоих мотоциклов.
4. Микроавтобуса и мотоцикла без бокового прицепа.

Вопрос подобного содержания может быть поставлен вам на теоретическом экзамене в сервисном центре МВД Украины.

С какой максимальной скоростью разрешается движение водителю микроавтобуса в этом случае?

1. 80 км/ч.
2. 70 км/ч.
3. 50 км/ч.
4. С любой скоростью, обеспечивающей безопасность дорожного движения.

Водителю транспортного средства резко тормозить запрещается:

1. Только вне населенного пункта.
2. Только при интенсивном транспортном движении в населенном пункте.
3. Только на дороге с разделительной полосой.
4. Кроме случаев, когда без этого невозможно предотвратить дорожно-транспортное происшествие.

На каком участке дороги водителю мотоцикла запрещается движение со скоростью 80 км/ч?

1. Только на «Б».
2. Только на «А».
3. На «А» и «Б».

С какой скоростью разрешается движение легкового автомобиля на этом участке дороги?



1. Только не более 50 км/ч.
2. Только 50 км/ч.
3. Не более 90 км/ч.

Водителю какого транспортного средства разрешается превышать установленные Правилами ограничения скорости движения?

1. Только автомобиля скорой медицинской помощи.
2. Только автомобиля дорожной службы.
3. Водителям обоих транспортных средств.

С какой максимальной скоростью разрешается такое движение?



1. 50 км/ч.
2. 60 км/ч.
3. 70 км/ч.
4. 80 км/ч.
5. 90 км/ч.

С какой максимальной скоростью разрешено движение в этом населенном пункте водителю автомобиля категории «В», имеющему стаж вождения менее 2 лет?



1. 50 км/ч.
2. 70 км/ч.
3. 80 км/ч.
4. 90 км/ч.
5. 110 км/ч.

С какой максимальной скоростью разрешено двигаться водителю легкового автомобиля до места, где установлен дорожный знак?

1. 50 км/ч.
2. 70 км/ч.
3. 80 км/ч.
4. 90 км/ч.

С какой максимальной скоростью разрешается движение грузовым автомобилям на дороге для автомобилей, проходящей через населенный пункт, обозначенный знаком 5.47 (начало населенного пункта на синем фоне)?

1. 50 км/ч.
2. 60 км/ч.
3. 90 км/ч.
4. 110 км/ч.
5. 130 км/ч.

Разрешается ли водителю легкового автомобиля выполнить опережение мотоцикла, движущегося со скоростью 80 км/ч?

1. Разрешается, если полоса слева свободна на достаточном для перестроения расстоянии.
2. Разрешается, если нет транспорта, выполняющего опережение.
3. Запрещается.

Вопрос подобного содержания может быть поставлен вам на теоретическом экзамене в сервисном центре МВД Украины.

В каких случаях водителю легкового автомобиля разрешается движение со скоростью до 70 км/ч в населенном пункте?

1. Только при движении по левой полосе на дорогах с тремя полосами для движения в одном направлении.
2. Только при выполнении обгона.
3. Только на участках дорог, где скорость движения увеличена соответствующими дорожными знаками.
4. Во всех перечисленных выше случаях.

С какой максимальной скоростью разрешается движение водителю легкового автомобиля после поворота налево?

1. 50 км/ч.
2. 60 км/ч.
3. 90 км/ч.
4. 110 км/ч.

Водитель какого транспортного средства нарушает Правила, двигаясь со скоростью 90 км/ч?

1. Только грузового автомобиля, буксирующего легковой.
2. Только легкового автомобиля с прицепом.
3. Оба не нарушают.
4. Оба нарушают.

В каком случае, согласно Правилам, водитель не может быть привлечен к ответственности по законодательству за превышение установленных ограничений скорости движения, определенных соответствующими дорожными знаками?

1. Только если такие знаки установлены с нарушением определенных Правилами требований по их введению.
2. Только если такие знаки установлены с нарушением требований национальных стандартов.
3. Только если такие знаки оставлены после устранения обстоятельств, при которых они были установлены.
4. Во всех вышеперечисленных случаях.

Водитель какого транспортного средства нарушает требования Правил, двигаясь по левой полосе со скоростью 80 км/ч?



1. Только грузового автомобиля.
2. Только легкового автомобиля.
3. Оба нарушают.
4. Оба не нарушают.

Разрешается ли водителю автомобиля движение со скоростью 70 км/ч после проезда места, где расположены дорожные знаки?



1. Разрешается по любой полосе.
2. Запрещается.
3. Разрешается только по крайней левой полосе.

Дорожный знак «Зона ограничения максимальной скорости» ограничивает скорость в местах, где впереди:

1. Проводятся дорожные работы.
2. Проводятся массовые или специальные мероприятия.
3. Введены ограничения, связанные со стихийными (погодными) явлениями.
4. Может быть одно из приведенного выше.

С какой максимальной скоростью разрешается движение водителю автомобиля с включенными маячками на этом участке дороги?

1. Только 70 км/ч.
2. Только 90 км/ч.
3. Только 100 км/ч.
4. Только 130 км/ч.
5. С любой, обеспечивающей безопасность дорожного движения.

С какой максимальной скоростью разрешается движение грузовым автомобилям с прицепом вне населенных пунктов на дорогах без разделительной полосы и которые не отнесены к автомагистралям или дорогам для автомобилей?

1. 50 км/ч.
2. 60 км/ч.
3. 80 км/ч.
4. 90 км/ч.
5. 110 км/ч.

С какой максимальной скоростью разрешается движение водителю мопеда в населенном пункте, обозначенном этим знаком?

1. 50 км/ч.
2. 60 км/ч.
3. 80 км/ч.
4. 90 км/ч.

Вопрос подобного содержания может быть поставлен вам на теоретическом экзамене в сервисном центре МВД Украины.

С какой максимальной скоростью разрешено движение водителю легкового автомобиля после проезда перекрестка?

1. 50 км/ч.
2. 60 км/ч.
3. 80 км/ч.
4. 90 км/ч.
5. С любой скоростью, обеспечивающей безопасность дорожного движения.

12.32 С какой максимальной скоростью разрешается движение легковому автомобилю в населенном пункте, обозначенном этим знаком?

1. 50 км/ч.
2. 60 км/ч.
3. 80 км/ч.
4. 90 км/ч.

12.33 С какой максимальной скоростью разрешается движение водителю легкового автомобиля после поворота направо?



1. 20 км/ч.
2. 40 км/ч.
3. 50 км/ч.
4. 60 км/ч.
5. 90 км/ч.

12.34 С какой максимальной скоростью разрешается движение водителю легкового автомобиля на этой дороге?



1. 60 км/ч.
2. 70 км/ч.
3. 90 км/ч.
4. 110 км/ч.
5. 130 км/ч.

При выборе безопасной скорости движения транспортного средства водитель должен учитывать:

1. Только установленные Правилами пределы скорости движения.
2. Только дорожную обстановку.
3. Только особенности перевозимого груза.
4. Все перечисленные выше факторы.

Разрешается ли водителю без необходимости движение с очень малой скоростью?

1. Запрещается.
2. Разрешается на дорогах, кроме автомагистралей, если это не будет препятствовать другим транспортным средствам.
3. Разрешается на дорогах, кроме автомагистралей, если движение осуществляется как можно ближе к правому краю проезжей части.

Грузовому автомобилю, буксирующему легковой автомобиль, разрешается движение в населенном пункте со скоростью не более:

1. 20 км/ч.
2. 40 км/ч.
3. 50 км/ч.
4. 60 км/ч.

В жилых и пешеходных зонах скорость движения транспортных средств не должна превышать:

1. 20 км/ч.
2. 40 км/ч.
3. 60 км/ч.

12.39 Водителю какого транспортного средства разрешается движение со скоростью 90 км/ч?

1. Только грузового автомобиля.
2. Только грузового автомобиля и автобуса.
3. Только легкового и грузового автомобилей.
4. Всех перечисленных выше транспортных средств.

12.40 С какой максимальной скоростью разрешается движение мотоциклисту со стажем 3 года на этой дороге?



1. 70 км/ч.
2. 80 км/ч.
3. 90 км/ч.
4. 110 км/ч.
5. 130 км/ч.

Вопрос подобного содержания может быть поставлен вам на теоретическом экзамене в сервисном центре МВД Украины.

В случае возникновения препятствия для движения, которое водитель объективно способен обнаружить, он должен немедленно принять меры:

1. Только для уменьшения скорости, вплоть до остановки транспортного средства.
2. Только для объезда препятствия.
3. Для уменьшения скорости, вплоть до остановки транспортного средства либо безопасного для других участников дорожного движения объезда препятствия.
4. До остановки транспортного средства на обочине или у края проезжей части.

С какой максимальной скоростью разрешается движение водителю автомобиля после поворота направо?

1. 50 км/ч.
2. 60 км/ч.
3. 70 км/ч.
4. 90 км/ч.

На каком из обозначенных на рисунке участке дороги разрешается вам движение на легковом автомобиле со скоростью 50 км/ч?



1. Начиная только с позиции «А».
2. Начиная только с позиции «В».
3. Начиная только с позиции «Б».
4. На всех разрешается.
5. На всех запрещается.

С какой максимальной скоростью разрешается движение легковому автомобилю на этом участке дороги?

1. Не более 70 км/ч.
2. Не более 90 км/ч.
3. Не более 110 км/ч.
4. Не менее 70 км/ч.

С какой максимальной скоростью разрешено движение водителю автомобиля на такой дороге?

1. 50 км/ч.
2. 60 км/ч.
3. 90 км/ч.
4. 110 км/ч.

Управляя автобусом, после проезда места, где установлен изображенный на рисунке дорожный знак, вам разрешается продолжить движение с максимальной скоростью:

1. 50 км/ч.
2. 60 км/ч.
3. 90 км/ч.
4. 110 км/ч.

С какой максимальной скоростью разрешается движение транспортных средств по проезжей части на обозначенной этим дорожным знаком территории?

1. 10 км/ч.
2. 20 км/ч.
3. 40 км/ч.
4. 50 км/ч.

Водителю какого из перечисленных в ответах транспортного средства разрешается движение по левой полосе?



1. Только грузового, выполняющего буксировку.
2. Только грузового, перевозящего людей.
3. Обоим, перечисленным выше, разрешается.
4. Обоим, перечисленным выше, запрещается.

С какой максимальной скоростью вам разрешается двигаться после проезда места, где установлены эти дорожные знаки, если ваш водительский стаж составляет 1,5 года?

1. 50 км/ч.
2. 70 км/ч.
3. 80 км/ч.
4. 90 км/ч.

С какой максимальной скоростью разрешается движение транспортных средств после проезда этого дорожного знака?

1. 50 км/ч.
2. 70 км/ч.
3. 90 км/ч.
4. 110 км/ч.

Вопрос подобного содержания может быть поставлен вам на теоретическом экзамене в сервисном центре МВД Украины.

Водитель какого транспортного средства нарушает Правила, двигаясь со скоростью 100 км/ч по этой дороге в населенном пункте, обозначенном знаком 5.47 (на синем фоне)?

1. Микроавтобуса.
2. Легкового автомобиля.
3. Оба нарушают.
4. Оба не нарушают.

С какой максимальной скоростью разрешается движение грузового автомобиля, перевозящего людей в кузове, на дороге вне населенного пункта?

1. 60 км/ч.
2. 50 км/ч.
3. 40 км/ч.

С какой максимальной скоростью водителю легкового автомобиля разрешается продолжить движение по правой полосе после проезда места расположения дорожного знака над левой полосой?

1. 50 км/ч.
2. 60 км/ч.
3. 70 км/ч.
4. 80 км/ч.

Водитель какого транспортного средства нарушает Правила, в том числе и двигаясь со скоростью 130 км/ч?

1. Только автобуса.
2. Только грузового автомобиля.
3. Только автомобиля с опознавательным знаком «Водитель с инвалидностью».
4. Автобуса и грузового автомобиля.
5. Все перечисленные выше нарушают.

С какой максимальной скоростью разрешается вам движение на легковом автомобиле до пересечения проезжих частей?



1. 10 км/ч.
2. 20 км/ч.
3. 40 км/ч.
4. 50 км/ч.
5. 60 км/ч.

С какой максимальной скоростью вам разрешается двигаться после проезда этого дорожного знака, если на управляемом вами автомобиле установлен опознавательный знак с числом «50»?



1. 50 км/ч.
2. 70 км/ч.
3. 90 км/ч.

Разрешается ли Правилами превышать максимальную скорость движения, определенную технической характеристикой транспортного средства?

1. Разрешается водителям автомобилей, скорость движения которых по технической характеристике не более 40 км/ч.
2. Разрешается при обгоне и объезде препятствия.
3. Разрешается во всех вышеперечисленных случаях.
4. Запрещается.

С какой максимальной скоростью разрешается движение водителю легкового автомобиля с прицепом на этом участке дороги?

1. 70 км/ч.
2. 80 км/ч.
3. 90 км/ч.
4. 110 км/ч.
5. 130 км/ч.

Разрешается ли водителю мотоцикла начать опережение микроавтобуса, скорость движения которого 80 км/ч?

1. Запрещается.
2. Разрешается.

Постоянный дорожный знак «Ограничение максимальной скорости» ограничивает скорость движения:

1. Только на опасных участках дороги.
2. Только на нерегулируемых пешеходных переходах.
3. В местах стационарных постов Национальной полиции.
4. Только на дорогах (улицах), прилегающих к территории дошкольных и общеобразовательных учебных заведений.
5. Во всех приведенных выше случаях.

Вопрос подобного содержания может быть поставлен вам на теоретическом экзамене в сервисном центре МВД Украины.

С какой максимальной скоростью разрешается движение в населенном пункте на этой дороге?

1. 50 км/ч.
2. 60 км/ч.
3. 90 км/ч.
4. 110 км/ч.

Водителю какого автомобиля разрешается движение со скоростью 100 км/ч?



1. Только такси.
2. Только автокрана.
3. Обоим разрешается.
4. Обоим запрещается.

С какой максимальной скоростью разрешается движение водителю автомобиля после проезда этого дорожного знака?

1. 50 км/ч.
2. 60 км/ч.
3. 80 км/ч.
4. 90 км/ч.
5. 110 км/ч.

Водителю какого транспортного средства разрешается двигаться со скоростью 110 км/ч?

1. Только автобуса.
2. Только мотоцикла.
3. Обоим разрешается.
4. Обоим запрещается.

С какой максимальной скоростью разрешено движение транспортных средств после проезда этого дорожного знака?

1. 50 км/ч.
2. 70 км/ч.
3. 90 км/ч.
4. 110 км/ч.

Кто из водителей транспортных средств нарушает Правила, двигаясь со скоростью 100 км/ч?

1. Водитель легкового автомобиля.
2. Мотоциклист.
3. Оба не нарушают.
4. Оба нарушают.

С какой максимальной скоростью разрешается движение водителю автомобиля после проезда этого знака?

1. 70 км/ч.
2. 80 км/ч.
3. 90 км/ч.
4. 110 км/ч.
5. 130 км/ч.

С какой максимальной скоростью разрешается движение водителю легкового автомобиля с прицепом на этом участке дороги?

1. 60 км/ч.
2. 70 км/ч.
3. 80 км/ч.
4. 90 км/ч:
5. 110 км/ч.

Разрешается ли кому-либо из водителей движение на этом участке дороги со скоростью 110 км/ч?



1. Только мотоцикла.
2. Только микроавтобуса.
3. Обоим разрешается.
4. Обоим запрещается.

С какой максимальной скоростью разрешается вам движение на этом участке дороги, если ваш стаж водителя один год?



1. 70 км/ч.
2. 90 км/ч.
3. 110 км/ч.
4. С любой скоростью, обеспечивающей безопасность дорожного движения.

✻ Вопрос подобного содержания может быть поставлен вам на теоретическом экзамене в сервисном центре МВД Украины.

12.72 **С какой максимальной скоростью разрешается вам движение после проезда этого дорожного знака?**

1. 50 км/ч.
2. 60 км/ч.
3. 90 км/ч.
4. 110 км/ч.

12.73 **С какой максимальной скоростью разрешается движение водителю микроавтобуса после проезда дорожного знака на белом фоне?**



1. 50 км/ч.
2. 60 км/ч.
3. 90 км/ч.
4. 110 км/ч.
5. 130 км/ч.

12.74 **С какой максимальной скоростью разрешается движение мотоциклисту после проезда дорожного знака на белом фоне?**



1. 50 км/ч.
2. 60 км/ч.
3. 80 км/ч.
4. 90 км/ч.
5. 110 км/ч.

12.75 **С какой максимальной скоростью разрешается движение водителю автомобиля после проезда этого дорожного знака?**

1. 50 км/ч.
2. 60 км/ч.
3. 90 км/ч.
4. 110 км/ч.

12.76 **Кому из водителей разрешается движение со скоростью 110 км/ч после проезда этого дорожного знака?**



1. Только легкового автомобиля.
2. Только мотоцикла.
3. Обоим разрешается.
4. Обоим запрещается.

12.77 **С какой максимальной скоростью разрешается Правилами движение после проезда дорожного знака на белом фоне до дорожного знака на синем фоне?**

1. 50 км/ч.
2. 60 км/ч.
3. 90 км/ч.
4. 110 км/ч.

12.77 **При приближении к участку дороги, о котором информирует изображенный на рисунке дорожный знак, водитель должен вести транспортное средство со скоростью:**

1. Только в установленных Правилами пределах.
2. Только позволяющей постоянно контролировать его движение.
3. С учетом всех изложенных выше требований.

***** **В темное время суток и в условиях недостаточной видимости скорость движения должна быть такой, чтобы водитель имел возможность остановить транспортное средство на расстоянии, которое:**

1. Меньше видимости дороги.
2. Больше видимости дороги.

12.79 **С какой максимальной скоростью разрешается буксировка механическим транспортным средством?**

1. 30 км/ч.
2. 40 км/ч.
3. 50 км/ч.
4. 60 км/ч.
5. 70 км/ч.

***** **С какой максимальной скоростью разрешено движение водителю автомобиля на этом участке дороги?**

1. 130 км/ч.
2. 110 км/ч.
3. 90 км/ч.
4. 80 км/ч.
5. 70 км/ч.

* Вопрос подобного содержания может быть поставлен вам на теоретическом экзамене в сервисном центре МВД Украины.

С какой максимальной скоростью разрешается движение автобуса, обозначенного этим знаком?

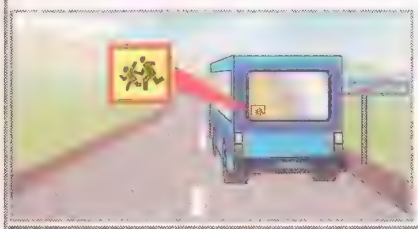

1. 50 км/ч.
2. 60 км/ч.
3. 70 км/ч.
4. 80 км/ч.
5. 90 км/ч.

Разрешается ли водителю автобуса двигаться со скоростью более 90 км/ч на этом участке дороги?

1. Разрешается.
2. Запрещается.

В случае возникновения опасности для движения, которую водитель объективно способен обнаружить, он должен немедленно принять меры:

1. Только для уменьшения скорости.
2. Для уменьшения скорости, вплоть до остановки транспортного средства.

12.84 **С какой максимальной скоростью разрешается движение водителю микроавтобуса на этом участке дороги?**

1. 130 км/ч.
2. 110 км/ч.
3. 90 км/ч.
4. 80 км/ч.
5. 70 км/ч.

12.85 **С какой максимальной скоростью разрешается вам движение после проезда дорожного знака на синем фоне?**

1. 50 км/ч.
2. 60 км/ч.
3. 90 км/ч.
4. 110 км/ч.

12.86 **Превышать максимально разрешенную скорость движения:**

1. Разрешено при буксировке на гибкой сцепке.
2. Разрешено при буксировке на жесткой сцепке.
3. Разрешено при буксировке способом частичной нагрузки на опорное приспособление.
4. Запрещено.

Водитель какого транспортного средства не нарушает Правила, двигаясь со скоростью 60 км/ч?



1. Только грузового автомобиля.
2. Только автобуса.
3. Только трактора.
4. Грузового автомобиля и автобуса.

С какой максимальной скоростью разрешается движение мотоциклисту в этом населенном пункте после проезда знака на синем фоне?

1. 50 км/ч.
2. 60 км/ч.
3. 80 км/ч.
4. 90 км/ч.
5. 110 км/ч.

Ограничение скорости движения до 70 км/ч на всех дорогах вне населенных пунктов и на дорогах, проходящих через населенные пункты, обозначенные знаком 5.47, касается водителей со стажем до 2 лет, которые управляют:

1. Только мотоциклами.
2. Только легковыми автомобилями.
3. Только грузовыми автомобилями.
4. Только автобусами.
5. Любыми транспортными средствами.

С какой максимальной скоростью разрешается вам движение в населенном пункте после проезда этого знака?

1. 90 км/ч.
2. 70 км/ч.
3. 50 км/ч.
4. С любой скоростью, обеспечивающей безопасность дорожного движения.

Вопрос подобного содержания может быть поставлен вам на теоретическом экзамене в сервисном центре МВД Украины.

13. Дистанция, интервал, встречный разъезд

13.1 В этой ситуации при встречном разъезде преимущество в движении принадлежит:



1. Водителю встречного автомобиля.
2. Вам.

13.2 Согласно Правилам для соблюдения безопасной дистанции водитель должен учитывать:

1. Только скорость движения и дорожную обстановку.
2. Только особенности перевозимого груза и состояние транспортного средства.
3. Только состояние транспортного средства.
4. Все перечисленные выше факторы.

13.3 Водитель какого транспортного средства имеет преимущество при встречном разъезде на этом участке дороги?

1. Легкового автомобиля.
2. Микроавтобуса.

13.4 В каких из перечисленных в ответах случаях необходимо выбирать безопасный интервал, чтобы не создавать опасности для дорожного движения?

1. Только при обгоне и объезде препятствия.
2. Только при опережении.
3. Только при встречном разъезде.
4. Во всех перечисленных выше случаях.

13.5 Водитель транспортного средства, габариты которого мешают встречному движению:

1. Имеет преимущество в движении при встречном разъезде.
2. Должен уступить дорогу транспортным средствам, движущимся во встречном направлении.

13.6 Если встречный разъезд затруднен, то уступить дорогу должен водитель:

1. Грузового автомобиля.
2. Автомобиля скорой помощи.

13.7 При наличии препятствия на участках дорог, обозначенных знаками «Крутой подъем» или «Крутой спуск», уступить дорогу должен водитель транспортного средства, движущегося:

1. На подъем.
2. На спуск.

13.8 Разрешается ли мотоциклисту выполнить встречный разъезд одновременно с микроавтобусом в этом случае?

1. Запрещается.
2. Разрешается при соблюдении безопасного интервала.

13.9 Если встречный разъезд затруднен, то уступить дорогу должен водитель:

1. Грузового автомобиля.
2. Мотоцикла.

13.10 Водители каких из перечисленных в ответах транспортных средств при движении вне населенных пунктов должны поддерживать дистанцию, которая позволит водителю транспортного средства, осуществляющего обгон, перестроиться на ранее занимаемую полосу?

1. Транспортных средств с разрешенной максимальной массой более 10 т.
2. Транспортных средств, скорость движения которых не превышает 40 км/ч.
3. Транспортных средств, движущихся колонной со скоростью, не превышающей 60 км/ч.
4. Всех перечисленных выше транспортных средств.

Вопрос подобного содержания может быть поставлен вам на теоретическом экзамене в сервисном центре МВД Украины.

14. Обгон

14.1 Разрешается ли вам выполнить обгон движущегося впереди автомобиля?



1. Разрешается во всех случаях.
2. Запрещается во всех случаях.
3. Разрешается, если обгон будет завершен до перекрестка.

14.2 Разрешается ли водителю легкового автомобиля обогнать мотоцикл на мосту?



1. Запрещается.
2. Разрешается.

14.3 В чем должен убедиться водитель перед началом обгона?

1. Только в том, что проезжая часть, на которую он будет выезжать, имеет не менее двух полос для движения.
2. В том, что водитель транспортного средства, который движется за ним, не подал световой сигнал о намерении перестроения (обгона).
3. В том, что водитель транспортного средства, движущегося впереди по той же полосе, не подает сигнал о намерении поворота налево.
4. Во всем вышеперечисленном.

14.4 В каком месте вы можете начать обгон трактора?



1. На переезде.
2. Непосредственно после проезда железнодорожного полотна.
3. Непосредственно после проезда зоны переезда.

14.5 Разрешается ли вам обгон такой колонны?

1. Разрешается.
2. Запрещается.

14.6 Разрешается ли водителю кареты скорой медицинской помощи выполнить обгон гужевой повозки на этом перекрестке?



1. Разрешается.
2. Запрещается.

14.7 На каком из рисунков показан обгон?

1. На левом.
2. На правом.
3. На обоих.

14.8 Разрешено ли водителю белого автомобиля повышать скорость движения в изображенной ситуации?

1. Разрешено.
2. Запрещено.

14.9 На каких участках дорог запрещается выполнять обгон?

1. Имеющих две и более полос для движения в одном направлении.
2. Имеющих прерывистую белую линию дорожной разметки, разделяющую транспортные потоки противоположных направлений.
3. Со стороны прерывистой линии дорожной разметки, разделяющей транспортные потоки противоположных направлений, если параллельно ей нанесена сплошная линия дорожной разметки.

14.10 Разрешается ли водителю микроавтобуса выполнить обгон гужевой повозки на перекрестке равнозначных дорог?



1. Разрешается.
2. Запрещается.

Вопрос подобного содержания может быть поставлен вам на теоретическом экзамене в сервисном центре МВД Украины.

Объезд мотоцикла по направлению, указанному стрелкой на изображенном перекрестке:

1. Разрешается при соблюдении безопасного интервала.
2. Запрещается.

Перед началом обгона водитель должен убедиться в том, что при возвращении на ранее занимаемую полосу:

1. Не будет создано препятствие обгоняемому им транспортному средству.
2. Ему не придется снова начинать обгон.
3. Водитель движущегося впереди транспортного средства будет соблюдать безопасную дистанцию.

Разрешается ли водителю красного автомобиля выполнить обгон?

1. Разрешается.
2. Запрещается.

Водителю автомобиля выполнить обгон скутера:

1. Разрешено на любой дороге.
2. Разрешено только при движении по главной дороге.
3. Запрещено.

Обгон мотоцикла можно начать, если:



1. До пешеходного перехода не менее 100 м.
2. Он будет завершен не ближе 100 м до пешеходного перехода.

14.16 **По какому направлению, обозначенному стрелками, водителю мотоцикла разрешается выполнить опережение на этом участке дороги?**



1. Только по направлению «А».
2. Только по направлению «Б».
3. По любому направлению.

Разрешение на обгон одиночных транспортных средств, движущихся со скоростью менее 30 км/ч, распространяется:

1. Только на участок дороги, где установлены знаки «Обгон запрещен» и «Обгон грузовым автомобилям запрещен».
2. На всю улично-дорожную сеть.

Разрешается ли водителю желтого легкового автомобиля обгон этой колонны?

1. Разрешается.
2. Запрещается.

14.49 **Разрешается ли водителю микроавтобуса начать обгон в этой ситуации?**

1. Разрешается.
2. Запрещается.

Разрешается ли водителю легкового автомобиля выполнить опережение мотоцикла без выезда на полосу встречного движения?

1. Разрешается при соблюдении безопасного интервала.
2. Запрещается.

Вопрос подобного содержания может быть поставлен вам на теоретическом экзамене в сервисном центре МВД Украины.

Мотоциклисту начать обгон:

1. Разрешено.
2. Запрещено.

Разрешается ли водителю легкового автомобиля выполнить обгон на этом участке дороги?

1. Разрешается во всех случаях.
2. Запрещается во всех случаях.
3. Разрешается, если обгон будет завершен до начала тоннеля.

Разрешается ли водителю легкового автомобиля выполнить обгон?

1. Разрешается.
2. Запрещается.

Разрешается ли вам выполнить обгон на этом участке дороги?

1. Разрешается.
2. Запрещается.

Разрешается ли выполнять обгон на перекрестке?

1. Разрешается на регулируемых перекрестках.
2. Разрешается на нерегулируемых перекрестках во время движения по главной дороге.
3. Запрещается.
4. Разрешается только на перекрестках вне населенных пунктов.

Водитель какого транспортного средства нарушает Правила, выполняя обгон?



1. Микроавтобуса.
2. Легкового автомобиля.
3. Обоих перечисленных транспортных средств.

Разрешается ли вам в этом случае выполнить обгон автомобиля?



1. Разрешается.
2. Запрещается.
3. Разрешается, если скорость движения автомобиля менее 30 км/ч.

Согласно Правилам при обгоне управляемого вами автомобиля вы должны:

1. Сократить дистанцию до транспортного средства, движущегося впереди.
2. Не препятствовать обгону путем повышения скорости движения или иными действиями.
3. Принять вправо, подать звуковой сигнал.
4. Подать предупреждающий сигнал, принять правее.

Разрешается ли водителю кареты скорой медицинской помощи обогнать одновременно оба автомобиля на этом участке дороги?

1. Разрешается.
2. Запрещается.

Разрешается ли водителю грузового автомобиля выполнить обгон на этом перекрестке?

1. Разрешается.
2. Запрещается.
3. Разрешается, если скорость движущихся впереди транспортных средств менее 30 км/ч.

Вопрос подобного содержания может быть поставлен вам на теоретическом экзамене в сервисном центре МВД Украины.

Разрешается ли водителю грузового автомобиля выполнить обгон на изображенном перекрестке?

1. Разрешается.
2. Запрещается.
3. Разрешается, если скорость движущегося впереди микроавтобуса менее 30 км/ч.

Разрешается ли обгон колонны водителю легкового автомобиля?

1. Разрешается.
2. Запрещается.

В каких из перечисленных в ответах случаях запрещается выполнять обгон?

1. На спусках и подъемах.
2. Ближе чем за 50 м перед пешеходным переходом в населенном пункте и 100 м — вне населенного пункта.
3. В условиях недостаточной освещенности и в темное время суток.
4. Во всех перечисленных выше случаях.

Водитель какого транспортного средства нарушает Правила в этом случае?

1. Легкового автомобиля, выполняющего обгон.
2. Мотоцикла, выполняющего опережение.
3. Обоих перечисленных транспортных средств нарушают.
4. Обоих перечисленных транспортных средств не нарушают.

Разрешается ли вам выполнить обгон автомобиля на этом перекрестке равнозначных дорог?

1. Разрешается.
2. Запрещается.

Разрешается ли обгон транспортного средства, выполняющего объезд?

1. Разрешается, если ему не создаются препятствия.
2. Разрешается, если транспортное средство, которое производит обгон, выезжает на полосу, свободную от транспортных средств на достаточном расстоянии.
3. Запрещается.

14:37 **Разрешается ли водителю зеленого автомобиля выполнить обгон?**

1. Разрешается.
2. Разрешается только в случае, если скорость движения красного автомобиля менее 30 км/ч.
3. Запрещается.

Выполнить обгон в этом случае:



1. Разрешается.
2. Запрещается.

14:39 **Разрешается ли водителю троллейбуса выполнить опережение велосипедиста без выезда на полосу встречного движения?**



1. Разрешается при соблюдении безопасного интервала.
2. Запрещается.

Обгон микроавтобуса можно начать, если:

1. До перехода не ближе 50 м.
2. Он будет завершен не ближе чем 50 м до перехода.

Вопрос подобного содержания может быть поставлен вам на теоретическом экзамене в сервисном центре МВД Украины.

14.41 Разрешается ли обгон транспортных средств в тоннелях?

1. Разрешается.
2. Запрещается.
3. Запрещается только в тоннелях, обозначенных дорожным знаком «Тоннель».

14.42 Разрешается ли водителю красного автомобиля выполнить обгон желтого автомобиля?

1. Разрешается.
2. Запрещается.
3. Разрешается, если водитель желтого автомобиля начал выполнять поворот направо.

14.43 На этой дороге вам выполнить обгон микроавтобуса:



1. Разрешено.
2. Запрещено.

14.44 Если за пределами населенного пункта дорожная обстановка не позволяет выполнить обгон тихоходного транспортного средства, то водитель, управляющий им, должен остановить его при необходимости:

1. На обочине.
2. У края проезжей части.
3. Только в специально отведенном для этого месте.

14.45 Разрешается ли водителю автобуса выполнить опережение грузового автомобиля на путепроводе?

1. Разрешается.
2. Запрещается.
3. Разрешается только в случае, если опережение будет завершено после проезда путепровода.

14.46 Разрешается ли водителю легкового автомобиля обогнать грузовик на этом участке дороги?

1. Разрешается во всех случаях.
2. Запрещается во всех случаях.
3. Разрешается при отсутствии на достаточном для обгона расстоянии движущегося во встречном направлении транспорта.

14.47 Разрешается ли вам объехать грузовой автомобиль с правой стороны на изображенном перекрестке?

1. Разрешается при соблюдении безопасного интервала.
2. Запрещается.

14.48 Разрешается ли вам выполнить обгон этого грузового автомобиля?



1. Разрешается.
2. Запрещается.
3. Разрешается только в случае, когда он движется со скоростью менее 30 км/ч.

14.49 Разрешается ли вам выполнить обгон на этом участке дороги?

1. Разрешается.
2. Запрещается.

14.50 Разрешается ли вам выполнить обгон в этом случае?

1. Разрешается.
2. Запрещается.

Вопрос подобного содержания может быть поставлен вам на теоретическом экзамене в сервисном центре МВД Украины.

По какой из траекторий, согласно Правилам, будет выполняться обгон?



1. Только по «А».
2. Только по «Б».
3. По любой.

Разрешается ли вам в этом случае начать выполнение обгона?



1. Разрешается.
2. Запрещается.

Разрешается ли вам выполнить обгон в этом случае?

1. Разрешается.
2. Запрещается.

Должен ли в этом случае водитель грузового автомобиля остановиться на обочине для пропуска скопившихся сзади автомобилей?

1. Должен.
2. Не должен.
3. Должен только после окончания населенного пункта.

Разрешается ли вам выполнить обгон в этом случае?

1. Разрешается.
2. Запрещается.

Разрешается ли вам обогнать этот легковой автомобиль?

1. Разрешается.
2. Запрещается.

На каких участках дорог запрещается выполнять обгон?

1. Только на крутых поворотах.
2. На крутых поворотах и других участках дорог с ограниченной обзорностью.
3. На подъеме.
4. На всех перечисленных в ответах участках.

Разрешается ли водителю легкового автомобиля выполнить обгон?

1. Разрешается.
2. Запрещается.
3. Разрешается, если на переходе отсутствуют пешеходы.

Перед началом обгона вы должны убедиться в том, что:

1. Полоса встречного движения свободна от транспортных средств на достаточном для обгона расстоянии.
2. После обгона сможете, не создавая препятствия транспортным средствам, которые обгоняете, вернуться на правую полосу.
3. Выполняются оба вышеперечисленные условия.

В каких из перечисленных в ответах случаях водитель транспортного средства, выполняющий обгон, может оставаться на полосе встречного движения?

1. Только если после возвращения на ранее занимаемую полосу ему придется снова начать обгон.
2. Только если он не будет препятствовать транспортным средствам, движущимся за ним с более высокой скоростью.
3. В случаях, если выполняются условия, перечисленные в ответах 1 и 2.

Вопрос подобного содержания может быть поставлен вам на теоретическом экзамене в сервисном центре МВД Украины.

14.62 **На каком участке дороги запрещается обгон нерельсовых транспортных средств?**

1. В конце спуска.
2. В конце спуска и на подъеме.
3. Перед въездом в тоннель.
4. Имеющем четыре полосы движения в обоих направлениях.
5. На любом вышеперечисленном участке.

14.63 **Выполнить обгон на железнодорожных переездах:**

1. Разрешено только на регулируемых.
2. Разрешено только на регулируемых с одной колеей.
3. Запрещено на железнодорожных переездах и ближе чем за 100 м перед ними.

14.63 **Разрешается ли водителю легкового автомобиля завершить выполнение опережения в конце подъема?**

1. Разрешается.
2. Запрещается.

14.64 **Водитель какого транспортного средства нарушает Правила в этом случае?**

1. Легкового автомобиля, выполняющего опережение гужевой повозки.
2. Мотоцикла, выполняющего обгон.
3. Оба не нарушают.
4. Оба нарушают.

14.65 **Как должен поступить водитель тягача, если за ним скопились транспортные средства, а скорость движения тягача не превышает 35 км/ч?**

1. Остановить тягач на ближайшей по направлению движения площадке.
2. Принять правее и подать сигнал рукой о возможности обгона.
3. Остановить тягач на обочине и пропустить транспортные средства, движущиеся за ним.

14.66 **Разрешается ли водителю легкового автомобиля приступить к выполнению обгона?**

1. Разрешается.
2. Запрещается.

Вопрос подобного содержания может быть поставлен вам на теоретическом экзамене в сервисном центре МВД Украины.

15. Остановка и стоянка

Водитель какого транспортного средства правильно остановил его для высадки пассажира?



1. Только грузового автомобиля категории «В».
2. Только легкового автомобиля.
3. Оба правильно.
4. Оба неправильно.

На каком минимальном расстоянии от выезда со двора разрешается вам остановить транспортное средство для высадки пассажира?

1. 5 м.
2. 10 м.
3. 15 м.
4. 20 м.

На каком расстоянии от железнодорожного переезда разрешается стоянка транспортных средств?

1. Не ближе 50 м.
2. Не ближе установленных дорожных знаков «Однопутная железная дорога» или «Многопутная железная дорога».
3. Не ближе 25 м в населенных пунктах и 50 м — вне населенных пунктов.

Водители каких транспортных средств не нарушают Правила при стоянке на изображенной территории?

1. Красного легкового и грузового автомобилей.
2. Легковых красного и желтого и грузового автомобилей.
3. Грузового и легкового желтого автомобилей.
4. Легковых красного и синего автомобилей.
5. Всех перечисленных транспортных средств.

Разрешается ли водителю автобуса, перевозящего туристов, остановить его в этом месте для высадки пассажиров?

1. Разрешается.
2. Запрещается.

Водитель какого транспортного средства не нарушает Правила при постановке его на стоянку?

1. Мотоцикла.
2. Легкового автомобиля.
3. Обоих не нарушают.
4. Обоих нарушают.

Водитель какого транспортного средства правильно остановился для высадки пассажиров?



1. Только легкового автомобиля.
2. Только автобуса.
3. Обоих правильно.
4. Обоих неправильно.

Водитель какого автомобиля остановился для высадки пассажира с нарушением Правил?

1. Только желтого.
2. Только зеленого.
3. Обоих автомобилей.

15.9 Водитель какого транспортного средства нарушил Правила при остановке его на этом участке дороги?



1. Красного автомобиля.
2. Синего автомобиля.
3. Обоих нарушили.
4. Обоих не нарушили.

15.10 В каком случае происходит вынужденная остановка?

1. Остановка на проезжей части из-за технической неисправности транспортного средства.
2. Остановка, вызванная состоянием участника дорожного движения.
3. При появлении препятствия для движения.
4. Во всех перечисленных случаях.

Вопрос подобного содержания может быть поставлен вам на теоретическом экзамене в сервисном центре МВД Украины.

15-1 **Водитель какого транспортного средства правильно поставил его для стоянки на этом участке дороги?**



1. Только автобуса.
2. Только легкового автомобиля.
3. Обоих правильно.
4. Обоих неправильно.

15-2 **На каком трамвайном пути, расположенном слева от проезжей части для движения нерельсовых транспортных средств, разрешается остановка для выполнения требований Правил?**

1. Только на приподнятом над проезжей частью.
2. Только расположенном на одном уровне с проезжей частью.
3. На обоих.

В каком месте водитель может остановиться для посадки пассажира?



1. Только «А».
2. Только «Б».
3. Только «В».
4. «А» или «В».
5. Остановка на этом участке дороги запрещена.

Управляя легковым автомобилем в населенном пункте, вам разрешено остановку:



1. Только справа за знаком.
2. Справа за знаком или слева — в любом месте.
3. Справа или слева перед знаком.

Разрешается ли остановка транспортного средства напротив бокового проезда на Т-образном перекрестке?

1. Разрешается только при наличии сплошной линии разметки.
2. Разрешается только при наличии разделительной полосы.
3. Разрешается в обоих перечисленных выше случаях.
4. Запрещается.

В каком из указанных буквами месте вам разрешается остановить легковой автомобиль для высадки пассажира?



1. Только «А» или «В».
2. Только «Б» или «В».
3. Только «В».
4. В любом месте.

Оставить легковой автомобиль в изображенном положении для стоянки:

1. Разрешается только в жилой зоне.
2. Разрешается только в светлое время суток.
3. Запрещается.

Водитель какого транспортного средства правильно поставил его на стоянку на проезжей части?



1. Легкового автомобиля.
2. Грузового автомобиля.
3. Обоих правильно.
4. Обоих неправильно.

В каких местах остановка транспортных средств запрещается?

1. Только на железнодорожных переездах и в тоннелях.
2. Только на эстакадах, мостах, путепроводах и под ними.
3. Только в местах, где будет невозможен встречный разъезд или объезд остановившегося транспортного средства.
4. Во всех перечисленных выше местах.

Водитель какого транспортного средства неправильно остановился для высадки пассажиров на этом участке дороги?

1. Только грузового автомобиля.
2. Только легкового автомобиля.
3. Только мотоцикла.
4. Грузового и легкового автомобилей.
5. Всех перечисленных выше.

Вопрос подобного содержания может быть поставлен вам на теоретическом экзамене в сервисном центре МВД Украины.

Нарушают ли в этом случае правила остановки и стоянки водители транспортных средств?

1. Нарушает только автобуса.
2. Нарушает только мотоцикла.
3. Обоих нарушают.
4. Обоих не нарушают.

Водитель, оставляя транспортное средство, должен принять все меры к тому, чтобы не допустить:

1. Только его самопроизвольного движения.
2. Только проникновения в него.
3. Только незаконного завладения им.
4. Всего вышеперечисленного.
5. Только перечисленного в ответах 2 и 3.

Водитель какого транспортного средства нарушил правила остановки и стоянки в этом случае?



1. Мотоцикла.
2. Синего автомобиля.
3. Красного автомобиля.
4. Всех перечисленных нарушили.
5. Всех перечисленных не нарушили.

Правильно поставлен на стоянку:



1. Только зеленый автомобиль.
2. Только синий автомобиль.
3. Оба автомобиля.

Управляя легковым автомобилем, вы можете остановиться, чтобы высадить пассажира:



1. В положении «А».
2. В положении «Б».
3. Проехав вперед, остановиться через 30 м после остановки маршрутного транспорта.

В каких случаях разрешаются в населенных пунктах остановка и стоянка транспортных средств на левой стороне дороги, имеющей по одной полосе для движения в каждом направлении?

1. Если посередине отсутствуют трамвайные пути и она не разделена сплошной линией разметки.
2. Только если на дороге отсутствует движение троллейбусов.
3. В обоих перечисленных выше случаях.

Водитель какого транспортного средства нарушает правила остановки и стоянки в этом случае?

1. Только автомобиля.
2. Только мотоцикла.
3. Обоих нарушают.

На каком минимальном расстоянии от указателя автобусной остановки разрешается водителю легкового автомобиля остановить его для посадки пассажира?

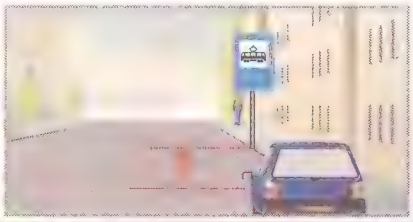

1. 15 м.
2. 20 м.
3. 30 м.
4. 40 м.

На каком рисунке остановка изображена с нарушением Правил?





1. На первом. 2. На втором. 3. На третьем.
4. На первом и втором.

Водитель какого транспортного средства нарушил Правила, поставив автомобиль на стоянку?

1. Синего легкового автомобиля.
2. Белого легкового автомобиля.
3. Обоих автомобилей.

Вопрос подобного содержания может быть поставлен вам на теоретическом экзамене в сервисном центре МВД Украины.

15.31 **На каком расстоянии от пешеходного перехода вы можете остановиться в левой полосе движения?**

1. Не ближе 10 м перед ним и 5 м за ним.
2. Не ближе 10 м и непосредственно за ним.
3. Не ближе 10 м от него с обеих сторон.

15.32 **Водителю белого автомобиля остановиться для высадки пассажира так, как показано на рисунке:**



1. Разрешено.
2. Запрещено.

15.33 **Остановиться водителю легкового автомобиля напротив остановки маршрутных транспортных средств:**

1. Разрешено.
2. Запрещено.

15.34 **Разрешается ли водителю грузового автомобиля остановить его в этом месте для высадки пассажира?**

1. Запрещается.
2. Разрешается.

15.35 **Водитель какого транспортного средства нарушает правила остановки и стоянки в этом случае?**



1. Только мотоцикла.
2. Только легкового автомобиля.
3. Обоих нарушают.
4. Обоих не нарушают.

15.36 **Разрешается ли ставить транспортные средства на проезжей части в два ряда?**

1. Разрешается на дорогах, имеющих по меньшей мере три полосы для движения в одном направлении.
2. Запрещается, за исключением только велосипедов и мопедов.
3. Запрещается, за исключением велосипедов, мопедов и мотоциклов без бокового прицепа.

15.37 **Водитель какого транспортного средства правильно остановил его для высадки пассажира?**

1. Мотоцикла с боковым прицепом.
2. Легкового автомобиля.
3. Обоих мотоциклов.
4. Всех перечисленных правильно.
5. Всех перечисленных неправильно.

15.38 **Водитель какого автомобиля остановился для высадки пассажира без нарушения Правил?**



1. Зеленого.
2. Красного.
3. Обоих.

15.39 **Водитель какого транспортного средства нарушает правила остановки в населенном пункте?**



1. Автобуса.
2. Мотоцикла.
3. Грузового автомобиля.
4. Всех перечисленных нарушают.

15.40 **Водитель какого транспортного средства нарушил правила остановки и стоянки в этом случае?**

1. Только легкового автомобиля.
2. Только грузового автомобиля.
3. Обоих не нарушают.
4. Обоих нарушают.

Вопрос подобного содержания может быть поставлен вам на теоретическом экзамене в сервисном центре МВД Украины.

15.41 В каком случае разрешаются остановка и стоянка вне населенных пунктов у правого края проезжей части?

1. Когда край проезжей части дороги обозначен линией разметки.
2. Только при отсутствии обочины или если остановка либо стоянка на ней невозможны.
3. В местах, где способ постановки не регламентируется средствами регулирования движения.

15.42 В каком из обозначенных буквами месте запрещается поставить автомобиль для стоянки?

1. Только «В».
2. Только «Б».
3. Только «А».
4. В любом обозначенном буквами месте.

15.43 Стоянка грузового автомобиля в этом случае:



1. Разрешается не более 1 часа.
2. Разрешается не более 2 часов.
3. Запрещается.

15.44 Водитель какого транспортного средства не нарушает правила остановки и стоянки?

1. Мотоцикла.
2. Легкового автомобиля.
3. Обоих не нарушают.
4. Обоих нарушают.

15.45 Разрешается ли ставить транспортные средства под углом к краю проезжей части?

1. Разрешается только на дорогах, имеющих по меньшей мере три полосы для движения в одном направлении.
2. Запрещается.
3. Разрешается в местах, где это не будет препятствовать движению других транспортных средств.

15.46 Разрешаются ли водителю микроавтобуса в этом месте остановка и стоянка?

1. Разрешаются остановка и стоянка.
2. Разрешается только остановка.
3. Запрещаются.

15.47 Остановиться для посадки пассажира водителю:

1. Запрещается.
2. Разрешается при отсутствии транспортных средств сзади.

15.48 Водитель какого транспортного средства не нарушает Правила, поставив его на стоянку в этом месте?

1. Красного автомобиля.
2. Мотоцикла.
3. Желтого автомобиля.
4. Красного автомобиля и мотоцикла.

15.49 В месте, где водитель поставил автомобиль:

1. Разрешается только остановка.
2. Остановка и стоянка запрещаются.
3. Разрешаются остановка и стоянка.

15.50 На каком минимальном расстоянии от пешеходного перехода разрешается остановка транспортных средств?

1. Не ближе 50 м от него с обеих сторон в населенном пункте и 100 м — вне населенного пункта.
2. Не ближе 50 м перед ним в населенном пункте и 100 м — вне населенного пункта.
3. Не ближе 10 м от него с обеих сторон.

Вопрос подобного содержания может быть поставлен вам на теоретическом экзамене в сервисном центре МВД Украины.

Стоянка грузового автомобиля в указанном месте разрешается:

1. При видимости 50 м хотя бы в одном направлении.
2. При видимости до 100 м в одном направлении.
3. При видимости не менее 100 м в обоих направлениях.

При отсутствии специально отведенных мест для стоянки в жилой зоне вы можете остановить легковой автомобиль, если до противоположного края подъездной дороги остается не менее:



1. 2 м.
2. 3 м.
3. 4.м.

При отсутствии соответствующих дорожных знаков с табличкой, запрещающих остановку и стоянку, поставить грузовой автомобиль на стоянку разрешается:

1. У правого края проезжей части.
2. На тротуаре справа.
3. В любом перечисленном выше месте.

Какой частью транспортного средства разрешается ставить его под углом к краю проезжей части для стоянки у тротуаров (за исключением подъемов)?

1. Только передней частью.
2. Только задней частью.
3. Задней или передней частью.

Водитель какого транспортного средства нарушил Правила при стоянке на этом участке дороги?

1. Только грузового автомобиля.
2. Только легкового автомобиля.
3. Обоих нарушили.
4. Обоих не нарушили.

Водитель какого транспортного средства не нарушает правила стоянки в условиях недостаточной видимости на этом участке дороги?

1. Легкового автомобиля.
2. Грузового автомобиля.
3. Обоих не нарушают.
4. Обоих нарушают.

Водитель какого транспортного средства нарушает правила остановки и стоянки в этом случае?

1. Грузового автомобиля.
2. Легкового автомобиля.
3. Мотоцикла.
4. Мотоцикла и легкового автомобиля.
5. Всех перечисленных не нарушают.

Водители каких автомобилей нарушают правила остановки и стоянки в этом случае?

1. Только красного.
2. Только синего.
3. Только желтого.
4. Желтого и красного.
5. Красного и синего.

Управляя легковым автомобилем в населенном пункте, вам разрешается остановка:

1. Только справа за знаком.
2. Справа за знаком или слева — в любом месте.
3. Справа или слева перед знаком.

Каким транспортным средствам разрешается стоянка на проезжей части вдоль тротуара в зоне действия этого знака с табличкой?

1. Только легковым автомобилям.
2. Только легковым автомобилям и автобусам.
3. Всем транспортным средствам.

Вопрос подобного содержания может быть поставлен вам на теоретическом экзамене в сервисном центре МВД Украины.

15.61 **Водитель какого транспортного средства не нарушает правила остановки и стоянки в этом случае?**

1. Только мотоцикла.
2. Только грузового автомобиля.
3. Обоих не нарушают.
4. Обоих нарушают.

Водителю какого транспортного средства разрешается выехать на левую сторону дороги для разгрузки груза после проезда знака?

1. Только микроавтобуса.
2. Только грузового автомобиля категории «В».
3. Обоих транспортных средств.

На каком минимальном расстоянии от указателя остановки маршрутных транспортных средств разрешается остановка других транспортных средств?

1. 40 м.
2. 30 м.
3. 20 м.
4. 10 м.

Разрешается ли водителю оставить автомобиль в этом месте для вызова технической помощи при отказе работы двигателя?

1. Разрешается.
2. Запрещается.

Водитель какого транспортного средства правильно остановился для пропуска пешехода?

1. Только легкового автомобиля.
2. Только мотоцикла.
3. Обоих правильно.
4. Обоих неправильно.

Остановка транспортных средств на железнодорожных переездах запрещается:

1. Только на регулируемых.
2. Только на нерегулируемых.
3. На всех.

15.67 **Водитель какого автомобиля правильно остановил его для высадки (посадки) пассажиров?**

1. Красного автомобиля.
2. Синего автомобиля.
3. Обоих правильно.
4. Обоих неправильно.

15.68 **Какая комбинация дорожных знаков позволяет стоянку легковых автомобилей и мотоциклов?**



1. Только первая. 2. Вторая, третья, четвертая и пятая. 3. Все.

На каком минимальном расстоянии от обозначенного места выполнения дорожных работ разрешается остановка транспортного средства?

1. 5 м.
2. 10 м.
3. 15 м.
4. 30 м.

Водители каких транспортных средств неправильно поставили их на стоянку?

1. Желтого мотоцикла.
2. Красного легкового автомобиля.
3. Зеленого легкового автомобиля, микроавтобуса и синего мотоцикла.
4. Красного автомобиля и желтого мотоцикла.

Вопрос подобного содержания может быть поставлен вам на теоретическом экзамене в сервисном центре МВД Украины.

Остановиться под путепроводом водителю легкового автомобиля, чтобы переждать сильный дождь:

1. Разрешено.
2. Запрещено.

Водитель какого транспортного средства нарушает требования Правил при постановке его на стоянку?



1. Только автомобиля «Скорой помощи».
2. Желтого и зеленого автомобилей.
3. Только желтого автомобиля.
4. Всех перечисленных нарушают.
5. Всех перечисленных не нарушают.

Разрешается ли водителю легкового автомобиля остановить его на этом участке дороги?

1. Разрешается для посадки и высадки пассажиров.
2. Разрешается для погрузки и разгрузки груза.
3. Разрешается в обоих вышеперечисленных случаях.
4. Запрещается.

Стоянка транспортных средств запрещена там, где запрещена остановка:

1. Только дорожным знаком «Остановка запрещена».
2. Требованиями раздела Правил «Остановка и стоянка».

Остановка транспортных средств запрещена:

1. Только на мостах.
2. Только на эстакадах.
3. Только на путепроводах и под ними.
4. Во всех вышеперечисленных местах.

Управляя легковым автомобилем, разрешается ли вам остановиться для посадки и высадки пассажиров на этом участке дороги?



1. Разрешается не ближе 10 м перед перекрестком.
2. Разрешается не ближе 10 м за перекрестком.
3. Остановка на этом участке дороги запрещена.

Разрешено ли Правилами водителю автомобиля в этом месте поставить автомобиль на 20 минут?

1. Разрешено.
2. Запрещено.

В изображенном на рисунке месте водителю запрещается:

1. Остановка и стоянка.
2. Только стоянка.

Водитель какого транспортного средства правильно поставил его на стоянку?



1. Только легкового автомобиля.
2. Только грузового автомобиля с разрешенной максимальной массой до 3,5 т.
3. Всех транспортных средств, кроме автобуса.

Водитель какого транспортного средства нарушил правила остановки и стоянки в этом случае?



1. Только мотоцикла.
2. Только зеленого и красного автомобилей.
3. Всех, кроме желтого автомобиля.
4. Всех транспортных средств.

Вопрос подобного содержания может быть поставлен вам на теоретическом экзамене в сервисном центре МВД Украины.

Водитель какого автомобиля правильно остановил его для высадки пассажиров в этом случае?



1. Обоих правильно.
2. Только легкового автомобиля.
3. Обоих неправильно.
4. Только грузового автомобиля.

Разрешаются ли в населенных пунктах остановка и стоянка транспортных средств на левой стороне дороги с односторонним движением?

1. Разрешаются.
2. Разрешаются только на участках, имеющих не более двух полос для движения.
3. Разрешаются только на участках, имеющих не более чем три полосы для движения.
4. Запрещаются во всех случаях.

Нарушают ли водители транспортных средств Правила, поставив их на стоянку?



1. Нарушает только водитель синего автомобиля.
2. Нарушает только водитель желтого автомобиля.
3. Обоих нарушают.
4. Обоих не нарушают.

Водитель какого транспортного средства не нарушает правил остановки и стоянки в этом случае?

1. Мотоцикла и легкового автомобиля.
2. Автобуса.
3. Всех перечисленных не нарушают.

Водители каких транспортных средств правильно выполнили поворот передних колес для предупреждения скатывания автомобиля при остановке на подъеме и спуске?



1. «А» и «Г».
2. «Б» и «В».
3. «Б» и «Г».
4. «А» и «В».

Разрешаются ли такие остановка и стоянка транспортных средств?

1. Разрешаются.
2. Запрещаются.
3. Разрешаются, если водители включат аварийную световую сигнализацию.

На стоянку правильно поставлены:

1. Только мопеды.
2. Только велосипеды.
3. Только автомобиль.
4. Все перечисленные транспортные средства.
5. Только мопеды и велосипеды.

Для выполнения стоянки в показанных дорожных условиях водитель должен:

1. Съехать на обочину.
2. Заехать на площадку для стоянки или за пределы дороги.

15.89 **В этом месте водителю автомобиля разрешено:**

1. Только остановку.
2. Только стоянку.
3. Остановку и стоянку.

Водитель какого автомобиля нарушает правила остановки и стоянки в этом случае?

1. Синего цвета.
2. Красного цвета.
3. Обоих нарушают.

Вопрос подобного содержания может быть поставлен вам на теоретическом экзамене в сервисном центре МВД Украины.

Разрешается ли водителю остановить автобус на этом участке дороги для высадки пассажиров?

1. Разрешается.
2. Запрещается.

Водитель какого транспортного средства не нарушает Правила, остановив его для посадки (высадки) пассажира?

1. Только легкового автомобиля.
2. Микроавтобуса и мотоцикла.
3. Только мотоцикла.
4. Легкового автомобиля и мотоцикла.
5. Всех перечисленных не нарушают.

Управляя легковым автомобилем, вам разрешается его остановить для высадки пассажира на:

1. Правой крайней полосе.
2. Полосе, по которой вы движетесь.
3. Любой из полос.

Водитель какого транспортного средства нарушает правила остановки и стоянки?



1. Только грузового автомобиля.
2. Только автобуса.
3. Обоих нарушают.
4. Обоих не нарушают.

Разрешаются ли такие остановка и стоянка транспортных средств?

1. Разрешаются только водителю легкового автомобиля.
2. Разрешаются только водителю микроавтобуса.
3. Водителям обоих транспортных средств разрешаются.

Водитель какого транспортного средства правильно остановил его для посадки пассажира?

1. Только мотоцикла.
2. Легкового автомобиля.
3. Обоих транспортных средств.

Водитель какого автомобиля остановился без нарушения Правил?

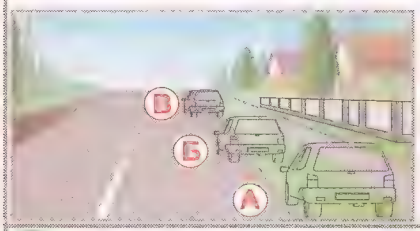

1. «А».
2. «Б».
3. «В».

Водитель какого транспортного средства правильно поставил его на стоянку?

1. Красного автомобиля.
2. Желтого автомобиля.
3. Зеленого автомобиля.
4. Мотоцикла.

Оставлять открытыми двери легкового автомобиля:

1. Запрещается только на дорогах с односторонним движением.
2. Запрещается только в темное время суток.
3. Запрещается только если это угрожает безопасности и создает препятствия.

Водитель какого автомобиля правильно остановился для высадки пассажира?



1. Только желтого.
2. Только белого.
3. Обоих автомобилей.

Вопрос подобного содержания может быть поставлен вам на теоретическом экзамене в сервисном центре МВД Украины.

15.101 **Водителю красного автомобиля остановиться для уточнения маршрута так, как показано на рисунке:**

1. Разрешено.
2. Запрещено.

15.102 **На участке дороги, обозначенном дорожным знаком «Место для стоянки» с табличкой, указывающей способ постановки транспортного средства на тротуаре, стоянка разрешается:**

1. На тротуаре и (или) проезжей части вдоль тротуара.
2. На тротуаре и (или) проезжей части под углом.
3. Только на тротуаре так, как показано на табличке.

15.103 **Разрешено ли водителю легкового автомобиля остановиться на мосту для высадки пассажира?**

1. Запрещено.
2. Разрешено.

15.104 **На путепроводе, что имеет три полосы для движения в одном направлении, водителю микроавтобуса остановиться:**

1. Разрешается только в правой крайней полосе.
2. Запрещается.

15.105 **На обозначенной дорожными знаками площадке правильно поставлены на стоянку:**

1. Только мотоциклы.
2. Только легковой автомобиль.
3. Только микроавтобус.
4. Все транспортные средства.
5. Микроавтобус и легковой автомобиль.

15.106 **Водители каких транспортных средств нарушают Правила, поставив их на стоянку на этом участке дороги?**

1. Только легкового автомобиля.
2. Только автобуса и грузового автомобиля.
3. Только мотоцикла.
4. Всех перечисленных нарушают.
5. Всех перечисленных не нарушают.

Водитель какого автомобиля правильно поставил его на стоянку?

1. Только красного.
2. Только синего.
3. Обоих автомобилей.

15.108 **В каких случаях разрешается остановка на трамвайном пути попутного направления, расположенном у правого края проезжей части?**

1. Только для посадки (высадки) пассажиров или выполнения требований Правил дорожного движения.
2. Во всех, но только на время до 5 минут.
3. Во всех, но только для погрузки (разгрузки) груза.
4. Во всех перечисленных выше случаях.

Разрешается ли водителю легкового автомобиля высадить пассажира на посадочную площадку в этом случае?

1. Разрешается.
2. Разрешается, если это не препятствует другим участникам движения.
3. Запрещается.

Каким из перечисленных в ответах транспортным средствам разрешаются остановка и стоянка на обочине?

1. Только легковым автомобилям.
2. Только мотоциклам.
3. Только грузовым автомобилям.
4. Всем перечисленным транспортным средствам.

Вопрос подобного содержания может быть поставлен вам на теоретическом экзамене в сервисном центре МВД Украины.

15.111 При каком минимальном расстоянии видимости в зоне опасного поворота разрешается стоянка транспортных средств вне населенного пункта?

1. 100 м.
2. 150 м.
3. 200 м.
4. 300 м.

15.112 Что должен сделать водитель при вынужденной остановке?



1. Только включить аварийную световую сигнализацию.
2. Только установить знак аварийной остановки.
3. В зависимости от условий видимости выполнить оба действия.

15.113 Каким транспортным средствам разрешено стоянку на проезжей части вдоль тротуара в зоне действия этого знака с табличкой?

1. Только легковым автомобилям.
2. Только легковым автомобилям и автобусам.
3. Всем транспортным средствам.

15.114 В каких местах, согласно Правилам, запрещается стоянка транспортных средств?

1. Только там, где они создают препятствие для движения других транспортных средств при въезде или выезде.
2. Только там, где они создают препятствие для движения пешеходов.
3. Во всех перечисленных выше местах.

15.115 В этом месте водителю автомобиля разрешено:



1. Только остановку.
2. Только стоянку.
3. Остановку и стоянку.

В изображенных дорожных условиях водитель может осуществить:

1. Только остановку.
2. Только стоянку.
3. Остановку или стоянку.

15.117 Водитель какого транспортного средства правильно остановил его для высадки пассажира в этом случае?



1. Микроавтобуса.
2. Легкового автомобиля.
3. Обоих правильно.
4. Обоих неправильно.

Разрешается ли вам на легковом автомобиле остановиться в обозначенном желтой разметкой месте для посадки пассажира?



1. Разрешается.
2. Разрешается, если не будет создано помех автобусу.
3. Запрещается.

15.119 Водитель какого автомобиля-такси правильно остановился для высадки пассажиров?

1. Желтого цвета.
2. Зеленого цвета.
3. Обоих правильно.
4. Обоих неправильно.

15.120 Кто из водителей нарушил правила стоянки?



1. Только грузового автомобиля.
2. Только мотоцикла.
3. Грузового автомобиля и мотоцикла.
4. Всех транспортных средств.

Вопрос подобного содержания может быть поставлен вам на теоретическом экзамене в сервисном центре МВД Украины.

15.121 **Водитель какого автомобиля правильно остановил его для высадки пассажира?**

1. Синего автомобиля.
2. Красного автомобиля.
3. Обоих правильно.
4. Обоих неправильно.

15.122 **Водитель какого транспортного средства правильно остановился для высадки пассажиров?**



1. Только мотоцикла.
2. Только микроавтобуса.
3. Обоих правильно.
4. Обоих неправильно.

15.123 **Водитель какого автомобиля нарушил Правила, поставив его на стоянку на этом участке дороги?**

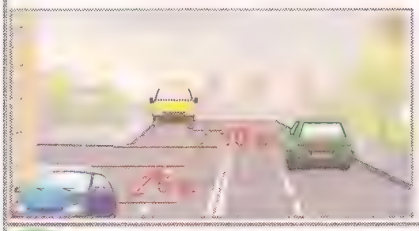

1. Только синего автомобиля.
2. Только микроавтобуса.
3. Водители синего и зеленого автомобилей.
4. Всех перечисленных не нарушили.
5. Всех перечисленных нарушили.

15.124 **Остановиться для высадки пассажира, если до края пересекаемой проезжей части остается 10 м:**

1. Разрешается.
2. Запрещается.

15.125 **Водители каких транспортных средств не нарушают правила остановки и стоянки в этом случае?**



1. Грузового автомобиля.
2. Мотоцикла.
3. Легкового автомобиля.
4. Легкового автомобиля и мотоцикла.
5. Всех перечисленных не нарушают.

15.126 **Водителю микроавтобуса категории «В» останавливаться для высадки пассажира на таком перекрестке:**

1. Запрещается.
2. Разрешается.

15.127 **Водитель какого автомобиля правильно остановился для высадки пассажира?**

1. Только красного автомобиля.
2. Только желтого автомобиля.
3. Обоих неправильно.
4. Обоих правильно.

15.128 **В каких местах вне населенных пунктов разрешается стоянка транспортного средства в темное время суток и в условиях недостаточной видимости?**

1. На площадках для стоянки или за пределами дороги.
2. На правой обочине, а если она отсутствует, то у края проезжей части.
3. На разделительной полосе.
4. Во всех перечисленных выше местах.

15.129 **При отсутствии на пешеходном переходе пешеходов неправильно остановился для высадки пассажира:**

1. Только водитель мопеда.
2. Только водитель мотоцикла.
3. Водители обоих транспортных средств.

15.130 **Остановка транспортных средств запрещается:**

1. Только на регулируемых перекрестках и ближе 10 м от края пересекаемой проезжей части.
2. Только на нерегулируемых перекрестках и ближе 10 м от края пересекаемой проезжей части.
3. На всех перекрестках и ближе 10 м от края пересекаемой проезжей части.

Вопрос подобного содержания может быть поставлен вам на теоретическом экзамене в сервисном центре МВД Украины.

16. Проезд перекрестков

16.1 Вы должны уступить дорогу:

1. Только встречному автомобилю.
2. Только синему автомобилю.
3. Обоим транспортным средствам.

16.2 В этом случае водитель мотоцикла:

1. Должен уступить дорогу встречному автомобилю.
2. Имеет преимущество в движении перед водителем встречного автомобиля.

16.3 Водитель красного легкового автомобиля должен уступить дорогу:

1. Только встречному автомобилю.
2. Только синему автомобилю.
3. Только встречному автомобилю и пешеходу.
4. Всем участникам движения.

16.4 На этом перекрестке вы:

1. Должны уступить дорогу микроавтобусу.
2. Имеете преимущество в движении перед микроавтобусом.

16.5 На этом перекрестке вы:

1. Должны уступить дорогу легковому автомобилю.
2. Имеете преимущество в движении.

16.6 Вы имеете преимущество в движении:

1. Только перед водителем автомобиля.
2. Только перед велосипедистом.
3. Перед водителем автомобиля и велосипедистом.

16.7 На этом перекрестке вы:

1. Должны уступить дорогу трактору.
2. Имеете преимущество в движении перед водителем трактора.

16.8 На этом перекрестке вы:



1. Должны уступить дорогу встречному автомобилю.
2. Имеете преимущество в движении перед водителем встречного автомобиля.

16.9 На этом перекрестке вы:

1. Имеете преимущество в движении.
2. Должны уступить дорогу только трамваю.
3. Должны уступить дорогу только пешеходам.
4. Должны уступить дорогу трамваю и пешеходам.

16.10 На этом перекрестке вы:

1. Имеете преимущество в движении перед водителем трамвая.
2. Должны уступить дорогу трамваю.

Вопрос подобного содержания может быть поставлен вам на теоретическом экзамене в сервисном центре МВД Украины.

Водитель какого легкового автомобиля должен уступить дорогу пешеходу?

1. Только желтого.
2. Только красного.
3. Обоих автомобилей.

При включении зеленого сигнала светофора вы:



1. Проедете перекресток с преимуществом перед водителем трактора.
2. Должны уступить дорогу трактору для завершения проезда перекрестка.

Вы имеете преимущество в движении:

1. Только перед водителем автомобиля.
2. Только перед водителем мотоцикла.
3. Перед водителями обоих транспортных средств.

16.14 Какие перекрестки считаются регулируемыми?

1. Где очередность проезда определяется только сигналами регулировщика.
2. Где очередность проезда определяется только сигналами светофора.
3. Где очередность проезда определяется только дорожными знаками приоритета.
4. Все перечисленные выше.
5. Перечисленные в ответах 1 и 2.

Двигаясь на велосипеде на этом перекрестке, вы:

1. Имеете преимущество перед водителем трамвая.
2. Должны уступить дорогу трамваю.

16.16 В каком из обозначенных буквами месте вы должны остановить транспортное средство, чтобы уступить дорогу встречному автомобилю?



1. Только «А».
2. Только «Б».
3. «А» или «Б».

16.17 На этом перекрестке вы должны уступить дорогу:

1. Только микроавтобусу.
2. Только встречному автомобилю.
3. Обоим транспортным средствам.

На этом перекрестке вы должны уступить дорогу:



1. Только велосипедисту.
2. Только грузовому автомобилю.
3. Грузовому автомобилю и велосипедисту.

При проезде перекрестка вы:



1. Должны уступить дорогу только попутному трамваю.
2. Должны уступить дорогу только встречному трамваю.
3. Должны уступить дорогу обоим трамваям.
4. Имеете преимущество в движении.

16.20 Разворачиваясь на этом перекрестке, вы должны уступить дорогу:

1. Только трамваю.
2. Только автобусу.
3. Только микроавтобусу.
4. Всем транспортным средствам.

Вопрос подобного содержания может быть поставлен вам на теоретическом экзамене в сервисном центре МВД Украины.

На этом перекрестке вы должны уступить дорогу:

1. Только автомобилю полиции.
2. Только скутеру.
3. Обоим транспортным средствам.

На этом перекрестке вы должны уступить дорогу:

1. Только трамваю.
2. Только микроавтобусу.
3. Обоим транспортным средствам.

16.23 **На этом перекрестке вы должны уступить дорогу:**

1. Только легковому автомобилю.
2. Только пешеходу.
3. Легковому автомобилю и пешеходу.

16.24 **На этом перекрестке вы:**



1. Должны уступить дорогу только микроавтобусу.
2. Должны уступить дорогу только встречному автомобилю.
3. Должны уступить дорогу обоим транспортным средствам.
4. Имеете преимущество в движении .

В этом случае вы:



1. Должны уступить дорогу встречному автомобилю.
2. Имеете преимущество в движении перед водителем встречного автомобиля.

На этом перекрестке вы имеете преимущество в движении:



1. Только перед водителем красного автомобиля.
2. Только перед водителем зеленого автомобиля.
3. Перед водителями обоих транспортных средств.

На этом перекрестке вы должны уступить дорогу:



1. Только легковому автомобилю.
2. Только трамваю.
3. Обоим транспортным средствам.

Поворачивая налево, вы имеете преимущество в движении:

1. Только перед водителем грузового автомобиля.
2. Только перед водителем микроавтобуса.
3. Только перед водителем мотоцикла.
4. Перед водителями всех транспортных средств.

16.29 **Во время проезда этого перекрестка вы:**

1. Должны уступить дорогу трамваю.
2. Имеете преимущество в движении .

16.30 **На этом перекрестке, когда карета скорой медицинской помощи движется с включенным только специальным звуковым сигналом, вы:**



1. Должны уступить дорогу карете скорой медицинской помощи.
2. Имеете преимущество в движении перед водителем кареты скорой медицинской помощи.

Вопрос подобного содержания может быть поставлен вам на теоретическом экзамене в сервисном центре МВД Украины.

16.31 При проезде перекрестка вы:

1. Имеете преимущество в движении.
2. Должны уступить дорогу встречному автобусу.

16.32 Вы имеете преимущество в движении:

1. Только перед водителем грузового автомобиля.
2. Только перед водителем микроавтобуса.
3. Перед водителями обоих транспортных средств.

В этом случае вы должны уступить дорогу:

1. Только встречному легковому автомобилю.
2. Только автомобилю синего цвета.
3. Обоим транспортным средствам.

Водитель какого автомобиля остановился без нарушения правил для предоставления преимущества в движении на перекрестке?

1. Только мотоцикла.
2. Только легкового автомобиля.
3. Обоих транспортных средств.

На этом перекрестке вы:

1. Должны остановиться перед светофором.
2. Проедете перекресток без остановки.

16.36 На этом перекрестке вы имеете преимущество в движении:

1. Только перед водителем встречного автомобиля.
2. Только перед водителем трамвая.
3. Перед водителями обоих транспортных средств.

16.37 На этом перекрестке вы:

1. Должны уступить дорогу гужевой повозке.
2. Имеете преимущество в движении перед погонщиком животного.

На этом перекрестке вы:

1. Имеете преимущество в движении перед водителем кареты скорой помощи.
2. Должны уступить дорогу карете скорой помощи.

16.39 Вы должны уступить дорогу:



1. Только микроавтобусу.
2. Только трамваю.
3. Обоим транспортным средствам.

16.40 На этом перекрестке вы имеете преимущество в движении:

1. Только перед водителем грузового автомобиля.
2. Только перед водителем легкового автомобиля.
3. Перед водителями обоих транспортных средств.

Вопрос подобного содержания может быть поставлен вам на теоретическом экзамене в сервисном центре МВД Украины.

На этом перекрестке преимущество в движении:

1. Имеете вы.
2. Имеет водитель легкового автомобиля.

Вы имеете преимущество в движении:



1. Только перед водителем микроавтобуса.
2. Только перед водителем грузового автомобиля.
3. Перед водителями обоих транспортных средств.

16.43 **На этом перекрестке вы имеете преимущество в движении:**

1. Только перед водителем легкового автомобиля.
2. Только перед водителем трамвая.
3. Перед водителями обоих транспортных средств.

На этом перекрестке:

1. Имеет преимущество возчик.
2. Вы имеете преимущество в движении.

При повороте направо вы должны уступить дорогу пешеходам:



1. Только заканчивающим переход проезжей части.
2. Только ступившим на пешеходный переход.
3. Всем перечисленным в ответах.

При проезде этого перекрестка вы:



1. Должны уступить дорогу только трамваю.
2. Должны уступить дорогу только пешеходам.
3. Должны уступить дорогу трамваю и пешеходам.
4. Имеете преимущество в движении.

16.47 **Водитель автомобиля с прицепом имеет преимущество в движении:**

1. Только перед водителем трамвая.
2. Только перед водителем легкового автомобиля.
3. Перед водителями обоих транспортных средств.

При проезде перекрестка в этом случае вы:



1. Имеете преимущество в движении.
2. Должны уступить дорогу только мотоциклу.
3. Должны уступить дорогу только автомобилю.
4. Должны уступить дорогу обоим транспортным средствам.

16.49 **На этом перекрестке вы должны уступить дорогу:**

1. Только трамваю.
2. Только пешеходу.
3. Трамваю и пешеходу.

На этом перекрестке вы:



1. Должны уступить дорогу автомобилю с включенным маячком.
2. Имеете преимущество в движении перед водителем автомобиля с включенным маячком.

Вопрос подобного содержания может быть поставлен вам на теоретическом экзамене в сервисном центре МВД Украины.

На этом перекрестке водитель легкового автомобиля:



1. Имеет преимущество в движении перед водителем трамвая.
2. Обязан уступить дорогу трамваю.

При проезде этого перекрестка вы:

1. Должны уступить дорогу только пешеходам.
2. Должны уступить дорогу только мотоциклу.
3. Должны уступить дорогу пешеходам и мотоциклу.
4. Имеете преимущество в движении.

16.53 **На этом перекрестке вы должны уступить дорогу велосипедисту:**

1. Если он поворачивает направо.
2. Если он поворачивает налево.
3. Независимо от направления его дальнейшего движения.

В этом случае вы:

1. Имеете преимущество в движении перед водителем автомобиля.
2. Должны уступить дорогу автомобилю и сопровождаемым им транспортным средствам.

Водитель грузового автомобиля, намереваясь двигаться прямо, при этих сигналах светофора должен:



1. Продолжить движение в направлении, указанном стрелкой.
2. Продолжить движение за стоп-линию, чтобы дать вам возможность повернуть направо.
3. Дождаться включения сигнала зеленого цвета основного светофора и продолжить движение.

На этом перекрестке вы должны уступить дорогу:



1. Только легковому автомобилю.
2. Только микроавтобусу.
3. Обоим транспортным средствам.

На этом перекрестке вы должны уступить дорогу:



1. Только велосипедисту.
2. Только трамваю.
3. Обоим транспортным средствам.

На этом перекрестке вы:

1. Должны уступить дорогу грузовому автомобилю.
2. Имеете преимущество в движении перед водителем грузового автомобиля.

Какие перекрестки считаются нерегулируемыми?

1. Только те, на которых выключены светофоры.
2. Только те, на которых светофоры работают в режиме мигания сигнала желтого цвета и отсутствует регулировщик.
3. Только те, на которых установлены дорожные знаки приоритета и отсутствуют светофоры.
4. Все перечисленные выше.
5. Только перечисленные в ответах 1 и 2.

Вы имеете преимущество в движении:

1. Только перед водителем встречного автомобиля.
2. Только перед водителем легкового автомобиля.
3. Только перед пешеходами.
4. Только перед водителями транспортных средств.
5. Перед всеми вышеперечисленными участниками дорожного движения.

Вопрос подобного содержания может быть поставлен вам на теоретическом экзамене в сервисном центре МВД Украины.

В этом случае вы:

1. Должны уступить дорогу встречному автомобилю.
2. Имеете преимущество в движении перед водителем встречного автомобиля.

16.62 На этом перекрестке вы:

1. Должны уступить дорогу велосипедисту.
2. Имеете преимущество в движении.

На этом перекрестке вы имеете преимущество в движении:

1. Только перед водителем трамвая.
2. Только перед водителем легкового автомобиля и трамвая.
3. Только перед водителем легкового автомобиля и пешеходами.
4. Перед всеми перечисленными участниками движения.

Разворачиваясь на этом перекрестке, вы:



1. Должны уступить дорогу только грузовому автомобилю.
2. Должны уступить дорогу только легковому автомобилю.
3. Должны уступить дорогу обоим транспортным средствам.
4. Имеете преимущество в движении.

Какие транспортные средства имеют преимущество в движении на нерегулируемом перекрестке равнозначных дорог?

1. Нерельсовые транспортные средства.
2. Трамвай.
3. Только нерельсовые транспортные средства, перевозящие людей и движущиеся по установленным маршрутам.

На этом перекрестке вы должны уступить дорогу:



1. Только легковому автомобилю.
2. Только велосипедисту.
3. Легковому автомобилю и велосипедисту.

16.67 На этом перекрестке вы должны уступить дорогу:

1. Только трамваю.
2. Только автобусу.
3. Водителям обоих транспортных средств.

На этом перекрестке вы:



1. Должны уступить дорогу трактору.
2. Имеете преимущество в движении перед водителем трактора.

На этом перекрестке вы должны уступить дорогу:

1. Только автомобилю.
2. Только пешеходам.
3. Автомобилю и пешеходам.

При включении зеленого сигнала светофора вы должны:

1. Дать возможность пешеходу перейти дорогу.
2. Дать дорогу только легковому автомобилю.
3. Выполнить оба действия.

Вопрос подобного содержания может быть поставлен вам на теоретическом экзамене в сервисном центре МВД Украины.

16.71 На этом перекрестке вы:

1. Имеете преимущество в движении перед водителем встречного автомобиля.
2. Должны уступить дорогу встречному автомобилю.

16.72 На этом перекрестке вы должны уступить дорогу:



1. Только легковому автомобилю.
2. Только велосипедисту.
3. Легковому автомобилю и велосипедисту.

16.73 На этом перекрестке вы:

1. Должны уступить дорогу гужевой повозке.
2. Имеете преимущество в движении перед возчиком.

На этом перекрестке вы:

1. Должны уступить дорогу автомобилю с включенным маячком.
2. Имеете преимущество в движении перед водителем автомобиля с включенным маячком.

Вы имеете преимущество в движении:

1. Только перед велосипедистом.
2. Только перед водителем автомобиля.
3. Перед водителями обоих транспортных средств.

На этом перекрестке вы должны уступить дорогу:



1. Только трамваю.
2. Только легковому автомобилю.
3. Обоим транспортным средствам.

16.77 При включении зеленого сигнала светофора в этом случае вы:

1. Должны уступить дорогу пешеходу.
2. Должны подать звуковой сигнал для предоставления вам преимущества в движении.
3. Имеете преимущество при проезде перекрестка.

На этом перекрестке вы должны уступить дорогу:

1. Только велосипедисту.
2. Только пешеходу.
3. Обоим участникам движения.

На этом перекрестке вы имеете преимущество в движении:

1. Только перед водителем легкового автомобиля.
2. Только перед велосипедистом.
3. Перед обоими участниками движения.

На этом перекрестке вы должны уступить дорогу:

1. Только трамваю.
2. Только грузовому автомобилю.
3. Только мопеду.
4. Легковому автомобилю и мопеду.
5. Всем транспортным средствам.

Вопрос подобного содержания может быть поставлен вам на теоретическом экзамене в сервисном центре МВД Украины.

При повороте налево вы:

1. Имеете преимущество в движении перед водителем легкового автомобиля.
2. Должны уступить дорогу легковому автомобилю.

16.32 **Водитель микроавтобуса имеет преимущество в движении:**



1. Только перед водителем трамвая.
2. Только перед водителем легкового автомобиля.
3. Перед водителями обоих транспортных средств.

На этом перекрестке вы:



1. Должны уступить дорогу велосипедисту.
2. Имеете преимущество в движении перед велосипедистом.

На этом перекрестке вы должны уступить дорогу:

1. Только легковому автомобилю.
2. Только микроавтобусу.
3. Водителям обоих транспортных средств.

При каком сигнале светофора на выезде с перекрестка водитель легкового автомобиля может продолжить движение?



1. Только при сигнале зеленого цвета.
2. Только при сигнале красного цвета.
3. Независимо от сигналов светофора на выезде.

На этом перекрестке вы:

1. Имеете преимущество в движении только перед пешеходами.
2. Имеете преимущество в движении только перед водителем трамвая.
3. Имеете преимущество в движении перед пешеходами и водителем трамвая.
4. Должны уступить дорогу только трамваю.
5. Должны уступить дорогу пешеходам и трамваю.

На этом перекрестке, когда карета скорой медицинской помощи движется без включенных специальных сигналов, вы:

1. Должны уступить дорогу карете скорой медицинской помощи.
2. Имеете преимущество в движении перед водителем кареты скорой медицинской помощи.

При проезде перекрестка в этом случае вы:



1. Должны уступить дорогу только встречному трамваю.
2. Должны уступить дорогу только попутному трамваю.
3. Должны уступить дорогу обоим трамваям.
4. Имеете преимущество в движении.

На этом перекрестке вы должны уступить дорогу:



1. Только трамваю.
2. Только легковому автомобилю.
3. Обоим транспортным средствам.

Разрешается ли вам в этом случае выезжать на перекресток?

1. Разрешается только для движения прямо.
2. Разрешается только для поворота направо.
3. Разрешается только для поворота налево.
4. Разрешается для поворота направо, налево или на разворот.

Вопрос подобного содержания может быть поставлен вам на теоретическом экзамене в сервисном центре МВД Украины.

Вы имеете преимущество в движении:

1. Только перед водителем трамвая.
2. Только перед водителем встречного автомобиля.
3. Перед водителями обоих транспортных средств.

На этом перекрестке вы:



1. Имеете преимущество перед велосипедистом.
2. Должны дать дорогу велосипедисту.

На этом перекрестке вы:



1. Должны дать дорогу автобусу.
2. Имеете преимущество в движении.

16.94 На этом перекрестке, когда автомобиль пожарной службы движется без включенного специального звукового сигнала, вы:

1. Имеете преимущество перед водителем автомобиля пожарной службы.
2. Должны уступить дорогу автомобилю пожарной службы.

16.95 На этом перекрестке вы должны уступить дорогу:

1. Только микроавтобусу.
2. Только карете скорой помощи.
3. Только грузовому автомобилю.
4. Всем транспортным средствам.

16.9 Водитель какого транспортного средства нарушает Правила, остановившись для предоставления преимущества в движении?

1. Только легкового автомобиля.
2. Только микроавтобуса.
3. Обоих транспортных средств.

На этом перекрестке вы должны уступить дорогу:

1. Только микроавтобусу.
2. Только мотоциклу.
3. Обоим транспортным средствам.

16.98 Вы имеете преимущество в движении:

1. Только перед водителем трамвая.
2. Только перед водителем встречного автомобиля.
3. Перед водителями обоих транспортных средств.

Разворачиваясь на перекрестке, вы имеете преимущество в движении:



1. Только перед водителем встречного троллейбуса.
2. Только перед водителем микроавтобуса.
3. Перед водителями обоих транспортных средств.

Вы имеете преимущество в движении:



1. Только перед водителем автомобиля.
2. Только перед водителем мотоцикла.
3. Перед водителями обоих транспортных средств.

Вопрос подобного содержания может быть поставлен вам на теоретическом экзамене в сервисном центре МВД Украины.

На этом перекрестке вы:



1. Должны уступить дорогу легковому автомобилю.
2. Имеете преимущество в движении перед легковым автомобилем.

16.102 На этом перекрестке вы:



1. Должны уступить дорогу трамваю.
2. Имеете преимущество в движении перед водителем трамвая.

На этом перекрестке вы должны уступить дорогу:

1. Только легковому автомобилю.
2. Только мотоциклу.
3. Обоим транспортным средствам.

На этом перекрестке вы:



1. Имеете преимущество в движении перед водителем микроавтобуса.
2. Должны уступить дорогу микроавтобусу.

Разворачиваясь на этом перекрестке, вы:



1. Имеете преимущество при проезде перекрестка.
2. Должны уступить дорогу встречному автомобилю.

16.106 Разворачиваясь на перекрестке, вы:

1. Должны уступить дорогу только микроавтобусу.
2. Должны уступить дорогу только легковому автомобилю.
3. Должны уступить дорогу обоим транспортным средствам.
4. Имеете преимущество в движении.

Вы имеете преимущество в движении:

1. Только перед водителем автомобиля.
2. Только перед водителем трамвая.
3. Перед водителями трамвая и автомобиля.

На этом перекрестке вы должны уступить дорогу:

1. Только велосипедисту.
2. Только грузовому автомобилю.
3. Водителям обоих транспортных средств.

На этом перекрестке вы:

1. Должны уступить дорогу трактору.
2. Имеете преимущество в движении перед водителем трактора.

На этом перекрестке вы должны уступить дорогу:

1. Только встречному легковому автомобилю.
2. Только пешеходам.
3. Пешеходам и легковому автомобилю.

Вопрос подобного содержания может быть поставлен вам на теоретическом экзамене в сервисном центре МВД Украины.

16.3.11 Должен ли водитель микроавтобуса, который намерен двигаться прямо, в этом случае поворачивать налево?

1. Должен в любом случае.
2. Может ожидать включения зеленого сигнала светофора.

16.3.12 В этой ситуации вы должны уступить дорогу:

1. Только легковому автомобилю.
2. Только грузовому автомобилю.
3. Только легковому автомобилю и пешеходам.
4. Только транспортным средствам.
5. Транспортным средствам и пешеходам.

16.3.13 Вы должны уступить дорогу:

1. Только легковому автомобилю.
2. Только велосипедисту.
3. Легковому автомобилю и велосипедисту.

16.3.14 На этом перекрестке вы имеете преимущество в движении:



1. Только перед водителем легкового автомобиля.
2. Перед водителями легкового автомобиля и встречного автобуса.
3. Перед водителем легкового автомобиля и пешеходом.
4. Перед всеми участниками дорожного движения.

16.3.15 На этом перекрестке преимущество в движении:

1. Имеете вы.
2. Имеет водитель грузового автомобиля.

16.3.16 При проезде этого перекрестка вы:

1. Имеете преимущество в движении.
2. Должны уступить дорогу встречному автобусу, выполняя требования дорожного знака.

16.3.17 При развороте вы должны уступить дорогу:



1. Только встречному автомобилю.
2. Только грузовому автомобилю.
3. Обоим транспортным средствам.

16.3.18 На этом перекрестке вы:



1. Имеете преимущество в движении перед водителем микроавтобуса.
2. Должны уступить дорогу микроавтобусу.

16.3.19 На этом перекрестке вы:

1. Должны уступить дорогу карете скорой медицинской помощи.
2. Имеете преимущество в движении перед водителем скорой медицинской помощи.

16.3.20 На этом перекрестке вы:

1. Должны уступить дорогу автобусу.
2. Имеете преимущество в движении перед водителем автобуса.

Вопрос подобного содержания может быть поставлен вам на теоретическом экзамене в сервисном центре МВД Украины.

16.121 На этом перекрестке вы:



1. Имеете преимущество в движении.
2. Должны уступить дорогу грузовому автомобилю.

На этом перекрестке вы:

1. Должны уступить дорогу автомобилю с включенным маячком.
2. Имеете преимущество в движении перед водителем автомобиля с включенным маячком.

На этом перекрестке вы должны уступить дорогу:



1. Только трамваю.
2. Только встречному автомобилю.
3. Обоим транспортным средствам.

При проезде перекрестка вы:

1. Имеете преимущество в движении перед водителем микроавтобуса.
2. Обязаны уступить дорогу микроавтобусу.

16.125 При каком сигнале светофора водитель легкового автомобиля может завершить разворот?

1. Только красном.
2. Только зеленом.
3. Любом.

16.126 Вы имеете преимущество в движении:

1. Только перед водителем встречного автомобиля.
2. Только перед пешеходом.
3. Перед обоими участниками дорожного движения.

На этом перекрестке вы имеете преимущество в движении:

1. Только перед водителем грузового автомобиля.
2. Только перед водителем легкового автомобиля.
3. Перед водителями обоих транспортных средств.

16.128 На этом перекрестке, когда автомобиль кареты скорой медицинской помощи движется с включенным только специальным звуковым сигналом, вы:



1. Должны уступить дорогу карете скорой медицинской помощи.
2. Имеете преимущество в движении перед водителем скорой медицинской помощи.

На этом перекрестке вы должны уступить дорогу:

1. Только грузовому автомобилю.
2. Только легковому автомобилю.
3. Обоим транспортным средствам.

На этом перекрестке вы имеете преимущество в движении:



1. Только перед водителем трамвая.
2. Только перед водителем мотоцикла.
3. Перед водителями обоих транспортных средств.

Вопрос подобного содержания может быть поставлен вам на теоретическом экзамене в сервисном центре МВД Украины.

16.131 На этом перекрестке вы должны уступить дорогу:



1. Только встречному автомобилю.
2. Только пешеходам.
3. Встречному автомобилю и пешеходам.

Проезжая перекресток, водитель синего автомобиля должен уступить дорогу:

1. Только мотоциклисту.
2. Только водителю зеленого автомобиля.
3. Водителям обоих транспортных средств.

16.133 На этом перекрестке вы должны уступить дорогу:

1. Только трамваю.
2. Только мотоциклу.
3. Обоим транспортным средствам.

На этом перекрестке вы:

1. Должны уступить дорогу легковому автомобилю.
2. Имеете преимущество в движении перед водителем легкового автомобиля.

Преимущественное право на движение имеет:

1. Водитель трамвая.
2. Велосипедист.

На этом перекрестке вы:

1. Должны уступить дорогу трамваю.
2. Имеете преимущество в движении перед водителем трамвая.

Если сигнал регулировщика или зеленый сигнал светофора разрешают движение одновременно трамваю и нерельсовым транспортным средствам, то независимо от направления их движения преимущество имеет:

1. Трамвай.
2. Нерельсовое транспортное средство.

На этом перекрестке вы:



1. Должны уступить дорогу только велосипедисту.
2. Должны уступить дорогу только грузовому автомобилю.
3. Должны уступить дорогу грузовому автомобилю и велосипедисту.
4. Имеете преимущество в движении.

16.139 В этом случае вы:

1. Должны уступить дорогу автомобилю с включенным маячком.
2. Имеете преимущество в движении перед водителем автомобиля с включенным маячком.

На этом перекрестке вы:



1. Имеете преимущество в движении перед водителем трамвая.
2. Должны уступить дорогу трамваю.

Вопрос подобного содержания может быть поставлен вам на теоретическом экзамене в сервисном центре МВД Украины.

Проезжая этот перекресток, вы:

1. Должны уступить дорогу мотоциклисту.
2. Имеете преимущество в движении перед мотоциклистом.

На этом перекрестке вы:



1. Должны уступить дорогу трамваю.
2. Имеете преимущество в движении перед водителем трамвая.

На этом перекрестке, когда карета скорой медицинской помощи движется без включенного специального звукового сигнала, вы:

1. Должны уступить дорогу карете скорой медицинской помощи.
2. Имеете преимущество в движении перед водителем кареты скорой медицинской помощи.

Вы должны уступить дорогу:



1. Только грузовому автомобилю.
2. Только легковому автомобилю.
3. Обоим транспортным средствам.

Разворачиваясь при этом сигнале светофора, вы:

1. Имеете преимущество в движении перед водителем трамвая.
2. Должны уступить дорогу трамваю.

Поворачивая налево на перекрестке, вы имеете преимущество в движении:



1. Только перед водителем встречного троллейбуса.
2. Только перед водителем микроавтобуса.
3. Перед водителями обоих транспортных средств.

Водитель зеленого автомобиля имеет преимущество в движении:



1. Только перед водителем красного автомобиля.
2. Только перед водителем мотоцикла.
3. Перед водителями обоих транспортных средств.

Преимущество в движении:

1. Имеете вы.
2. Имеет водитель трактора.

На этом перекрестке вы:



1. Должны уступить дорогу автомобилю с включенным маячком.
2. Имеете преимущество в движении перед водителем автомобиля с включенным маячком.

На этом перекрестке вы:



1. Должны уступить дорогу трамваю.
2. Имеете преимущество в движении перед водителем трамвая.

✻ Вопрос подобного содержания может быть поставлен вам на теоретическом экзамене в сервисном центре МВД Украины.

16.151 Вы имеете преимущество в движении:



1. Только перед водителем трамвая.
2. Только перед пешеходом.
3. Перед водителем трамвая и пешеходом.

16.152 На этом перекрестке вы должны уступить дорогу:



1. Только желтому автомобилю.
2. Только красному автомобилю.
3. Обоим транспортным средствам.

16.153 Водитель трамвая в этой ситуации:



1. Имеет преимущественное право на движение.
2. Должен дать дорогу красному автомобилю.

16.154 На этом перекрестке вы:

1. Должны уступить дорогу встречному автомобилю.
2. Имеете преимущество в движении перед водителем встречного автомобиля.

16.155 На этом перекрестке вы имеете преимущество в движении:



1. Только перед водителем трамвая.
2. Только перед водителем микроавтобуса.
3. Только перед водителями трамвая и микроавтобуса.
4. Перед всеми участниками движения.

16.156 На этом перекрестке вы:

1. Имеете преимущество перед велосипедистом.
2. Должны дать дорогу велосипедисту.

16.157 Водителю какого транспортного средства необходимо уступить дорогу, если вы подъезжаете к нерегулируемому перекрестку по дороге, на которой невозможно определить наличие покрытия, а знаки приоритета отсутствуют?

1. Только приближающемуся слева ТС.
2. Только приближающемуся справа ТС.
3. Только завершающему проезд ТС, независимо от направления его дальнейшего движения.
4. Всем перечисленным выше.

16.158 При проезде перекрестка в этом случае вы:

1. Должны уступить дорогу трамваю.
2. Имеете преимущество в движении перед водителем трамвая.

16.159 На этом перекрестке вы:

1. Должны уступить дорогу автомобилю.
2. Имеете преимущество в движении перед водителем автомобиля.

16.160 При развороте на этом перекрестке водитель легкового автомобиля:



1. Имеет преимущество в движении перед водителем трамвая.
2. Должен уступить дорогу трамваю.

Вопрос подобного содержания может быть поставлен вам на теоретическом экзамене в сервисном центре МВД Украины.

16.161 На этом перекрестке вы:



1. Должны уступить дорогу автомобилю с включенным маячком.
2. Имеете преимущество в движении перед водителем автомобиля с включенным маячком.

16.162 Вы должны уступить дорогу:

1. Только встречному автомобилю.
2. Только пешеходам.
3. Встречному автомобилю и пешеходам.

На этом перекрестке вы:

1. Имеете преимущество в движении перед водителем трамвая.
2. Должны уступить дорогу трамваю.

Вы должны уступить дорогу:

1. Только водителю микроавтобуса.
2. Только водителю грузового автомобиля.
3. Водителям обоих транспортных средств.

На этом перекрестке вы:



1. Имеете преимущество в движении перед водителем трамвая.
2. Должны уступить дорогу трамваю.

На этом перекрестке вы:



1. Имеете преимущество перед водителем кареты скорой помощи.
2. Должны уступить дорогу карете скорой помощи.

На этом перекрестке вы:

1. Должны уступить дорогу только трамваю.
2. Должны уступить дорогу только велосипедисту.
3. Должны уступить дорогу трамваю и велосипедисту.
4. Имеете преимущество в движении перед водителем трамвая и велосипедистом.

16.168 Вы имеете преимущество в движении:

1. Только перед водителем микроавтобуса.
2. Только перед водителем встречного автомобиля.
3. Перед водителями обоих транспортных средств.

16.169 Должен ли мотоциклист уступить дорогу легковому автомобилю, завершающему разворот, при включении зеленого сигнала светофора?



1. Должен.
2. Не должен.

16.170 При проезде этого перекрестка водитель микроавтобуса:



1. Имеет преимущество в движении перед водителем трамвая.
2. Должен уступить дорогу трамваю.

Вопрос подобного содержания может быть поставлен вам на теоретическом экзамене в сервисном центре МВД Украины.

Должны ли вы в этом случае, намереваясь двигаться прямо, поворачивать направо?

1. Должны в любом случае.
2. Должны только в случае включения зеленого сигнала светофора.
3. Не должны.

Должны ли вы в этом случае уступать дорогу пешеходам?

1. Должны в любом случае.
2. Должны только в случае включения красного сигнала основного светофора.
3. Не должны.

На этом перекрестке вы:



1. Имеете преимущество в движении перед водителем трамвая.
2. Должны уступить дорогу трамваю.

На этом перекрестке вы:

1. Должны уступить дорогу легковому автомобилю.
2. Имеете преимущество в движении перед легковым автомобилем.

На этом перекрестке вы должны уступить дорогу:



1. Только трамваю.
2. Только легковому автомобилю.
3. Трамваю и легковому автомобилю.

При проезде этого перекрестка вы:

1. Имеете преимущество в движении.
2. Должны уступить дорогу только велосипедисту.
3. Должны уступить дорогу только пешеходам.
4. Должны уступить дорогу пешеходам и велосипедисту.

На этом перекрестке вы:



1. Имеете преимущество в движении.
2. Должны уступить дорогу встречному автомобилю.

На этом перекрестке вы:

1. Должны уступить дорогу трамваю.
2. Имеете преимущество в движении перед водителем трамвая.

На этом перекрестке вы:

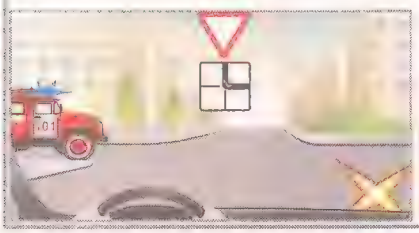

1. Должны уступить дорогу автомобилю пожарной службы.
2. Имеете преимущество в движении перед водителем автомобиля пожарной службы.

В этой ситуации преимущество в движении принадлежит:

1. Вам как водителю автомобиля.
2. Пешеходу.

Вопрос подобного содержания может быть поставлен вам на теоретическом экзамене в сервисном центре МВД Украины.

16.181 **На этом перекрестке вы имеете преимущество в движении:**



1. Только перед водителем трамвая.
2. Только перед водителем мотоцикла.
3. Перед водителями обоих транспортных средств.

На этом перекрестке вы имеете преимущество в движении:

1. Перед водителем легкового автомобиля и пешеходом.
2. Только перед водителем грузового автомобиля.
3. Только перед водителем легкового автомобиля.
4. Перед всеми перечисленными выше участниками движения.

16.183 **При повороте налево вы имеете преимущество в движении:**

1. Только перед водителем мотоцикла.
2. Только перед пешеходами.
3. Перед водителем мотоцикла и пешеходами.

Вы должны уступить дорогу:

1. Только микроавтобусу.
2. Только встречному автомобилю.
3. Обоим транспортным средствам.

Поворачивая направо, вы должны:



1. Дождаться разрешающего сигнала светофора.
2. Уступить дорогу только микроавтобусу.
3. Уступить дорогу только пешеходу.
4. Уступить дорогу всем участникам движения.

16.186 **Должен ли водитель грузового автомобиля, намеревающийся двигаться прямо, в этом случае поворачивать направо?**

1. Должен в любом случае.
2. Должен только в случае включения зеленого сигнала в дополнительной секции светофора.
3. Не должен.

16.187 **Водителю какого транспортного средства разрешается повернуть направо при этих сигналах светофора?**



1. Только вам.
2. Только водителю микроавтобуса.
3. Вам и водителю микроавтобуса.
4. Обоим запрещается.

16.188 **Разрешается ли вам не поворачивать направо при этом сигнале светофора, если сзади подъехал автомобиль с включенным поворотом направо?**

1. Запрещается.
2. Разрешается.

На этом перекрестке вы:

1. Должны уступить дорогу трамваю.
2. Имеете преимущество в движении перед водителем трамвая.

16.190 **Водитель какого транспортного средства правильно остановился для предоставления преимущества в движении?**

1. Микроавтобуса.
2. Грузового автомобиля.

✻ Вопрос подобного содержания может быть поставлен вам на теоретическом экзамене в сервисном центре МВД Украины.

16.191 В каких случаях водитель, поворачивая направо или налево, должен уступить дорогу пешеходам, переходящим проезжую часть, на которую он поворачивает?

1. Во всех случаях на регулируемых и нерегулируемых перекрестках.
2. Только на регулируемых перекрестках, оборудованных пешеходными светофорами.
3. Только на нерегулируемых перекрестках, на которых установлены знаки «Пешеходный переход».

16.192 На этом перекрестке вы:

1. Должны уступить дорогу автомобилю полиции.
2. Имеете преимущество в движении перед водителем автомобиля полиции.

16.193 Разворачиваясь на перекрестке, вы:

1. Должны уступить дорогу только велосипедисту.
2. Должны уступить дорогу только легковому автомобилю.
3. Должны уступить дорогу велосипедисту и легковому автомобилю.
4. Имеете преимущество в движении.

16.194 При проезде перекрестка преимущество в движении в этом случае:



1. Имеете вы.
2. Имеет водитель трамвая.

16.195 На этом перекрестке вы:



1. Имеете преимущество в движении перед водителем трамвая.
2. Должны уступить дорогу трамваю.

16.196 На этом перекрестке вы должны уступить дорогу:



1. Только встречному легковому автомобилю.
2. Только мотоциклисту.
3. Обоим транспортным средствам.

16.197 На этом перекрестке водитель легкового автомобиля:

1. Имеет преимущество перед мотоциклистом.
2. Должен уступить дорогу мотоциклисту.

16.198 На этом перекрестке вы должны уступить дорогу:

1. Только трамваю зеленого цвета и грузовому автомобилю.
2. Только встречному автомобилю.
3. Только трамваю синего цвета.
4. Всем транспортным средствам.

16.199 На этом перекрестке вы должны уступить дорогу:



1. Только встречному легковому автомобилю.
2. Только мотоциклу.
3. Обоим транспортным средствам.

16.200 При проезде этого перекрестка преимущество в движении:



1. Имеете вы.
2. Имеет водитель мопеда.

Вопрос подобного содержания может быть поставлен вам на теоретическом экзамене в сервисном центре МВД Украины.

16.201 **При сигнале регулировщика или включении сигнала светофора, разрешающего движение, водитель обязан уступить дорогу:**

1. Только пешеходам, заканчивающим переход.
2. Только транспортным средствам, завершающим движение через перекресток.
3. Всем вышеперечисленным.

16.202 **В случае въезда на перекресток при сигнале светофора, который разрешает движение, вы должны:**



1. Ожидать у светофора включения сигнала зеленого цвета.
2. Выехать из перекрестка независимо от сигналов светофора на выезде.

16.203 **На этом перекрестке вы:**



1. Имеете преимущество в движении перед водителем трамвая.
2. Должны уступить дорогу трамваю.

На этом перекрестке водитель мотоцикла:



1. Должен уступить дорогу автомобилю оперативной службы.
2. Имеет преимущество в движении перед водителем автомобиля оперативной службы.

16.205 **На этом перекрестке вы должны уступить дорогу:**

1. Только легковому автомобилю.
2. Только трамваю.
3. Только пешеходу.
4. Только трамваю и пешеходу.
5. Всем перечисленным выше участникам дорожного движения.

Для поворота направо на этом перекрестке вы:

1. Должны ждать сигнала светофора, разрешающего движение.
2. Должны уступить дорогу только мотоциклисту.
3. Должны уступить дорогу мотоциклисту и пешеходу.
4. Можете поворачивать, имея преимущество.

16.207 **Во время поворота направо вы должны уступить дорогу пешеходам:**

1. Заканчивающим переход проезжей части.
2. Ступившим на пешеходный переход.
3. Всем перечисленным в ответах.

На этом перекрестке вы:



1. Имеете преимущество в движении перед водителем микроавтобуса.
2. Должны уступить дорогу микроавтобусу.

16.209 **На этом перекрестке вы имеете преимущество в движении:**



1. Только перед водителем трамвая.
2. Только перед водителем мотоцикла.
3. Перед водителями обоих транспортных средств.

16.210 **На этом перекрестке вы имеете преимущество в движении:**

1. Только перед водителем трамвая.
2. Только перед водителем грузового автомобиля.
3. Только перед водителем трамвая и пешеходами.
4. Перед всеми перечисленными участниками движения.

Вопрос подобного содержания может быть поставлен вам на теоретическом экзамене в сервисном центре МВД Украины.

16.211 На этом перекрестке вы:



1. Должны уступить дорогу автомобилю с включенным маячком.
2. Имеете преимущество в движении перед водителем автомобиля с включенным маячком.

16.212 При проезде этого перекрестка вы:

1. Имеете преимущество в движении.
2. Должны уступить дорогу водителю грузового автомобиля.

16.213 На этом перекрестке вы:



1. Должны уступить дорогу трактору.
2. Имеете преимущество в движении перед водителем трактора.

16.214 На этом перекрестке водитель синего автомобиля:

1. Имеет преимущество в движении.
2. Должен уступить дорогу красному автомобилю.

16.215 Вы должны уступить дорогу:

1. Только встречному легковому автомобилю.
2. Только грузовому автомобилю.
3. Обоим транспортным средствам.

16.216 На этом перекрестке вы:



1. Имеете преимущество в движении перед водителем трамвая.
2. Должны уступить дорогу трамваю.

16.217 На этом перекрестке вы:



1. Имеете преимущество только перед водителем трамвая.
2. Имеете преимущество только перед водителем грузового автомобиля.
3. Должны уступить дорогу трамваю и грузовому автомобилю.

16.218 Во время проезда этого перекрестка вы:

1. Имеете преимущество перед велосипедистом.
2. Должны дать дорогу велосипедисту.

16.219 На этом перекрестке вы:



1. Имеете преимущество в движении перед водителем трамвая.
2. Должны уступить дорогу трамваю.

16.220 На этом перекрестке водитель легкового автомобиля:



1. Имеет преимущество в движении перед водителем трамвая.
2. Обязан уступить дорогу трамваю.

Вопрос подобного содержания может быть поставлен вам на теоретическом экзамене в сервисном центре МВД Украины.

На этом перекрестке вы:



1. Должны уступить дорогу легковому автомобилю.
2. Имеете преимущество в движении перед водителем легкового автомобиля.

При проезде перекрестка в этом случае вы:

1. Должны уступить дорогу встречному автомобилю.
2. Имеете преимущество в движении перед водителем встречного автомобиля.

На этом перекрестке вы:



1. Имеете преимущество в движении перед водителем трамвая.
2. Должны уступить дорогу трамваю.

На этом перекрестке преимущество в движении:



1. Имеете вы.
2. Имеет велосипедист.

В этом случае вы:



1. Должны уступить дорогу трамваю.
2. Имеете преимущество в движении перед водителем трамвая.

16/226 На этом перекрестке вы имеете преимущество в движении:



1. Только перед водителем встречного грузового автомобиля.
2. Только перед водителем легкового автомобиля.
3. Перед водителями обоих транспортных средств.

Преимущество при проезде этого перекрестка:

1. Имеете вы.
2. Имеет водитель встречного автомобиля.

На какой перекресток запрещается выезжать водителю транспортного средства, если на нем образовался затор?

1. Только на регулируемый, если это создаст препятствие для движения других транспортных средств.
2. Только на нерегулируемый, если это создаст препятствие для движения пешеходов.
3. На любой, если это вынудит водителя остановить транспортное средство на перекрестке, что создаст препятствие для движения другим транспортным средствам и пешеходам.

На этом перекрестке вы должны уступить дорогу:



1. Только микроавтобусу.
2. Только грузовому автомобилю.
3. Грузовому автомобилю и микроавтобусу.
4. Всем транспортным средствам.

На этом перекрестке водитель легкового автомобиля должен уступить дорогу:

1. Только гужевой повозке.
2. Только микроавтобусу.
3. Микроавтобусу и гужевой повозке.

Вопрос подобного содержания может быть поставлен вам на теоретическом экзамене в сервисном центре МВД Украины.

Разрешается ли водителю при запрещающем сигнале основного светофора остановить транспортное средство на полосе, с которой осуществляется движение в направлении стрелки, включенной в дополнительной секции светофора?

1. Разрешается, если не создается препятствие транспортным средствам, движущимся за ним по той же полосе.
2. Разрешается, если отсутствует дорожный знак «Направления движения по полосам».
3. Запрещается.

В этом случае вы должны уступить дорогу:

1. Только встречному легковому автомобилю.
2. Только автомобилю синего цвета.
3. Обоим транспортным средствам.

16.253 **На этом перекрестке вы должны уступить дорогу:**



1. Только водителю мопеда.
2. Только автомобилю.
3. Только трамваю.
4. Трамваю и мопеду.
5. Всем транспортным средствам.

На этом перекрестке вы:

1. Должны уступить дорогу встречному автомобилю.
2. Имеете преимущество в движении перед водителем встречного автомобиля.

На этом перекрестке вы должны уступить дорогу:

1. Только велосипедисту.
2. Только грузовому автомобилю.
3. Грузовому автомобилю и велосипедисту.
4. Только микроавтобусу.
5. Всем транспортным средствам.

Проезжая перекресток, вы должны уступить дорогу:

1. Только мотоциклисту.
2. Только водителю мопеда.
3. Водителям обоих транспортных средств.

При проезде этого перекрестка вы:

1. Имеете преимущество в движении перед водителем трамвая.
2. Должны уступить дорогу трамваю.

16.238 **В этой ситуации преимущество в движении принадлежит:**

1. Вам как водителю автомобиля.
2. Пешеходу.

На этом перекрестке вы:



1. Должны уступить дорогу трамваю.
2. Имеете преимущество в движении перед водителем трамвая.

На этом перекрестке вы должны уступить дорогу:



1. Только трамваю.
2. Только легковому автомобилю.
3. Обоим транспортным средствам.

Вопрос подобного содержания может быть поставлен вам на теоретическом экзамене в сервисном центре МВД Украины.

16.241 **Вы должны уступить дорогу:**

1. Только микроавтобусу.
2. Только грузовому автомобилю.
3. Обоим транспортным средствам.

16.242 **На этом перекрестке вы:**



1. Должны уступить дорогу грузовому автомобилю.
2. Имеете преимущество в движении перед водителем грузового автомобиля.

16.243 **На этом перекрестке вы:**



1. Имеете преимущество в движении перед водителем трамвая.
2. Должны уступить дорогу трамваю.

16.244 **На этом перекрестке вы должны уступить дорогу:**



1. Только легковому автомобилю.
2. Только легковому автомобилю и трамваю.
3. Только трамваю и пешеходу.
4. Всем участникам движения.

16.245 **На этом перекрестке вы:**



1. Должны уступить дорогу автомобилю пожарной охраны.
2. Имеете преимущество в движении.

16.246 **При проезде перекрестка в этом случае вы:**



1. Имеете преимущество в движении перед водителем трамвая.
2. Должны уступить дорогу трамваю.

16.247 **Разворачиваясь на перекрестке, водитель легкового автомобиля:**



1. Должен уступить дорогу только грузовому автомобилю.
2. Должен уступить дорогу только автобусу.
3. Должен уступить дорогу обоим транспортным средствам.
4. Имеет преимущество в движении.

16.248 **Вы имеете преимущество в движении:**



1. Только перед водителем легкового автомобиля.
2. Только перед водителями легкового автомобиля и трамвая.
3. Только перед водителем легкового автомобиля и пешеходом.
4. Только перед водителем трамвая и пешеходом.
5. Перед всеми вышеперечисленными.

16.249 **Вы должны уступить дорогу:**



1. Только грузовому автомобилю.
2. Только автомобилю пожарной службы.
3. Обоим транспортным средствам.

16.250 **Вы должны уступить дорогу:**



1. Только велосипедисту.
2. Только мотоциклисту.
3. Мотоциклисту и велосипедисту.

Вопрос подобного содержания может быть поставлен вам на теоретическом экзамене в сервисном центре МВД Украины.

Если главная дорога на нерегулируемом перекрестке изменяет направление движения, то водители движущихся по ней транспортных средств должны руководствоваться между собой правилами проезда перекрестков:

1. Неравнозначных дорог.
2. Равнозначных дорог.

При проезде перекрестка вы:

1. Имеете преимущество в движении.
2. Должны уступить дорогу грузовому автомобилю.

На этом перекрестке вы имеете преимущество в движении:

1. Только перед водителем микроавтобуса.
2. Только перед водителем мотоцикла.
3. Перед водителями обоих транспортных средств.

На этом перекрестке вы имеете преимущество в движении:

1. Только перед водителем встречного автомобиля.
2. Только перед мотоциклистом.
3. Перед водителем легкового автомобиля и мотоциклистом.
4. Перед водителями всех транспортных средств.

На таком перекрестке вы:

1. Имеете преимущество в движении.
2. Должны уступить дорогу водителю грузового автомобиля.

Двигаясь по кругу на таком перекрестке, вы:

1. Имеете преимущество в движении.
2. Должны уступить дорогу водителю грузового автомобиля.

Вопрос подобного содержания может быть поставлен вам на теоретическом экзамене в сервисном центре МВД Украины.

17. Преимущества маршрутных транспортных средств

Преимущество в движении имеет водитель:

1. Автобуса.
2. Грузового автомобиля.

Преимущество в движении принадлежит:



1. Водителю трамвая.
2. Вам.

Разрешается ли водителю мотоцикла остановить его для высадки пассажира?

1. Разрешается.
2. Запрещается.
3. Разрешается при отсутствии маршрутных транспортных средств.

Нарушает ли Правила водитель грузового автомобиля, остановившись для разгрузки груза на этом участке дороги?

1. Нарушает.
2. Не нарушает.
3. Нарушает только при интенсивном движении транспорта.

Преимущество в движении имеет водитель:

1. Автобуса.
2. Легкового автомобиля.

Выполнить обгон грузового автомобиля:



1. Разрешается.
2. Запрещается.
3. Разрешается при отсутствии маршрутных транспортных средств.

По какой из траекторий разрешается выполнить поворот?

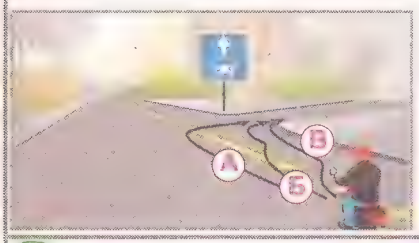

1. Только «А».
2. Только «Б».
3. Только «В».
4. «Б» или «В».

Преимущество в движении имеет водитель:



1. Трамвая.
2. Автомобиля скорой медицинской помощи.

Водитель какого транспортного средства должен уступить дорогу?



1. Автобуса.
2. Грузового автомобиля.

Преимущество в движении имеет водитель:



1. Трамвая.
2. Оперативного автомобиля.

Вопрос подобного содержания может быть поставлен вам на теоретическом экзамене в сервисном центре МВД Украины.

Преимущество в движении имеет водитель:

1. Красного автомобиля.
2. Синего автомобиля.
3. Трамвая.

Разрешается ли водителю автомобиля пожарной службы движение по выделенной полосе на этом участке дороги?

1. Разрешается.
2. Запрещается.
3. Разрешается только при отсутствии маршрутных транспортных средств.

Разрешается ли водителю остановить автомобиль для высадки пассажира?



1. Разрешается.
2. Запрещается.

Разрешается ли вам выполнить поворот так, как показано на рисунке?

1. Разрешается.
2. Запрещается.

По какой из траекторий разрешается выполнить поворот в этой ситуации?



1. Только «А».
2. Только «Б».
3. Только «В».
4. «Б» или «В».

По полосе, обозначенной дорожным знаком и дорожной разметкой, движение разрешается:



1. Автобусам междугородного и межобластного сообщения.
2. Автобусов и микроавтобусов туристической инфраструктуры.
3. Транспортных средств, движущихся по установленным маршрутам.

Вопрос подобного содержания может быть поставлен вам на теоретическом экзамене в сервисном центре МВД Украины.

18. Проезд пешеходных переходов и остановок транспортных средств

В каких из перечисленных в ответах случаях водитель должен остановить транспортное средство, чтобы уступить дорогу пешеходам, идущим к трамваю, который стоит на остановке?

1. Если посадка или высадка пассажиров осуществляется только с проезжей части.
2. Если посадка или высадка пассажиров осуществляется только с посадочной площадки, размещенной на проезжей части.
3. В обоих перечисленных случаях.

Водитель трамвая, если перед пешеходным переходом останавливается микроавтобус, должен:

1. Подать звуковой сигнал и продолжить движение.
2. Остановить трамвай и уступить дорогу пешеходу.

Кто имеет преимущество в движении на этом участке дороги?

1. Только водитель автобуса.
2. Пешеход.
3. Только водитель легкового автомобиля.
4. Оба водителя.

Приближаясь на легковом автомобиле к этому автобусу, вы должны:

1. Уменьшить скорость, а в случае необходимости остановить транспортное средство.
2. Уменьшить скорость, подать сигнал светом фар, продолжая движение.
3. Подать звуковой сигнал и при необходимости уменьшить скорость.

Преимущество в движении имеет:

1. Водитель легкового автомобиля.
2. Пешеход с белой тростью.

Каким пешеходам должен уступить дорогу водитель на регулируемом пешеходном переходе или перекрестке при сигнале светофора, разрешающем движение транспортных средств?

1. Заканчивающим переход проезжей части соответствующего направления движения.
2. Ступившим на пешеходный переход.
3. Перечисленным в ответах 1 и 2.

Преимущество в движении имеет:

1. Водитель мотоцикла.
2. Пешеход.

В этой ситуации движение через пешеходный переход разрешается:



1. Только водителю мотоцикла.
2. Только водителю встречного грузового автомобиля.
3. Обоих транспортных средств разрешается.
4. Обоих транспортных средств запрещается.

Какие из перечисленных мер должен предпринять водитель автомобиля в этом случае?

1. Продолжить движение, обеспечив безопасный интервал с пешеходом.
2. Уменьшить скорость или остановить автомобиль, чтобы уступить дорогу пешеходу.
3. Только остановить автомобиль.

Какие из перечисленных в ответах действия должны быть выполнены водителем транспортного средства при приближении к нерегулируемому пешеходному переходу, на котором находятся пешеходы?

1. Уменьшить скорость, а при необходимости остановить транспортное средство, чтобы уступить дорогу пешеходам.
2. Заблаговременно, но не менее чем за 50–100 м подать звуковой сигнал или сигнал переключением света фар.
3. Выполнить все вышеперечисленные действия.

Вопрос подобного содержания может быть поставлен вам на теоретическом экзамене в сервисном центре МВД Украины.

18.11 Преимущество в движении имеет:

1. Водитель мотоцикла.
2. Пешеход.

18.12 В каких из перечисленных в ответах случаях водителю нерельсового транспортного средства разрешается продолжить движение от трамвайной остановки после посадки или высадки пассажиров?

1. Когда пешеходы покинут проезжую часть и двери трамвая закроются.
2. Только одновременно с началом движения трамвая.
3. Когда водитель убедится, что не будет неожиданного выхода пешехода из-за остановившегося трамвая.

Что из перечисленного должен предпринять водитель легкового автомобиля в этом случае?

1. Продолжить движение, обеспечив безопасный интервал с пешеходами.
2. Притормозить, чтобы перестроиться на правую полосу.
3. Уменьшить скорость или остановить автомобиль, чтобы уступить дорогу пешеходам.

В каких случаях, согласно Правилам, запрещается выезжать на пешеходный переход, если за ним образовался затор?

1. Если это вынудит водителя остановить транспортное средство на переходе.
2. Только если на нем находятся пешеходы.
3. В обоих перечисленных случаях.

Как должен поступить водитель автомобиля скорой медицинской помощи с включенным маячком и специальным звуковым сигналом, если грузовой автомобиль остановился?



1. Продолжить движение при условии обеспечения его безопасности.
2. Остановить автомобиль, чтобы уступить дорогу пешеходу.

Если светофор работает в режиме мигания желтого сигнала, преимущество в движении:



1. Имеет пешеход.
2. Имеете вы.

Разрешается ли вам в этом случае движение через пешеходный переход?



1. Разрешается только по своей полосе.
2. Запрещается.

При включении зеленого сигнала светофора преимущество в движении имеет:



1. Водитель автомобиля.
2. Пешеход.

Преимущество в движении принадлежит:

1. Вам как водителю автомобиля.
2. Пешеходу.

Преимущество в движении имеет:

1. Водитель автомобиля.
2. Пешеход.

Вопрос подобного содержания может быть поставлен вам на теоретическом экзамене в сервисном центре МВД Украины.

Должен ли водитель транспортного средства уступить дорогу слепым пешеходам, которые намереваются перейти проезжую часть вне пешеходного перехода?

1. Не должен.
2. Должен, если они подают сигнал тростью белого цвета, направленной вперед.

Водитель какого транспортного средства должен уступить дорогу?

1. Только мотоцикла.
2. Только трамвая.
3. Обоих транспортных средств.

В этом случае преимущество в движении принадлежит:

1. Водителю легкового автомобиля.
2. Пешеходам.

Разрешается ли вам в этой ситуации дальнейшее движение?

1. Разрешается.
2. Запрещается.

Безопасность движения в этой ситуации обеспечивается:

1. Пешеходами — ожиданием на островке безопасности сигнала, разрешающего движение.
2. Водителем автомобиля — выбором безопасного интервала с пешеходами.
3. Обоими перечисленными выше факторами.

18.26 При включении зеленого сигнала светофора преимущество в движении имеет:

1. Водитель автомобиля.
2. Пешеход.

Если закрылись двери трамвая, но он не начал движение, вы:

1. Можете продолжить движение, уступая дорогу пешеходам.
2. Начнете движение после того, как пешеходы покинут проезжую часть.
3. Подадите звуковой сигнал и начнете движение, объезжая пешеходов.

Два желтых мигающих светофоры информируют вас о:



1. Том, что движение через переход запрещено.
2. Наличии опасного пешеходного перехода и возможности движения через него.

Вопрос подобного содержания может быть поставлен вам на теоретическом экзамене в сервисном центре МВД Украины.

19. Пользование внешними световыми приборами

В темное время суток на неосвещенном участке дороги противотуманные фары можно использовать:

1. Вместо дальнего света фар.
2. Вместо ближнего света фар.
3. Только вместе с ближним или дальним светом фар.

На движущемся механическом транспортном средстве должен быть включен ближний (дальний) свет фар:

1. Только при видимости дороги в направлении движения менее 300 м в условиях тумана.
2. Только в темное время суток.
3. Только в условиях дождя или снегопада, независимо от расстояния видимости.
4. Во всех вышеперечисленных случаях.
5. В случаях, перечисленных в ответах 1 и 2.

Намереваясь выполнить обгон в темное время суток, дальний свет фар следует переключить на ближний на расстоянии от попутного транспортного средства:

1. 100 – 150 м.
2. 150 – 200 м.
3. 250 м и более.

Задний противотуманный фонарь разрешается использовать в условиях недостаточной видимости:

1. Только в светлое время суток.
2. Только в темное время суток.
3. Как в светлое, так и в темное время суток.

При вынужденной остановке на неосвещенном участке дороги в темное время суток на транспортном средстве должны быть включены:

1. Ближний свет фар и задние противотуманные фонари.
2. Габаритные или стояночные фонари и аварийная световая сигнализация.
3. Противотуманные фары и задние противотуманные фонари.

Водителям каких транспортных средств разрешается пользоваться фарой-прожектором?

1. Оперативных транспортных средств.
2. Дорожно-эксплуатационных служб.
3. Движущихся в сопровождаемой колонне.
4. Всех вышеперечисленных.

Опознавательный знак автопоезда должен быть включен:

1. Только во время движения автопоезда в темное время суток или в условиях недостаточной видимости.
2. Только во время вынужденной остановки автопоезда на дороге.
3. Постоянно во время движения автопоезда, а в темное время суток или в условиях недостаточной видимости — и во время вынужденной остановки, остановки либо стоянки на дороге.
4. Только во время движения автопоезда с грузом.

В темное время суток и в условиях недостаточной видимости на прицепе легкового автомобиля должна быть включена:

1. Только аварийная световая сигнализация.
2. Только габаритные огни.

В случае ухудшения видимости в направлении движения, вызванного светом фар встречных транспортных средств, водитель должен:

1. Уменьшить скорость до такой, которая бы не превышала безопасной по условиям фактической видимости дороги.
2. Включить дальний свет фар.

Во время остановки на дороге в темное время суток и в условиях недостаточной видимости на транспортном средстве должны быть включены:

1. Фары ближнего или дальнего света.
2. Габаритные или стояночные фонари.

Вопрос подобного содержания может быть поставлен вам на теоретическом экзамене в сервисном центре МВД Украины.

Какие световые приборы, кроме аварийной световой сигнализации, должен включить водитель легкового автомобиля в темное время суток и в условиях недостаточной видимости во время его буксировки грузовым автомобилем?

1. Ближний свет фар.
2. Габаритные огни.
3. Дальний свет фар.

Какие меры должен предпринять водитель при вынужденной остановке на неосвещенном участке дороги в темное время суток, если габаритные фонари транспортного средства неисправны?

1. Только убрать его за пределы дороги.
2. Только обозначить транспортное средство знаком аварийной остановки или мигающим красным фонарем.
3. Убрать транспортное средство за пределы дороги, а если это невозможно — обозначить его знаком аварийной остановки или мигающим красным фонарем.

Разрешается ли движение автомобиля с включенными только габаритными огнями на освещенном участке дороги в темное время суток?

1. Разрешается.
2. Не разрешается.

В условиях недостаточной видимости использовать противотуманные фары разрешается:

1. Только отдельно от ближнего и дальнего света фар.
2. Только вместе с ближним или дальним светом фар.
3. Как отдельно, так и вместе с ближним или дальним светом фар.

Если в темное время суток водитель встречного транспортного средства периодически переключает свет фар, то дальний свет фар на ближний следует переключить на расстоянии:

1. Даже и на большем чем 250 м.
2. Только за 250 м.
3. Не более чем за 250 м и не менее чем за 150 м.

В случае ослепления водитель синего автомобиля должен:

1. Включить аварийную световую сигнализацию и остановиться на обочине.
2. Остановиться, не меняя полосы движения, и включить аварийную световую сигнализацию.
3. Подать сигнал переключением света фар и уменьшить скорость либо остановиться.

В темное время суток и в условиях недостаточной видимости, независимо от степени освещения дороги, на гужевой повозке (санях) нужно включать фонари:

1. Только при движении по дороге вне населенного пункта.
2. Только при движении по дороге в населенном пункте.
3. В обоих перечисленных случаях.

В каком тоннеле вы должны включить ближний свет фар при движении на механическом транспортном средстве?



1. Только с искусственным освещением.
2. Только без искусственного освещения.
3. В любом.

На каком из перечисленных в ответах расстоянии до встречного транспортного средства необходимо переключить дальний свет фар на ближний?

1. Не менее чем за 300 м.
2. Не более чем за 250 м.
3. Не менее чем за 250 м.

Подключать задние противотуманные фонари к сигналам торможения:

1. Разрешается.
2. Запрещается.

Вопрос подобного содержания может быть поставлен вам на теоретическом экзамене в сервисном центре МВД Украины.

20. Движение через железнодорожные переезды

Если шлагбаум начал опускаться, то при этих сигналах светофора движение через переезд:

1. Разрешается.
2. Запрещается.
3. Разрешается при условии, что шлагбаум только начал опускаться.

В каких местах водители транспортных средств могут пересекать железнодорожные пути?

1. Только на железнодорожных переездах.
2. Возле станций и платформ, где есть возможность пересечь железнодорожные пути.
3. В любом вышеперечисленном месте.

Сигналом общей тревоги при вынужденной остановке транспортного средства на железнодорожном переезде являются серии звуковых сигналов, состоящие из:

1. Одного длинного и двух коротких.
2. Одного длинного и трех коротких.
3. Одного короткого и трех длинных.

Подъезжая к железнодорожному переезду, вы должны:

1. Остановить транспортное средство не ближе 10 м до шлагбаума.
2. Остановить транспортное средство непосредственно перед шлагбаумом.
3. Объехать шлагбаум, если не приближается поезд, так как светофор не работает.

Движение через такой переезд при появлении в пределах видимости поезда:



1. Разрешено.
2. Запрещено.
3. Разрешено, если поезд на расстоянии, достаточном для проезда.

Чем должен руководствоваться водитель транспортного средства при подъезде к железнодорожному переезду?

1. Только положением шлагбаума, световой и звуковой сигнализацией.
2. Только дорожными знаками и разметкой.
3. Только указаниями и сигналами дежурного по переезду.
4. Всем вышеперечисленным.
5. Только перечисленным в ответах 1 и 2.

В каком ответе правильно указаны действия водителя красного автомобиля?



1. Выехать на полосу встречного движения для объезда при условии обеспечения безопасности движения.
2. Остановить автомобиль перед стоп-линией.
3. Руководствоваться положением шлагбаума и световой сигнализацией.

Если дежурный по переезду стал к вам так, как показано на рисунке, вы обязаны:



1. Остановиться перед переездом.
2. Продолжить движение, обеспечив безопасность, если для остановки необходимо прибегнуть к экстренному торможению, а транспортное средство остановится на переезде.
3. Немедленно проехать через переезд.
4. Выполнить одно из действий, перечисленных в ответах 1 и 2.

20.9 На какое расстояние от переезда вдоль пути необходимо направить человека для подачи сигнала машинисту приближающегося поезда о его остановке?

1. Не более чем на 1000 м.
2. Не менее чем на 1000 м.
3. Не менее чем на 500 м.

Движение через переезд в этом случае:



1. Разрешается.
2. Запрещается.

Вопрос подобного содержания может быть поставлен вам на теоретическом экзамене в сервисном центре МВД Украины.

20.11 **Если перед переездом нет дорожной разметки или дорожных знаков, определяющих количество полос движения, то движение транспортных средств через переезд разрешается:**

1. Не более чем в два ряда.
2. Не более чем в три ряда.
3. Только в один ряд.
4. С учетом ширины проезжей части, габаритов транспортных средств и безопасных интервалов.

20.12 **Водителю какого транспортного средства разрешается движение через железнодорожный переезд в этом случае?**

1. Скорой помощи.
2. Грузового автомобиля.
3. Обоих разрешается.
4. Обоих запрещается.

20.13 **Какие из перечисленных в ответах меры должен предпринять водитель при появлении поезда в случае вынужденной остановки транспортного средства на переезде?**

1. Бежать навстречу поезду, подавая сигналы остановки.
2. Только принимать все меры к освобождению переезда.
3. Только подавать сигналы общей тревоги.
4. Выполнить действия, перечисленные только в ответах 2 и 3.

20.14 **При открытом шлагбауме и выключенной световой сигнализации водитель легкового автомобиля обязан:**

1. Убедиться только в том, что не приближается поезд.
2. Руководствоваться только указаниями дежурного по переезду.
3. Выполнять все вышеперечисленные действия.

20.15 **Разрешается ли объезжать транспортное средство, стоящее перед переездом, когда движение через него запрещено?**

1. Разрешается, если расстояние от стоящего транспортного средства до ближайшего рельса не менее 10 м.
2. Разрешается, если перед переездом нет сплошной линии дорожной разметки.
3. Запрещается.

20.16 **При прогоне животных через железнодорожный переезд число погонщиков должно быть не менее:**

1. Двух.
2. Трех.
3. Четырех.

20.17 **Движение через железнодорожный переезд сельскохозяйственных, дорожных, строительных и других машин и механизмов разрешается только:**

1. В присутствии дежурного по переезду.
2. Если их техническое состояние и оборудование соответствуют требованиям стандартов.
3. В транспортном состоянии.

20.18 **На каком наименьшем расстоянии до ближайшего рельса необходимо остановить транспортное средство, чтобы уступить дорогу приближающемуся поезду?**

1. 5 м.
2. 10 м.
3. 15 м.
4. 20 м.

20.19 **Движение через такой переезд при отсутствии в пределах видимости поезда:**

1. Разрешено.
2. Запрещено.
3. Разрешено, если звуковая сигнализация не работает.

20.20 **Движение через такой переезд при проезде последнего вагона поезда:**

1. Разрешено.
2. Запрещено.

Вопрос подобного содержания может быть поставлен вам на теоретическом экзамене в сервисном центре МВД Украины.

При этом сигнале дежурного по переезду движение через железнодорожный переезд:

1. Разрешается.
2. Разрешается при условии, что к переезду не приближается поезд.
3. Запрещается.

Сигналом для остановки поезда в случае вынужденной остановки транспортного средства на переезде в светлое время суток является:

1. Круговое движение руки с лоскутом яркой ткани или любым хорошо заметным предметом.
2. Поднятая над головой рука с флажком или красной тканью.
3. Вытянутая вперед рука.
4. Покачивание вверх и вниз вытянутой вперед рукой.

Если на железнодорожном переезде начал опускаться шлагбаум, то движение транспортных средств через переезд:

1. Запрещается.
2. Разрешается, если для остановки потребуется прибегнуть к экстренному торможению.
3. Разрешается при отсутствии встречных транспортных средств.

Что из перечисленного в ответах, согласно требованиям Правил, обязан выполнить водитель в случае вынужденной остановки транспортного средства на переезде?

1. Включить аварийную световую сигнализацию.
2. Немедленно высадить людей и принять меры для освобождения переезда.
3. Выполнить все вышеперечисленные действия.

Кто из водителей неправильно расположил транспортное средство на проезжей части при проезде железнодорожного переезда?

1. Только водитель мотоцикла.
2. Только водитель легкового автомобиля.
3. Оба правильно.
4. Оба неправильно.

Разрешается ли вам объехать остановившийся перед переездом автомобиль так, как показано на рисунке?

1. Разрешается.
2. Запрещается.

20.27 Подъезжая к такому железнодорожному переезду, вы должны:

1. Руководствоваться световой и звуковой сигнализацией.
2. Руководствоваться дорожными знаками и дорожной разметкой.
3. Убедиться в том, что не приближается поезд (локомотив, дрезина).
4. Выполнить все вышеперечисленное.

Водитель какого транспортного средства правильно занял полосу, двигаясь через переезд?

1. Только автомобиля.
2. Только микроавтобуса.
3. Обоих транспортных средств.

20.29 Водителю транспортного средства в этом случае запрещается:

1. Только самовольно открывать шлагбаум.
2. Только объезжать шлагбаум.
3. Только объезжать транспортные средства, стоящие перед переездом.
4. Все вышеперечисленное.

Движение через такой железнодорожный переезд:

1. Запрещено.
2. Разрешено.

Вопрос подобного содержания может быть поставлен вам на теоретическом экзамене в сервисном центре МВД Украины.

21. Перевозка пассажиров

Перевозить детей на переднем сиденьи легкового автомобиля и на заднем сиденьи мотоцикла:

1. Запрещается, если они ростом менее 150 см или не достигли 13-летнего возраста.
2. Запрещается, если они не достигли 14-летнего возраста.
3. Запрещается, если они ростом менее 145 см или не достигли 12-летнего возраста без использования специальных средств, которые дают возможность пристегнуть ребенка с помощью ремней безопасности.
4. Разрешается только в населенных пунктах.

Согласно Правилам, расстояние от сидений в кузове грузового автомобиля до верхнего края борта должно быть не менее:

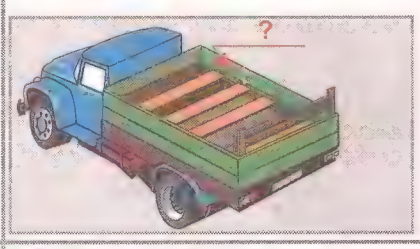

1. 10 см.
2. 20 см.
3. 30 см.
4. 40 см.
5. 50 см.

Проезд в кузове грузового автомобиля, не оборудованном для перевозки пассажиров, разрешается:

1. Только лицам, сопровождающим груз.
2. Только лицам, которые едут за грузом.
3. Перечисленным в ответах 1 и 2 лицам.
4. Никому не разрешается.

Какое количество пассажиров разрешается перевозить в приспособленном для этого грузовом автомобиле, если его водитель имеет стаж водителя более трех лет и удостоверение водителя транспортного средства категории «С»?

1. До восьми человек, кроме водителя.
2. До восьми человек, включая водителя.
3. До восьми человек, кроме пассажиров в кабине.

Водитель какого транспортного средства нарушает правила перевозки пассажиров?



1. Только трактора.
2. Только грузового автомобиля с прицепом.
3. Только автомобиля-самосвала.
4. Всех транспортных средств.

Количество пассажиров, которое разрешается перевозить в транспортном средстве:

1. Определяется водителем, исходя из технического состояния транспортного средства.
2. Предусматривается технической характеристикой транспортного средства.
3. Может превышать количество посадочных мест не более чем на три.
4. Может быть любым из перечисленных в ответах.

Военнослужащие срочной службы для допуска их к перевозке пассажиров в кузове грузового автомобиля должны пройти стажировку:

1. В течение 3 месяцев.
2. В течение 5 месяцев.
3. В течение 6 месяцев.

Во время перевозки в автобусе организованной группы детей на нем должен быть установлен опознавательный знак «Дети»:

1. Только сзади.
2. Только спереди.
3. Спереди или сзади.
4. Спереди и сзади.

Какое из перечисленных в ответах количество пассажиров разрешается перевозить в кузове грузового автомобиля?

1. Предусмотренное его технической характеристикой.
2. Не более количества оборудованных для сиденья мест.
3. Не более количества оборудованных для сиденья мест со спинками.

Перевозить детей в кузове грузового автомобиля:

1. Разрешается в возрасте не моложе 16 лет.
2. Разрешается в возрасте не моложе 12 лет и ростом не менее 145 см.
3. Запрещается.

Вопрос подобного содержания может быть поставлен вам на теоретическом экзамене в сервисном центре МВД Украины.

Водителю разрешается перевозить 10 пассажиров в кузове грузового автомобиля, если он имеет удостоверение на право управления транспортными средствами:

1. Только категории «С».
2. Категорий «В» и «С».
3. Категорий «С» и «D».
4. Любой вышеуказанной категории.

Согласно Правилам перед поездкой проинструктировать пассажиров грузового автомобиля о правилах посадки, высадки, размещения и поведения в кузове должен:

1. Сопровождающий.
2. Водитель.
3. Руководитель автохозяйства или службы безопасности движения.

Водителям каких транспортных средств запрещается во время перевозки пассажиров разговаривать с ними и курить?

1. Только маршрутных автобусов и микроавтобусов.
2. Только троллейбусов и трамваев.
3. Только такси.
4. Всех вышеперечисленных маршрутных транспортных средств.
5. Только перечисленных в ответах 1 и 2 маршрутных транспортных средств.

Перевозить организованные группы детей в темное время суток:

1. Разрешается в присутствии не менее двух взрослых сопровождающих.
2. Запрещается.
3. Разрешается, если дети достигли 12-летнего возраста.

Запрещено перевозки детей на переднем сиденье легкового автомобиля без использования специальных средств, позволяющих пристегнуть ребенка с помощью ремней безопасности:

1. Только таких, возраст которых менее 12 лет.
2. Только таких, рост которых меньше 145 см.
3. Обоих вышеперечисленных категорий.

Разрешается ли перевозить на заднем сиденье легкового автомобиля детей, рост которых меньше 145 см или не достигших 12-летнего возраста?

1. Запрещается.
2. Разрешается при использовании специальных средств, позволяющих пристегнуть ребенка с помощью ремней безопасности.
3. Разрешается при использовании ремней безопасности.

Перевозить в легковом автомобиле детей младше 12 лет и ростом менее 145 см без использования специальных средств, позволяющих пристегнуть ребенка с помощью ремней безопасности:

1. Разрешено только в населенных пунктах.
2. Разрешено только на дорогах с одной полосой для движения в каждом направлении.
3. Запрещено.

Перевозить на переднем сиденье легкового автомобиля детей младше 12 лет и ростом менее 145 см разрешается при условии:

1. Исправности ремней безопасности.
2. Движения в населенном пункте с минимальной скоростью.
3. Использования специальных средств, позволяющих пристегнуть ребенка с помощью ремней безопасности.

Вопрос подобного содержания может быть поставлен вам на теоретическом экзамене в сервисном центре МВД Украины.

22. Перевозка груза

Нарушает ли водитель Правила во время перевозки груза?

1. Нарушает.
2. Не нарушает.

В каких случаях не разрешается перевозить груз?

1. Если груз подвергает опасности участников дорожного движения.
2. Если габариты груза по ширине составляют 3 м.
3. Если нагрузка на одиночную ось составляет 10 т.
4. Во всех вышеперечисленных случаях.

22.3 Чем из перечисленного в ответах должен обозначаться груз во время перевозки в темное время суток, если он выступает за задний габарит транспортного средства более чем на 1 м?

1. Красными флажками.
2. Сигнальными щитками или флажками с красными и белыми полосами по диагонали.
3. Световозвращателями или фонарями красного цвета.
4. Любыми перечисленными выше средствами.

22.4 В каких случаях запрещается перевозка груза?

1. Только если масса перевозимого груза превышает величину, определенную технической характеристикой данного транспортного средства.
2. Только если распределение нагрузки на оси превышает величину, определенную технической характеристикой данного транспортного средства.
3. В обоих перечисленных случаях.

22.5 Во время движения такого транспортного средства необходимо:

1. Только включить ближний свет фар.
2. Только установить и включить проблесковый маячок.
3. Включить ближний свет фар и проблесковый маячок.

22.6 В каких случаях запрещается перевозить груз?

1. Только если груз подвергает опасности участников дорожного движения.
2. Только если груз ограничивает водителю обзорность.
3. Только если груз загрязняет проезжую часть.
4. Во всех перечисленных выше случаях.

В каких случаях перевозка груза осуществляется по специальным правилам?

1. Если высота транспортного средства с грузом от поверхности дороги составляет 4,5 м.
2. Если ширина транспортного средства с грузом составляет 2,5 м.
3. Если длина транспортного средства с грузом составляет 22 м.
4. Если нагрузка на сдвоенные оси составляет 15 т.
5. Во всех перечисленных выше случаях.

22.8 Кто согласно требованиям Правил обязан контролировать надежность расположения и крепления груза во время движения транспортного средства?

1. Водитель.
2. Лицо, сопровождающее перевозку груза.
3. Оба перечисленных лица.

22.9 Перевозить груз так, как показано на рисунке:



1. Разрешается при условии соблюдения весовых нагрузок.
2. Разрешается при скорости движения на поворотах до 30 км/ч.
3. Разрешается при соблюдении условий, указанных в ответах 1 и 2.
4. Запрещается.

22.10 В каких случаях запрещается перевозить груз?

1. Если груз нарушает устойчивость транспортного средства и затрудняет управление им.
2. Если фактическая масса груза превышает 36 т.
3. Если груз выступает за задний габарит транспортного средства на 4 м.
4. Во всех перечисленных выше случаях.

Вопрос подобного содержания может быть поставлен вам на теоретическом экзамене в сервисном центре МВД Украины.

В каких случаях перевозимый на транспортном средстве груз должен быть обозначен?

1. Если он выступает за габариты транспортного средства сзади на 1 м.
2. Если груз по ширине выступает на 0,5 м от внешнего края заднего габаритного фонаря транспортного средства.
3. Если высота транспортного средства с грузом от поверхности дороги составляет 4 м.
4. Во всех перечисленных выше случаях.

Нарушает ли водитель легкового автомобиля Правила, приступая к перевозке груза?

1. Нарушает.
2. Не нарушает.

Нарушает ли водитель легкового автомобиля правила перевозки груза?



1. Нарушает.
2. Не нарушает.

Разрешается ли такая перевозка груза, если длина автомобиля с грузом не превышает 22 м?

1. Разрешается без обозначения.
2. Разрешается при соответствующем обозначении груза.
3. Запрещается.

Что должно быть включено на автомобиле во время перевозки такого крупногабаритного груза?

1. Ближний свет фар и задние габаритные огни.
2. Стояночные и задние габаритные огни.
3. Проблесковый маячок оранжевого цвета.
4. Все перечисленное.
5. Только перечисленное в ответах 1 и 3.

Что согласно требованиям Правил должен контролировать водитель перед перевозкой груза?

1. Правильность его упаковки.
2. Надежность его расположения и крепления.
3. Его количество согласно документам.
4. Все перечисленное.

Перевозить груз так, как показано на рисунке:

1. Разрешается, если он надежно закреплен.
2. Разрешается при скорости движения не бо лее 40 км/ч.
3. Разрешается при его обозначении.
4. Разрешается при соблюдении условий, указанных в ответах 1–3.
5. Запрещается.

Разрешается ли такая перевозка груза?

1. Разрешается без каких-либо обозначений.
2. Разрешается при соответствующем обозначении груза.
3. Запрещается.

Нарушает ли водитель грузового автомобиля Правила, приступая к перевозке груза?

1. Нарушает.
2. Не нарушает.

Должен ли водитель легкового автомобиля в этом случае обозначать груз?

1. Должен.
2. Не должен.

Вопрос подобного содержания может быть поставлен вам на теоретическом экзамене в сервисном центре МВД Украины.

23. Буксировка и эксплуатация транспортных составов

Разрешается ли такая буксировка на жесткой сцепке при указанных фактических массах, если тормозная система буксируемого транспортного средства неисправна?

1. Разрешается.
2. Запрещается.
3. Разрешается только с минимальной скоростью.
4. Разрешается, кроме движения на горных дорогах.

Какими транспортными средствами разрешается выполнять буксировку другого транспортного средства?

1. Механическими транспортными средствами без прицепа.
2. Только грузовыми автомобилями.
3. Только механическими транспортными средствами, имеющими фактическую массу больше половины фактической массы буксируемого транспортного средства.

Разрешается ли буксировка мотоциклов с боковым прицепом?



1. Разрешается.
2. Разрешается только со скоростью не более 30 км/ч.
3. Запрещается.

Какое расстояние между транспортными средствами должно быть при буксировке с применением жесткой сцепки?

1. Не более 4 м.
2. От 4 до 5 м.
3. От 5 до 6 м.

Разрешается ли перевозить пассажиров в кузове буксирующего грузового автомобиля?



1. Разрешается при буксировке только на жесткой сцепке.
2. Разрешается.
3. Запрещается.

С применением какой из перечисленных в ответах сцепки должна осуществляться буксировка немеханического транспортного средства?

1. Гибкой.
2. Жесткой.
3. Гибкой или жесткой.

Разрешается ли буксировка троллейбуса при указанной на рисунке длине сцепленных транспортных средств?



1. Разрешается.
2. Запрещается.
3. Разрешается только с минимальной скоростью движения.

Буксировку механического транспортного средства с недействующим рулевым управлением можно осуществлять с частичной погрузкой:

1. Только на платформу.
2. Только на специальное опорное приспособление.
3. Любым перечисленным выше способом.

Перевозить пассажира в кузове автомобиля при такой буксировке:

1. Разрешено водителю синего автомобиля.
2. Разрешено водителю зеленого автомобиля.
3. Разрешено водителям обоих автомобилей при условии оборудования места для сидения.
4. Запрещено.

23.10 **Транспортное средство с недействующим рулевым управлением должно буксироваться так, как изображено на рисунке:**



1. Только «А».
2. Только «Б».
3. Только «В».

Вопрос подобного содержания может быть поставлен вам на теоретическом экзамене в сервисном центре МВД Украины.

23.11 В каких случаях запрещается буксировка транспортных средств?

1. Только если фактическая масса буксируемого транспортного средства с неисправной тормозной системой превышает половину фактической массы буксирующего.
2. Только если транспортное средство буксируется на гибкой сцепке во время гололедицы.
3. Только если общая длина сцепленных грузовых автомобилей превышает 22 м.
4. Во всех перечисленных выше случаях.

23.12 Разрешается ли выполнять такую буксировку в гололедицу?



1. Разрешается.
2. Запрещается.

23.13 Какой длины должна быть гибкая сцепка, не имеющая световозвращающего покрытия, и необходимо ли ее обозначать при буксировке?

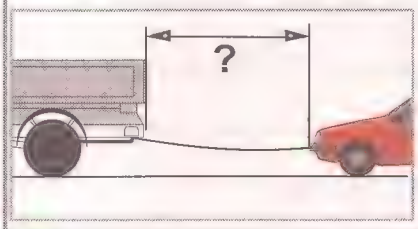

1. 4–6 м и необходимо обозначать через 1 м.
2. 4–6 м, обозначать не нужно.
3. 6–8 м и необходимо обозначать через 2 м.
4. Не более 8 м и необходимо обозначать через 2 м.

23.14 Что обязательно должны согласовать водители перед началом буксировки, в частности для остановки транспортных средств?

1. Маршрут движения.
2. Места остановок.
3. Порядок подачи сигналов.
4. Способы снижения скорости.
5. Все перечисленное выше.

23.15 Во время такой буксировки в легковом автомобиле должно действовать и быть исправным:

1. Только рабочая тормозная система.
2. Рулевое управление.
3. Обе перечисленные выше системы.

23.16 Разрешается ли Правилами такая буксировка?



1. Разрешается только на гибкой сцепке.
2. Разрешается только на жесткой сцепке.
3. Запрещается.
4. Разрешается только с минимальной скоростью.

23.17 На каком рисунке показан разрешенный способ буксировки?

1. На верхнем.
2. На нижнем.
3. Оба вида буксировки запрещены.
4. Оба вида буксировки разрешены.

23.18 Если за рулем буксируемого автомобиля находится водитель, то буксировка может выполняться с применением:

1. Только жесткой сцепки.
2. Только гибкой сцепки.
3. Жесткой или гибкой сцепки.

23.19 Разрешается ли эксплуатация составов транспортных средств, состоящих из автомобиля или трактора и прицепа?

1. Разрешается во всех случаях.
2. Разрешается только при условии соответствия прицепа тягачу и выполнения требований по их эксплуатации.
3. Запрещается во всех случаях.

23.20 Согласно Правилам при буксировке на гибкой сцепке в легковом автомобиле должны быть исправными:

1. Приборы световой сигнализации.
2. Рулевое управление и рабочая тормозная система.
3. Ходовая часть и аварийная сигнализация.

Вопрос подобного содержания может быть поставлен вам на теоретическом экзамене в сервисном центре МВД Украины.

23-21 **Согласно требованиям Правил при буксировке механического транспортного средства с применением гибкой сцепки связующее звено должно обозначаться флажками через:**

1. 0,5 м.
2. 1,0 м.
3. 1,5 м

23-22 **Буксировать мотоцикл в населенном пункте:**

1. Разрешается со скоростью не более 30 км/ч.
2. Разрешается только мотоциклом с боковым прицепом.
3. Запрещается.

23-23 **Буксировка транспортных средств разрешается при условии исправности сцепного устройства:**

1. Только в буксирующего транспортного средства.
2. Только в буксируемого транспортного средства.
3. В обоих перечисленных выше транспортных средствах.

23-24 **Разрешается ли перевозить пассажиров в буксируемом транспортном средстве?**

1. Разрешается в легковом автомобиле во время буксировки на жесткой или гибкой сцепке.
2. Разрешается в любом транспортном средстве не более одного пассажира.
3. Разрешается только в грузовом автомобиле при буксировке на жесткой сцепке.
4. Не разрешается при любой буксировке.

23-25 **В соответствии с Правилами для буксировки разрешается применять гибкую сцепку:**

1. «А» или «Б».
2. Только «А».
3. Только «Б».

23-26 **Разрешается ли Правилами такая буксировка?**

1. Разрешается.
2. Запрещается.
3. Разрешается только после согласования с Национальной полицией.

23-27 **Разрешается ли буксировка, показанная на рисунке?**



1. Разрешается.
2. Запрещается.
3. Разрешается только с минимальной скоростью движения.

23-28 **Разрешается ли Правилами такая буксировка?**

1. Разрешается.
2. Запрещается.
3. Разрешается, если в автобусе отсутствуют пассажиры.

23-29 **Каким способом разрешена буксировка во время гололеда?**



1. Только «А».
2. Только «Б».
3. Только «В».
4. Любым.
5. «Б» или «В».

23-30 **В каких случаях запрещается буксировка транспортных средств?**

1. Только если буксирующим транспортным средством является мотоцикл без бокового прицепа либо буксируется такой мотоцикл, мопед или велосипед.
2. Только если буксируется более одного транспортного средства.
3. Только если автобусом буксируется прицеп.
4. В любом перечисленном выше случае.

Вопрос подобного содержания может быть поставлен вам на теоретическом экзамене в сервисном центре МВД Украины.

24. Учебная езда

24.1 Лицо, которое обучается вождению транспортного средства:

1. Обязано знать и выполнять требования Правил дорожного движения.
2. Может учиться вождению на дорогах с малой интенсивностью движения без знаний Правил дорожного движения.
3. Может учиться вождению без знаний Правил дорожного движения, но на минимальной скорости.
4. Должно соблюдать все вышеперечисленные требования.

24.2 С какого минимального возраста разрешается обучаться вождению автомобиля?

1. 14 лет.
2. 16 лет.
3. 18 лет.
4. 20 лет.

24.3 В каких местах разрешается проводить начальное обучение вождению транспортным средством?

1. Только на закрытых площадках.
2. Только на автодромах.
3. Только в местах, где отсутствует движение других транспортных средств.
4. Только в местах, где отсутствуют пешеходы.
5. Во всех перечисленных выше местах.

24.4 С какого минимального возраста разрешается обучаться вождению мопеда?

1. 12 лет.
2. 14 лет.
3. 16 лет.
4. 18 лет.

24.5 Разрешается ли учебная езда на автомагистралях?

1. Разрешается только на легковом автомобиле при достаточном водительском стаже у обучающегося.
2. Запрещается.
3. Разрешается только по крайней правой полосе проезжей части.

24.6 С какого минимального возраста разрешается обучаться вождению мотоцикла?

1. 12 лет.
2. 14 лет.
3. 16 лет.
4. 18 лет.

24.7 Разрешается ли учебная езда на дорогах без специалиста по подготовке водителей при достаточных начальных навыках вождения у обучаемого?

1. Разрешается.
2. Разрешается только на дорогах, где отсутствует движение маршрутных транспортных средств.
3. Запрещается.

24.8 Обучать вождению на этой территории:

1. Разрешается при достаточных навыках обучаемого.
2. Разрешается при отсутствии пешеходов.
3. Запрещается.

24.9 Привлекается ли лицо, обучающееся вождению автомобиля, к административной ответственности за допущенное им нарушение Правил дорожного движения?

1. Не привлекается.
2. Привлекается.
3. Привлекается только в случае, если обучение проводится на дороге населенного пункта.
4. Привлекается только в случае, если в автомобиле отсутствует лицо, обучающее вождению.

24.10 Механическое транспортное средство (за исключением мотоциклов, мопедов и квадроциклов), используемое для систематического обучения вождению, должно быть:

1. Только обозначено соответствующими опознавательными знаками.
2. Только оборудовано дополнительными педалями сцепления, акселератора и торможения для специалиста по подготовке водителей.
3. Только оборудовано дополнительными зеркалами заднего вида для специалиста по подготовке водителей.
4. Оборудовано всеми перечисленными средствами.

Вопрос подобного содержания может быть поставлен вам на теоретическом экзамене в сервисном центре МВД Украины.

25. Движение транспортных средств в колоннах

25.1 **Во время движения транспортных средств в колонне их скорость:**

1. Устанавливается старшим колонны.
2. Выбирается водителем с учетом дорожной обстановки.
3. Не должна превышать 50 км/ч в населенных пунктах и 80 км/ч вне населенных пунктов.

25.2 **Включение ближнего света фар на транспортных средствах колонны, сопровождаемой оперативными транспортными средствами с включенными проблесковыми маячками, является:**

1. Обязательным.
2. Не обязательным.

25.3 **Какое из перечисленных в ответах максимальное количество механических транспортных средств должно быть в группах, на которые разделяется колонна, если их движение осуществляется без сопровождения оперативными транспортными средствами?**

1. Три.
2. Пять.
3. Семь.
4. Десять.

25.4 **Транспортные средства в составе колонны, которую не сопровождают оперативные транспортные средства, должны двигаться:**

1. В один ряд как можно ближе к правому краю проезжей части.
2. Только в светлое время суток.
3. Группами не менее пяти транспортных средств.
4. Выполняя все вышеперечисленные требования.

25.5 **В населенном пункте колонна микроавтобусов остановилась:**

1. Без нарушения Правил.
2. С нарушением Правил.

25.6 **Транспортные средства в составе колонны во время движения в светлое время суток без сопровождения оперативными транспортными средствами должны быть обозначены:**

1. Только опознавательным знаком «Колонна».
2. Только включенным ближним светом фар.
3. Только включенной аварийной световой сигнализацией.
4. Всем вышеперечисленным.
5. Опознавательным знаком «Колонна» и включенным ближним светом фар.

25.7 **В случае остановки колонны на дороге:**

1. На всех транспортных средствах включается аварийная световая сигнализация.
2. Снимаются опознавательные знаки «Колонна».
3. Выставляется знак аварийной остановки.
4. Выполняются все вышеперечисленные требования.

25.8 **На каком рисунке правильно осуществляется движение в колонне?**

1. На левом. 2. На правом. 3. На обоих.

25.9 **Разрешается ли при движении колонны транспортных средств занимать место для постоянного движения в ее составе другим транспортным средствам?**

1. Разрешается, если дорога имеет не более двух полос для движения.
2. Разрешается, если скорость движущихся в колонне транспортных средств не более 30 км/ч.
3. Запрещается.

25.10 **С какой максимальной скоростью разрешается движение водителю автомобиля с включенным маячком и водителям сопровождаемой им колонны?**

1. Только 70 км/ч.
2. Только 90 км/ч.
3. Только 100 км/ч.
4. Любой, обеспечивающей безопасность дорожного движения.

Вопрос подобного содержания может быть поставлен вам на теоретическом экзамене в сервисном центре МВД Украины.

26. Движение в жилой и пешеходной зоне

При выезде на дорогу с пешеходной зоны водитель легкового автомобиля должен уступить дорогу:



1. Только микроавтобусу.
2. Только пешеходу.
3. Микроавтобусу и пешеходу.
4. Микроавтобусу и грузовому автомобилю.
5. Всем участникам дорожного движения.

Кто из перечисленных участников дорожного движения имеет преимущество в движении по проезжей части в жилой зоне?

1. Водители велосипедов.
2. Водители транспортных средств, обозначенных опознавательным знаком «Инвалид».
3. Пешеходы.
4. Участники дорожного движения, указанные в ответах 1 и 3.

Водителю какого транспортного средства разрешается въезд в обозначенную этим знаком территорию, если он на ней не проживает и не работает?



1. Только легкового автомобиля.
2. Только мотоцикла.
3. Обоих транспортных средств разрешается.
4. Обоих транспортных средств запрещается.

Что из перечисленного запрещается на территории двора жилого дома?

1. Движение грузовых автомобилей, которые принадлежат гражданам, проживающим в доме прилегающего двора.
2. Движение пешеходов по проезжей части, где имеются тротуары.
3. Ставить транспортные средства вне специально отведенных мест для стоянки.
4. Выполнение любых вышеперечисленных действий.

В жилой зоне разрешается движение:

1. Только транспортных средств, которые принадлежат гражданам, проживающим в этой зоне.
2. Только оперативных транспортных средств.
3. Только транспортных средств, которые обслуживают граждан, проживающих в этой зоне.
4. Только транспортных средств, выполняющих технологические работы.
5. Всех вышеперечисленных транспортных средств.

На проезжей части изображенной на рисунке территории преимущество в движении принадлежит:

1. Водителю легкового автомобиля.
2. Пешеходам.

При выезде на дорогу вы:



1. Должны уступить дорогу только мотоциклу.
2. Должны уступить дорогу только пешеходу.
3. Должны уступить дорогу мотоциклу и пешеходу.
4. Имеете преимущество в движении.

Разрешается ли стоянка транспортных средств с работающим двигателем в жилой зоне?

1. Разрешается.
2. Разрешается только в зимний период.
3. Запрещается.
4. Разрешается не более 30 мин.

Кто из пешеходов не нарушает Правила, двигаясь в жилой зоне?

1. Только мужчина.
2. Только женщина.
3. Оба не нарушают.

Водителю какого транспортного средства разрешается движение на обозначенной этим знаком территории?



1. Грузового автомобиля, обслуживающего население.
2. Легкового автомобиля, если обучающееся лицо там проживает.
3. Водителям обоих автомобилей.

Вопрос подобного содержания может быть поставлен вам на теоретическом экзамене в сервисном центре МВД Украины.

27. Движение по автомагистралям и дорогам для автомобилей

27.1 **Кто из водителей нарушает Правила, остановив транспортное средство для высадки пассажира на этом участке дороги?**

1. Только водитель автобуса.
2. Только водитель легкового автомобиля.
3. Оба водителя.

27.2 **В каких местах пешеходам разрешается переходить проезжую часть дороги, обозначенную знаком «Дорога для автомобилей»?**

1. В специально обозначенных дорожными знаками и (или) разметкой местах.
2. На перекрестках.
3. В местах технологических разрывов разделительной полосы.
4. В любом вышеперечисленном месте.

27.3 **Водитель какого транспортного средства нарушает Правила при движении по автомагистрали?**



1. Только трактора.
2. Только грузового автомобиля.
3. Только легкового автомобиля.
4. Легкового автомобиля и трактора.
5. Всех перечисленных выше.

27.4 **Учебная езда на автомагистрали и дороге для автомобилей:**

1. Разрешается только после приобретения достаточных первоначальных навыков.
2. Разрешается только на легковых автомобилях.
3. Разрешается только на автобусах.
4. Запрещается.

27.5 **Кто из участников дорожного движения нарушает требования Правил, в том числе двигаясь на этом участке дороги со скоростью 130 км/ч?**

1. Только водитель автобуса.
2. Только водитель грузового автомобиля.
3. Только водитель легкового автомобиля.
4. Водители автобуса и грузового автомобиля.
5. Все вышеперечисленые водители.

27.6 **Водитель какого транспортного средства нарушает Правила, выполняя разворот в технологическом разрыве на этом участке дороги?**

1. Легкового автомобиля.
2. Грузового автомобиля.
3. Обоих транспортных средств.

27.7 **Разрешается ли движение по автомагистрали, если управляемый вами автомобиль по техническому состоянию развивает скорость менее 40 км/ч?**

1. Разрешается по первой или второй полосе.
2. Разрешается только по правой крайней полосе.
3. Запрещается.

27.8 **На изображенном участке дороги водителю легкового автомобиля движение задним ходом:**

1. Разрешается.
2. Запрещается.
3. Разрешается, если включена аварийная световая сигнализация.
4. Разрешается, если прибегнуть к помощи других лиц.

27.9 **В случае вынужденной остановки на проезжей части автомагистрали или дороги для автомобилей водитель должен принять меры, чтобы убрать транспортное средство за пределы:**

1. Обочины.
2. Проезжей части на разделительную полосу.
3. Проезжей части только вправо.

27.10 **Преимущество в движении имеет:**



1. Водитель мотоцикла.
2. Водитель микроавтобуса.

Вопрос подобного содержания может быть поставлен вам на теоретическом экзамене в сервисном центре МВД Украины.

27.11 **Разрешается ли движение гужевого транспорта, велосипедов, мопедов, тракторов и самоходных машин на автомагистралях и дорогах для автомобилей?**

1. Разрешается только на дорогах для автомобилей.
2. Разрешается на обеих дорогах.
3. Запрещается.

27.12 **Пешеходам и велосипедистам движение в обозначенных стрелками местах:**

1. Разрешается в «А» и «Б».
2. Разрешается только в «А».
3. Разрешается только велосипедистам в «А».
4. Разрешается пешеходам в «А», велосипедистам — в «Б».
5. Запрещается.

27.13 **По какой полосе разрешается движение грузовых автомобилей с разрешенной максимальной массой свыше 3,5 т на дорогах для автомобилей?**

1. Только по первой полосе.
2. По первой и второй полосе.
3. По любой полосе.

27.14 **Разрешается ли движение задним ходом на дороге для автомобилей?**

1. Запрещается во всех случаях.
2. Разрешается во всех случаях.
3. Запрещается только в пределах мостов, путепроводов, на въездах и выездах с них.

27.15 **Водитель легкового автомобиля может остановиться на этом участке дороги:**



1. Только на правой обочине.
2. Только на разделительной полосе.
3. Только в месте, обозначенном дорожными знаками 5.38 «Место для стоянки» или 6.15 «Место отдыха».

27.16 **В каких местах на автомагистрали разрешается стоянка транспортных средств?**

1. В любых местах за пределами проезжей части.
2. Только правее линии разметки, обозначающей край проезжей части, если остановившееся транспортное средство не закроет видимость другим участникам движения.
3. Только на специальных площадках, обозначенных соответствующими знаками.
4. В любых перечисленных выше местах.

27.17 **Разрешается ли движение этого автомобиля на данном участке дороги?**



1. Разрешается.
2. Запрещается.

27.18 **Пешеходы могут переходить проезжую часть на этом участке дороги:**



1. Только напротив технологического разрыва автомагистрали.
2. Только по подземным или надземным пешеходным переходам.
3. В обоих перечисленных выше местах.

Водитель какого транспортного средства правильно остановился для ремонта поврежденной шины на дороге для автомобилей?

1. Мотоцикла.
2. Мотоцикла и легкового автомобиля при повреждении шины левого колеса.
3. Мотоцикла и легкового автомобиля при повреждении левого или правого колеса.

Вопрос подобного содержания может быть поставлен вам на теоретическом экзамене в сервисном центре МВД Украины.

28. Движение по горным дорогам и на крутых спусках

28.1 Такая буксировка на горной дороге во время гололедицы:

1. Разрешается.
2. Разрешается со скоростью не более 40 км/ч.
3. Запрещается.

28.2 При движении по горной дороге на спуск водителю транспортного средства запрещается:

1. Только выключать сцепление.
2. Только включать нейтральную передачу.
3. Только выключать двигатель.
4. Только выключать двигатель и сцепление.
5. Выполнять любые вышеперечисленные действия.

28.3 На горных дорогах буксировка транспортных средств запрещается:

1. С применением жесткой сцепки.
2. С применением гибкой сцепки.
3. С частичной погрузкой буксируемого транспортного средства на платформу.
4. Всеми перечисленными выше способами.

28.4 Кто из водителей имеет преимущество при проезде этого участка дороги?

1. Водитель грузового автомобиля.
2. Водитель легкового автомобиля с прицепом.

28.5 На каких участках дорог запрещается движение с неработающим двигателем и выключенным сцеплением или передачей?

1. На горных дорогах и крутых спусках.
2. Только на горных дорогах.
3. Только на крутых спусках.
4. На любых спусках и подъемах.

28.6 Если автобус оборудован заводом-изготовителем специальными горными тормозами, водитель должен пользоваться ими:

1. Только на горных дорогах.
2. На горных дорогах и крутых спусках.
3. Только на крутых спусках.

28.7 Водитель какого транспортного средства имеет преимущество в движении?

1. Грузового автомобиля.
2. Скорой медицинской помощи.

28.8 На каких участках дорог водитель грузового автомобиля или автобуса должен пользоваться противооткатными упорами во время остановки или стоянки?

1. Только на подъемах и спусках, обозначенных дорожными знаками «Крутой подъем» и «Крутой спуск».
2. На всех подъемах.
3. На всех спусках.
4. На всех перечисленных выше участках дорог.

28.9 На горных дорогах во время гололедицы буксировка транспортных средств:

1. Запрещается.
2. Запрещается с применением только гибкой сцепки.
3. Разрешается с применением только жесткой сцепки.
4. Разрешается только с частичной погрузкой буксируемого транспортного средства на платформу.

28.10 Такая буксировка на горной дороге:



1. Разрешается.
2. Запрещается.

Вопрос подобного содержания может быть поставлен вам на теоретическом экзамене в сервисном центре МВД Украины.

29. Международное движение

Транспортное средство, находящееся в международном движении на территории Украины, должно быть временно зарегистрировано в уполномоченном органе МВД, если срок пребывания:

1. Составляет не более 1 месяца.
2. Составляет не более 2 месяцев.
3. Превышает 2 месяца.

Водитель механического транспортного средства — гражданин Украины, выезжающий за границу, должен иметь:

1. Регистрационные документы на транспортное средство и водительское удостоверение, отвечающие требованиям Конвенции о дорожном движении.
2. Опознавательный автомобильный знак Украины на транспортном средстве.
3. Только выданный на таможне знак взамен регистрационного.
4. Документы, перечисленные в ответах 1 и 2.

29.3 **Разрешается ли водителю механического транспортного средства — гражданину Украины выехать за границу на этом автомобиле?**

1. Разрешается.
2. Запрещается.

Вопрос подобного содержания может быть поставлен вам на теоретическом экзамене в сервисном центре МВД Украины.

30. Номерные, опознавательные знаки, надписи и обозначения

30.1 Этот опознавательный знак устанавливается на:

1. Буксируемые транспортные средства в случае неисправности или отсутствия на них аварийной сигнализации.
2. Все транспортные средства, движущиеся в колонне.
3. Все транспортные средства учебных организаций.

30.2 Этот опознавательный знак устанавливается на:

1. Автомобили, которыми управляют водители со стажем до 2 лет.
2. Все маршрутные микроавтобусы.
3. Все транспортные средства учебных организаций.
4. Любые вышеперечисленные транспортные средства.

30.3 В течение какого предельного периода времени с момента приобретения (получения) механического транспортного средства необходимо зарегистрировать его в уполномоченном органе МВД?

1. Не более 3 суток.
2. Не более 5 суток.
3. Не более 10 суток.
4. Не более 20 суток.
5. Не более 30 суток.

30.4 Этот опознавательный знак применяется для обозначения груза:

1. Выступающего за габариты транспортного средства спереди или сзади более чем на 1 м.
2. Выступающего за габариты транспортного средства спереди или сзади на 0,5 м.
3. Любой длины, выступающего за габариты транспортного средства.

30.5 Этот опознавательный знак устанавливается на транспортные средства:

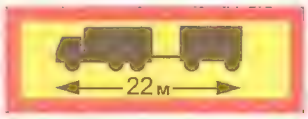

1. Которые перевозят только большегрузные или негабаритные грузы.
2. Длина которых с грузом или без него превышает 22 м или с двумя и более прицепами (независимо от их общей длины).
3. Которые перевозят только людей в кузове-фургоне.

30.6 На опознавательном знаке «Информационная таблица опасного груза» указывается идентификационный номер:

1. Только вида опасности.
2. Только опасного вещества по перечню ООН.
3. Перечисленного в ответах 1 и 2.

30.7 Какой из опознавательных знаков устанавливается или наносится на автомобили-такси?

1 2 3 4

30.8 Какой из изображенных опознавательных знаков устанавливается на автомобилях, которыми управляют водители с инвалидностью?

1 2 3

1. Только 1.
2. Только 2.
3. Только 3.
4. 1 или 2.
5. 2 или 3.

30.9 На какой из перечисленной в ответах высоте от поверхности дороги размещаются опознавательные знаки на транспортных средствах?

1. Только 400 мм.
2. Только 1200 мм.
3. Только 1600 мм.
4. На высоте 400–1600 мм, если они хорошо будут видны другим участникам дорожного движения.

30.10 Какой из изображенных опознавательных знаков обозначает класс опасного вещества?

1 2 3 4

Вопрос подобного содержания может быть поставлен вам на теоретическом экзамене в сервисном центре МВД Украины.

Какие из перечисленных в ответах изображения или надписи запрещается наносить на внешние поверхности транспортных средств?

1. Только не предусмотренные предприятием-изготовителем либо совпадающие с цветографическими схемами оперативных транспортных средств.
2. Только совпадающие с опознавательными знаками.
3. Только совпадающие с надписями оперативных и специальных транспортных средств.
4. Все перечисленные выше.

Какой из знаков устанавливается на транспортные средства, максимальная скорость которых, согласно технической характеристике, менее установленных соответствующими пунктами Правил?

1 2 3

Этот знак устанавливается на транспортные средства, которые:

1. Перевозят опасные грузы.
2. Движутся в колонне без сопровождения автомобилями со специальными сигналами.
3. Перевозят организованную группу детей.
4. Движутся в колонне, сопровождаемой автомобилями со специальными сигналами.

Где согласно Правилам должны быть установлены номерные знаки на механических транспортных средствах и прицепах?

1. В любом месте, если обеспечена видимость номерных знаков.
2. В предусмотренных для этого местах.
3. Спереди – в любом месте на бампере, сзади – возле габаритных фонарей.

На каком из рисунков правильно размещен опознавательный знак?



1 2

Во время перевозки организованной группы детей на транспортное средство устанавливается знак:

1 2 3

Для обозначения гибкой сцепки без светоотражающего покрытия при буксировке транспортных средств применяются:

1. Красные флажки или щитки размером 200 х 200 мм из световозвращающего материала.
2. Белые флажки или щитки размером 200 х 200 мм из световозвращающего материала.
3. Флажки или щитки размером 200 х 200 мм с нанесенными по диагонали красными и белыми полосами из световозвращающего материала.
4. Любые перечисленные выше флажки или щитки.

Этот опознавательный знак устанавливается на транспортные средства, которыми управляют:



1. Глухие или глухонемые водители.
2. Водители с инвалидностью.
3. Ученики.
4. Все вышеперечисленные.

Этот опознавательный знак устанавливается на все транспортные средства:



1. Состоящие на временном учете на территории Украины.
2. Зарегистрированные на территории Украины.
3. Зарегистрированные на территории Украины, которые находятся в международном движении.

Этот опознавательный знак устанавливается на автомобили, принадлежащие:

1. Водителям-врачам.
2. Пунктам первой медицинской помощи.
3. Больницам.

Вопрос подобного содержания может быть поставлен вам на теоретическом экзамене в сервисном центре МВД Украины.

30.21 **Знак автопоезда устанавливается:**

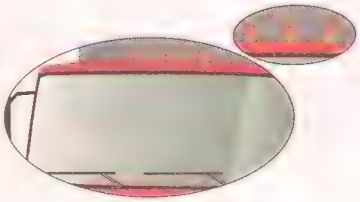

1. Только на грузовых автомобилях с прицепом.
2. Только на сочлененных автобусах и троллейбусах.
3. На всех перечисленных транспортных средствах.

30.22 **Какой из изображенных опознавательных знаков во всех случаях устанавливается на автомобилях, используемых для обучения вождению автомобиля?**

1 2

1. Только 1.
2. Только 2.
3. Оба.

30.23 **На какие транспортные средства устанавливается опознавательный знак «Ограничение максимальной скорости»?**

1. Только на ТС, которыми управляют водители со стажем до 2 лет.
2. Только на грузовые автомобили при перевозке людей или опасных, тяжеловесных либо крупногабаритных грузов.
3. Только на ТС, максимальная скорость которых согласно их техническим характеристикам или особым условиям движения ниже установленной Правилами.
4. На все перечисленные выше транспортные средства.

30.24 **Эти опознавательные знаки устанавливаются на транспортные средства, перевозящие:**

1. Только большегрузные или негабаритные грузы.
2. Только опасные грузы.
3. Только сыпучие или пылеобразующие грузы.

30.25 **Этот опознавательный знак установливается на транспортные средства:**

1. Которые осуществляют перевозку только школьников.
2. На которых установлены шины с шипами.
3. Которыми управляют только глухие водители.

Какого из перечисленных в ответах цвета должны быть планки знака аварийной остановки?

1. Зеленого.
2. Красного.
3. Желтого.
4. Белого.

Чем из перечисленного в ответах обозначается в темное время суток и в условиях недостаточной видимости груз, выступающий по ширине более чем на 0,4 м от внешнего края переднего или заднего габаритного фонаря транспортного средства?

1. Сигнальными щитками или флажками с нанесенными по диагонали чередующимися красными и белыми полосами.
2. Световозвращателями или фонарями спереди белого цвета, сзади — красного, сбоку — оранжевого.
3. Спереди белыми, сзади — красными флажками.

Эти опознавательные знаки обязательно устанавливаются:

1. На транспортные средства, выполняющие работы на дороге или имеющие особую форму.
2. Только на длинномерные транспортные средства.
3. Только на транспортные средства, которые перевозят опасные грузы.
4. На все вышеперечисленные транспортные средства.

30.29 **Этот опознавательный знак устанавливается на транспортные средства, которыми управляют:**



1. Водители с инвалидностью.
2. Глухие или глухонемые водители.
3. Водители с ухудшенным зрением.

Где на транспортном средстве должен наноситься опознавательный знак «Такси»?

1. На боковую поверхность транспортного средства.
2. По всему периметру и на освещенный фонарь на крыше.
3. На фонарь, который устанавливается на крыше.

Вопрос подобного содержания может быть поставлен вам на теоретическом экзамене в сервисном центре МВД Украины.

30.31 **Какой из изображенных опознавательных знаков устанавливается на транспортном средстве только сзади?**

1 2 3 4

30.32 * **Какое минимальное количество квадратов опознавательного знака «Такси» должно быть нанесено на боковую поверхность транспортного средства?**

1. Три.
2. Пять.
3. Семь.
4. Десять.

30.33 **Опознавательный знак «Врач» устанавливается на автомобилях, принадлежащих водителям-врачам:**

1. Только с их согласия.
2. По решению администрации лечебных учреждений.
3. По решению Национальной полиции.

30.34 **Эти опознавательные знаки устанавливаются на транспортные средства:**

1. Длина которых составляет от 12 до 22 м.
2. Только с двумя и более прицепами.
3. Длина которых с грузом или без него превышает 24 м.
4. Во всех перечисленных случаях.

* Вопрос подобного содержания может быть поставлен вам на теоретическом экзамене в сервисном центре МВД Украины.

31. Техническое состояние транспортных средств и их оборудование

31.1 Какое количество противотуманных фар разрешено устанавливать на автомобилях?

1. Одну или две.
2. Только две.
3. Две или четыре.

A1 A B1 B C1 C D1 D BE C1E CE D1E DE

31.2 Шины легкового автомобиля должны иметь остаточную высоту рисунка протектора не менее:

1. 2,0 мм.
2. 1,6 мм.
3. 1,0 мм.
4. 0,8 мм.

A1 A C1 B C1 C D1 D BE C1E CE D1E DE

31.3 При каких технических неисправностях, возникших в дороге, водителю разрешается движение к месту стоянки или ремонта?

1. Только если не замыкается рычаг (рукоятка) стояночной тормозной системы в рабочем положении.
2. Только если суммарный люфт в рулевом управлении превышает предельные его значения.
3. Только если нарушена регулировка фар.
4. При любой перечисленной выше неисправности.
5. Только при перечисленных в ответах 1 и 2 неисправностях.

31.4 При какой технической неисправности запрещается эксплуатация автобуса?

1. Только если имеются трещины диска и ободьев колес.
2. Только если тормозной путь автобуса во время дорожных испытаний рабочей тормозной системы превышает 18,3 м.
3. Только если суммарный люфт в рулевом управлении превышает 20 град.
4. При любой перечисленной выше неисправности.
5. Только при перечисленных в ответах 1 и 2 неисправностях.

A1 A B1 B C1 C D1 D BE C1E CE D1E DE

31.5 На каком уклоне дороги стояночный тормоз должен обеспечивать неподвижное состояние транспортного средства с полной нагрузкой?

1. Только не менее 10 %.
2. Только не менее 12 %.
3. Только не менее 16 %.
4. Только не менее 18 %.

31.6 При какой технической неисправности запрещается эксплуатация автопоезда?

1. Только если неисправны предусмотренные конструкцией состава автопоезда страховочные тросы (цепи).
2. Только если разрешен коренной лист рессоры.
3. При любой вышеперечисленной неисправности.

A1 A B1 B C1 C D1 D BE C1E CE D1E DE

31.7 Запрещается ли эксплуатация транспортных средств, которые не прошли обязательный технический контроль, если они подлежат его прохождению?

1. Запрещается.
2. Не запрещается.

31.8 При наличии каких технических неисправностей рулевого управления запрещается эксплуатация транспортного средства?

1. Только если имеются не предусмотренные конструкцией ощутимые взаимные перемещения деталей и узлов рулевого управления.
2. Только при незатянутых резьбовых соединениях.
3. Только при незафиксированных резьбовых соединениях.
4. При наличии любой перечисленной выше неисправности.

31.9 В каких случаях запрещается дальнейшее движение даже до места ремонта или стоянки при отказе в работе фар и задних габаритных фонарей?

1. Только в условиях недостаточной видимости.
2. Только в темное время суток.
3. В обоих перечисленных случаях.

31.10 При каких неисправностях внешних световых приборов запрещается эксплуатация транспортных средств?

1. Только в случае нарушения регулировки фар.
2. Только в случае, если не горит лампа левой фары в режиме ближнего света.
3. Только в случае, если не горит лампа правой фары в режиме ближнего света.
4. При любых перечисленных выше неисправностях.
5. При неисправностях, перечисленных в ответах 1 и 2.

* Вопрос подобного содержания может быть поставлен вам на теоретическом экзамене в сервисном центре МВД Украины.

Эксплуатация транспортных средств, в случае их изготовления или переоборудования с нарушением требований стандартов, правил и нормативов, касающихся безопасности дорожного движения:

1. Запрещается.
2. Не запрещается.
3. Разрешается только на закрытой территории.

Автобус допускается к эксплуатации, если его шины имеют минимальную остаточную высоту рисунка протектора:

1. 1,0 мм.
2. 1,6 мм.
3. 2,0 мм.
4. 2,2 мм.
5. 2,5 мм.

D1 | D | C1 | C | D1E | DE

В каких случаях запрещается дальнейшее движение транспортного средства?

1. Не работает замыкающее устройство стояночного тормоза.
2. Не работает амортизатор.
3. Шина колеса имеет повреждение, обнажающее корд.
4. Рабочая тормозная система не дает возможности водителю остановить транспортное средство во время движения с минимальной скоростью.

Запрещается ли эксплуатация транспортных средств, если их номерные знаки не отвечают требованиям соответствующих стандартов?

1. Не запрещается.
2. Запрещается.
3. Запрещается только легковых автомобилей, принадлежащих индивидуальным владельцам.

При какой технической неисправности запрещается эксплуатация легкового автомобиля?

1. Только если имеются трещины диска и ободьев колес.
2. Только если тормозной путь во время дорожных испытаний рабочей тормозной системы превышает 15 м.
3. Только если суммарный люфт в рулевом управлении превышает 10 град.
4. При любой перечисленной выше неисправности.
5. Только при перечисленных в ответах 1 и 2 неисправностях.

B | BE

Разрешается ли эксплуатация транспортных средств с неработающим спидометром?

1. Разрешается.
2. Запрещается.
3. Разрешается эксплуатация только транспортных средств, принадлежащих гражданам.

Что разрешается прикреплять на ветровое стекло транспортных средств?

1. Прозрачные цветные пленки только на верхней части ветрового стекла автомобилей и автобусов.
2. Прозрачные цветные пленки только на нижней части ветрового стекла автомобилей.
3. Любые предметы только справа от расположения руля.

B | C1 | C | D1 | D | BE | C1E | CE | D1E | DE

При какой технической неисправности тормозной системы запрещается эксплуатация транспортных средств?

1. Только в случае нарушения герметичности гидравлического тормозного привода.
2. Только в случае, если не работает манометр пневматического или пневмогидравлического тормозного привода.
3. При любой перечисленной выше неисправности.

B1 | B | C1 | C | D1 | D | BE | C1E | CE | D1E | DE

Разрешается ли установка шин с разным рисунком протектора на одну ось транспортного средства?

1. Разрешается.
2. Запрещается.
3. Разрешается установка только на заднюю ось грузового и легкового автомобилей.

B1 | B | C1 | C | D1 | D | BE | C1E | CE | D1E | DE

При какой технической неисправности запрещается эксплуатация мотоцикла?

1. Только если имеется люфт в соединении мотоцикла с рамой бокового прицепа.
2. Только если на седле нет предусмотренной конструкцией поперечной рукоятки для пассажира.
3. Только если отсутствует фара.
4. При любой перечисленной выше неисправности.

A1 | A

Вопрос подобного содержания может быть поставлен вам на теоретическом экзамене в сервисном центре МВД Украины.

31.21 При каких технических неисправностях запрещается эксплуатация транспортных средств?

1. Только не работает манометр пневматического тормозного привода.
2. Только неисправен усилитель рулевого управления.
3. Только суммарный люфт в рулевом управлении составляет 25 град.
4. При любых вышеперечисленных неисправностях.
5. Только при неисправностях, перечисленных в ответах 1 и 3.

31.22 Где согласно требованиям Правил должна находиться медицинская аптечка в легковых автомобилях, если предприятием-изготовителем место не предусмотрено?

1. В багажнике.
2. Только между сиденьями.
3. В легкодоступных местах.

B | BE

31.23 При какой технической неисправности запрещается эксплуатация грузового автомобиля?

1. Только если имеются трещины диска и ободьев колес.
2. Только если тормозной путь во время дорожных испытаний рабочей тормозной системы превышает 20 м.
3. Только если суммарный люфт в рулевом управлении превышает 30 град.
4. При любой перечисленной выше неисправности.
5. Только при перечисленных в ответах 1 и 2 неисправностях.

C1 | C | C1E | CE

Какие действия должен выполнить водитель, если во время движения разбито ветровое стекло автомобиля, а заменить его на месте происшествия нет возможности?

1. Прекратить дальнейшее движение.
2. Продолжить движение только на буксире.
3. Следовать к месту ремонта или стоянки с соблюдением необходимых мер предосторожности.

B | C1 | C | D1 | D | BE | C1E | CE | D1E | DE

31.25 Дальнейшее движение транспортного средства, у которого не работает стеклоочиститель со стороны расположения руля, запрещается:

1. Только во время дождя.
2. Только во время снегопада.
3. Только в условиях тумана.
4. Во всех вышеперечисленных случаях.
5. Во время дождя или снегопада.

31.26 Шины мотоцикла должны иметь остаточную высоту рисунка протектора не менее:

1. 0,5 мм.
2. 0,8 мм.
3. 1,0 мм.
4. 1,6 мм.
5. 2,0 мм.

A1 | A | B1

Разрешается ли эксплуатация транспортных средств с неработающим звуковым сигналом?

1. Разрешается только на дорогах вне населенных пунктов.
2. Разрешается в зоне действия дорожного знака «Подача звукового сигнала запрещена».
3. Запрещается.

31.28 Разрешается ли следовать к месту стоянки или ремонта, если рулевое управление транспортного средства не дает возможности водителю осуществить маневр во время движения с минимальной скоростью?

1. Разрешается при буксировке на жесткой сцепке.
2. Разрешается со скоростью, обеспечивающей безопасность дорожного движения.
3. Запрещается.

31.29 Эксплуатация транспортного средства запрещается:

1. Если на рассеиватели световых приборов нанесено покрытие.
2. Если на рассеиватели световых приборов нанесена тонировка.
3. В обоих перечисленных случаях.

31.30 В каких случаях запрещается эксплуатация грузового автомобиля?

1. Только если на заднем стекле кабины установлены занавески.
2. Только если на верхней части ветрового стекла прикреплена прозрачная цветная пленка.
3. Только если нет предусмотренного конструкцией зеркала заднего вида.
4. В любых перечисленных выше случаях.

C1 | C | C1E | CE

Вопрос подобного содержания может быть поставлен вам на теоретическом экзамене в сервисном центре МВД Украины.

31.31 **Минимально допустимое значение остаточной высоты рисунка протектора шин грузовых автомобилей с разрешенной максимальной массой более 3,5 т должно составлять:**

1. 0,5 мм.
2. 0,8 мм.
3. 1,0 мм.
4. 1,6 мм.
5. 2,0 мм.

C1 | C | C1E | CE

31.32 **Как должен поступить водитель механического транспортного средства, если во время движения отказал в работе спидометр?**

1. Продолжить движение с особой осторожностью.
2. Прекратить дальнейшее движение.
3. Попытаться устранить неисправность на месте, а если это невозможно, то двигаться кратчайшим путем к месту стоянки или ремонта с соблюдением мер предосторожности.

31.33 **Тормозная система считается неисправной, если нарушена герметичность пневматического или пневмогидравлического привода, что при включенных органах управления тормозной системой приводит к уменьшению давления воздуха при неработающем двигателе за 15 минут более чем на:**

1. 0,2 кгс/см².
2. 0,3 кгс/см².
3. 0,4 кгс/см².
4. 0,5 кгс/см².

B | C1 | C | D1 | D | BE | C1E | CE | D1E | DE

31.34 **Разрешается ли эксплуатация транспортных средств, если не работают механизм регулирования положения сиденья водителя, привод управления дверьми, устройство для обогрева и обдува стекла?**

1. Запрещается.
2. Разрешается только при неработающем механизме регулирования положения сиденья водителя.
3. Разрешается только при неработающем устройстве для обогрева и обдува стекла.

B | C1 | C | D1 | D | BE | C1E | CE | D1E | DE

31.35 **При какой технической неисправности тормозной системы запрещается эксплуатация транспортных средств?**

1. Только при изменении конструкции тормозной системы.
2. Только в случае, если узлы или отдельные детали тормозной системы не предусмотрены для данной модели транспортного средства.
3. При любой из вышеперечисленных.

31.36 **Разрешается ли дальнейшее движение при невозможности устранить на месте неисправность тормозной системы транспортного средства?**

1. Запрещается.
2. Разрешается только к месту ремонта или стоянки, если имеется возможность остановить транспортное средство во время движения с минимальной скоростью.
3. Разрешается только со скоростью не более 20 км/ч.
4. Разрешается только со скоростью не более 30 км/ч.

31.37 **В каких случаях запрещается эксплуатация транспортного средства?**

1. Если не работают только стеклоочистители.
2. Если не работают только предусмотренные конструкцией транспортного средства стеклоомыватели.
3. В обоих перечисленных случаях.

31.38 **Дальнейшее движение транспортного средства, у которого не горят лампы фар или задних габаритных фонарей, запрещается:**

1. Только в темное время суток.
2. Только в условиях недостаточной видимости.
3. В обоих перечисленных выше случаях.

B | D1 | D | BE | D1E | DE

31.39 **Какие транспортные средства запрещается эксплуатировать, если в них отсутствуют знак аварийной остановки, медицинская аптечка и огнетушитель?**

1. Только легковые автомобили.
2. Только автобусы.
3. Только грузовые автомобили.
4. Все перечисленные выше транспортные средства.

B | C1 | C | D1 | D | BE | C1E | CE | D1E | DE

31.40 **При какой технической неисправности запрещается эксплуатация транспортных средств?**

1. Тормозной путь легкового автомобиля во время дорожных испытаний рабочей тормозной системы составляет 14 м.
2. Отсутствует болт (гайка) крепления колеса.
3. Шины имеют проколы.
4. При любой вышеперечисленной неисправности.

A | B1 | B | C1 | C | D1 | D | BE | C1E | CE | D1E | DE

Вопрос подобного содержания может быть поставлен вам на теоретическом экзамене в сервисном центре МВД Украины.

31.41 **При какой технической неисправности тормозной системы запрещается эксплуатация транспортных средств?**

1. Если во время дорожных испытаний длина тормозного пути транспортного средства превышает нормы, установленные Правилами.
2. Если во время дорожных испытаний длина тормозного пути транспортного средства меньше норм, установленных Правилами.

31.42 **Разрешается ли устанавливать на легковом автомобиле дополнительные немигающие сигналы торможения?**

1. Разрешается, но не более одного немигающего сигнала.
2. Разрешается один или два немигающих сигнала.
3. Запрещается.

A1 A B1 **B** C1 C D1 D **BE** C1E CE D1E DE

31.43 **Разрешается ли эксплуатация транспортных средств при неисправном тягово-сцепном устройстве тягача и прицепного звена в составе автопоезда?**

1. Разрешается.
2. Запрещается.
3. Разрешается, кроме движения по горным дорогам, крутым спускам и подъемам.

A1 A B1 B C1 C D1 D **BE** **C1E** **CE** **D1E** **DE**

31.44 **При какой неисправности тормозной системы запрещается эксплуатация легкового автомобиля?**

1. Не включается контрольная лампа стояночной тормозной системы.
2. Нарушена герметичность гидравлического тормозного привода.
3. Уменьшился свободный ход педали тормоза.
4. При любой перечисленной выше неисправности.

A1 A B1 **B** C1 C D1 D **BE** C1E CE D1E DE

31.45 **Эксплуатация легковых автомобилей, в которых отсутствуют ремни безопасности, предусмотренные конструкцией транспортного средства:**

1. Разрешается только при движении в населенных пунктах.
2. Разрешается, если транспортное средство обозначено опознавательным знаком, запрещающим движение со скоростью более 70 км/ч.
3. Запрещается.

A1 A B1 **B** C1 C D1 D **BE** C1E CE D1E DE

31.46 **При какой технической неисправности запрещается эксплуатация транспортных средств?**

1. Только если не замыкается рычаг (рукоятка) стояночной тормозной системы в рабочем положении.
2. Только если не работает звуковой сигнал.
3. Только если не работают предусмотренные конструкцией замки дверей кузова или кабины.
4. При любой перечисленной выше неисправности.
5. Только при перечисленных в ответах 1 и 3 неисправностях.

A1 A B1 B C1 C D1 D **BE** C1E CE D1E DE

31.47 **При наличии каких недостатков в рулевом управлении запрещается эксплуатация транспортного средства?**

1. Только если в нем установлены детали со следами остаточной деформации.
2. Только в случае применения не предусмотренной для данной модели рабочей жидкости.
3. Только в случае применения рабочей жидкости, не отвечающей требованиям предприятия-изготовителя.
4. При наличии любых перечисленных выше недостатков.
5. Только при наличии перечисленного в ответах 1 и 2.

A1 **A** **B1** **B** **C1** **C** **D1** **D** **BE** **C1E** **CE** **D1E** **DE**

31.48 **Разрешается ли эксплуатация транспортных средств с неисправной системой выпуска отработавших газов?**

1. Разрешается.
2. Разрешается только вне населенных пунктов.
3. Запрещается.

31.49 **В каком случае запрещается дальнейшее движение транспортных средств?**

1. Если имеются значительные повреждения элементов кузова (кабины), окраски.
2. Если в составе автопоезда повреждено тягово-сцепное устройство.
3. Если нарушена регулировка фар.
4. В любом перечисленном выше случае.

A1 A B1 B C1 **C** D1 D **BE** **C1E** **CE** **D1E** **DE**

31.50 **Разрешается ли эксплуатировать легковой автомобиль с высотой рисунка протектора шин меньше 1,6 мм?**

1. Разрешается.
2. Запрещается.

A1 A B1 **B** C1 C D1 D **BE** C1E CE D1E DE

Вопрос подобного содержания может быть поставлен вам на теоретическом экзамене в сервисном центре МВД Украины.

31.51 **Разрешается ли использовать противотуманные фары без включения габаритных огней и освещения номерного знака?**

1. Разрешается только в светлое время суток.
2. Разрешается только во время тумана.
3. Запрещается.

31.52 **В каких случаях запрещается дальнейшее движение транспортного средства?**

1. Не работает стеклоочиститель справа от расположения руля.
2. Рулевое управление транспортного средства не дает возможности водителю осуществить маневр во время движения с минимальной скоростью.
3. Неисправен глушитель.
4. В любом перечисленном выше случае.

A1 A B1 | B C1 C D1 D BE C1E CE D1E DE

31.53 **Разрешается ли применение шин с восстановленным протектором на передней оси автобусов, выполняющих междугородные перевозки?**

1. Разрешается.
2. Запрещается.
3. Разрешается применение протекторов, восстановленных только по второму классу ремонта.

A1 A B1 B C1 C D1 D BE C1E CE D1E DE

31.54 **На каком уклоне дороги стояночная тормозная система должна обеспечивать неподвижное состояние грузового автомобиля и автопоезда в снаряженном состоянии?**

1. Только не менее 25 %.
2. Только не менее 31 %.
3. Только не менее 35 %.
4. Только не менее 40 %.

A1 A B1 B C1 C D1 D BE C1E CE D1E DE

31.55 **Разрешается ли эксплуатация транспортного средства, если шины по размеру или допустимым нагрузкам не соответствуют его модели?**

1. Разрешается при неполной загрузке транспортного средства.
2. Не разрешается.
3. Разрешается эксплуатация в случае, если шины не соответствуют его модели только по размеру.

31.56 **В каких случаях запрещается дальнейшее движение транспортных средств?**

1. Если не работает спидометр.
2. Если не горят лампы фар или задних габаритных фонарей в темное время суток или в условиях недостаточной видимости.
3. Если неисправен глушитель.
4. Если шины легкового автомобиля имеют остаточную высоту рисунка протектора менее 1,6 мм.
5. В любых перечисленных выше случаях.

A1 A B1 | B C1 C D1 D BE C1E CE D1E DE

31.57 **Разрешается ли устанавливать шторки или жалюзи на заднем стекле легкового автомобиля?**

1. Разрешается, но только при наличии с обеих сторон зеркал заднего вида.
2. Разрешается только светлого оттенка и при наличии боковых зеркал заднего вида.
3. Запрещается.

A1 A B1 B C1 C D1 D BE C1E CE D1E DE

31.58 **При каких неисправностях внешних световых приборов запрещается эксплуатация транспортных средств?**

1. Только в случае, если на световых приборах нет рассеивателей.
2. Только в случае, если используются рассеиватели и лампы, не отвечающие типу данного светового прибора.
3. При любых перечисленных выше неисправностях.

31.59 **Запрещается ли эксплуатация транспортного средства, если неисправен или отсутствует предусмотренный конструкцией усилитель рулевого управления?**

1. Запрещается.
2. Не запрещается.
3. Не запрещается только при незначительной неисправности усилителя рулевого управления.

A1 A B1 | B C1 C D1 D BE C1E CE D1E DE

31.60 **Разрешается ли применять тонированные стекла на транспортных средствах?**

1. Запрещается.
2. Разрешается.
3. Разрешается только на легковом автомобиле.

A1 A B1 | B C1 C D1 D BE C1E CE D1E DE

Вопрос подобного содержания может быть поставлен вам на теоретическом экзамене в сервисном центре МВД Украины.

В каких случаях запрещается эксплуатация легкового автомобиля?

1. Только если на боковых окнах задних сидений установлены занавески.
2. Только если на верхней части ветрового стекла прикреплена прозрачная цветная пленка.
3. Только если нет предусмотренного конструкцией зеркала заднего вида.
4. В любых перечисленных выше случаях.

B | BE

При каком значении суммарного люфта в рулевом управлении допускается эксплуатация грузового автомобиля с разрешенной максимальной массой свыше 3,5 т?

1. 35 град.
2. 30 град.
3. 25 град.
4. 20 град.

C1 | C | C1E | CE

В каких случаях запрещается дальнейшее движение автопоезда?

1. Только если не горит опознавательный знак автопоезда.
2. Только если отсутствуют предусмотренные конструкцией зеркала заднего вида.
3. Только если повреждено тягово-сцепное устройство автопоезда.
4. В любых перечисленных выше случаях.

BE | C1E | CE | D1E | DE

Разрешается ли эксплуатация легковых автомобилей с шинами, восстановленными по второму классу ремонта?

1. Разрешается только на передней оси.
2. Разрешается только на задней оси.
3. Запрещается.

B | BE

Эксплуатация мотоциклов, если на них нет предусмотренных конструкцией дуг безопасности и подножек:

1. Запрещается.
2. Разрешается.
3. Разрешается в случае, если отсутствует пассажир.

A | B1

Эксплуатация транспортного средства, если на нем отсутствуют грязезащитные фартухи и брызговики:

1. Запрещается.
2. Разрешается.
3. Запрещается только в условиях дождя и тумана.

31.67 **В каких случаях запрещается эксплуатация транспортных средств?**

1. Только если подтекает жидкость из системы охлаждения двигателя.
2. Только если содержание вредных веществ в отработавших газах двигателя превышает установленные нормы.
3. Только если не работает указатель уровня топлива.
4. В любых перечисленных выше случаях.

31.68 **Какие из перечисленных шины запрещается применять на задней оси легкового автомобиля?**

1. Только восстановленные по второму классу ремонта.
2. Только диагональные.
3. Только имеющие местные порезы, оголяющие корд.
4. Любые из перечисленных выше.

B | BE

Эксплуатация транспортного средства с разрушенным коренным листом или центральным болтом рессоры:

1. Разрешается в светлое время суток.
2. Разрешается только без груза и пассажиров.
3. Запрещается.

B | C1 | C | D1 | D | BE | C1E | CE | D1E | DE

Разрешается ли эксплуатация транспортного средства, если на его передней оси установлены радиальные шины, а на другой — диагональные?

1. Разрешается.
2. Запрещается.
3. Разрешается при установке только на легковых и грузовых автомобилях.

Вопрос подобного содержания может быть поставлен вам на теоретическом экзамене в сервисном центре МВД Украины.

При каких неисправностях запрещается дальнейшее движение транспортных средств?

1. Только при глубине рисунка протектора грузовых автомобилей менее 1 мм и легковых — 1,6 мм.
2. Только если режим работы внешних световых приборов не отвечает установленным требованиям.
3. Только если во время дождя или снегопада не работает стеклоочиститель со стороны расположения руля.
4. При любых перечисленных выше неисправностях.

B | C1 | C | BE | C1E | CE

При каких несоответствиях требованиям конструкции внешних световых приборов запрещается эксплуатация транспортных средств?

1. Только их количеству.
2. Только их типу и цвету.
3. Только их размещению и режиму работы.
4. При любых перечисленных выше несоответствиях.
5. Только при несоответствиях, перечисленных в ответах 2 и 3.

Разрешается ли эксплуатация транспортных средств, если нет предусмотренных конструкцией стекол?

1. Запрещается.
2. Разрешается только в населенных пунктах.
3. Разрешается только в жилой зоне.

B | C1 | C | D1 | D | BE | C1E | CE | D1E | DE

В каких случаях запрещается эксплуатация грузовых автомобилей?

1. Только если негерметична топливная система.
2. Только если суммарный люфт в рулевом управлении составляет 20 градусов.
3. Только если на переднюю ось установлены диагональные шины, а на другую (другие) — радиальные.
4. В любых перечисленных выше случаях.

C1 | C | C1E | CE

В каких случаях запрещается эксплуатация автобуса?

1. Только если на боковых окнах установлены занавески.
2. Только если на верхней части ветрового стекла прикреплена прозрачная цветная пленка.
3. Только если нет предусмотренного конструкцией зеркала заднего вида.
4. В любых перечисленных выше случаях.

D1 | D | D1E | DE

В каких случаях запрещается эксплуатация транспортных средств:

1. Только при неисправной системе выпуска отработавших газов.
2. Только если шины имеют порезы.
3. Только если транспортное средство оборудовано дополнительно противотуманными фарами, задними противотуманными фонарями и дополнительными сигналами торможения.
4. В любых перечисленных выше случаях.

Запрещается ли эксплуатация транспортных средств, если они оборудованы с нарушением порядка установления и использования специальных световых и звуковых сигнальных устройств?

1. Запрещается.
2. Не запрещается.
3. Запрещается только в том случае, если они оборудованы специальными звуковыми сигналами.
4. Запрещается только в том случае, если они оборудованы специальными световыми сигналами.

На каком уклоне дороги стояночная тормозная система должна обеспечивать неподвижное состояние легкового автомобиля и автобуса в снаряженном состоянии?

1. Только не менее 31 %.
2. Только не менее 16 %.
3. Только не менее 23 %.

Вопрос подобного содержания может быть поставлен вам на теоретическом экзамене в сервисном центре МВД Украины.

32. Отдельные вопросы дорожного движения, требующие согласования

Согласовывается ли с территориальными органами по предоставлению сервисных услуг МВД установка на транспортных средствах специальных звуковых и световых сигналов?

1. Согласовывается установка только световых сигналов.
2. Согласовывается установка только звуковых сигналов.
3. Согласовывается установка световых и звуковых сигналов.
4. Не согласовывается.

Согласовывается ли с территориальными органами по предоставлению сервисных услуг МВД переоборудование транспортных средств?

1. Согласовывается любых транспортных средств.
2. Не согласовывается.
3. Согласовывается только зарегистрированных в сервисных центрах МВД транспортных средств.

Согласовывается ли с уполномоченными подразделениями Национальной полиции порядок буксировки двух и более механических транспортных средств?

1. Согласовывается.
2. Не согласовывается.

Согласовывается ли с территориальными органами по предоставлению сервисных услуг МВД переоборудование транспортного средства?

1. Согласовываются только переоборудования тормозной системы и рулевого управления.
2. Согласовывается любое переоборудование.
3. Не согласовывается.

Разрешается ли перенесение номерной таблички кузова автомобиля в другое место без согласования с территориальными органами по предоставлению сервисных услуг МВД?

1. Разрешается.
2. Разрешается только на специализированном предприятии по ремонту.
3. Запрещается.

Расположение рекламоносителей и передвижных торговых пунктов в пределах населенного пункта должны согласовываться:

1. С администрацией населенного пункта.
2. С любым подразделением полиции.
3. С уполномоченным подразделением Национальной полиции.

В каких случаях условия и порядок движения колонны механических транспортных средств согласовываются с уполномоченными подразделениями Национальной полиции?

1. Только при движении по дороге вне населенных пунктов.
2. Только при движении в населенных пунктах.
3. Только при их количестве в составе свыше 5 механических транспортных средств.
4. Только при движении в темное время суток и в условиях недостаточной видимости.

Разрешается ли вносить изменения в идентификационные номера и номерные таблички кузова или шасси (рамы) транспортного средства без предварительного согласования с территориальными органами по предоставлению сервисных услуг МВД?

1. Разрешается в условиях специализированных предприятий, которые занимаются ремонтом и техническим обслуживанием транспортных средств.
2. Разрешается только на транспортных средствах индивидуальных владельцев.
3. Разрешается только на транспортных средствах государственных предприятий и организаций.
4. Запрещается.

На каких транспортных средствах должна согласовываться с территориальными органами по предоставлению сервисных услуг МВД установка опознавательных знаков?

1. На сочлененных автобусах и троллейбусах.
2. На длинномерных транспортных средствах.
3. На транспортных средствах, движущихся в колонне.
4. На автомобилях аварийной службы.
5. На всех перечисленных выше транспортных средствах.

Вопрос подобного содержания может быть поставлен вам на теоретическом экзамене в сервисном центре МВД Украины.

33. Дорожные знаки

33.1 На каком расстоянии в населенном пункте устанавливается этот знак, если проведение дорожных работ имеет продолжительный характер?

1. 10–15 м.
2. 15–30 м.
3. 50–100 м.

33.2 Знак с табличкой предписывают движение прямо или направо:



1. Только легковым автомобилям.
2. Только грузовым автомобилям с разрешенной максимальной массой до 3,5 т.
3. Обоим категориям транспортных средств.

33.3 Какой из знаков информирует о примыкании дополнительной полосы движения с правой стороны?

1 2 3 4 5

33.4 Разрешается ли водителю остановить автомобиль в зоне действия этого знака с табличкой?

1. Разрешается.
2. Запрещается.

33.5 Знак информирует о расположении:

1. Туристической базы.
2. Домиков для отдыха.
3. Места отдыха.

33.6 Какой из знаков отменяет все запреты и ограничения, введенные запрещающими знаками?

1 2 3 4 5

33.7 Грузовому автомобилю с разрешенной максимальной массой 12 т движение для доставки груза на объект, расположенный в зоне действия знаков с табличкой, разрешается:



1. Только в рабочие дни.
2. Только в субботние, воскресные и праздничные дни.
3. В любой день.

33.8 Какой знак предупреждает о приближении к железнодорожному переезду со шлагбаумом?

1 2 3 4 5

33.9 С какими знаками применяется табличка «Слепые пешеходы»?

1 2 3 4 5

1. Первым, четвертым, пятым.
2. Вторым, третьим, четвертым.
3. Первым, вторым, третьим.
4. Первым и третьим.

33.10 Какой из знаков предоставляет преимущество в движении встречным транспортным средствам?



1 2 3 4 5

Вопрос подобного содержания может быть поставлен вам на теоретическом экзамене в сервисном центре МВД Украины.

Какой из знаков информирует о начале населенного пункта?

1



2

3

Разрешается ли проезд без остановки через карантинный пост, перед которым установлен такой знак?



1. Разрешается, если шлагбаум открыт.
2. Разрешается, если возле шлагбаума отсутствует дежурный (инспектор).
3. Проезд без остановки запрещается.

Какой из знаков не относится к знакам, которые устанавливаются только на период выполнения работ на дороге?

1

2

3

4

5

Какой знак обязывает двигаться только прямо?

1

2

3

4

5

Со средней полосы проезжей части дороги данного направления дальнейшее движение разрешается:

1. Только направо в первый проезд.
2. Прямо и направо во второй проезд.
3. Только направо во второй проезд.

Разрешается ли вам на грузовом автомобиле с разрешенной максимальной массой более 3,5 т повернуть налево?



1. Разрешается только с крайней левой полосы движения.
2. Разрешается только с выездом на трамвайный путь попутного направления.
3. Запрещается.

Табличка под знаком «Главная дорога» обозначает:



1. Направление поворота на Т-образном перекрестке.
2. Изменение направления главной дороги.
3. Изменение направления второстепенной дороги.

На каком расстоянии до начала опасного участка дороги устанавливаются эти знаки вне населенных пунктов?

1

2

3

4

5

1. 50–100 м.
2. 150–300 м.
3. 400–500 м.

Какой знак разрешает поворот налево?

1

2

3

4

5

После проезда какого знака запрещается движение транспортных средств задним ходом?

1

2

3

4

5

Вопрос подобного содержания может быть поставлен вам на теоретическом экзамене в сервисном центре МВД Украины.

33.21 **В каком из направлений запрещено движение?**

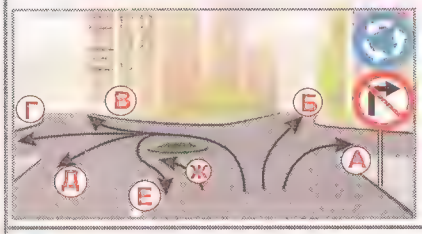

1. Только «А».
2. Только «А» и «Ж».
3. Только «А» и «Е».
4. «А», «Е» и «Ж».
5. Только «Ж».

33.22 **Какой знак обязывает водителя уступить дорогу транспортным средствам, движущимся по пересекаемой дороге?**



1 2 3 4 5

33.24 **С какой максимальной скоростью разрешается движение водителю легкового автомобиля после проезда этих дорожных знаков?**



1. 60 км/ч.
2. 70 км/ч.
3. 80 км/ч.
4. 110 км/ч.

33.24 **Какой знак предупреждает о приближении к крутому подъему?**

1 2 3 4 5

33.25 **Какой из знаков информирует о направлении объезда участка дороги, временно закрытого для движения?**

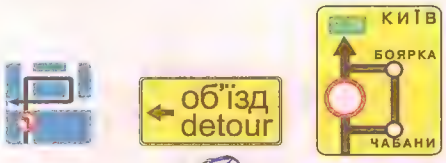

1 2 3

33.26 **Каким из перечисленных в ответах транспортным средствам разрешается остановка в зоне действия этого знака с табличкой?**



1. Только такси для посадки пассажиров.
2. Только автомобилям, на которых установлен опознавательный знак «Водитель с инвалидностью», которыми управляют водители с инвалидностью или перевозящие пассажира с инвалидностью.
3. Всем перечисленным выше транспортным средствам.

По полосе, обозначенной этим знаком, движение разрешается:



1. Только автобусов междугородного сообщения.
2. Только транспортных средств с пассажировместимостью более 8 человек.
3. Только маршрутных транспортных средств.
4. Всех перечисленных выше транспортных средств.

33.28 **Действие какого знака не распространяется на маршрутные транспортные средства?**

1 2 3 4 5

33.29 **Какой из знаков обозначает место расположения домиков для отдыха?**

1 2 3 4

Какой из знаков обозначает номер маршрута?

1 2 3 4

Вопрос подобного содержания может быть поставлен вам на теоретическом экзамене в сервисном центре МВД Украины.

Знак предупреждает о приближении к участку дороги, где:

1. Необходимо двигаться только в один ряд.
2. Сужение проезжей части вызывает заторы в дорожном движении.
3. Повышена скользкость проезжей части дороги.

Какие знаки не распространяют свое действие на маршрутные транспортные средства?

1 2 3 4 5

1. Первый и второй.
2. Второй и четвертый.
3. Третий и четвертый.
4. Первый и третий.
5. Четвертый и пятый.

Какой знак информирует о том, что дорога имеет одну или несколько полос, на которых направление движения может изменяться на противоположное?

1 2 3 4

Какой знак обозначает главную дорогу на пересечении проезжих частей?

1 2 3 4 5

В каком из обозначенных направлений разрешается движение водителю легкового автомобиля?



1. Только «А».
2. Только «Б».
3. В обоих направлениях.

Разрешается ли водителю трактора выполнить обгон грузового автомобиля?

1. Разрешается во всех случаях.
2. Разрешается при скорости движения грузового автомобиля менее 30 км/ч.
3. Запрещается во всех случаях.

Какой из знаков запрещает движение со скоростью менее 50 км/ч?

1 2 3 4 5

Какой из знаков запрещает стоянку только по нечетным числам месяца?

1 2 3 4 5

Какой знак повторно информирует водителя об опасном участке дороги вне населенного пункта?

1 2 3 4 5

Изображенный знак указывает место на перекрестке, где водитель должен остановить транспортное средство:

1. Независимо от сигнала светофора.
2. Во время действия запрещающего сигнала светофора (регулировщика).

Вопрос подобного содержания может быть поставлен вам на теоретическом экзамене в сервисном центре МВД Украины.

Какая табличка указывает зону действия дорожных знаков, запрещающих остановку и стоянку?

1 2 3 4

Какой из знаков разрешает движение мотоциклов транзитом?

1 2 3 4

Знак запрещает движение:

1. Всех без исключения пользователей дорог.
2. Только пешеходов.
3. Только механических транспортных средств.

Какой из изображенных знаков с табличкой указывает на то, что место стоянки предназначено только для транспортных средств, которыми управляют водители с инвалидностью или перевозящие пассажира с инвалидностью?

1 2

1. Только 1.
2. Только 2.
3. Оба.

Изображенный на рисунке знак информирует о месте нахождения источника с:



1. Технической водой.
2. Питьевой водой.

На какие транспортные средства распространяется действие изображенного дорожного знака на этом участке дороги?

1. Только на автобус.
2. Только на грузовой автомобиль, перевозящий людей.
3. Только на движущиеся по крайней правой полосе.
4. На все перечисленные выше транспортные средства.

Какой из знаков указывает на конец дороги с полосой для движения маршрутных транспортных средств?

1 2 3 4

В каком направлении разрешается движение водителю мопеда, если он не проживает в зоне действия знака с табличкой?



1. Только «А» или «В».
2. Только «Б».
3. Во всех направлениях.

Какой из знаков обозначает переезд через однопутную железную дорогу?

1 2 3 4 5

На каком расстоянии от обозначенного разметкой пешеходного перехода размещаются изображенные на рисунке дорожные знаки?



1. На расстоянии не менее 5 м до границы перехода.
2. Непосредственно на границе перехода.

Вопрос подобного содержания может быть поставлен вам на теоретическом экзамене в сервисном центре МВД Украины.

Какой знак запрещает проезд без остановки?

1 2 3 4 5

В зоне действия знака с табличками водителю автомобиля-такси стоянка:

1. Разрешается.
2. Запрещается.

Разрешается ли стоянка грузового автомобиля в среду?

1. Разрешается.
2. Запрещается.

Какое сочетание знаков предупреждает о расстоянии не менее 50 м и не более 100 м до железнодорожного переезда?

1 2

Какой знак запрещает движение всех транспортных средств транзитом?

1 2 3 4 5

Знак информирует о том, что дорога:



1. С двусторонним движением.
2. С полосой для движения маршрутных транспортных средств.
3. С полосой для движения только автобусов навстречу общему потоку автотранспорта.

3357 **Знак предупреждает о возможном:**



1. Только оползне.
2. Только обвале.
3. Только падении камней.
4. Возникновении любой из перечисленных выше опасностей.

3358 **Этот дорожный знак:**



1. Указывает направление движения на дороге с односторонним движением.
2. Разрешает объезд препятствия с правой стороны.
3. Обязывает двигаться только направо.

Какой знак указывает только направление движения по полосам?

1 2 3 4

Какой знак запрещает движение автомобиля с прицепом, если разрешенная максимальная масса автопоезда составляет 10 т?

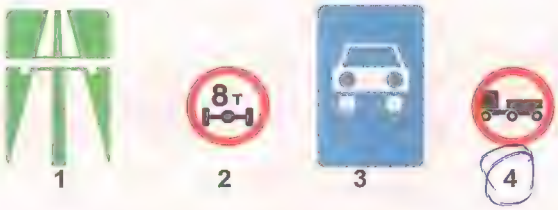

1 2 3 4

Вопрос подобного содержания может быть поставлен вам на теоретическом экзамене в сервисном центре МВД Украины.

33.61 **Какой знак повторяется вне населенного пункта?**

1 2 3 4 5

1. Только первый и второй.
2. Только второй и пятый.
3. Только третий и четвертый.
4. Только четвертый.
5. Все изображенные знаки.

33.62 **Табличка со знаком указывает, что постановка транспортных средств на стоянку должна осуществляться:**



1. Под углом их передней частью к тротуару.
2. Под углом их задней частью к тротуару.
3. На тротуаре вдоль проезжей части.
4. На тротуаре задней их частью к проезжей части.

33.63 **Какой знак запрещает движение только грузовых автомобилей?**

1 2 3 4 5

33.64 **После проезда какого знака запрещается движение задним ходом?**

1 2 3 4

Водитель какого транспортного средства нарушил Правила, остановив его для высадки пассажира?



1. Только грузового автомобиля.
2. Только мотоцикла.
3. Только мотоцикла и легкового автомобиля.
4. Только легкового и грузового автомобилей.
5. Всех перечисленных нарушили.

Этот дорожный знак предупреждает о том, что впереди:



1. Примыкание второстепенной дороги.
2. Пересечение равнозначных дорог.
3. Заканчивается главная дорога и перед перекрестком необходимо будет остановиться.

33.67 **Какой из знаков указывает на начало участка дороги, на которой по одной или нескольким полосам направление движения может изменяться на противоположное?**

1 2 3 4 5

33.68 **Какой знак устанавливает требование уступить дорогу встречным транспортным средствам?**



1 2 3 4 5

33.69 **Знак информирует о расположении:**

1. Гостиницы для автотуристов.
2. Кемпинга.
3. Места стоянки автомобилей в кемпинге.
4. Места стоянки прицепов в кемпинге.

33.70 **В субботу в 12 часов дня в зоне действия знака с табличкой поставить транспортное средство на стоянку:**

1. Разрешается.
2. Запрещается.

Вопрос подобного содержания может быть поставлен вам на теоретическом экзамене в сервисном центре МВД Украины.

На дорожках, обозначенных этим знаком, движение разрешается:



1. Только на мопедах.
2. На мотоциклах, мопедах и велосипедах.
3. Только на мопедах и велосипедах.
4. Только на велосипедах.

Какой из знаков при одновременном их применении разрешает стоянку по четным числам месяца с 19 до 21 часа?

1

2

1. Только 1.
2. Только 2.
3. Оба разрешают.
4. Оба запрещают.

Знак информирует о въезде:



1. В пешеходную зону.
2. На дорожку для пешеходов.
3. В жилую зону.

Знак предупреждает о том, что расстояние до начала поворота составляет:

1. 150–300 м.
2. 50–100 м.

Изображенные знаки информируют о:

1. Расположении полосы движения для аварийной остановки.
2. Изменении направления движения на дороге с разделительной полосой.
3. Маршруте объезда участка дорожных работ.

Водителю легкового автомобиля разрешается движение в направлении:



1. Только «А».
2. «Б» или «В».
3. «А» или «Б».
4. Во всех перечисленных выше направлениях.

Какой знак информирует о расположении надземного пешеходного перехода?

1

2

3

4

5

Водитель какого автомобиля неправильно остановился?



1. Синего автомобиля.
2. Красного автомобиля.
3. Обоих автомобилей.

Какой знак информирует о том, что дорога с односторонним движением?

1

2

3

4

Цифры на табличке обозначают расстояние от знака:

1. «Иная опасность» до начала опасного участка.
2. «Таможня» до объекта.
3. «Уступить дорогу» до начала перекрестка.

Вопрос подобного содержания может быть поставлен вам на теоретическом экзамене в сервисном центре МВД Украины.

Знак информирует о:



1. Направлении движения на закруглении дороги.
2. Запрещенном направлении движения.
3. Возможном появлении опасности в указанном направлении.

Какой из знаков вы встретите непосредственно перед пересечением проезжих частей и его действие распространяется только на это пересечение?

1 2 3 4

Какой из знаков информирует о конце дополнительной полосы движения?

1 2 3 4 5

Какой из знаков обязывает водителей уступить дорогу транспортным средствам, движущимся по главной дороге, на которую осуществляется выезд?

1 2 3 4 5

Этот дорожный знак для водителя транспортного средства с опознавательным знаком:



1. Запрещает стоянку.
2. Указывает место стоянки для таких транспортных средств.
3. Не запрещает стоянку, поскольку не распространяет действие.

Этот знак информирует о том, что транспортные средства осуществляют движение:

1. По автомагистрали.
2. По дороге для автомобилей.

Знаки, установленные вне населенного пункта, предупреждают о том, что:

1. До железнодорожного переезда без шлагбаума 150—300 м.
2. До железнодорожного переезда со шлагбаумом 150—300 м.
3. До железнодорожного переезда со шлагбаумом не более 50 м.

Какой из знаков разрешает движение со скоростью 60 км/ч?

1 2 3

1. Только 2.
2. Только 2 и 3.
3. Все разрешают.
4. Все не разрешают.

Какой знак запрещает обгон грузовым автомобилям?

1 2 3 4 5

Водитель какого транспортного средства нарушает правила стоянки?

1. Грузового автомобиля.
2. Легкового автомобиля.
3. Обоих автомобилей.

Вопрос подобного содержания может быть поставлен вам на теоретическом экзамене в сервисном центре МВД Украины.

В зоне действия этого знака запрещается движение транспортных средств:

1. Габаритная длина которых (с грузом или без него) меньше обозначенной на знаке.
2. С дистанцией между ними меньшей, чем обозначена на знаке.
3. Габаритная длина которых (с грузом или без него) больше обозначенной на знаке.

Изображенный на рисунке знак:

1. Показывает схему объезда участка дороги.
2. Указывает маршрут движения на перекрестке.
3. Указывает направления движения к указанным на знаке населенным пунктам.

Знак «Однопутная железная дорога» информирует о том, что:

1. До железной дороги не менее 50 м.
2. Железнодорожный переезд расположен непосредственно за знаком.

Водителю грузового автомобиля с разрешенной максимальной массой до 3,5 т движение по крайней левой полосе:

1. Разрешается во всех случаях.
2. Запрещается во всех случаях.
3. Разрешается, если скорость движения грузового автомобиля не меньше 60 км/ч.

Изображенный дорожный знак информирует о расположении:



1. Больницы.
2. Пункта первой медицинской помощи.
3. Аптеки.

В зоне действия знака с табличкой стоянка транспортных средств разрешается:

1. В четные числа месяца в 12 час.
2. В нечетные числа месяца в 10 час.

Какой знак информирует о конце автомагистрали?

1 2 3 4 5

Какой знак предупреждает о приближении к участку дороги с повышенной скользкостью проезжей части?

1 2 3 4 5

Какой знак не запрещает разворот?

1 2 3

О пешеходной зоне информирует знак:



1 2 3 4

Вопрос подобного содержания может быть поставлен вам на теоретическом экзамене в сервисном центре МВД Украины.

33.101 **Знак информирует о том, что:**



1. Преимущество в движении имеет водитель грузового автомобиля.
2. Вы имеете преимущество в движении.

33.102 **Разрешается ли мотоциклисту опередить желтый легковой автомобиль по крайней полосе?**



1. Разрешается.
2. Запрещается.

33.103 **Знак отменяет режимы движения, которые были введены на:**

1. Дороге для движения маршрутных транспортных средств.
2. Полосе для движения автобусов.
3. Полосе для движения маршрутных транспортных средств.

Какой знак запрещает движение механических транспортных средств?

1 2 3 4 5

Изображенная табличка с дорожным знаком информирует о том, что стоянка:



1. Ограничена во времени.
2. Возможна только за плату.
3. Предназначена для автомобилей инкассации.

Движение через мост автопоезда с указанной на нем массой груза:



1. Разрешается.
2. Запрещается.
3. Разрешается при условии его движения без переключения передачи со скоростью до 30 км/ч.

Какой знак предупреждает о сужении дороги справа?

1 2 3

Какой знак предупреждает о приближении к пешеходному переходу, на котором движение регулируется светофором?

1 2 3 4

33.109 **В зоне действия знака с табличкой стоянка запрещается:**

1. Только грузовым автомобилям с разрешенной максимальной массой более 3,5 т.
2. Всем грузовым автомобилям.
3. Всем транспортным средствам, кроме грузовых автомобилей.

33.110 **Изображенные знаки информируют о том, что поворот налево необходимо выполнять с:**

1. Полосы, над которой расположен знак, указывающий направление разворота на примыкающей справа дороге.
2. Полосы, над которой расположен знак, указывающий поворот направо.
3. Любой полосы.

Вопрос подобного содержания может быть поставлен вам на теоретическом экзамене в сервисном центре МВД Украины.

Какой из знаков предупреждает о приближении к железнодорожному переезду без шлагбаума?

1 2 3 4

Какой знак устанавливается непосредственно перед пешеходным переходом?

1 2 3 4

В зоне действия знака обгон запрещается:

1. Всем грузовым автомобилям.
2. Автобусам и грузовым автомобилям грузоподъемностью 3,5 т.
3. Грузовым автомобилям с разрешенной максимальной массой более 3,5 т (кроме обгона одиночных, движущихся со скоростью менее 30 км/ч).
4. Только автобусам.

Цифры на табличке указывают дату:



1. Установки знака.
2. Окончания действия знака.
3. Начала действия знака.

Какой знак запрещает остановку транспортных средств?

1 2 3 4 5

Какой знак предупреждает водителей о приближении к месту проведения дорожных работ?

1 2 3 4 5

Знак информирует водителя о том, что он въезжает на:

1. Автомагистраль.
2. Дорогу с полосой для движения маршрутных транспортных средств.
3. Дорогу для автомобилей.

Знак информирует о расположении:



1. Телефона для вызова аварийной службы.
2. Телеграфа.
3. Телефона общего пользования.

Действие какого из знаков распространяется на транспортные средства, принадлежащие гражданам, которые проживают в обозначенной им зоне?

1 2 3 4 5

Этот дорожный знак указывает на:

1. Номер и направление дороги (маршрута) на перекрестке.
2. Номер и направление маршрута на повороте дороги.
3. Перечисленное в ответах 1 и 2.

Вопрос подобного содержания может быть поставлен вам на теоретическом экзамене в сервисном центре МВД Украины.

Водителю автомобиля разрешается движение:



1. Направо или налево.
2. Направо, налево и в обратном направлении.
3. Во всех направлениях.

Знак с табличкой «Расстояние до объекта»:



1. Запрещает движение мотоколясок и автомобилей с опознавательным знаком «Водитель с инвалидностью».
2. Разрешает движение только автомобилей с опознавательным знаком «Водитель с инвалидностью».
3. Не распространяет свое действие на мотоколяски и автомобили с опознавательным знаком «Водитель с инвалидностью».

По каким признакам различаются эти дорожные знаки?

1. Только формой и изображением символов.
2. Только значением.
3. Только местом установки.
4. Всеми вышеперечисленными признаками.

Какой знак обозначает не оборудованный шлагбаумом железнодорожный переезд с двумя путями?

1

2

Водителю легкового автомобиля разрешается движение:



1. Направо или в обратном направлении.
2. Только налево.
3. Только направо.
4. Прямо, налево или в обратном направлении.
5. Во всех направлениях.

Водителю какого транспортного средства разрешается остановиться для высадки пассажира?

1. Только автомобиля-такси.
2. Только маршрутного автобуса.
3. Водителям обоих транспортных средств разрешается.
4. Водителям обоих транспортных средств запрещается.

Какой из знаков обозначает подземный пешеходный переход?

1

2

3

Знак действует:

1. Только на левую сторону дороги.
2. Только на правую сторону дороги.
3. На сторону дороги, на которой он установлен.
4. На обе стороны дороги.

Знак предупреждает о приближении к:

1. Крутому спуску.
2. Крутому подъему.

Какой из знаков (табличек) указывает протяженность опасного участка дороги, обозначенного предупреждающими знаками?

1

2

3

4

5

Вопрос подобного содержания может быть поставлен вам на теоретическом экзамене в сервисном центре МВД Украины.

Очередность проезда нерегулируемых перекрестков определяется знаками:

1 2 3 4 5

1. Вторым и пятым.
2. Первым и вторым.
3. Вторым и третьим.
4. Четвертым и пятым.
5. Первым, третьим и пятым.

Этот знак устанавливается:

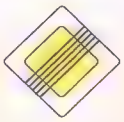

1. В начале главной дороги.
2. В конце главной дороги.
3. После каждого пересечения главной дороги со второстепенной.

Какой знак запрещает только стоянку транспортных средств?

1 2 3 4 5

Какой из знаков информирует об общих ограничениях скорости движения на дорогах Украины?

1 2 3 4

Этот знак информирует:



1. О том, что движение прямо ведет в тупик.
2. О наличии полосы движения для аварийной остановки.
3. Об опасности движения прямо.

Водитель грузового автомобиля с разрешенной максимальной массой более 3,5 т может продолжить движение:



1. Во всех направлениях.
2. Только направо.
3. Направо, налево или в обратном направлении.

Знак предупреждает о приближении к:



1. Закруглению дороги с повышенной скользкостью проезжей части.
2. Участку дороги с несколькими опасными поворотами.
3. Участку дороги, где проезжая часть уменьшается на одну полосу.

Знак информирует о месте расположения:

1. Службы пожарной безопасности.
2. Пункта технического обслуживания.
3. Огнетушителя.

Водителю легкового автомобиля остановиться в этом месте для уточнения маршрута:



1. Разрешается.
2. Запрещается.

Водитель какого мотоцикла нарушает Правила, двигаясь со скоростью 60 км/ч?

1. Только с боковым прицепом.
2. Только без бокового прицепа.
3. Водители обоих мотоциклов нарушают.
4. Водители обоих мотоциклов не нарушают.

Вопрос подобного содержания может быть поставлен вам на теоретическом экзамене в сервисном центре МВД Украины.

Какой из знаков указывает на круговое движение?

1 2 3 4

Знак предупреждает о:

1. Приближении к участку дороги, проходящем вблизи аэродрома либо над которым самолеты или вертолеты пролетают на небольшой высоте.
2. Возможном использовании дороги как полосы для посадки самолетов.
3. Приближении к перечисленным выше участкам дорог.

В зоне действия знака обгон всех транспортных средств:



1. Разрешается во всех случаях.
2. Запрещается во всех случаях.
3. Запрещается, кроме одиночных, движущихся со скоростью менее 30 км/ч.
4. Запрещается, кроме легковых автомобилей, мотоциклов и грузовых автомобилей с разрешенной максимальной массой менее 3,5 т.

Водителю автомобиля в этом месте остановиться:



1. Разрешается.
2. Запрещается.

Табличка со знаком указывает:



1. Расстояние от знака до начала опасного участка дороги.
2. Расстояние от первого поворота до начала второго.
3. Протяженность аварийно опасного участка дороги.

Какой из знаков информирует о выезде на дорогу с полосой для движения маршрутных транспортных средств?

1 2 3 4

Какой знак запрещает движение транспортных средств, перевозящих опасные грузы?

1 2 3 4

Зону действия каких знаков указывают изображенные таблички?

1. Всех запрещающих знаков.
2. Предписывающих знаков.
3. Информационно-указательных знаков.
4. Только знаков, запрещающих остановку и стоянку, в том числе по определенным числам месяца.
5. Знаков сервиса.

Этот дорожный знак информирует о:

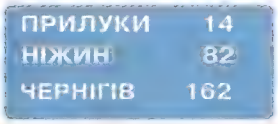

1. Номерах маршрутов к указанным населенным пунктам.
2. Расстояниях до населенных пунктов, расположенных на маршруте.
3. Кодах населенных пунктов на картах.

Знак с табличкой запрещает стоянку транспортных средств:



1. Во время дождя и снегопада.
2. В субботние, воскресные и праздничные дни.
3. В четные числа месяца в светлое время суток.

Вопрос подобного содержания может быть поставлен вам на теоретическом экзамене в сервисном центре МВД Украины.

Какой из знаков информирует о направлениях движения к указанным на нем пунктам?



1

2

Разрешается ли вам повернуть направо, если вы буксируете легковой автомобиль?

1. Разрешается.
2. Запрещается.

Знак устанавливается при наличии:



1. Бугров.
2. Выбоин.

Разрешается ли вам повернуть налево при наличии этого знака?

1. Разрешается.
2. Запрещается.

Какой из знаков обозначает место расположения туристической базы?

1 2 3 4 5

Какой из знаков (табличек) предупреждает о приближении к разводному мосту?

1 2 3 4

В этой ситуации поворот налево:

1. Разрешается в первый проезд.
2. Разрешается во второй проезд.
3. Запрещается.

Действие какого знака не распространяется на автомобиль-такси с включенным таксометром?

1 2 3 4 5

Знак информирует о:

1. Начале дополнительной полосы движения.
2. Примыкании полосы для разгона транспортных средств.
3. Полосе движения для аварийной остановки.

Водителю грузового автомобиля опередить легковой автомобиль, движущийся со скоростью 70 км/ч:



1. Разрешается.
2. Запрещается.

Вопрос подобного содержания может быть поставлен вам на теоретическом экзамене в сервисном центре МВД Украины.

Автомобиль движется по дороге, которую пересекает:



1. Равнозначная дорога.
2. Второстепенная дорога.
3. Главная дорога.

Этот дорожный знак предупреждает о:

1. Возможном появлении на дороге диких животных.
2. Месте выпаса домашних животных.
3. Участке дороги, на котором возможно появление скота.

Водитель обязан остановиться:



1. Только при закрытом положении шлагбаума.
2. Только при открытом положении шлагбаума.
3. При любом положении шлагбаума.

Какой знак указывает маршрут объезда участка дороги, временно закрытого для движения?

1

2

3

4

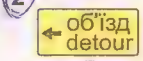

5

Какой из знаков разрешает движение легковых автомобилей, автобусов и мотоциклов?

1

2

3

4

5

Этот знак устанавливается по ходу движения:

1. С правой стороны дороги.
2. С левой стороны дороги.
3. С любой стороны дороги.

Какой знак запрещает обгон всех транспортных средств?

1

2

3

4

5

Водителю микроавтобуса въехать на обозначенную этим дорожным знаком территорию для посещения достопримечательностей:

1. Разрешается.
2. Запрещается.

Изображенная табличка с дорожным знаком информирует о том, что стоянка:



1. Ограничена во времени.
2. Возможна только за плату.
3. Предназначена для автомобилей инкассации.

Знак обязывает водителя:



1. Получить разрешение на проезд у руководства автохозяйства.
2. Получить разрешение в ближайшем подразделении Национальной полиции.
3. Объехать обозначенный участок дороги по другому маршруту.
4. Вести автомобиль как можно ближе к правому краю проезжей части.

Вопрос подобного содержания может быть поставлен вам на теоретическом экзамене в сервисном центре МВД Украины.

Какой знак запрещает разворот?



1 2 3 4

Этот дорожный знак предупреждает о:

1. Приближении к запрещенному повороту.
2. Сужении дороги с левой стороны.
3. Опасном повороте дороги направо.

Какой из знаков обозначает место, где расположен пункт мойки автомобилей?

1 2 3 4

В зоне действия знака:



1. Разрешается движение транспортных средств со скоростью не более 30 км/ч.
2. Движение транспортных средств должно осуществляться со скоростью не менее 30 км/ч.
3. Запрещается стоянка транспортных средств продолжительностью более 30 мин.

Стоянка транспортных средств в обозначенной дорожным знаком зоне разрешается:

1. С частичным выездом на тротуар.
2. Вдоль тротуара.
3. Передней частью к тротуару.

Этот знак предупреждает о приближении к:

1. Месту пересечения дороги с трамвайным путем на перекрестке с ограниченной обзорностью или вне его.
2. Железнодорожному переезду без шлагбаума.
3. Трамвайной остановке, расположенной на проезжей части.

В зоне действия этого знака применять звуковой сигнал разрешается:

1. Только для предупреждения об обгоне.
2. Если без этого невозможно избежать дорожно-транспортного происшествия.
3. В обоих случаях.

Какой знак (табличка) информирует о расположении полосы движения для аварийной остановки?

1 2 3 4 5

Этот дорожный знак:



1. Запрещает остановку транспортных средств.
2. Ограничивает продолжительность стоянки транспортных средств.
3. Запрещает стоянку транспортных средств без оплаты.

Какой из знаков информирует водителей о возможности использовании полосы для движения определенными видами транспортных средств?

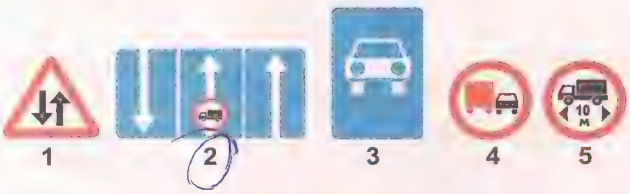

1 2 3 4 5

Вопрос подобного содержания может быть поставлен вам на теоретическом экзамене в сервисном центре МВД Украины.

Водителю автобуса разрешается поставить транспортное средство на стоянку на участке:



1. Только «А».
2. Только «В», не закрывая видимость дорожного знака.
3. «А» и «В», не закрывая видимость дорожного знака.
4. На любом участке.

Какой из знаков (табличек) запрещает движение с дистанцией между транспортными средствами меньшей, чем указана на знаке?

1 2 3 4 5

33.183 **Этот знак предупреждает:**

1. О неровной дороге.
2. Об опасной обочине.
3. О скользкой дороге.
4. Об опасном повороте.
5. О всех перечисленных опасностях.

33.184 **Цифра на табличке обозначает количество:**

1. Опасных поворотов.
2. Спусков на повороте.
3. Подъемов на повороте.

Цифры на знаке обозначают:



1. Номер дороги (маршрута).
2. Расстояние до первого населенного пункта, указанного на знаке.
3. Расстояние до конца дороги.

33.186 **После какого знака запрещается движение мотоциклов до ближайшего за ним перекрестка?**

1 2 3

1. Всех.
2. Только второго.
3. Первого и третьего.

Какой знак запрещает движение транспортного средства без остановки?

1 2 3 4 5

33.188 **Знак предупреждает о:**

1. Начале участка дороги, который имеет тротуар или пешеходную дорожку.
2. Приближении к пешеходному переходу, обозначенному соответствующими дорожными знаками или разметкой.
3. Приближении к необозначенному пешеходному переходу.

33.189 **При наличии изображенного знака грузовому автомобилю с прицепом движение со средней полосы проезжей части разрешается:**



1. Только налево.
2. Только прямо.
3. Прямо или направо.
4. Прямо или налево.

33.190 **Какой знак распространяет действие только на ту сторону дороги, на которой он установлен?**

1 2 3 4 5

Вопрос подобного содержания может быть поставлен вам на теоретическом экзамене в сервисном центре МВД Украины.

Какой знак предупреждает о направлении поворота?


1

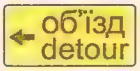

2

3

4

5

Знак информирует о конце зоны:

1. Ограниченной остановки.
2. Ограниченной стоянки.
3. Разрешенной стоянки без ограничения по времени.

В зоне действия знака разрешается движение:

1. Всех механических транспортных средств.
2. Автомобилей, автобусов и мотоциклов.
3. Всех транспортных средств.
4. Транспортных средств, скорость движения которых по техническим характеристикам меньше

На этом перекрестке требования Правил нарушает:



1. Только велосипедист.
2. Только мотоциклист.
3. Оба нарушают.
4. Оба не нарушают.

Для информирования о въезде в жилую зону применяется знак:

1

2

3

На этом перекрестке водителю автобуса движение разрешается:

1. Только прямо.
2. Только прямо или направо.
3. Только прямо, налево или в обратном направлении.
4. Во всех направлениях.

О месте расположения пляжа информирует знак:

1

2

3

Изображенные знаки предупреждают о приближении к железнодорожному переезду:

1. Со шлагбаумом.
2. Без шлагбаума.

Какой знак указывает расстояние в километрах от начала дороги?

1

2

3

4



5

Действие знака с табличкой распространяется на:

1. Все транспортные средства, кроме тракторов.
2. Тракторы.

Вопрос подобного содержания может быть поставлен вам на теоретическом экзамене в сервисном центре МВД Украины.

Какой из знаков предоставляет преимущество в движении перед встречными транспортными средствами?

1 2 3 4 5

О приближении к сужению дороги с правой стороны информирует знак:

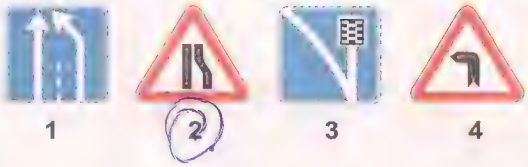

1 2 3 4

33.203 **Знак в указанных направлениях запрещает движение:**

1. Всех механических транспортных средств, за исключением транспортных средств, отнесенных к тракторам.
2. Всех транспортных средств, за исключением колесных тракторов.
3. Тракторов, самоходных машин и механизмов.

Знак применяют для обозначения:



1. Объекта на маршруте движения (река,озеро, переправа и т. д.)
2. Только реки с разводным мостом.
3. Только реки с шириной русла не менее 50 м.

Знак предупреждает о приближении к пересечению:

1. Равнозначных дорог.
2. Со второстепенной дорогой.

Действие какого знака не распространяется на автомобили-такси с включенным таксометром?

1 2 3 4 5

Водителю микроавтобуса движение разрешается:

1. Только прямо.
2. Прямо, налево и в обратном направлении.
3. Только налево.
4. Только налево и в обратном направлении.

33.208 **Какой из знаков информирует о месте расположения телефона для вызова аварийной службы?**

1 2 3

Какой из знаков показывает направление движения для возвращения на проезжую часть, находящуюся справа?

1 2 3 4

33.210 **Разрешается ли водителю трактора выполнить обгон велосипеда и гужевой повозки?**

1. Разрешается обгон только велосипеда.
2. Разрешается обгон обоих транспортных средств, но по одному в отдельности.
3. Обгон запрещается.

Вопрос подобного содержания может быть поставлен вам на теоретическом экзамене в сервисном центре МВД Украины.

Табличка под знаком указывает:



1. Расстояние до перекрестка, на котором можно проехать к железнодорожной станции.
2. Расстояние до железнодорожного переезда без шлагбаума.
3. Расстояние до железнодорожного переезда со шлагбаумом.

При каком из знаков разрешается поворот налево?

1 2 3 4 5

Знак предупреждает о приближении к:

1. Аварийно опасному участку дороги.
2. Окончанию полосы разгона или дополнительной полосы на подъем.
3. Участку дороги, где будет производиться контроль транспорта.

В обозначенном знаком месте разрешается стоянка:

1. Всех маршрутных транспортных средств.
2. Автомобилей-такси только с включенным таксометром.
3. Автомобилей-такси в любых случаях.

Какой из знаков информирует о расположении кафе?

1 2

Какой из знаков информирует о месте расположения пешеходного перехода?

1 2 3 4 5

Какой из знаков предупреждает о приближении к опасному повороту дороги?

1 2 3 4

Этот дорожный знак:

1. Запрещает движение пешеходов.
2. Обозначает места, где запрещено движение пешеходов и велосипедистов.
3. Обозначает дорожку, на которой движение пешеходов и велосипедистов разрешается.

Какой из знаков отменяет одновременно действие всех запретов и ограничений, установленных запрещающими знаками?

1 2 3 4 5

После проезда этого знака вам разрешается движение со скоростью:



1. Только менее 40 км/ч.
2. Только более 40 км/ч.
3. Только 40 км/ч.
4. Не превышающей установленных Правилами пределов.

Вопрос подобного содержания может быть поставлен вам на теоретическом экзамене в сервисном центре МВД Украины.

33.221 **Какой из знаков показывает направление движения на Т-образном перекрестке?**

33.222 **Знак информирует о размещении пункта, где можно получить информацию от:**

1. Справочной службы.
2. Туристической организации.
3. Медицинского учреждения.

33.223 **Какой из знаков применяют для обозначения конца зоны действия запрещения обгона?**

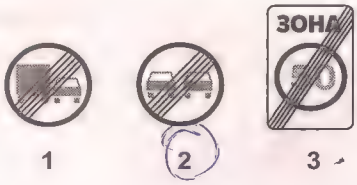

33.224 **Знак информирует о выезде на дорогу, на которой:**

1. Движение осуществляется только в одном направлении.
2. Движение осуществляется в двух направлениях.
3. Направление движения по одной или нескольких полосах проезжей части может изменяться на противоположное.
4. Разрешены только поворот налево и направо.

33.225 **При проезде перекрестка вы должны остановить транспортное средство:**

1. Только перед дорожным знаком.
2. На границе перекрестка.
3. Не менее 3 м до перекрестка.
4. Перед разметкой «стоп-линия».

33.226 **Знак запрещает движение:**

1. Грузовых автомобилей-цистерн.
2. Транспортных средств, перевозящих вещества, загрязняющие воду.
3. Поливомоечных машин.
4. Всех перечисленных выше транспортных средств.

33.227 **С каким из знаков вы можете увидеть табличку «Паромная переправа»?**



33.228 **По дорожке, обозначенной знаком, движение разрешается:**

1. Только на велосипедах.
2. Только на мопедах и велосипедах.
3. На велосипедах, мопедах и пешеходов.
4. Только пешеходов.
5. Только на велосипедах и пешеходов.

33.229 **Каким знаком (табличкой) указывается на способ постановки транспортного средства на стоянку?**

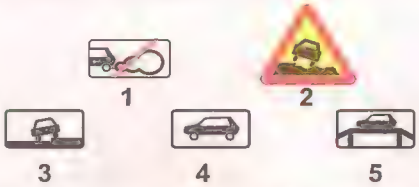

1. Первой, вторым и третьей.
2. Вторым.
3. Третьей.
4. Четвертой и пятой.
5. Пятой.

33.230 **Какой из знаков вы встретите ближе к железнодорожному переезду?**

Вопрос подобного содержания может быть поставлен вам на теоретическом экзамене в сервисном центре МВД Украины.

Какой знак предписывает выполнить объезд препятствия только с правой стороны?

1 2 3 4 5

Этот дорожный знак определяет:



1. Конец запрещения обгона всех транспортных средств.
2. Конец запрещения обгона грузовым автомобилям.
3. Конец запрещения обгона легковых автомобилей.

Знак предупреждает о приближении к участку дороги, где возможно:

1. Падение камней с горы.
2. Выбрасывание каменных материалов из-под колес транспортных средств.
3. Попадание колес транспортного средства в выбоины и загрязнение пешеходов.
4. Возникновение любых перечисленных выше опасностей.

Знак информирует о том, что водитель мотоцикла осуществляет движение:



1. Вне населенного пункта.
2. В населенном пункте.

Этот дорожный знак обозначает:

1. Начало главной дороги.
2. Конец главной дороги.
3. Начало второстепенной дороги.

Какой из знаков запрещает движение мотоциклов?

1 2 3 4

Знак информирует о расположении:

1. Гостиницы с рестораном.
2. Гостиницы с буфетом.
3. Ресторана или столовой.

Знак информирует о:

1. Конце полосы для движения маршрутных транспортных средств.
2. Конце дороги с реверсивным движением.
3. Конце дороги с односторонним движением.

Табличка устанавливается:

1. Только со знаком «Уступить дорогу».
2. Только со знаком «Проезд без остановки запрещен».
3. Только со знаком «Главная дорога».
4. Со всеми перечисленными знаками.
5. Самостоятельно.

Знак с табличкой предупреждает о том, что:



1. Расстояние от знака до начала участка, где возможно появление диких животных, 3 км.
2. Участок, где возможно появление диких животных, имеет длину 3 км.

Вопрос подобного содержания может быть поставлен вам на теоретическом экзамене в сервисном центре МВД Украины.

33.241 Знак информирует о:



1. Возможности использования дороги.
2. Расположении близлежащих объектов.
3. Предварительном направлении движения к указанным объектам.

33.242 Изображенный знак запрещает движение пешеходов под путепроводом:



1. С правой стороны дороги.
2. С левой стороны дороги.
3. С обеих сторон дороги.

Знак предупреждает о приближении к тоннелю, где:

1. Нет искусственного освещения или на подъезде к нему сужена проезжая часть.
2. Сужена дорога.
3. Возможны обвалы, оползни.

Движение прямо разрешается:

1. Только водителю легкового автомобиля.
2. Только водителям легкового автомобиля и мотоцикла.
3. Только водителям грузового и легкового автомобилей.
4. Водителям всех перечисленных транспортных средств.

Табличка с дорожным знаком указывают способ постановки на стоянку:

1. Всех транспортных средств.
2. Только легковых автомобилей.
3. Только легковых автомобилей и мотоциклов.

Какой из знаков запрещает движение тракторов и самоходных машин?

1. Только 1.
2. Только 1 и 2.
3. Только 1 и 3.
4. Все.

Табличка с знаком указывают, что действие знака распространяется на период, когда покрытие проезжей части:

1. Влажное или мокрое.
2. Влажное и только во время тумана.
3. Мокрое и только во время дождя.

Какой из знаков информирует о расположении достопримечательностей?

Этот дорожный знак информирует о:

1. Направлении движения по полосам.
2. Конце полосы, предназначенной для движения в данном направлении.
3. Примыкании дополнительной полосы движения.

33.250 Знак «Приближение к железнодорожному переезду» устанавливается перед железнодорожным переездом:

1. Самостоятельно с правой стороны дороги.
2. Самостоятельно с левой стороны дороги.
3. Со знаком «Железнодорожный переезд со шлагбаумом».
4. Со знаком «Железнодорожный переезд без шлагбаума».

Вопрос подобного содержания может быть поставлен вам на теоретическом экзамене в сервисном центре МВД Украины.

Этот дорожный знак прогон скота:

1. Разрешает.
2. Запрещает.

Какой знак предупреждает о приближении к участку дороги с опасными поворотами?

Синий фон знака означает, что проезд до указанного на нем населенного пункта осуществляется:

1. По автомагистрали.
2. По дороге иной, чем автомагистраль.

Изображенный знак информирует о расположении:



1. Пункта ремонта автомобилей.
2. Автомагазина.
3. Автозаправочной станции.

Управляя грузовым автомобилем с прицепом, вам разрешается движение:



1. Только налево.
2. Только прямо.
3. Направо или налево.
4. Налево, направо или в обратном направлении.

Какой из знаков предупреждает о приближении к перекрестку с круговым движением?

Какой знак информирует о конце дороги с одной или несколькими полосами, на которых направление движения может изменяться на противоположное?

Какая из табличек уточняет действие знака с 8 до 17 часов только в рабочие дни?

На каком из знаков указана максимальная габаритная ширина транспортного средства, при которой его дальнейшее движение запрещается?

Какой из знаков информирует о примыкании дополнительной полосы движения с правой стороны?



Вопрос подобного содержания может быть поставлен вам на теоретическом экзамене в сервисном центре МВД Украины.

33.261 Цифры на знаке указывают:

1. Разрешенную дистанцию между разворачивающимися транспортными средствами.
2. Зону по длине для разворота транспортных средств.

33.262 Знаки информируют водителей о том, что до переезда:



1. 150—300 м.
2. Не менее 100 м.
3. Не менее 50 м.

В зоне действия этого знака осуществить посадку или высадку пассажиров разрешается водителям:



1. Всех автомобилей, если при этом не создается препятствие для движения других транспортных средств.
2. Всех автомобилей, если остановка длится не более 5 мин.
3. Только автомобилей-такси.

Какой из знаков информирует о месте расположения гостиницы?

1 2 3 4 5

33.265 Табличка под знаком указывает, что пешеходным переходом пользуются:



1. Глухие пешеходы.
2. Слепые пешеходы.
3. Глухие и слепые пешеходы.

Знак предупреждает о приближении к:

1. Метеорологической станции аэродрома.
2. Участку дороги, на котором возможен сильный боковой ветер или его внезапные порывы.
3. Участку дороги, где с левой стороны дует сильный ветер.

Какой из знаков запрещает обгон грузовому автомобилю с разрешенной максимальной массой 8 т?

1 2 3 4

Этот дорожный знак:

1. Запрещает движение всадников.
2. Запрещает прогон животных.
3. Разрешает движение только всадников.
4. Разрешает прогон животных.

Знак информирует о:

1. Номере маршрута.
2. Расстоянии до конечного населенного пункта на дороге.
3. Расстоянии до выезда на автомагистраль.

33.270 Какой из знаков запрещает поворот направо?

1 2 3 4 5

Вопрос подобного содержания может быть поставлен вам на теоретическом экзамене в сервисном центре МВД Украины.

Какой из знаков указывает на обязательное движение на перекрестке в направлении стрелки?

1 2 3 4 5

Если высота автомобиля (с грузом или без него) превышает указанную на знаке высоту, то необходимо:

1. Иметь разрешение на проезд от администрации транспортного предприятия.
2. Согласовать проезд с дорожной организацией.
3. Объехать обозначенный участок дороги.

Какой знак информирует о приближении к двустороннему движению?

1 2 3 4 5

Знак информирует о:

1. Пешеходной зоне.
2. Месте для стоянки.
3. Конце пешеходной зоны.
4. Конце зоны стоянки.

Какой знак предоставляет преимущество в движении встречным транспортным средствам?

1 2 3 4 5

Какой из знаков разрешает поворот налево на перекрестке?

1 2 3 4

1. Только первый.
2. Только второй и третий.
3. Только первый и третий.
4. Первый, второй и третий.
5. Все.

Какой знак предупреждает о начале крутого спуска?

1 2 3 4 5

Этот дорожный знак информирует о:

1. Возможных направлениях на перекрестке дороги.
2. Возможности использования дороги.
3. Схеме движения на определенном участке дороги.

33/279 **Знак информирует о:**

1. Расположении туристического лагеря.
2. Начале зоны осмотра достопримечательностей.
3. Начале пешеходного маршрута.

Табличка со знаком указывает на:



1. Расстояние до начала первого поворота.
2. Расстояние от начала первого поворота до начала второго.
3. Протяженность участка дороги с опасными поворотами.

Вопрос подобного содержания может быть поставлен вам на теоретическом экзамене в сервисном центре МВД Украины.

Какое расстояние от знака вы проедете до сужения дороги перед мостом вне населенного пункта?



1. 50–100 м.
2. 100–150 м.
3. 150–300 м.

Знак информирует о расположении остановки:



1. Автобусов междугородного сообщения.
2. Маршрутных автобусов.
3. Троллейбусов.

Движение транспортных средств, перевозящих взрывчатку, запрещает знак:

1

2

3

Знак информирует о:

1. Начале дополнительной полосы движения.
2. Конце дополнительной полосы движения или полосы разгона.
3. Примыкании дополнительной полосы движения с правой стороны.

Этот дорожный знак запрещает:



1. Стоянку транспортных средств по четным числам месяца.
2. Стоянку транспортных средств в два ряда.
3. Остановку и стоянку транспортных средств.

Какой из знаков устанавливают непосредственно перед железнодорожным переездом?

1

2

3

4

5

Знак с табличками информирует о том, что:

1. Стоянка транспортных средств с неработающим двигателем разрешена более 30 мин.
2. Стоянка транспортных средств с неработающим двигателем разрешена менее 30 мин.

33.288 **Какой из знаков запрещает въезд всех транспортных средств, кроме маршрутных?**

1

2

3

4

5

Какой из знаков (табличек) информирует о возможном выезде велосипедистов?

1

2

3

4

33.290 **Этот знак информирует о расположении:**

1. Кемпинга.
2. Места для стоянки автомобилей в кемпинге.
3. Участка для лагеря автотуристов и места стоянки прицепов в кемпинге.

Вопрос подобного содержания может быть поставлен вам на теоретическом экзамене в сервисном центре МВД Украины.

Какой из знаков разрешает поворот налево?

1 2 3 4 5

Знак с табличкой информирует о том, что на расстоянии 800 м находится:

1. Место отдыха со станцией технического обслуживания.
2. Ремонтная зона.
3. Место отдыха с местом для осмотра автомобилей.

33.298 **Знак предупреждает водителей о приближении к :**

1. Перекрестку, где дорожное движение регулируется светофором.
2. Аварийно опасному пешеходному переходу.
3. Железнодорожному переезду, где дорожное движение регулируется светофором.

Уступить дорогу должен:

1. Водитель легкового автомобиля.
2. Водитель грузового автомобиля.

Разрешается ли водителю легкового автомобиля движение прямо на перекрестке?

1. Разрешается.
2. Запрещается.

Какой из знаков (табличек) указывает направление выезда на дорогу с односторонним движением?

1 2 3 4

33.297 **Какой из знаков запрещает движение автомобиля с прицепом, если фактическая масса состава транспортных средств составляет 10 т?**

1 2 3 4 5

На этом перекрестке движение разрешается:



1. Только прямо или налево.
2. Только прямо, налево или в обратном направлении.
3. Во всех направлениях.

Какой из знаков разрешает движение транспортных средств со скоростью 60 км/ч?

1 2

1. Только первый.
2. Только второй.
3. Оба.

Какой из знаков информирует о направлениях движения по полосам?

1 2 3

4

Вопрос подобного содержания может быть поставлен вам на теоретическом экзамене в сервисном центре МВД Украины.

33.301 Движение легковому автомобилю на перекрестке разрешается:

1. Во всех направлениях.
2. Только направо или в обратном направлении.
3. Только направо.

33.302 Какой из знаков запрещает движение на велосипедах?

1 2 3

1. Первый.
2. Второй.
3. Первый и третий.
4. Все.

33.303 Какие отличительные признаки имеют эти знаки?



1 2

1. При знаке 1 действуют требования Правил, определяющие порядок движения в населенных пунктах, а при знаке 2 — на дороге, где он установлен, они не действуют.
2. Знак 1 устанавливается только при въезде в областные и районные центры, а знак 2 — при въезде в другие населенные пункты.
3. Знак 1 обозначает населенные пункты, а знак 2 — другие объекты.

33.304 Если такой знак установлен перед выездом на площадь, то:



1. Вам предоставляется право на первоочередное движение.
2. Разрешается движение только в направлении, указанном стрелками.
3. На площади разрешается только поворот налево.

При одновременном применении этих знаков перестановку транспортных средств с одной стороны дороги на другую необходимо осуществлять:

1. С 17 до 19 час.
2. С 19 до 24 час.
3. С 21 до 24 час.

33.306 Табличка со знаком указывают, что действие знака распространяется на период, когда проезжая часть:

1. Влажная или мокрая.
2. Влажная и только во время тумана.
3. Скользкая.

33.307 Какой из знаков информирует о маршруте движения на перекрестке?



1 2 3 4

33.308 Какой из знаков информирует о месте расположения пункта технического обслуживания?

1 2 3 4

33.309 При наличии знака движение через мост груженного автомобиля с общей фактической массой 10 т :



1. Разрешается.
2. Запрещается.

Знак информирует о том, что вы:



1. Въезжаете в жилую зону.
2. Выезжаете из жилой зоны.

Вопрос подобного содержания может быть поставлен вам на теоретическом экзамене в сервисном центре МВД Украины.

Какой из знаков информирует о месте расположения больницы?

1 2 3

Если знак установлен вне населенного пункта, то водителя информируют о том, что расстояние между местами примыкания второстепенных дорог составляет менее:

1. 100 м.
2. 150 м.
3. 200 м.
4. 300 м.

По нечетным числам месяца стоянка запрещена водителю автомобиля:

1. Грузового.
2. Легкового.
3. Грузового и легкового.

Какой из знаков запрещает движение мопедов?

1 2 3

Какой из знаков обязывает объезжать препятствие с левой стороны?

1 2 3 4

5

Знак информирует о:



1. Предварительном направлении объезда препятствий.
2. Изменении направления движения на дороге с разделительной полосой.
3. Месте выезда на полосу встречного движения.

Если вы управляете микроавтобусом, то выполнить обгон:

1. Разрешается.
2. Запрещается.

Какой знак предупреждает о приближении к участку дороги, имеющему неровности проезжей части — волнистости, наплывы, вспучивания?

1 2 3 4 5

Знак информирует о конце населенного пункта, в котором:

1. Действуют требования Правил, определяющие порядок движения в населенных пунктах.
2. Не действуют требования Правил, определяющие порядок движения в населенных пунктах.

В каком направлении разрешается движение водителю легкового автомобиля с прицепом на этом перекрестке?



1. Во всех направлениях.
2. Только прямо или на разворот.
3. Только направо или налево.
4. Только прямо.

Вопрос подобного содержания может быть поставлен вам на теоретическом экзамене в сервисном центре МВД Украины.

Какой из знаков информирует о месте расположения кемпинга?

1 2 3

Какой знак показывает направление поворота?

1 2 3 4 5

Знак информирует водителя о:

1. Начале дополнительной полосы движения.
2. Полосе движения для разгона транспортных средств.
3. Полосе движения для аварийной остановки.

При каком из знаков разрешается разворот?

1 2 3 4 5

Знак предупреждает том, что эта обочина:

1. Только повышена.
2. Только занижена.
3. Только разрушена.
4. На которой только выполняются ремонтные работы.
5. С любыми перечисленными выше опасностями.

Водителю легкового автомобиля выехать на крайнюю левую полосу для обгона мотоцикла:

1. Разрешается.
2. Запрещается.
3. Разрешается при условии отсутствия встречного транспорта.

Знак запрещает движение транспортных средств, перевозящих:



1. Почту.
2. Ядовитые, радиоактивные, огнеопасные грузы.
3. Металлоконструкции.
4. Взрывоопасные грузы.

Табличка означает, что действие дорожного знака, с которым она установлена, распространяется на период времени, когда проезжая часть может быть скользкой:

1. Только во время снегопада.
2. Только на зимнее время.

Какой из знаков информирует о конце дороги для автомобилей?

1 2 3 4

Действие какого из знаков распространяется на ту сторону дороги, на которой он установлен?

1 2 3 4 5

Вопрос подобного содержания может быть поставлен вам на теоретическом экзамене в сервисном центре МВД Украины.

33.331 Движение прямо разрешается водителю:

1. Автомобиля, перевозящего песок.
2. Автомобиля, перевозящего баллоны.
3. Обоих автомобилей.

33.332 В этой ситуации опережать автобус, движущийся со скоростью 60 км/ч:



1. Разрешается.
2. Запрещается.

33.333 Знак обозначает:

1. Не оборудованный шлагбаумом железнодорожный переезд с одним путем.
2. Оборудованный шлагбаумом железнодорожный переезд.
3. Не оборудованный шлагбаумом железнодорожный переезд с двумя и более путями.

33.334 Какой из знаков (табличек) информирует о месте расположения поста Национальной полиции?

1 2 3 4 5

33.335 Табличка с дорожным знаком указывает способ постановки на стоянку:

1. Всех транспортных средств.
2. Только легковых автомобилей.
3. Только легковых автомобилей и мотоциклов.

33.336 В зоне действия знака с табличкой водитель обязан остановить транспортное средство:

1. Возле таможни, расположенной на расстоянии 300 м от знака.
2. Возле контрольного пункта Национальной полиции, расположенного на расстоянии 150—300 м от знака.
3. Непосредственно возле знака с табличкой.

33.337 Водитель легкового автомобиля:



1. Должен уступить дорогу мотоциклисту.
2. Должен уступить дорогу грузовому автомобилю.
3. Должен уступить дорогу обоим транспортным средствам.
4. Имеет преимущество в движении.

33.338 Если по техническим причинам синий автомобиль может двигаться со скоростью не более 50 км/ч, то ему разрешается движение:



1. Только по левой полосе.
2. Только по правой полосе.
3. По любой полосе в зависимости от интенсивности транспортного потока.

33.339 Разрешается ли водителю легкового автомобиля обогнать колонну, если скорость ее движения менее 30 км/ч?

1. Разрешается.
2. Запрещается.

33.340 Какой из знаков информирует о начале участка дороги, на которой по одной или нескольким полосам направление движения может изменяться на противоположное?



1 2 3 4 5

Вопрос подобного содержания может быть поставлен вам на теоретическом экзамене в сервисном центре МВД Украины.

Какой из знаков запрещает движение транспортного средства, длина которого превышает указанную на знаке?

1 2 3

Какая из табличек определяет зону действия дорожных знаков, запрещающих остановку и стоянку транспортных средств?

1 2

1. Только первая.
2. Только вторая.
3. Обе.

Этот дорожный знак предупреждает о:



1. Неровном участке дороги.
2. Месте на дороге, где принудительно ограничивается скорость движения.
3. Участке дороги с выбоинами.

33.344 **На перекрестке водителю легкового автомобиля движение прямо:**



1. Разрешается.
2. Запрещается.

Действие какого знака не распространяется на грузовые автомобили, имеющие наклонную белую полосу на внешней боковой поверхности?

1 2 3 4 5

Этот дорожный знак информирует о том, что:

1. Эта дорога предназначена для движения только автобусов.
2. Полоса, над которой он установлен, предназначена для движения автобусов.
3. Полоса, над которой он установлен, предназначена для движения маршрутных транспортных средств.

33.347 **Водителю автобуса в этом случае опередить гужевую повозку:**



1. Разрешается.
2. Запрещается.

33.348 **Водителю грузового автомобиля, разрешенная максимальная масса которого превышает 3,5 т, движение разрешается:**



1. Прямо или налево.
2. Прямо или направо.
3. Прямо, направо или в обратном направлении.
4. Во всех направлениях.
5. Только прямо.

Знак информирует о:

1. Направлении движения по полосам.
2. Начале дополнительной полосы.
3. Примыкании полосы движения для разгона транспортных средств.

33.350 **Какой из знаков предупреждает о сужении дороги только с левой стороны?**

1 2 3 4

Вопрос подобного содержания может быть поставлен вам на теоретическом экзамене в сервисном центре МВД Украины.

33:351 Знак информирует о конце:

1. Полосы для движения маршрутных транспортных средств.
2. Дороги с полосой для движения маршрутных транспортных средств.
3. Полосы для движения автомобилей.

33:352 Этот знак запрещает:



1. Остановку транспортных средств с расстоянием между ними менее указанного на знаке.
2. Движение транспортных средств с дистанцией между ними более указанной на знаке.
3. Движение транспортных средств с дистанцией между ними менее указанной на знаке.

Вне населенных пунктов изображенный знак вы увидите:

1. Только за 150–300 м до начала подъема.
2. Только непосредственно перед началом подъема, расположенным за спуском.
3. Согласно обоим перечисленным выше требованиям.

Знак отменяет режимы движения, которые были введены:

1. В жилой зоне.
2. На участке дороги, где движение пешеходов запрещено.
3. В пешеходной зоне.

Этот дорожный знак обозначает:

1. Пешеходную зону.
2. Дорожку для пешеходов.
3. Дорожку, по которой движение пешеходов запрещено.

Изображенный на этом рисунке знак:

1. Ограничивает максимальную скорость до ближайшего перекрестка.
2. Определяет конец зоны ограничения минимальной скорости.
3. Определяет конец зоны ограничения максимальной скорости.

Какой из знаков разрешает разворот?

1 2 3 4 5

Водитель какого транспортного средства не нарушает требование Правил, остановив его на этом участке дороги для посадки (высадки) пассажира?



1. Только мотоцикла.
2. Только зеленого автомобиля.
3. Только автомобиля-такси.
4. Автомобиля-такси и зеленого автомобиля.
5. Всех перечисленных выше.

Этот дорожный знак:

1. Информирует о приближении к перекрестку, на котором есть опасность, не предусмотренная другими знаками.
2. Предупреждает о приближении к пересечению равнозначных дорог.
3. Обязывает уступить дорогу транспортным средствам, приближающимся слева.

Какая из комбинаций знаков запрещает только стоянку в рабочие дни?

1 2 3 4

Вопрос подобного содержания может быть поставлен вам на теоретическом экзамене в сервисном центре МВД Украины.

Водителю автомобиля с разрешенной максимальной массой более 3,5 т обогнать мотоциклиста:



1. Разрешается.
2. Запрещается.

На запрещающий сигнал светофора вы должны остановиться перед:

1. Светофором.
2. Знаком «Место остановки».

Разрешается ли вам выполнить обгон, если вы управляете легковым автомобилем?

1. Разрешается.
2. Запрещается.
3. Разрешается, если скорость буксирующего автомобиля меньше 30 км/ч.

При включении красного сигнала светофора вы должны остановиться:



1. Перед пересекаемой проезжей частью.
2. Перед светофором.
3. Не ближе 10 м от края проезжей части.

Разрешено ли вам обогнать мотоциклиста, если вы управляете легковым автомобилем?

1. Запрещено.
2. Разрешено, если скорость движения мотоцикла менее 30 км/ч.

Преимущество в движении:

1. Имеете вы.
2. Имеет водитель микроавтобуса.

Знак устанавливает одновременно конец действия запретов, введенных знаками:

1. Запрещения обгона.
2. Ограничения скорости.
3. Запрещения остановки и стоянки.
4. Всех перечисленных выше.

Преимущество в движении имеет водитель:



1. Грузового автомобиля.
2. Легкового автомобиля.

В этом случае вы должны остановиться перед:

1. Знаком.
2. Линией тротуара.
3. Краем проезжей части.

Изображенный дорожный знак:



1. Предоставляет право первоочередного проезда.
2. Отменяет право первоочередного проезда нерегулируемого перекрестка.

Вопрос подобного содержания может быть поставлен вам на теоретическом экзамене в сервисном центре МВД Украины.

Знаки предупреждают о приближении к железнодорожному переезду:

1. Со шлагбаумом.
2. Без шлагбаума.

Требования знака «Уступить дорогу» при работающем светофоре:

1. Действуют.
2. Не действуют.

Дорожный знак предупреждает о приближении к:



1. Опасному пешеходному переходу, на котором возможно появление велосипедистов.
2. Пересечению с велосипедной дорожкой.

ЗЗ.374 Управляя легковым автомобилем, вам разрешено движение:



1. Только слева, справа и в обратном направлении.
2. Во всех направлениях.

Эти знаки предупреждают о:

1. Направлении движения на перекрестке.
2. Направлении поворота дороги.
3. Опасном появлении транспортных средств справа.

ЗЗ.376 Знак с табличкой предупреждает о том, что аварийно опасный участок начнется:



1. От места установки знака.
2. Через 150–300 м после места установки знака.
3. Через 2 км после места установки знака.

Какой из изображенных знаков не повторяется в случае его установки вне населенных пунктов?

1 2 3 4 5

Дорожные знаки предупреждают о том, что справа через 100 м:



1. Начинается сужение проезжей части.
2. Заканчивается дорога с усовершенствованным покрытием.

ЗЗ.379 Какой из изображенных знаков не повторяется в случае его установки в населенном пункте?

1 2 3

Знак предупреждает о том, что ширина проезжей части:

1. Уменьшается на одну или более полосу.
2. В пределах искусственного сооружения меньше, чем на подходах к ней.
3. Уменьшается в обоих перечисленных случаях.

Вопрос подобного содержания может быть поставлен вам на теоретическом экзамене в сервисном центре МВД Украины.

Знаки предупреждают о том, что:

1. Опасный участок, на котором запрещен обгон грузовым автомобилям, начнется через 300 м.
2. Протяженность опасного участка, на котором запрещен обгон грузовым автомобилям, составляет 300 м.

Управляя легковым автомобилем, вам на таком перекрестке разрешается движение:



1. Только прямо.
2. Только влево или вправо.
3. Только прямо, налево или в обратном направлении.
4. В любом из вышеперечисленных направлений.

Водителю грузового автомобиля во время буксировки легкового автомобиля разрешается движение:

1. Только прямо.
2. Только направо.
3. Только налево или в обратном направлении.
4. Прямо, направо или налево.

Водителю легкового автомобиля развернуться на этом перекрестке:



1. Разрешено.
2. Запрещено.

Эти дорожные знаки информируют о приближении к перекрестку, где установлен знак:

1. «Уступить дорогу».
2. «Движение без остановки запрещено».

Знаки предупреждают о том, что:



1. На протяжении 150 м на проезжей части возможно появление пешеходов.
2. Через 150 м будет нерегулируемый пешеходный переход.

Знак информирует о:



1. Расположении пункта осмотра автомобилей.
2. Расположении поста дорожной полиции.
3. Возможности осуществления контроля нарушений ПДД с помощью технических средств.

Водитель какого транспортного средства неправильно поставил его на стоянку?



1. Только мотоцикла.
2. Только легкового автомобиля.
3. Только микроавтобуса.
4. Микроавтобуса и мотоцикла.

Какой из дорожных знаков вы встретите перед пересечением с главной дорогой?

1

2

1. Только «Проезд без остановки запрещен».
2. Только «Уступить дорогу»
3. Один из вышеперечисленных.

Какой из дорожных знаков позволяет разворот транспортных средств на перекрестке, перед которым они установлены?

1

2

1. Только «Поворот налево запрещен».
2. Только «Движение прямо или налево».
3. Оба знака.

Вопрос подобного содержания может быть поставлен вам на теоретическом экзамене в сервисном центре МВД Украины.

По обозначенной дорожным знаком полосе разрешено движение:

1. Только пешеходов.
2. Пешеходов и велосипедистов.

33.392 Дорожный знак информирует о том, что:

1. По пересекаемой дороге организовано двухстороннее движение.
2. Дорога с односторонним движением заканчивается перед перекрестком.

33.393 Управляя легковым автомобилем, вы можете продолжить движение:

1. Только слева.
2. Только справа.
3. В любом направлении.

33.394 Водителю легкового автомобиля движение разрешается:

1. Только налево.
2. Только налево и в обратном направлении.
3. Направо, налево и в обратном направлении.

33.395 Водителю этого автомобиля остановиться для высадки пассажира:

1. Запрещено.
2. Разрешено.

33.396 В зоне действия этого знака поставить на стоянку разрешается:



1. Мотоколяску или автомобиль, которые обозначены опознавательным знаком «Водитель с инвалидностью».
2. Автомобиль-такси с включенным таксометром.
3. Оба указанные транспортные средства.

Остановиться для разгрузки груза разрешается:

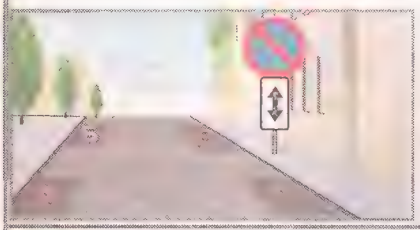

1. Только в месте «А».
2. Только в месте «Б».
3. Только в месте «А» и «Б».
4. Только в месте «В» и «Г».
5. В любом из перечисленных выше.

33.398 Остановиться в 10 м по установленным знакам для посадки пассажира:

1. Разрешается.
2. Запрещается.

В зоне действия знака с табличкой остановка разрешена:



1. Автомобилям-такси, которые ожидают пассажира с инвалидностью.
2. Транспортным средствам с опознавательным знаком «Водитель с инвалидностью».

В начале этой желтой линии установлен дорожный знак:



1. «Остановка запрещена».
2. «Стоянка запрещена».

Вопрос подобного содержания может быть поставлен вам на теоретическом экзамене в сервисном центре МВД Украины.

Поставлен на стоянку с нарушением Правил:

1. Только автомобиль красного цвета.
2. Только автомобиль синего цвета.
3. Оба автомобиля.

33.402 Водитель какого транспортного средства правильно поставил его на стоянку?

1. Только микроавтобуса.
2. Только легкового автомобиля.
3. Только мотоцикла.
4. Всех транспортных средств.
5. Легкового автомобиля и микроавтобуса.

33.403 Водитель какого транспортного средства неправильно остановился для посадки пассажиров на этом участке дороги?

1. Только скутера.
2. Только микроавтобуса.
3. Обоих транспортных средств.

Поставлен на стоянку с нарушением Правил:

1. Только мотоцикл.
2. Только автомобиль.
3. Оба транспортные средства.

33.405 Водитель какого транспортного средства правильно поставил его на стоянку?



1. Только мотоцикла.
2. Только автомобиля.
3. Обоих транспортных средств.

Водитель какого транспортного средства правильно остановился для высадки пассажира?

1. Только легкового автомобиля.
2. Только микроавтобуса.
3. Обоих транспортных средств.

33.407 Дорожный знак определяет территорию:

1. В населенном пункте, на которой продолжительность стоянки ограничена независимо от того, взимается ли за это плата.
2. На которой остановка запрещена.

На этом перекрестке можно продолжить движение:

1. Только налево.
2. Только в обратном направлении.
3. Налево или в обратном направлении.

В каких направлениях разрешается продолжить движение?



1. Только по «Б».
2. Только по «А» или **«Б»**.
3. В любом из показанных.

Требования знака не распространяются на:

1. Транспортные средства, принадлежащие гражданам, которые проживают в зоне действия знака.
2. Маршрутные транспортные средства.

Вопрос подобного содержания может быть поставлен вам на теоретическом экзамене в сервисном центре МВД Украины.

В зону действия знака с табличкой запрещено движение:



1. Только легковых автомобилей.
2. Только тракторов.
3. Только грузовых автомобилей и мотоциклов.
4. Механических транспортных средств.

В начале этой желтой линии может быть установлен дорожный знак:



1. «Остановка запрещена».
2. «Стоянка запрещена».

В зону действия знака велосипедисту движение:

1. Разрешается.
2. Запрещается.

Движение разрешается в направлении:

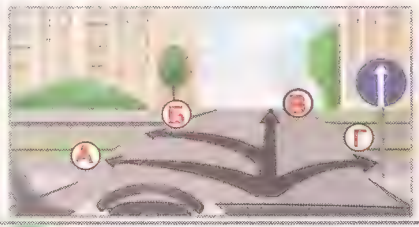

1. Только «А» и «Г».
2. Только «А», «Б» и «В».
3. Только «Б», «В» и «Г».
4. Только «Б» и «В».

В пешеходную зону въезд транспортных средств с опознавательным знаком «Инвалид»:



1. Разрешено в любом случае.
2. Разрешено, если им управляет водитель-инвалид.

Развернуться в этом месте:

1. Разрешается.
2. Запрещается.

Подъехать к месту работы в зоне действия знаков на собственном автомобиле разрешается:

1. Только в рабочие дни.
2. Только в субботние, воскресные и праздничные дни.
3. В любой день.

По какой траектории разрешается продолжить движение?

1. Только по «А».
2. Только по «Б», «В» или «Г».
3. По любой.
4. По «А», «В» или «Г».

Зона действия дорожного знака «Движение механических транспортных средств запрещено» не распространяется:

1. Только на транспортные средства, движущиеся по установленным маршрутам.
2. Только на водителей с инвалидностью, которые управляют мотоколяской или автомобилем, обозначенными опознавательным знаком «Водитель с инвалидностью» или перевозящие пасажира с инвалидностью.
3. Только на транспортные средства, которые обслуживают граждан или принадлежат гражданам, проживающим или работающим в этой зоне.
4. Только на транспортные средства, которые обслуживают предприятия, расположенные в обозначенной зоне.
5. На все вышеперечисленные транспортные средства.

Дорожный знак информирует о том, что по требованию уполномоченного лица Госпогранслужбы водитель должен остановиться с соблюдением требований этих Правил, а также:



1. Только предъявить для проверки регистрационный документ на транспортное средство.
2. Только дать возможность осмотреть транспортное средство и проверить номера его агрегатов.
3. Выполнить оба вышеперечисленные действия.

Вопрос подобного содержания может быть поставлен вам на теоретическом экзамене в сервисном центре МВД Украины.

Знак с табличкой через 200 м отменяет:

1. Все ранее установленные ограничения.
2. Право первоочередного проезда нерегулируемого перекрестка.

При включении зеленого сигнала светофора вы:



1. Должны остановиться перед стоп-линией.
2. Можете продолжить движение через перекресток без остановки.

Эти дорожные знаки информируют о приближении к перекрестку, где установлен знак:

1. «Уступить дорогу».
2. «Движение без остановки запрещено».

Управляя легковым автомобилем с прицепом, вы можете двигаться:



1. Только прямо.
2. Прямо или налево.
3. Прямо, налево или в обратном направлении.

Вам останавливаться перед знаком после проезда через перекресток микроавтобуса:

1. Обязательно.
2. Не обязательно.
3. Не обязательно при отсутствии транспортных средств на пересекаемой дороге.

Водитель микроавтобуса во время буксировки мотоцикла может двигаться:



1. Только прямо.
2. Только направо.
3. Направо или в обратном направлении.

Проезд через такой перекресток без остановки перед знаком «Проезд без остановки запрещен»:

1. Будет считаться нарушением правил проезда перекрестков.
2. Не будет считаться нарушением правил проезда перекрестков.

Велосипедисту движение прямо:



1. Разрешается.
2. Запрещается.
3. Разрешается, если он проживает в этой зоне.

Проехать через перекресток без остановки перед знаком «Проезд без остановки запрещен» в этом случае:

1. Запрещается.
2. Разрешается.

Правила нарушает пешеход:

1. Женщина.
2. Мужчина.

Вопрос подобного содержания может быть поставлен вам на теоретическом экзамене в сервисном центре МВД Украины.

Знак предупреждает водителя микроавтобуса о сужении:

1. Полосы движения.
2. Дороги.

Знаки предупреждают о том, что через 200 м будет перекресток, на котором установлен знак:

1. «Уступить дорогу».
2. «Проезд без остановки запрещен».
3. «Главная дорога».

Преимущество в движении:



1. Имеете вы.
2. Имеет водитель грузового автомобиля.

Если вы проживаете на прилегающей справа улице, то:

1. При отсутствии справа транспортных средств можете подъехать к дому на минимальной скорости.
2. Должны проехать прямо или развернуться, чтобы подъехать к дому по другому маршруту.

Знак предупреждает о том, что на перекрестке действуют правила проезда перекрестков:



1. Равнозначных дорог.
2. Неравнозначных дорог.

По какой траектории можно выполнить разворот?



1. Только по «А».
2. Только по «Б».
3. По любой.

Преимущество в движении:

1. Имеет водитель грузового автомобиля.
2. Имеете вы.

На изображенном перекрестке вы можете продолжить движение:

1. Только прямо.
2. Только прямо или направо.
3. Прямо, направо или в обратном направлении.

Знак предупреждает о приближении к:

1. Скользкому участку дороги.
2. Мокрому и загрязненному участку дороги.
3. Участку дороги, где возможен выброс гравия из-под колес.

Повернуть налево:



1. Запрещается.
2. Разрешается.

Вопрос подобного содержания может быть поставлен вам на теоретическом экзамене в сервисном центре МВД Украины.

Если вы работаете на предприятии, которое расположено за знаком, то вы:

1. Можете проехать прямо, уменьшив скорость движения и перестроившись правее.
2. Должны повернуть направо или развернуться, чтобы выбрать другой маршрут движения.

С какой максимальной скоростью может продолжить движение по второй полосе водитель этого автомобиля?

1. 50 км/ч.
2. 80 км/ч.

Если масса автомобиля, которым вы управляете, превышает 5 т, то для проезда прямо вы должны:



1. Уменьшить скорость движения.
2. Увеличить скорость движения.
3. Выбрать другой маршрут движения.

Дорожный знак запрещает движение со скоростью более 50 км/ч:

1. Только легковых автомобилей.
2. Только грузовых автомобилей.
3. Только мотоциклов и мопедов.
4. Всех транспортных средств.

Движение прямо:

1. Разрешается.
2. Запрещается.
3. Допускается не далее, чем на 300 м.

После проезда знаков движение разрешается со скоростью:

1. Не более 70 км/ч.
2. Не менее 70 км/ч.
3. С любой, не превышающей установленные пределы для данной дороги.

Дальнейшее движение на таком перекрестке разрешается:

1. По направлению «А» или «В».
2. Только по направлению «Б».
3. Только по направлению «Б» и «В».

Управляя грузовым автомобилем с разрешенной максимальной массой до 3,5 т, обогнать трактор:

1. Разрешается.
2. Запрещается.

Обгон грузового автомобиля:

1. Запрещен.
2. Разрешен, если его скорость менее 30 км/ч.
3. Разрешен.

Водителю легкового автомобиля обогнать грузовой автомобиль:

1. Запрещается.
2. Разрешается только если скорость грузового автомобиля не превышает 30 км/ч.
3. Разрешается.

Вопрос подобного содержания может быть поставлен вам на теоретическом экзамене в сервисном центре МВД Украины.

На этом участке дороги разрешается:

1. Только остановка транспортных средств.
2. Только стоянка транспортных средств.
3. Оба перечисленные действия.

В обозначенной этим знаком зоне разрешается:

1. Только остановка транспортных средств.
2. Только стоянка транспортных средств.
3. Оба перечисленные действия.

Преимущество в движении:



1. Имеет водитель микроавтобуса.
2. Имеет водитель мопеда.
3. Имеете вы.

Повторно установленные знаки предупреждают о том, что участок длиной 100 м, где на проезжую часть могут выйти дети, начнется:



1. Через 50 м.
2. Через 150-300 м.
3. Сразу за дорожными знаками.

Знаки предупреждают о том, что до железнодорожного переезда без шлагбаума осталось не менее:



1. 50 м.
2. 150 м.

Изображенный железнодорожный переезд имеет:

1. Два пути.
2. Один путь.

Какой из установленных знаков информирует водителя о количестве путей на переезде?

1. Только установленный вместе со знаком «Железнодорожный переезд со шлагбаумом».
2. Только установленный вместе со светофорной сигнализацией.
3. Оба дорожные знаки.

Въезжая в населенный пункт, вы встретите этот знак:

1. Только перед регулируемым перекрестком.
2. Только перед регулируемым пешеходным переходом.
3. В обоих случаях.

Знак предупреждает о приближении к:

1. Регулируемому пешеходному переходу.
2. Нерегулируемому пешеходному переходу.

Дорожные знаки информируют водителя об:

1. Окончании участка дороги с односторонним движением.
2. Двустороннем движении на участке дороги за перекрестком.
3. Обоих изменениях в организации дорожного движения.

Вопрос подобного содержания может быть поставлен вам на теоретическом экзамене в сервисном центре МВД Украины.

Водителю микроавтобуса движение разрешается:

1. Только налево.
2. Налева или в обратном направлении.

В каком ответе наиболее полно перечислены разрешенные направления движения на перекрестке?



1. Налево или направо.
2. Направо, налево или в обратном направлении.

Заехать во двор за перекрестком слева:

1. Разрешено.
2. Запрещено.
3. Разрешено только если водитель там проживает.

Заехать во двор за перекрестком слева:

1. Разрешено.
2. Запрещено.
3. Разрешено только если водитель там проживает.

Водителю легкового автомобиля заехать во двор справа:

1. Разрешается.
2. Запрещается.
3. Разрешается только если водитель там проживает.

Водителю легкового автомобиля движение разрешено:

1. Прямо или налево.
2. Только прямо.
3. Прямо и в обратном направлении.

Водителю легкового автомобиля поставить его на стоянку:

1. Разрешено.
2. Запрещено.

Движение разрешено:

1. Только прямо.
2. Только направо.
3. Прямо или направо.

Объехать место проведения дорожных работ разрешено:



1. Только по третьей полосе.
2. Только по первой полосе.

Знаки предупреждают о том, что:



1. За знаками начнется участок протяженностью 600 м с опасными поворотами.
2. Через 600 м начнутся опасные повороты.
3. На расстоянии 150–300 м за знаками начнется участок с опасными поворотами протяженностью 600 м.

Вопрос подобного содержания может быть поставлен вам на теоретическом экзамене в сервисном центре МВД Украины.

Какой из дорожных знаков информирует о полосе для движения маршрутных транспортных средств?

1. Только первый.
2. Только второй.
3. Только третий.
4. Все вышеперечисленные.

Дорожные знаки предупреждают о:



1. Необходимости включения света фар в светлое время суток.
2. Опасности возможного наезда на пешеходов.

Дорожные знаки предупреждают об:

1. Расположении станции технического контроля.
2. Опасности возможного столкновения транспортных средств.

33.474 **Знак с табличкой позволяет поставить на стоянку:**

1. Только легковые автомобили.
2. Только легковые автомобили и мотоциклы.
3. Только автомобили и мотоциклы.
4. Все транспортные средства.

Знаки информируют о том, что на тротуаре разрешена стоянка:



1. Только легковых автомобилей.
2. Легковых автомобилей и мотоциклов.
3. Всех транспортных средств.

33.476 **В этой ситуации поставить автомобиль на стоянку с включенным двигателем:**

1. Разрешено только в холодное время года.
2. Разрешено на время не более 30 мин.
3. Запрещено.

На водителя какого транспортного средства распространяется ограничение максимальной скорости движения 80 км/ч?



1. Только мотоцикла.
2. Только грузового автомобиля.
3. Только легкового автомобиля.
4. Грузового автомобиля и мотоцикла.

Водителю такого легкового автомобиля поставить его на стоянку в этом месте:

1. Разрешено.
2. Запрещено.
3. Разрешено не более чем на 30 мин.

Как следует вам действовать в этой ситуации, если вы буксируете автомобиль?

1. Повысить скорость движения до 60 км/ч.
2. Занять правую полосу движения.

На этом перекрестке вам разрешается движение:

1. Только прямо и направо.
2. Прямо, направо и в обратном направлении.
3. Только налево.
4. В любом направлении.

Вопрос подобного содержания может быть поставлен вам на теоретическом экзамене в сервисном центре МВД Украины.

35.481 Развернуться на этом участке улицы:



1. Разрешается при отсутствии сплошной линии дорожной разметки.
2. Запрещается.
3. Разрешается при видимости дороги более 100 м.

Повернуть направо на таком перекрестке вы можете:



1. По траектории «А».
2. По траектории «Б».
3. По любой траектории.

На этом участке дороги водителю легкового автомобиля разрешается:

1. Только остановка в правой полосе движения.
2. Только остановка в левой полосе движения.
3. Только движение задним ходом.
4. Все перечисленное выше.
5. Остановка в крайних правой и левой полосах движения.

Знак информирует о том, что:

1. На пересекаемой дороге организовано двухстороннее движение.
2. На пересекаемой дороге организовано реверсивное движение.

35.485 Этот знак информирует:

1. Только о количестве полос на перекрестке.
2. Только о разрешенных направлениях движения по каждой из них.
3. О всем перечисленном выше.

35.486 Эти знаки показывают, что по левой полосе скорость движения:



1. Не должна превышать 50 км/ч.
2. Рекомендуется поддерживать 50 км/ч.
3. Не должна быть менее 50 км/ч.

35.487 В этой ситуации вам разрешается движение:



1. Прямо, налево и в обратном направлении.
2. Прямо, направо, налево и в обратном направлении.
3. Прямо и направо.

35.488 Объехать место выполнения дорожных работ вы можете:



1. Справа или слева.
2. Только справа.
3. Только слева.

В каком направлении вам разрешается движение?



1. Только «Б».
2. «А» и «Б».
3. «Б» и «В».
4. Во всех показанных.

По левой полосе изображенного участка дороги разрешается движение:



1. Легковых автомобилей и мотоциклов.
2. Автобусов.
3. Грузовых автомобилей с разрешенной максимальной массой не более 3,5 т.
4. Всех перечисленных выше транспортных средств.

Вопрос подобного содержания может быть поставлен вам на теоретическом экзамене в сервисном центре МВД Украины.

Двигаясь прямо, преимущество в движении:

1. Имеете вы.
2. Имеет водитель грузового автомобиля.

В зоне для разворота, обозначенной этим знаком, разрешается разворот:



1. Только транспортных средств с прицепом.
2. Только транспортных средств без прицепа.
3. Любых транспортных средств.

Дорожные знаки информируют о том, что при влажном покрытии:



1. Скорость движения не должна превышать 40 км/ч.
2. Скорость движения не должна быть меньше 40 км/ч.
3. Рекомендуемая скорость составляет 40 км/ч.

Дорожные знаки на желтом фоне информируют о том, что:

1. Дальнейшее движение осуществляется по левой полосе движения.
2. Для дальнейшего движения необходимо переехать на левую проезжую часть.

При выезде из жилой зоны следует уступить дорогу:

1. Только транспортным средствам, приближающимся справа.
2. Только пешеходам.
3. Всем участникам дорожного движения.

Дорожный знак на желтом фоне информирует о том, что:



1. Дальнейшее движение осуществляется только по правой полосе движения.
2. Для дальнейшего движения необходимо переехать на правую проезжую часть.

В пешеходную зону въезд разрешается транспортным средствам, которые:



1. Принадлежат гражданам, проживающим или работающим в этой зоне.
2. Обслуживают предприятия или граждан, работающих в этой зоне.
3. Перечислены в ответах 1 и 2.

После проезда знака на белом фоне и с началом плотной застройки максимальная скорость движения не должна превышать:

1. 60 км/ч.
2. 70 км/ч.
3. 90 км/ч.

Водителю грузового автомобиля движение разрешается:



1. Только налево.
2. Только налево и в обратном направлении.
3. Только направо.
4. Направо, налево и в обратном направлении.

На каком расстоянии от знака «Пункт остановки автобуса» водителю легкового автомобиля запрещается поставить его на стоянку?



1. Только не ближе 30 м перед знаком.
2. Только более 30 м за знаком.
3. Ближе 30 м от знака с обеих сторон.

Вопрос подобного содержания может быть поставлен вам на теоретическом экзамене в сервисном центре МВД Украины.

34. Дорожная разметка

34.1 Обозначенная буквой полоса проезжей части предназначена для движения:

1. Автобусов, перевозящих организованные группы детей.
2. Транспортных средств с опознавательным знаком «Дети».
3. Автобусов междугороднего сообщения.
4. Маршрутных транспортных средств.

34.2 Прерывистая линия разметки позволяет водителю пересекать ее:



1. Только при выполнении поворота налево или разворота.
2. Только при выполнении обгона.
3. Только при выполнении объезда препятствия.
4. Во всех вышеперечисленных случаях.

34.3 Нанесенные на проезжей части стрелки предупреждают водителя о приближении к:

1. Сужению проезжей части в данном направлении.
2. Опасному участку дороги.
3. Месту, где водитель имеет преимущество при перестроении.

34.4 Нанесенная на проезжей части линия дорожной разметки желтого цвета обозначает место, где:



1. Запрещены остановка и стоянка транспортных средств.
2. Разрешается остановка транспортных средств для посадки и высадки пассажиров.
3. Запрещается стоянка транспортных средств.

34.5 Какие линии дорожной разметки обозначают границы полос движения, на которых осуществляется реверсивное регулирование?



1



2

3



4

34.6 Нанесенная на проезжей части перед светофором линия разметки указывает место, где водитель должен остановить транспортное средство:

1. При сигнале светофора или регулировщика, запрещающем движение.
2. Независимо от сигнала светофора.

34.7 Остановить транспортное средство на данном участке дороги:

1. Разрешается.
2. Разрешается только после окончания прерывистой желтой линии.
3. Запрещается.

34.8 Нанесенные на проезжей части стрелки горизонтальной дорожной разметки указывают:

1. Рекомендованные направления движения на перекрестке.
2. Разрешенные направления движения по полосам на перекрестке.

34.9 Какое количество полос для движения транспортных средств в обоих направлениях имеет участок дороги при наличии изображенной дорожной разметки?

1. Две.
2. Не менее трех.
3. Четыре и более.

34.10 Широкая желтая линия горизонтальной дорожной разметки применяется для обозначения границы:

1. Велосипедной дорожки.
2. Полосы движения маршрутных транспортных средств.
3. Полосы движения для грузового транспорта.

Вопрос подобного содержания может быть поставлен вам на теоретическом экзамене в сервисном центре МВД Украины.

Широкая сплошная линия дорожной разметки обозначает край проезжей части на:

1. Дороге для автомобилей.
2. Автомагистрали.
3. Автомагистрали и дороге для автомобилей.

Для каких транспортных средств предназначено это место для стоянки?



1. Только для обозначенных опознавательным знаком «Водитель с инвалидностью».
2. Только для перевозящих лиц с инвалидностью.
3. Для обеих категорий перечисленных транспортных средств.

Повернуть в этой ситуации налево на стоянку вам:



1. Разрешается при отсутствии встречных транспортных средств.
2. Запрещается.

Изображенной на рисунке дорожной разметкой обозначаются пешеходные переходы, на которых движение светофорами:

1. Регулируется.
2. Не регулируется.

Прерывистая линия горизонтальной дорожной разметки:

1. Разделяет транспортные потоки противоположных направлений.
2. Предупреждает о приближении к сплошной линии продольной разметки.

Разметка в виде треугольников:

1. Предупреждает о приближении к перекрестку.
2. Указывает место, где водитель должен при необходимости остановить транспортное средство и уступить дорогу транспортным средствам, движущимся по пересекаемой дороге.

Дорожная разметка в виде изображения дорожного знака «Ограничение максимальной скорости» на проезжей части указывает:

1. Рекомендованную скорость движения.
2. Минимальную скорость движения.
3. Максимально разрешенную скорость движения.

Линия дорожной разметки, на которую указывает стрелка, обозначает:

1. Край проезжей части на автомагистрали.
2. Край велосипедной дорожки.
3. Границу между полосой разгона или торможения и основной полосой проезжей части.

Прерывистая линия горизонтальной дорожной разметки желтого цвета обозначает место:

1. Разворота маршрутных транспортных средств.
2. Где на полосу для движения маршрутных транспортных средств разрешен заезд другим транспортным средствам.
3. Где маршрутным транспортным средствам разрешен выезд с полосы.

Дорожная разметка в виде надписи на проезжей части «STOP»:



1. Предупреждает о приближении к разметке «Стоп-линия», если она применяется в сочетании со знаком «Проезд без остановки запрещен».
2. Указывает место, где водитель должен остановить транспортное средство при наличии знака «Проезд без остановки запрещен».

Вопрос подобного содержания может быть поставлен вам на теоретическом экзамене в сервисном центре МВД Украины.

Дорожная разметка в виде надписи на проезжей части указывает:

1. Начало дороги для автомобилей.
2. Номер дороги (маршрута).
3. Конец дороги с обозначенной кодировкой.

Изображенная на рисунке дорожная разметка обозначает:

1. Границу регулируемого пешеходного перехода.
2. Границу нерегулируемого пешеходного перехода.
3. Место, где велосипедная дорожка пересекает проезжую часть.

Нанесенная на проезжей части дорожная разметка, на которую указывает стрелка, обозначает, что:

1. Поворот на ближайшую проезжую часть ведет в тупик.
2. Поворот на ближайшую проезжую часть запрещен.

Объехать грузовой автомобиль, вынужденно остановившийся во второй полосе движения, запрещается:

1. Только с левой стороны.
2. Только с правой стороны.
3. Любой из маневров.

По какой траектории водителю микроавтобуса разрешается движение в месте слияния транспортных потоков?



1. Только по «А».
2. Только по «Б».
3. По любой.

По какой траектории разрешается движение автомобиля с прицепом?



1. Только по «А».
2. Только по «Б».
3. По «А» или «Б».

Эта дорожная разметка обозначает нерегулируемый пешеходный переход:



1. С разделением пешеходных потоков.
2. Которым пользуются слепые пешеходы.
3. По которому могут пересекать дорогу велосипедисты.

34.28 **Какой маневр перестроения разрешен Правилами при выключении сигналов реверсивного светофора?**

1. Только на полосу справа.
2. Только на полосу слева.
3. Любой из маневров.

В этом случае водителю легкового автомобиля развернуться на перекрестке:

1. Запрещается.
2. Разрешается.

Нарушает ли водитель легкового автомобиля Правила, остановившись за сплошной линией дорожной разметки?

1. Не нарушает.
2. Нарушает.

Вопрос подобного содержания может быть поставлен вам на теоретическом экзамене в сервисном центре МВД Украины.

Остановиться в этом месте для посадки пассажира водителю автомобиля-такси:

1. Разрешается.
2. Запрещается.

В каком из обозначенных стрелкой направлении разрешается водителю выехать со стоянки?



1. Только по «А».
2. Только по «Б».
3. По любому.

Прерывистая линия дорожной разметки:



1. Обозначает границу велосипедной дорожки.
2. Обозначает границу полос для движения в одном направлении.
3. Обозначает середину проезжей части.

Разрешается ли водителю пересечь линии горизонтальной дорожной разметки при объезде места выполнения работ?

1. Запрещается.
2. Разрешается.

Заехать на направляющий островок для кратковременной остановки:

1. Разрешается только для кратковременной остановки.
2. Разрешается только для аварийной остановки.
3. Запрещается.

Изменение длины штриха прерывистой линии дорожной разметки информирует водителя о:

1. Начале зоны, где запрещено перестроение на соседнюю полосу.
2. Начале опасного участка дороги.
3. Приближении к сплошной линии разметки, разделяющей транспортные потоки попутного направления.

Вертикальная разметка обозначает:

1. Бордюры направляющего островка или островка безопасности.
2. Бордюры в местах, где запрещена стоянка.
3. Бордюры в местах сужения дороги.
4. Все перечисленные выше участки.

По какой из указанных траекторий водитель грузовика правильно выполняет поворот направо?

1. Только по «А».
2. Только по «Б».
3. По обеим правильно.

Дорожная разметка в виде стрелок на проезжей части предупреждает о приближении к:

1. Дороге с односторонним движением.
2. Перекрестку, на котором движение осуществляется только направо.
3. Крутому повороту направо.
4. Сужению проезжей части.

Разрешается ли вам выполнить обгон легкового автомобиля?

1. Разрешается во всех случаях.
2. Запрещается.
3. Разрешается при скорости его движения менее 30 км/ч.

Вопрос подобного содержания может быть поставлен вам на теоретическом экзамене в сервисном центре МВД Украины.

Водителю легкового автомобиля остановка в этом месте:

1. Разрешается.
2. Запрещается.

Эта вертикальная разметка обозначает:

1. Только въезды в тоннели и мостовые пролетные строения без искусственного освещения.
2. Только нижний край штучного сооружения.
3. Любые элементы дорожных сооружений, представляющие опасность.

Разрешается ли вам обогнать мотоцикл в этом случае?

1. Разрешается во всех случаях.
2. Запрещается.
3. Разрешается при скорости движения мотоцикла менее 30 км/ч.

34.14 Поперечные красные полосы на проезжей части предупреждают о приближении к:

1. Повороту дороги вне населенного пункта.
2. Опасному участку дороги.
3. Регулируемому перекрестку.

Водителю легкового автомобиля опередить грузовой микроавтобус по правой полосе:



1. Разрешается при отсутствии маршрутных транспортных средств.
2. Запрещается.

Остановиться в этом месте для посадки пассажира водителю легкового автомобиля:

1. Разрешается.
2. Запрещается.

Эта вертикальная разметка обозначает:



1. Начало приближения к мосту.
2. Место установки знака «Объезд препятствия» или начало дорожного ограждения.
3. Край препятствия на дороге.

Эта горизонтальная разметка обозначает:



1. Регулируемый пешеходный переход.
2. Пешеходный переход с повышенной вероятностью совершения ДТП.
3. Пешеходный переход для слепых пешеходов.

Эта горизонтальная разметка обозначает:

1. Место обязательной остановки перед перекрестком.
2. Приближение к опасному участку дороги.
3. Место остановки для предоставления преимущества.
4. Приближение к месту установки устройства принудительного снижения скорости движения.

34.50 Эта вертикальная разметка, нанесенная на бордюр, обозначает:

1. Разрешенное место для стоянки.
2. Место, где стоянка запрещена.
3. Место остановки маршрутного транспорта.

Вопрос подобного содержания может быть поставлен вам на теоретическом экзамене в сервисном центре МВД Украины.

Водителю легкового автомобиля выполнить разворот разрешается:



1. Только по траектории «А».
2. Только по траектории «Б».
3. По любой из траекторий на усмотрение водителя.

Эта желтая линия дорожной разметки обозначает:



1. Место стоянки маршрутных транспортных средств и такси.
2. Место, где остановка и стоянка маршрутных автобусов и такси запрещается.
3. Остановку маршрутных транспортных средств и такси.

Линии дорожной разметки обозначают:

1. Место, где велосипедная дорожка пересекает проезжую часть.
2. Пешеходный переход, где движение не регулируется светофором.
3. Пешеходный переход, где движение регулируется светофором.

Изображенной на рисунке дорожной разметкой, на которую указывают стрелки, обозначено:

1. Обязательное направление движения на перекрестке.
2. Рекомендованное направление движения на перекрестке.
3. Полосу движения в пределах перекрестка.

Такая вертикальная разметка на ограждении дороги предупреждает о:

1. Приближении к опасному пересечению.
2. Приближении к железнодорожному переезду в населенном пункте.
3. Движении по опасному участку дороги.

Вертикальная разметка, на которую указывает стрелка, обозначает:



1. Только элементы дорожных сооружений.
2. Только элементы дорожных сооружений, представляющие опасность для движения.

Дорожная разметка в виде треугольника предупреждает водителей о приближении к:

1. Участку разветвления транспортных потоков.
2. Участку сужения проезжей части.
3. Месту, где при необходимости следует остановиться и уступить дорогу.

Обогнать грузовой автомобиль:

1. Разрешается.
2. Запрещается.

Вопрос подобного содержания может быть поставлен вам на теоретическом экзамене в сервисном центре МВД Украины.

35. Основы безопасного управления дорожными транспортными средствами

Какой прием торможения обеспечивает безопасную остановку транспортного средства на скользком участке дороги?

1. Многократное прерывистое нажатие на тормозную педаль и отпускание ее без выключения сцепления.
2. Однократное нажатие на тормозную педаль без выключения сцепления.
3. Торможение с выключенным сцеплением.

Под остановочным путем транспортного средства подразумевается расстояние:

1. Пройденное с момента обнаружения водителем опасности до его полной остановки.
2. Пройденное с момента начала срабатывания тормозного привода до его полной остановки.
3. Соответствующее тормозному пути, определенному технической характеристикой данного транспортного средства.

Если за вами движется другое транспортное средство на слишком малой дистанции, следует:

1. Сильно и продолжительно нажать на тормозную педаль.
2. Немедленно увеличить скорость движения, чтобы увеличить дистанцию от транспортного средства, движущегося сзади.
3. Несколько раз коротко нажать на тормозную педаль, чтобы предупредить водителя транспортного средства, движущегося сзади.

В каком случае следует увеличить боковой интервал?

1. Во время движения по неровному или мокрому покрытию.
2. При разъезда с длинномерным транспортным средством.
3. При встречном разъезде на большой скорости.
4. Во всех вышеперечисленных случаях.

Какие последствия могут наступить при торможении, если шины правых и левых колес автомобиля имеют различную степень износа?

1. Перегрев тормозных барабанов.
2. Отслоение протектора шин.
3. Занос и опрокидывание автомобиля.
4. Все перечисленные выше последствия.

Какие последствия могут наступить при длительном торможении рабочей тормозной системой с выключенным сцеплением, если автомобиль движется на крутом и затяжном спуске?

1. Повышенный износ шин.
2. Повышенный износ деталей сцепления.
3. Перегрев тормозных механизмов и уменьшение эффективности торможения.

Для прекращения заноса автомобиля при торможении водитель, в первую очередь, должен:

1. Продолжить торможение, не изменяя усилия на тормозную педаль.
2. Прекратить начатое торможение.
3. Выключить механизм сцепления.

Каким приемом управления можно выправить начавшийся занос заднеприводного автомобиля?

1. Притормозить и повернуть рулевое колесо в сторону заноса.
2. Значительно уменьшить подачу топлива, не меняя положения рулевого колеса.
3. Слегка уменьшить подачу топлива и повернуть рулевое колесо в сторону заноса.

Какие меры должен предпринять водитель для восстановления эффективности тормозов после проезда по глубоким лужам?

1. На короткой дистанции пробега несколькими резкими нажатиями на тормозную педаль просушить тормоза.
2. Остановить автомобиль и подождать, пока стечет вода из тормозных барабанов.
3. Проследовать на минимальной скорости не менее 5 минут без торможения.
4. Продолжить движение, включив рычаг ручного тормоза на один щелчок.
5. Выполнить действия, указанные в ответах 1 или 4.

При проезде изображенного участка для повышения безопасности движения наиболее целесообразно:

1. Не изменяя скорости, сместиться ближе к центру дороги.
2. Не изменяя скорости, сместиться ближе к обочине.
3. Уменьшить скорость и быть готовым к возможному отклонению автомобиля от заданного курса.

Вопрос подобного содержания может быть поставлен вам на теоретическом экзамене в сервисном центре МВД Украины.

Что из перечисленного уменьшает устойчивость легкового автомобиля и может стать причиной его опрокидывания на повороте дороги?

1. Пассажиры в салоне автомобиля.
2. Груз в багажном отделении автомобиля
3. Груз на багажнике на крыше автомобиля.

Резкое нажатие на педаль акселератора («газа») на скользкой дороге может вызвать:

1. Выход из строя сцепления автомобиля или коробки передач.
2. Прекращение работы двигателя.
3. Боковой занос автомобиля.

Использовать стояночный тормоз для экстренного торможения при отказе основной тормозной системы транспортного средства:

1. Разрешается.
2. Разрешается, если невозможно достичь безопасного снижения скорости путем перехода на пониженную передачу.
3. Запрещается.

Водитель какого автомобиля правильно повернул передние колеса во время стоянки при отсутствии тротуаров на данном участке дороги?

1. «А» и «Г».
2. «Б» и «В».
3. «А» и «В».
4. «Б» и «Г».

При торможении двигателем на автомобиле с механической коробкой передач на крутом спуске водитель должен выбирать передачу, руководствуясь правилом:

1. Круче спуск – выше передача.
2. Круче спуск – ниже передача.
3. Выбор передачи не зависит от крутизны спуска.

Чем из перечисленного можно обеспечить безопасное снижение скорости движения на скользкой дороге?

1. Торможением путем перехода на пониженную передачу.
2. Кратковременным нажатием до упора на тормозную педаль с фиксированием рулевого колеса прямо по направлению движения.
3. Торможением стояночной тормозной системой с выездом на обочину.

При приближении к вершине подъема в темное время суток переключать дальний свет фар на ближний рекомендуется:

1. Только при появлении света фар встречного транспортного средства.
2. Всегда при приближении к вершине подъема.

При внезапном разрыве покрышки колеса во время движения автомобиля необходимо:

1. Крепко удерживая руль автомобиля, резко затормозить.
2. Крепко удерживая руль автомобиля, плавно затормозить.
3. Затормозить с поворотом руля в противоположную от увода автомобиля сторону.

На каком рисунке показан безопасный способ разворота с использованием примыкающей территории?

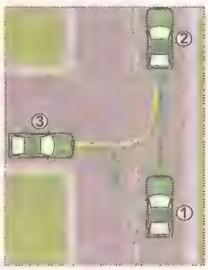

1. На левом.
2. На правом.

При наезде правыми колесами автомобиля на неукрепленную влажную обочину рекомендуется:

1. Нажать на тормозную педаль до полной остановки автомобиля.
2. Нажать на тормозную педаль и плавным поворотом рулевого колеса направить автомобиль на проезжую часть.
3. Не прибегая к торможению, плавным поворотом рулевого колеса влево направить автомобиль к выезду на проезжую часть.

Вопрос подобного содержания может быть поставлен вам на теоретическом экзамене в сервисном центре МВД Украины.

Наилучшую видимость дороги при движении ночью во время сильного снегопада обеспечит включение противотуманных фар одновременно с:

1. Дальним светом фар.
2. Ближним светом фар.

Водитель какого автомобиля правильно повернул передние колеса во время стоянки при наличии тротуаров на данном участке дороги?



1. «А» и «Г».
2. «Б» и «В».
3. «А» и «В».
4. «Б» и «Г».

При каком режиме движения вы наиболее устойчиво проследуете на автомобиле участок дороги с виражом?

1. Двигаясь на нейтральной передаче (накатом).
2. Снизив скорость движения перед началом виража и постепенно увеличивая ее при движении на всем протяжении виража.
3. Не изменяя скорости движения и принимая как можно ближе к оси проезжей части, а в случае увода автомобиля в сторону — применяя торможение.

При начале движения автомобиля на подъеме, стояночный тормоз следует отпускать:

1. До начала движения.
2. После начала движения.
3. Одновременно с началом движения.

Что должен для безопасности движения предпринять водитель механического транспортного средства, если во время движения по сухой асфальтобетонной дороге начал моросить дождь?

1. Продолжить движение, не изменяя скорости.
2. Уменьшить скорость движения и быть особо осторожным.
3. Увеличить скорость движения до начала сильного дождя и только тогда уменьшить скорость.

На каком рисунке показано правильное положение рук на рулевом колесе?

Как изменяется величина центробежной силы с увеличением скорости движения на повороте?

1. Увеличивается пропорционально скорости.
2. Уменьшается пропорционально скорости.
3. Увеличивается пропорционально квадрату скорости.

Какие меры должен предпринять водитель в случае потери сцепления колес автомобиля с дорогой из-за образования «водяного клина»?

1. Увеличить скорость движения.
2. Снизить скорость движения резким нажатием на тормозную педаль.
3. Снизить скорость движения, применяя торможение двигателем, и крепко удерживать рулевое колесо .

На каком рисунке показано правильное положение водителя на сиденьи?

1. На левом.
2. На правом.
3. На нижнем.
4. На правом и нижнем.

Какой способ торможения целесообразно применять на скользкой дороге?

1. С выключением сцепления.
2. Без выключения сцепления.
3. Без выключения сцепления с дополнительным применением ручного тормоза.

Вопрос подобного содержания может быть поставлен вам на теоретическом экзамене в сервисном центре МВД Украины.

Правильное положение руки на рычаге переключения передач показано на рисунке:

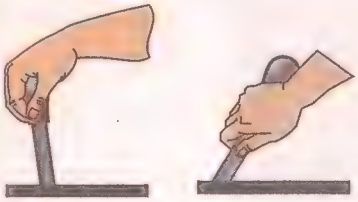

1. Слева.
2. Справа.
3. Обоих.

При заносе на повороте колес задней оси переднеприводного автомобиля необходимо:

1. Уменьшить подачу топлива, восстановить траекторию движения поворотом рулевого колеса.
2. Притормозить и повернуть рулевое колесо в сторону заноса.
3. Резко увеличить подачу топлива, не меняя положения рулевого колеса.
4. Слегка увеличить подачу топлива, корректируя направление движения рулевым колесом.

При экстренном торможении на скользкой дороге необходимо:

1. Выключив сцепление или передачу, плавно нажать на педаль тормоза до упора.
2. Не выключая сцепления и передачу, тормозить прерывистым нажатием на педаль тормоза.

Длина тормозного пути легкового автомобиля при движении с прицепом:

1. Уменьшается, поскольку прицеп создает дополнительное сопротивление движению.
2. Увеличивается.
3. Не изменяется.

На каком рисунке показано выполнение правого поворота по траектории, которая обеспечивает наибольшую безопасность движения?



1. На левом.
2. На правом.
3. На обоих рисунках траектория движения обеспечивает одинаковую безопасность движения.

С повышением скорости движения поле зрения водителя:

1. Не меняется.
2. Сужается.
3. Расширяется.

Какими должны быть действия водителя при возникновении заноса, вызванного резким ускорением движения?

1. Уменьшить нажатие на педаль подачи топлива.
2. Усилить нажатие на педаль подачи топлива.
3. Не менять положение педали подачи топлива.

При управлении каким автомобилем увеличение скорости может способствовать устранению заноса задней оси?

1. С передним приводом.
2. С задним приводом.

Какие из перечисленных действия необходимо осуществлять для безопасного поворота автомобиля при гололеде?

1. Вращать рулевое колесо силовым способом.
2. Снижать скорость на повороте переключением на низшую передачу.
3. Снизить скорость движения до поворота, плавно увеличивая ее при выходе с поворота.

На каком рисунке показано расположение груза в прицепе легкового автомобиля, увеличивающее тормозной путь автопоезда?



1. Только на верхнем.
2. Только на нижнем.
3. На обоих.

Вопрос подобного содержания может быть поставлен вам на теоретическом экзамене в сервисном центре МВД Украины.

При заносе на повороте колес задней оси заднеприводного автомобиля необходимо:

1. Увеличить подачу топлива, стабилизируя рулевым колесом направление движения.
2. Притормозить и повернуть рулевое колесо в сторону заноса.
3. Значительно уменьшить подачу топлива, не меняя положения рулевого колеса.
4. Слегка уменьшить подачу топлива и повернуть рулевое колесо в сторону заноса.

При движении по глубокому снегу на грунтовой дороге следует:

1. Без резких поворотов и остановок двигаться на заранее выбранной пониженной передаче.
2. Изменять скорость и передачу в зависимости от величины снежного покрова.

На каком рисунке показано выполнение левого поворота по траектории, обеспечивающей наибольшую безопасность движения?



1. На левом.
2. На правом.
3. На обоих рисунках траектория движения обеспечивает одинаковую безопасность движения.

Для безопасного проезда поворота скорость движения транспортного средства необходимо уменьшить:

1. На выходе из поворота .
2. На середине поворота.
3. До начала поворота .

Скорость движения транспортного средства следует выбирать исходя из того, чтобы остановочный путь был:

1. Больше расстояния видимости.
2. Меньше расстояния видимости .

Если при выполнении обгона транспортного средства у вас возникло сомнение в безопасном его завершении, то необходимо:

1. Включить повышенную передачу и резко увеличить скорость движения для завершения обгона.
2. Приблизиться как можно ближе к обгоняемому транспортному средству для безопасного разъезда со встречным автомобилем.
3. Прекратить выполнение обгона и возвратиться на ранее занимаемую полосу.

С целью повышения безопасности движения перед въездом на затяжной спуск необходимо:

1. Поставить рычаг переключения передач в нейтральное положение.
2. Только включить пониженную передачу.
3. Обязательно занять правую полосу движения.
4. Проверить исправность тормозов и перейти на пониженную передачу.

На каком рисунке показан безопасный способ разворота с использованием примыкающей территории?

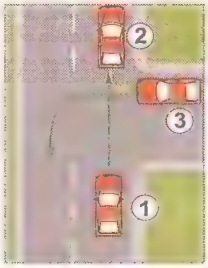

1. На левом.
2. На правом.

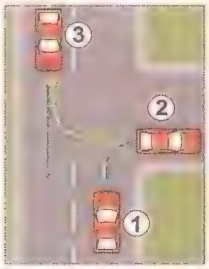

Что следует сделать, когда во время движения начинается дождь?

1. Увеличить скорость движения, чтобы капли дождя лучше намочили стекло, и включить стеклоочистители.
2. Усилить внимание, выбрать скорость и увеличить дистанцию в соответствии с условиями движения.
3. Слегка затормозить, чтобы проверить тормозные свойства автомобиля на мокрой проезжей части.

Употребление алкоголя водителем время реакции:

1. Уменьшает.
2. Увеличивает.
3. Не изменяет.

Вопрос подобного содержания может быть поставлен вам на теоретическом экзамене в сервисном центре МВД Украины.

При движении в условиях тумана расстояние до предметов на дороге воспринимается:

1. Больше, чем в действительности.
2. Меньше, чем в действительности.
3. Соответствующим действительности.

Движение автомобиля с выключенной передачей или сцеплением на изображенном участке дороги:



1. Разрешается.
2. Запрещается.

Типичными признаками наступившей усталости водителя являются:

1. Вялость, сонливость, притупление внимания.
2. Раздражительность, возбужденность.
3. Головокружение, повышенная потливость, резь в глазах.

К каким последствиям может привести резкое включение сцепления при больших оборотах двигателя автомобиля на скользком участке дороги?

1. Только к сильному рывку автомобиля.
2. Только к остановке двигателя.
3. Только к пробуксовке колес и заносу автомобиля.
4. Ко всем перечисленным выше последствиям одновременно.

Какой из автомобилей подвержен к опрокидыванию на данном участке дороги?



1. Только грузовой автомобиль, перевозящий скот.
2. Только автомобиль-цистерна, заполненный на три четверти объема.
3. Оба автомобиля.

При увеличении скорости движения вдвое тормозной путь увеличивается в:

1. Два раза.
2. Четыре раза.
3. Шесть раз.

В каком из перечисленных случае путь обгона будет больше?

1. При скорости движения обгоняемого 40 км/ч и скорости обгоняющего 60 км/ч.
2. При скорости движения обгоняемого 80 км/ч и скорости обгоняющего 100 км/ч.
3. Длина пути обгона в обоих случаях одинакова.

В каком случае следует увеличить боковой интервал?

1. При движении по неровному или мокрому покрытию.
2. При разъезде с длинномерным транспортным средством.
3. При встречном разъезде на большой скорости.
4. Во всех перечисленных выше случаях.

Въезжая в населенный пункт после длительного движения с постоянно большой скоростью, вы будете воспринимать скорость движения:

1. Меньшей, чем она есть на самом деле.
2. Большей, чем она есть на самом деле.

Что из перечисленного в ответах может вызвать ослепление водителя?

1. Снегопад или метель.
2. Сильный дождь.
3. Гололед.
4. Солнечный свет или свет фар.
5. Все перечисленное.

Вопрос подобного содержания может быть поставлен вам на теоретическом экзамене в сервисном центре МВД Украины.

Прицеп автопоезда при движении на повороте:

1. Движется по траектории автомобиля-тягача.
2. Смещается к центру поворота.
3. Смещается в сторону от центра поворота.

Если на этом перекрестке вам надо проехать прямо, а на улице стоят транспортные средства, то вы:

1. Проедете перекресток как можно быстрее.
2. Будете проезжать перекресток на небольшой скорости и с повышенным вниманием.

БДР-61

Уменьшение тормозного пути транспортного средства достигается:

1. Торможением с блокировкой колес.
2. Торможением на грани блокировки при прерывистом нажатии на педаль тормоза.

БДР-64

Вероятность возникновения аварийной ситуации при движении в плотном транспортном потоке уменьшается, если скорость вашего транспортного средства:

1. Значительно больше средней скорости транспортного потока.
2. Значительно меньше средней скорости транспортного потока.
3. Равна средней скорости транспортного потока.

Для уменьшения расхода топлива следует:

1. Как можно чаще применять ускорение автомобиля.
2. Использовать топливо с более низким октановым числом.
3. Выбирать передачу в соответствии с дорожными условиями и избегать резкого ускорения.
4. Двигаться только на низкой передаче.

Под временем реакции водителя подразумевается время:

1. Необходимое для переноса ноги с педали подачи топлива на тормозную педаль.
2. С момента обнаружения водителем опасности для движения до начала принятия мер по ее избежанию.
3. С момента обнаружения водителем опасности для движения до полной остановки транспортного средства.

Какие из перечисленных опасностей являются наиболее вероятными при управлении транспортным средством в темное время суток?

1. Ограниченность поля зрения.
2. Опасность ослепления.
3. Неправильная оценка расстояния.
4. Все перечисленные опасности.

Какой должна быть последовательность действий, если вы садитесь за руль автомобиля, которым до этого управлял другой водитель?

1. Отрегулировать положение сиденья и рулевой колонки, отрегулировать зеркала заднего вида, пристегнуть ремень безопасности.
2. Отрегулировать зеркала заднего вида и подголовник, отрегулировать рулевую колонку и сиденье.
3. Пристегнуть ремень безопасности, отрегулировать подголовник, зеркала заднего вида и положение сиденья.

В темное время суток и в условиях недостаточной видимости скорость встречного транспортного средства воспринимается:

1. Выше, чем в действительности.
2. Ниже, чем в действительности.
3. Восприятие скорости не изменяется.

Водителю следует уменьшать скорость движения во время сильного дождя из-за того, что:

1. Может возникнуть аквапланирование.
2. Ухудшается видимость.
3. Увеличивается тормозной путь.
4. Может быть любая причина, указанная выше.

Вопрос подобного содержания может быть поставлен вам на теоретическом экзамене в сервисном центре МВД Украины.

36. Основы оказания первой медицинской помощи

Какие основные признаки характеризуют венозное кровотечение у пострадавшего?

1. Пульсирующий характер кровотечения, яркий цвет крови, быстрое ее вытекание.
2. Сравнительно медленный характер кровотечения, темный цвет крови.
3. Яркий цвет крови, вытекающей каплями.

Каковы основные признаки артериального кровотечения у пострадавшего?

1. Сравнительно медленный характер кровотечения.
2. Пульсирующий характер кровотечения.

Какие признаки отравления пострадавшего отработавшими газами?

1. Мышечная слабость, головокружение, тошнота, боль за грудиной, потеря сознания.
2. Сильная боль в животе.
3. Возбуждение.

Какая первая медицинская помощь при пищевом отравлении?

1. Выйти на свежий воздух, выпить обезболивающее.
2. Выпить теплого чая, занять удобное полулежащее положение.
3. Выпить большое количество воды, вызвать рвоту, принять активированный уголь.
4. Выполнить одно из вышеперечисленных действий.

В каком положении необходимо транспортировать пострадавшего в случае перелома ключицы?

1. Лежа на спине.
2. В положении сидя.
3. Лежа на боку.

Как остановить венозное кровотечение у пострадавшего?

1. Наложить жгут выше раны.
2. Смазать поврежденную поверхность раствором йода.
3. Наложить на рану стерильную сжимающую повязку.

Какие признаки теплового удара у пострадавшего?

1. Потеря сознания, озноб, тошнота.
2. Возбуждение, боль в груди, кашель.
3. Вялость, зевота, учащенное дыхание, сонливость, потеря сознания.

Какое кровотечение является наиболее опасным для человека?

1. Капиллярное.
2. Венозное.
3. Артериальное.

Как остановить капиллярное кровотечение у пострадавшего?

1. Наложить стерильную сжимающую повязку.
2. Поверхность кожи, покрытую кровью, смазать раствором йода.
3. Наложить жгут.

Какие признаки характеризуют отравление пострадавшего парами бензина?

1. Потеря сознания.
2. Резкая боль в груди.
3. Возбуждение, подобное опьянению (эйфория), головокружение, тошнота, рвота.

На какой срок можно наложить пострадавшему кровоостанавливающий жгут или закрутку в теплое время года?

1. Время не ограничено.
2. Не более чем на два часа.
3. Не более чем на один час.

Как часто следует нажимать на грудную клетку во время проведения сердечно-легочной реанимации пострадавшего?

1. Не менее 100 нажатий в минуту.
2. 60 нажатий в минуту.
3. 30 нажатий в минуту.

Какие из перечисленных признаков свидетельствуют о черепно-мозговой травме у пострадавшего?

1. Потеря сознания.
2. Тошнота, рвота.
3. Нарушение координации движений, нечеткая речь.
4. Потеря реакции на звуки и свет.
5. Все перечисленные выше признаки.

Какую первую помощь необходимо оказать пострадавшему в случае ушиба?

1. Растереть ушиб твердым материалом, наложить повязку, дать выпить много воды.
2. Помассировать участок ушиба, а затем прогреть его (грелкой или примочкой с теплой водой).
3. Наложить тугую повязку на область ушиба, приложить лед или примочки с холодной водой, обеспечить пострадавшему полный покой.

Если у пострадавшего отсутствует дыхание, необходимо:

1. Посадить (положить) пострадавшего и дать понюхать нашатырный спирт.
2. Сделать массаж сердца.
3. Сделать искусственное дыхание.

Какую первую помощь необходимо оказать пострадавшему в случае повреждения кожных покровов и мышечной ткани?

1. Рану промыть, инородные тела извлечь, наложить повязку.
2. Закрыть рану салфеткой с хлоргексидином и наложить на рану стерильную повязку.
3. Залить рану 5% -ным раствором йода и наложить на нее повязку.

Какие признаки характеризуют правильное наложение жгута?

1. Пульсация ниже жгута обязательно сохраняется.
2. Кожные покровы конечностей ниже жгута остаются розовыми.
3. Пульсация ниже жгута прекращается.

Какую первую помощь необходимо оказать пострадавшему в случае перелома костей голени?

1. Плотно прибинтовать шину или другой предмет, заменяющий ее, к месту перелома.
2. Наложить шины с двух сторон на всю длину голени от стопы до коленного сустава.
3. Наложить шину с фиксацией голеностопного и коленного суставов.

Какое должно быть соотношение частоты надавливаний на грудную клетку и искусственного дыхания при проведении сердечно-легочной реанимации пострадавшего?

1. Через 60 нажатий 1 вдох искусственного дыхания.
2. Через 30 нажатий 2 вдоха искусственного дыхания.
3. Через 5 нажатий 1 вдох искусственного дыхания.

Какую первую помощь необходимо оказать пострадавшему в случае травмы голеностопного сустава?

1. На сустав наложить восьмиобразную повязку и к месту повреждения положить холод.
2. На сустав наложить пращеобразную повязку и к месту повреждения положить теплую грелку.

Когда следует прекратить сердечно-легочную реанимацию пострадавшего?

1. В случае появления у него дыхания или прихода в сознание.
2. Через 10 минут после начала сердечно-легочной реанимации.
3. Через 30 минут после начала сердечно-легочной реанимации.

На какое время разрешается наложить пострадавшему кровоостанавливающий жгут или закрутку в холодное время года?



1. Время не ограничено.
2. Не более получаса.
3. Не более чем один час.

На каком расстоянии к ране необходимо наложить кровоостанавливающий жгут на конечность пострадавшему в случае артериального кровотечения?

1. Ниже раны на 5–7 см.
2. Выше раны на 5–7 см.

Во время искусственной вентиляции легких «изо рта в рот» необходимо:

1. Запрокинуть голову пострадавшего назад и выдвинуть его подбородок.
2. Положить пострадавшего на бок.
3. Наклонить вперед голову потерпевшего.

При каких травмах накладывают пращевидную повязку?

1. В случае перелома костей нижней челюсти или носа.
2. В случае травмы мягких тканей.
3. В случае перелома костей конечности.
4. В случае всех вышеперечисленных травм.

Какую помощь следует оказать пострадавшему, если у него в результате ожога на коже образовались волдыри?

1. Проколоть пузыри острым предметом, а затем наложить стерильную повязку.
2. Наложить на место ожога стерильную повязку, осторожно зафиксировать ее без дополнительного давления.
3. Место поражения туго забинтовать.

Какие признаки свидетельствуют о травматическом шоке у пострадавшего?

1. Возбужденность, агрессивность потерпевшего, отказ от помощи.
2. Испуг и чрезмерная тревога.
3. Вялость, апатия, безразличие, потеря сознания.
4. Все перечисленные выше.

Какие характерные признаки сотрясения мозга у пострадавшего?

1. Сонливость, вялость, бледность кожных покровов, потливость, повышение частоты пульса и дыхания.
2. Головная боль, тошнота и рвота, потеря сознания.
3. Возбужденное состояние, покраснение кожных покровов, повышение слюноотделения, потемнение в глазах.

Какую первую помощь необходимо оказать пострадавшему при шоке?

1. Сбрызнуть лицо холодной водой, энергично растереть кожу лица, дать понюхать нашатырный спирт.
2. Положить пострадавшего, укрыть, дать болеутоляющие средства, контролировать дыхание и пульс.
3. Предоставить пострадавшему положение полусидя или лежа, на лоб и затылок положить холодные примочки.

Мед-30

Что необходимо сделать в первую очередь при оказании помощи пострадавшему, который лежит на земле без видимых внешних повреждений, но без сознания?

1. Подложить под ноги валик и дать анальгин или валидол.
2. Поднять к носу ватку с нашатырным спиртом, поднять голову и дать выпить воды.
3. Пострадавшего положить на спину, чтобы голова была ниже уровня ног (на 15–20 см), открыть рот, при необходимости очистить ротовую полость от инородных масс и повернуть голову на бок, контролировать наличие дыхания и пульса, вызвать скорую медицинскую помощь.

В каких случаях пострадавшего следует извлекать из салона транспортного средства?

1. При потере потерпевшим сознания.
2. При обильном кровотечении либо черепно-мозговой травме.
3. При высокой вероятности опрокидывания транспортного средства, пожара, взрыва, а также невозможности оказания пострадавшему домедицинской помощи непосредственно в салоне.

Мед.32

Какая последовательность действий необходима при оказании помощи пострадавшему, если у него остановилось сердце и дыхание, а реакция зрачка глаза на свет еще сохранилась?

1. Освободить дыхательные пути, вывести нижнюю челюсть вперед, провести искусственное дыхание через пленку-клапан для сердечно-легочной реанимации, а потом — наружный массаж сердца.
2. Провести наружный массаж сердца, а затем — искусственное дыхание через пленку-клапан для сердечно-легочной реанимации.

Как правильно снять одежду с пострадавшего, получившего повреждение конечности?

1. Сначала снять с поврежденной конечности.
2. Сначала снять с неповрежденной конечности.
3. Последовательность не имеет значения.

Когда в ране пострадавшего есть инородное тело, необходимо:

1. Если оно выступает над раной — зафиксировать его, обработать рану, забинтовать.
2. Вынуть инородное тело, наложить повязку.
3. Наложить повязку, не вынимая постороннее тело.

Какую первую помощь необходимо оказать пострадавшему в случае перелома ребер?

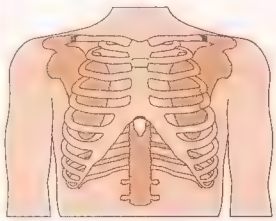

1. Наложить шину со стороны перелома.
2. Наложить холодный компресс на место перелома.
3. Спокойствие, положение полусидя, обезболивание.

Мед.36

Какую первую помощь необходимо оказать пострадавшему при термических ожогах?

1. Наложить стерильную повязку на обожженную поверхность.
2. Обработать обожженную поверхность раствором йода.
3. Наложить спиртовой компресс на обожженную поверхность.

Что прежде всего вы должны сделать в случае необходимости оказания первой домедицинской помощи пострадавшему в ДТП?

1. Осторожно переместить пострадавшего от транспортного средства.
2. Восстановить проходимость дыхательных путей.
3. Убедиться, что при оказании помощи не будет какой-либо опасности.
4. Убедиться, что потерпевший жив и дышит.

Какую первую помощь необходимо оказать пострадавшему в случае перелома плеча?

1. Наложить шину с внешней стороны плеча и туго прибинтовать руку к туловищу.
2. Наложить шину с внешней стороны плеча, подложить валик из мягкой ткани в подмышечную область и зафиксировать руку в согнутом состоянии косыночной повязкой.

Какую первую домедицинскую помощь следует оказать пострадавшему, если у него в результате ДТП на голени выступает обломок кости?

1. Уложить пострадавшего в удобное положение на спину, дать обезболивающее, транспортировать сидя с выпрямленной ногой.
2. На рану наложить стерильную повязку, зафиксировать суставы с обеих сторон перелома, транспортировать пострадавшего в удобном для него положении.

Мед.40

Салфетки с фурагином, входящие в состав автомобильной медицинской аптечки, применяются для:

1. Наложения на раны пострадавшему при термических ожогах.
2. Снятия болевого шока у пострадавшего при наложении на раны или места повреждения.
3. Остановки капиллярных кровотечений.
4. Стерилизации кожи вокруг раны у пострадавшего и дополнительной фиксации кровепоглощающих тампонов.

Что необходимо сделать в первую очередь при оказании помощи в случае обморока?

1. Посадить пострадавшего.
2. Положить пострадавшего и поднять ноги.
3. Положить пострадавшего и поднять голову.

Мед.42

Какую помощь необходимо оказать пострадавшему с травмой грудной клетки?

1. Помочь пострадавшему занять удобное положение, при котором ему будет легче дышать.
2. Положить пострадавшего на бок.
3. Положить пострадавшего на спину и приподнять ноги.

Какую помощь следует оказать пострадавшему в случае перелома у него ключицы?

1. Подвесить руку на косынке и прибинтовать ее к туловищу.
2. Подложить под мышку валик из ваты или бинта, руку, согнутую в локте, прибинтовать к туловищу.
3. Приложить холод на место перелома и туго забинтовать.

Мед.44

В случае носового кровотечения у пострадавшего необходимо:



1. Положить его на спину, вызвать врача.
2. Предоставить ему положение полусидя, запрокинуть голову назад, обеспечить охлаждение переносицы.
3. Предоставить ему положение полусидя, голову наклонить вперед, обеспечить охлаждение переносицы.

Пострадавшему с черепно-мозговой травмой самостоятельно передвигаться:

1. Разрешено.
2. Запрещено.
3. Разрешено с особой осторожностью.

Мед.46

В случае вывиха конечности до прибытия кареты скорой помощи необходимо:

1. Попытаться вправить вывих и зафиксировать конечность.
2. Зафиксировать конечность в положении, которое она приняла после травмы, приложить к поврежденному суставу пакет со льдом или холодной водой.

Какую из перечисленных в ответах первую помощь необходимо оказать пострадавшему в случае перелома конечности?

1. Перевязать место перелома.
2. Положить конечность в удобное для пострадавшего положение.
3. Зафиксировать обломки кости конечности с помощью транспортных стандартных шин или шин из подручных средств с обязательной фиксацией двух смежных суставов.
4. Выполнить последовательно все перечисленные выше действия.

Мед.48

Какие характерные признаки перелома ребер у пострадавшего?

1. Боль при дыхании, разговоре, движении.
2. Поверхностное и учащенное дыхание.
3. Все перечисленные выше.

Мед.49

Как правильно применить бактерицидную салфетку?

1. Не обрабатывая рану, наложить бактерицидную салфетку, зафиксировать ее пластырем или бинтом.
2. Обработать рану раствором йода и наложить бактерицидную салфетку, зафиксировать ее.
3. Обработать кожу вокруг раны, наложить бактерицидную салфетку, зафиксировать ее.

Мед.50

Какую помощь необходимо оказать пострадавшему при ушибе у него живота?

1. Место ушиба охладить, пострадавшему обеспечить полный покой.
2. Дать пострадавшему обильное питье, место ушиба растереть и туго забинтовать.
3. Слегка помассировать место ушиба, затем на него положить теплую грелку.

37. Основы автотранспортного права

В случае остановки транспортного средства полицейским водитель имеет право знать:

1. Только причину остановки.
2. Только фамилию и должность полицейского, остановившего транспортное средство.
3. Только о соответствии принимаемых мер действующему законодательству.
4. Все перечисленное выше.
5. Только перечисленное в ответах 1 и 3.

В каких из перечисленных случаев водитель во время движения может отступать от обязанностей, предусмотренных Законом Украины «О дорожном движении»?

1. Только в случае возникновения непреодолимой им силы.
2. Только если это потребует потери времени при заторе в движении .
3. Только когда другими способами невозможно предотвратить собственную гибель или увечье граждан.
4. Во всех перечисленных выше случаях.
5. В случаях, перечисленных в ответах 1 и 3.

Зак.3 **Какова периодичность прохождения обязательного технического контроля легковых автомобилей, которые используются для перевозки пассажиров или грузов з целью получения прибыли, со сроком эксплуатации более двух лет?**

1. Четыре раза в год.
2. Два раза в год.
3. Каждый год.
4. Каждые два года.

Зак.4 **Имеют ли право полицейские проводить административное задержание водителя за нарушение им Правил дорожного движения?**

1. Не имеют.
2. Имеют.

Зак.5 **Лицо, привлекаемое к административной ответственности за нарушение Правил дорожного движения, имеет право:**

1. Только знакомиться с материалами дела.
2. Только давать объяснения и предоставлять доказательства.
3. Только представлять ходатайства.
4. На все перечисленное выше.
5. Только на перечисленные в ответах 2 и 3 действия.

За какое повторное нарушение водителем Правил по решению суда может быть изъято транспортное средство?

1. Только за управление незарегистрированным транспортным средством или без номерных знаков.
2. Только за управление в состоянии опьянения.
3. Только за нарушение установленного порядка установки и использования на транспортных средствах специальных световых и звуковых сигнальных устройств.
4. За любое перечисленное нарушение.
5. За нарушения, перечисленные в ответах 1 и 2.

На какой максимальный срок может быть осуществлено административное задержание лица, совершившего административное правонарушение?

1. 3 часа.
2. 6 часов.
3. 48 часов.
4. 72 часа.

Может ли полицейский проводить осмотр на состояние опьянения на месте остановки транспортного средства?

1. Может в любом случае.
2. Может только в присутствии врача.
3. Может только в населенных пунктах.
4. Может только в присутствии двух свидетелей.
5. Не может.

Зак.6 **Какая мера может быть применена к водителю за нарушение Правил, повлекшее причинение потерпевшему телесных повреждений средней тяжести?**

1. Только штраф.
2. Только исправительные работы или арест.
3. Только ограничение свободы с лишением права управления транспортными средствами или без такового.
4. Одна из перечисленных мер с учетом обстоятельств происшествия.

Какое наказание может быть применено к водителю, допустившему нарушение Правил, вследствие которого наступила смерть потерпевшего или ему причинены тяжкие телесные повреждения?

1. Штраф.
2. Лишение свободы от 3 до 8 лет.
3. Лишение права управления транспортными средствами.
4. Административный арест.

Вопрос подобного содержания может быть поставлен вам на теоретическом экзамене в сервисном центре МВД Украины.

Какое наказание может быть применено к водителю, допустившему нарушение Правил, вследствие которого наступила смерть нескольких потерпевших?

1. Лишение права управления транспортными средствами.
2. Лишение свободы от 5 до 10 лет.
3. Административный арест.
4. Штраф.

Уголовная ответственность за нарушение Правил, повлекшее дорожно-транспортное происшествие, вследствие чего причинены телесные повреждения средней тяжести или наступила смерть потерпевшего, наступает:

1. Только при его совершении на автомагистрали.
2. Только при его совершении на автомобильной дороге государственного значения.
3. Только при его совершении на улице населенного пункта.
4. При его совершении в любом месте.

Водитель, причастный к дорожно-транспортному происшествию, скрывшийся с места его совершения и не оказавший помощи потерпевшему, может быть обвинен:

1. Только в совершении дорожно-транспортного происшествия.
2. Только в оставлении потерпевшего в опасном для жизни состоянии.
3. По совокупности двух содеянных преступлений.

Во время административного задержания, личного досмотра или досмотра вещей полицейские имеют право:

1. Изымать только те вещи и документы, являющиеся орудием или непосредственным объектом правонарушения.
2. Изымать любые вещи и документы.
3. Изымать только вещи, которые являются орудием или непосредственным объектом правонарушения.

К водителю, причастного к ДТП и покинувшего место его совершения, может быть применена мера:

1. В виде штрафа.
2. В виде общественных работ.
3. В виде административного ареста.
4. Одна из указанных выше.

Какая мера может быть применена к водителю за невыполнение им требования полицейского об остановке транспортного средства?

1. Только штраф.
2. Только лишение права управления транспортными средствами.
3. Только общественные работы.
4. Одна из вышеперечисленных мер.
5. Одна из перечисленных в ответах 1 и 2.

Какая мера может быть применена к водителю за управление транспортным средством в состоянии опьянения?

1. Штраф с лишением права управления транспортными средствами.
2. Штраф с возмездным изъятием транспортного средства.
3. Общественные работы.
4. Административный арест.
5. Одна из перечисленных выше, в зависимости от повторяемости нарушения.

Какая мера может быть применена к водителю за выезд транспортного средства на железнодорожный переезд, когда движение через него запрещено?

1. Только штраф с оплатным изъятием транспортного средства или без такового.
2. Только лишение права управления транспортными средствами с оплатным изъятием транспортного средства или без такового.
3. Только административный арест с оплатным изъятием транспортного средства или без такового.
4. Одна из перечисленных выше.

Какая мера может быть применена к водителю за передачу управления транспортным средством лицу, находящемуся в состоянии опьянения?

1. Штраф с лишением права управления транспортными средствами.
2. Административный арест с возмездным изъятием транспортного средства.
3. Уголовная ответственность с лишением права управления транспортными средствами.
4. Одна из перечисленных выше.

Какая мера может быть применена к водителю за уклонение от прохождения в установленном порядке освидетельствования на состояние опьянения?

1. Административный арест с возмездным изъятием транспортного средства.
2. Уголовная ответственность с лишением права управления транспортными средствами.
3. Штраф с лишением права управления транспортными средствами.
4. Одна из перечисленных выше.

Вопрос подобного содержания может быть поставлен вам на теоретическом экзамене в сервисном центре МВД Украины.

Зак.21 В случае совершения ДТП, в котором есть потерпевшие, и доставки водителя в лечебное заведение с целью выявления в организме алкоголя, наркотических и других препаратов, снижающих внимание и скорость реакции, проводится осмотр:

1. Только по требованию полицейского.
2. Только по требованию участников происшествия.
3. Только в случае необходимости.
4. В обязательном порядке.
5. Не проводятся.

В случае отказа водителя транспортного средства от проведения осмотра в медицинском учреждении полицейский:

1. В присутствии двух свидетелей составляет протокол об административном правонарушении.
2. В присутствии двух свидетелей выполняет административное задержание.
3. В принудительном порядке доставляет водителя в специализированное медицинское учреждение.
4. Предоставляет возможность водителю пройти осмотр в течение двух часов в специализированном медицинском учреждении.

Лица, которые управляют транспортными средствами, в отношении которых имеются достаточные основания полагать, что они находятся в состоянии алкогольного или иного опьянения:

1. Подлежат только отстранению от управления этими транспортными средствами.
2. Подлежат только освидетельствованию на состояние опьянения.
3. Подлежат отстранению от управления этими транспортными средствами и проведению освидетельствования на состояние опьянения.

Зак.24 За нарушение Правил, повлекшее повреждение транспортных средств, грузов, автомобильных дорог, улиц, железнодорожных переездов, дорожных сооружений или иного имущества, к водителю может быть применена мера в виде:

1. Только штрафа.
2. Только лишения права управления транспортных средств.
3. Только общественных работ.
4. Одна из вышеперечисленных мер.
5. Одна из перечисленных в ответах 1 и 2.

За управление транспортным средством лицом, не имеющим права управления таким транспортным средством, или за передачу управления лицу, не имеющему права управлять таким транспортным средством, к водителю может быть применена мера в виде:

1. Только штрафа.
2. Только штрафа с оплатным изъятием транспортного средства у его владельца.
3. Только общественных работ.
4. Одной из перечисленных выше.
5. Одной из мер, перечисленных в ответах 1 и 2.

За управление транспортным средством лицом, лишенным права управления, к нему может быть применена мера в виде:

1. Только штрафа.
2. Только штрафа с оплатным изъятием транспортного средства у его владельца.
3. Только административного ареста.
4. Только общественных работ.
5. Одной из мер, перечисленных в ответах 1 и 2.

В какой орган можно обжаловать административное задержание, проведение личного осмотра, досмотра вещей или их изъятие, в том числе документов и, в частности, удостоверения водителя?

1. Только в суд.
2. Только в вышестоящий орган (должностному лицу) касательно органа, который применил эти меры.
3. В любой орган, перечисленный в ответах.

За непредоставление преимущества в движении оперативным транспортным средствам, движущимся со специальными световыми или звуковыми сигналами, к водителю может быть применена мера в виде:

1. Только штрафа.
2. Только лишение права управления транспортными средствами.
3. Только общественные работы.
4. Одна из перечисленных выше.

Зак.29 За создание аварийной обстановки вследствие нарушения Правил дорожного движения меру наказания определяет:

1. Полицейский.
2. Суд.

В случае проведения полицейским личного осмотра или досмотра вещей результаты такого осмотра должны быть официально зафиксированы:

1. Только в протоколе осмотра.
2. Только отдельной записью в протоколе об административном правонарушении или административном задержании.
3. Любым из перечисленных образом.

Вопрос подобного содержания может быть поставлен вам на теоретическом экзамене в сервисном центре МВД Украины.

38. Европротокол

При каком обязательном условии водители застрахованных транспортных средств — участники ДТП могут составить общее сообщение о дорожно-транспортном происшествии (Европротокол)?

1. Взаимное согласие с обстоятельствами совершения ДТП.
2. Наличие двух свидетелей ДТП.
3. Водители ранее не были виновниками ДТП.
4. Один из водителей не использовал бланк Европротокола.

Кто должен составлять совместное сообщение о дорожно-транспортном происшествии (Европротокол)?

1. Полицейские.
2. Водитель ТС, который по взаимному согласию считается виновным в совершении ДТП.
3. Водители ТС, являющихся участниками ДТП.
4. Любой из перечисленных лиц.

Предусмотрена ли законодательством возможность составления совместного сообщение о дорожно-транспортном происшествии (Европротокола) одним из ее участников, если другой не согласен с обстоятельствами совершения ДТП?

1. Да.
2. Да, при наличии свидетелей ДТП.
3. Не предусмотрена.

Предусмотрена ли законодательством возможность составления совместного сообщения о дорожно-транспортном происшествии (Европротокола), если у одного из ее участников есть признаки алкогольного, наркотического или иного опьянения?

1. Да.
2. Да, при условии согласия другого участника ДТП.
3. Не предусмотрена.

Обусловлен ли законодательством размер ущерба в случае ДТП, при котором можно составить совместное сообщение (Европротокол)?

1. Да.
2. Нет, составлять можно при любом материальном ущербе.

Сведения о каком из водителей — участнике ДТП указываются в пункте «Транспортное средство А» при составлении совместного сообщения о дорожно-транспортном происшествии (Европротокола)?

1. Водителе ТС, который считается виновным в совершении ДТП.
2. Водителе ТС, который считается пострадавшим в ДТП.
3. Любом из водителей.

Если в случае дорожно-транспортного происшествия причинен вред жизни или здоровью кому-то из его участников, предусмотрена ли законодательством возможность составления общего сообщения о дорожно-транспортном происшествии (Европротокола)?

1. Да.
2. Да, при условии получения незначительных повреждений.
3. Не предусмотрена только в случае тяжелых повреждений или погибших.
4. Не предусмотрена.

Предусмотрена ли законодательством возможность составления совместного сообщения о ДТП (Европротокола), если участниками дорожно-транспортного происшествия является более двух транспортных средств?

1. Да.
2. Нет.
3. Да, при условии, что участниками ДТП являются не более 5 ТС.

При каком из перечисленных условий в случае дорожно-транспортного происшествия может быть составлено совместное сообщение о ДТП (Европротокол)?

1. Один из водителей — участников ДТП имеет действующий полис обязательного страхования гражданско-правовой ответственности.
2. Оба водителя — участника ДТП имеют действующие полисы обязательного страхования гражданско-правовой ответственности.
3. Водители имеют действующие полисы обязательного страхования гражданско-правовой ответственности или льготы по страхованию.
4. Выполняется любое из перечисленных выше условий.

Предусмотрена ли законодательством возможность составления совместного сообщения о ДТП (Европротокола), если в случае дорожно-транспортного происшествия причинен вред имуществу (не транспортному средству)?

1. Да.
2. Нет.
3. Да, при условии, что это имущество застраховано.

Вопрос подобного содержания может быть поставлен вам на теоретическом экзамене в сервисном центре МВД Украины.

39. Этика и психофизиология водителя

Если ночью водитель встречного транспортного средства не переключает дальний свет на ближний, то следует:

1. Тоже включить дальний свет фар.
2. Включить ближний свет фар и перевести взгляд на правый край полосы движения.

При приближении к вершине подъема в темное время суток переключать дальний свет фар на ближний рекомендуется:



1. Только когда вы увидите фары встречного транспортного средства.
2. Немного раньше, чем вы увидите фары встречного транспортного средства.

Если вы пытаетесь начать обгон, а водитель грузового автомобиля включил на несколько миганий такой сигнал, что это значит?

1. Он также хочет начать обгон.
2. Он, нарушая Правила, препятствует вашему маневру.
3. Выполнять обгон опасно — впереди есть встречный транспорт, который вы не видите.

Объезжать транспортное средство, которое внезапно остановилось впереди вас на проезжей части:

1. Разрешается только слева.
2. Разрешается только дело.
3. Запрещается.

Кратковременное включение стоп-сигналов несколько раз подряд впереди движущегося транспортного средства информирует вас о:

1. Намерении остановиться.
2. Необходимости увеличения дистанции.
3. Чем-либо из вышеперечисленного.

Двигаясь в плотном транспортном потоке, вы:



1. Продолжите движение, не меняя скорости и дистанции до желтого автомобиля.
2. Остановитесь, чтобы дать возможность водителю синего автомобиля выехать со двора и влиться в транспортный поток.

Водитель грузового автомобиля может проинформировать вас об отсутствии опасности для обгона кратковременным включением указателя:



1. Левого поворота.
2. Правого поворота.

Выполняя обгон, водитель легкового автомобиля может включить дальний свет фар, если:

1. Он приблизится к задней части грузового автомобиля.
2. Поравняется с грузовым автомобилем.
3. Опередит грузовой автомобиль и начнет перестроение вправо.

Остановиться с включенным дальним светом фар на обочине вне населенного пункта:

1. Разрешается на время не более 5 минут.
2. Запрещается.

При сужении дороги в условиях интенсивного транспортного потока:

1. Первыми проезжают водители, на полосе которых отсутствует препятствие.
2. Водители поочередно проезжают узкий участок дороги.

Вопрос подобного содержания может быть поставлен вам на теоретическом экзамене в сервисном центре МВД Украины.

Водителю грузового автомобиля следует переключиться на ближний свет фар как только водитель легкового автомобиля:

1. Начнет выполнение обгона.
2. Включит дальний свет фар.
3. Начнет перестраиваться на правую полосу движения.

Водитель которого транспортного средства нарушает Правила во время остановки?

1. Легкового автомобиля с включенным ближним светом фар.
2. Микроавтобуса с включенными габаритными огнями.
3. Обоих транспортных средств.

Переводить зеркало заднего вида в верхнее положение при движении в темное время суток целесообразно:

1. Вне населенного пункта.
2. В населенном пункте.

Во время разъезда со встречными транспортными средствами в темное время суток траекторию движения следует контролировать:

1. По правому краю проезжей части.
2. По линии дорожной разметки, разделяющей транспортные потоки.

Агрессивный стиль вождения характеризуется:

1. Только резким стартом и резким торможением.
2. Только резким входом в поворот.
3. Только частыми перестроениями с полосы в полосу;
4. Всеми вышеперечисленными признаками.

Уменьшение горизонтального угла зрения водителя с 160—180° до 50° происходит при скорости:

1. 20 км/ч.
2. 50 км/ч.
3. 100 км/ч.

При выборе оптимальной схемы управления транспортным средством водитель оценивает положение, скорость, направление движения и их изменения благодаря:

1. Только органам слуха.
2. Только органам зрения.
3. Только чувству равновесия.
4. Всего вышеперечисленного.
5. Органам зрения и слуха.

Адаптацию поля зрения водитель должен учитывать при:

1. Въезде в тоннель.
2. Выезде из тоннеля.
3. Встречном разъезде в темное время суток.
4. Всех вышеперечисленных случаев.
5. Случаях, перечисленных в ответах 1 и 3.

При увеличении скорости движения водитель должен направлять свой взгляд:

1. Под меньшим углом дороги (дальше своего транспортного средства).
2. Под большим углом к дороге (ближе к своему транспортному средству).

Мастерство водителя состоит:

1. Только с умения получить и правильно обработать полученную всеми органами чувств информацию.
2. Только со способности быстро разработать план действий на основе информации о дорожной ситуации.
3. Только из принятия безошибочного решения и безупречного его исполнения.
4. Из всего вышеперечисленного.

Вопрос подобного содержания может быть поставлен вам на теоретическом экзамене в сервисном центре МВД Украины.

40. Основы устройства транспортного средства

Буд.1

Внешними признаками неисправности рулевого управления автомобиля являются:

1. Только шум в усилителе рулевого управления.
2. Только тугое вращение рулевого колеса.
3. Только подтекание рабочей жидкости.
4. Все вышеперечисленные признаки.

О неисправности рулевого управления автомобиля свидетельствует:

1. Только стук в рулевом управлении.
2. Только биение на рулевом колесе.
3. Только увеличенный люфт рулевого колеса.
4. Все вышеперечисленные признаки.

Буд.3

Что может быть причиной слишком большого люфта рулевого колеса?

1. Срабатывание шарнира наконечника рулевой тяги.
2. Слишком высокое давление воздуха в шинах передних колес.
3. Любая вышеперечисленная причина.

Причиной тугого вращения руля автомобиля может быть:

1. Только неисправность рулевого механизма.
2. Только неисправность усилителя рулевого управления.
3. Только нарушение угла установки колес.
4. Все вышеперечисленные признаки.

Буд.5

Причиной вибрации руля автомобиля может быть:

1. Разбалансированность колес.
2. Повреждение передней подвески.
3. Неисправность амортизатора.
4. Любая причина, указанная в ответах 1 и 2.

Увод транспортного средства в сторону во время прямолинейного движения может быть связан с:

1. Неправильным выставлением углов развала-схождения колес.
2. Деформацией рычагов подвески.
3. Неисправностью амортизатора передней подвески.
4. С любой вышеперечисленной неисправностью.

Буд.7

Причиной раскачивания автомобиля при повороте или торможении может быть:

1. Только неисправность амортизатора.
2. Только срабатывание втулок или повреждения стабилизатора поперечной устойчивости.
3. Любая из вышеперечисленных причин.

Что может быть причиной отказа в работе звукового сигнала?

1. Перегорание предохранителя.
2. Неисправность устройства включения звукового сигнала.
3. Отсутствие контакта в местах подключения.
4. Повреждение (обрыв) электрического соединения.
5. Любая из вышеперечисленных причин.

Буд.9

К каким последствиям может привести использование неисправных стеклоочистителей?

1. Ухудшение видимости.
2. Нанесение повреждений лобовому стеклу.
3. Любых из последствий, перечисленных выше.

Какие последствия может повлечь утечка газов через трещины выхлопной трубы?

1. Повредить транспортные средства, движущиеся по соседним полосам.
2. Отравление водителя и пассажиров из-за проникновения отработанных газов в салон автомобиля.
3. Перегрев пола кузова.
4. Перегрев двигателя.

Вопрос подобного содержания может быть поставлен вам на теоретическом экзамене в сервисном центре МВД Украины.

Неравномерный износ шин возникает из-за:

1. Только деформации рычага подвески.
2. Только неправильно выставленных углов установки передних колес.
3. Только износа резинометаллических элементов крепления подвески.
4. Любой перечисленной выше причины.

Что свидетельствует о перегреве тормозов?

1. Уменьшение тяги двигателя.
2. Уменьшение силы торможения и появление запаха гари.
3. Включение лампочки давления масла.
4. Наличие всех перечисленных факторов.

Включение красной лампочки с символом восклицательного знака на панели приборов предупреждает вас о:

1. Поднятии рычага стояночного тормоза.
2. Утечке тормозной жидкости из системы.
3. Чрезмерном износе тормозных колодок.
4. Одной из вышеперечисленных причин.

Как вы можете убедиться в исправности гидравлической системы торможения?

1. Нажать на тормозную педаль и убедиться, что она не «проваливается».
2. Проверить уровень тормозной жидкости в бачке расширения.
3. На автомобиле с антиблокировочной системой (ABS) тормозов почувствовать «битье» от тормозной педали при ее нажатии.
4. Выполняя все перечисленные действия.

Какие меры вы должны принять в случае перегрева тормозов?

1. Только продолжить движение с небольшой скоростью, применяя торможение ручным тормозом.
2. Только проехать через лужу, чтобы вода охладила тормозные колодки.
3. Только остановиться и подождать, пока остынут тормоза.
4. Выполнить любое из перечисленных выше действий.

Какие признаки информируют вас о необходимости замены тормозных колодок?

1. Только характерный писк при торможении.
2. Только снижение уровня тормозной жидкости при отсутствии ее подтекания.
3. Только наличие трещин и повреждений тормозных колодок.
4. Все вышеперечисленные признаки.

Стояночный (ручной) тормоз легкового автомобиля можно считать исправным, если при его включении он начинает срабатывать:

1. Сразу же с включением.
2. Через несколько «щелчков» после его включения.
3. В конце хода рычага включения тормоза.

В случае обнаружения неисправности тормозной системы, когда невозможно остановить транспортное средство даже двигаясь с минимальной скоростью, вы должны:

1. Снизить скорость движения и использовать антиблокировочную систему (ABS).
2. Снизить скорость движения, приспособиться к ситуации и доехать до места стоянки или ремонта.
3. Немедленно остановиться и отбуксировать транспортное средство к месту ремонта или стоянки.

Антиблокировочная система (ABS) считается исправной, если во время экстренного торможения тормозная педаль:

1. Трудно нажимается и удерживается в нажатом положении.
2. Мягко нажимается до определенного положения, а затем фиксируется.
3. После нажатия начинает периодически «отбивать» в подошву ноги.

Признаком неисправности электронной системы контроля устойчивости (ESP) являются:

1. Растущий расход горючего двигателем.
2. Блокировка колес во время торможения.
3. Увеличение количества вредных веществ в отработанных газах.
4. Скольжение транспортного средства на скользкой дороге.

Вопрос подобного содержания может быть поставлен вам на теоретическом экзамене в сервисном центре МВД Украины.

Буд.21 **Антипробуксовочная система (ASR) автомобиля исправна, если:**

1. Во время резкого начала движения ведущие колеса пробуксовывают равномерно, но автомобиль не заносит.
2. При резком начале движения выключается двигатель автомобиля.
3. Во время начала движения ведущие колеса не пробуксовывают, на скользком участке дороги уменьшается или отсутствует занос.
4. Выполняется любое из условий.

Вы должны обязательно проверить исправность и эффективность работы тормозов:

1. Только после замены масла двигателя.
2. Только в случае управления чужим автомобилем.
3. Только после длительной стоянки транспортного средства.
4. В случаях, перечисленных в ответах 2 и 3.

Наличие мокрых подтеков на диске колеса информирует водителя о:

1. Необходимости проверки герметичности тормозной системы.
2. Вытекании воды из системы кондиционирования.
3. Испарении воды от нагретых тормозных колодок.

Если для торможения необходимо несколько раз нажимать на педаль тормоза, вы должны:

1. Немедленно остановить транспортное средство, проверить герметичность тормозной системы и решить, как можно безопасно доставить транспортное средство к месту стоянки или ремонта.
2. Долить тормозной жидкости в расширительный бачок и продолжить движение с низкой скоростью.
3. Учитывая это обстоятельство, дальше двигаться с особой осторожностью.

Буд.25 **Следствием увода автомобиля в одну сторону при торможении может стать:**

1. Более короткий тормозной путь.
2. Выход из строя антиблокировочной системы.
3. Боковой занос транспортного средства.

Какие меры вы должны принять, если замок ремня безопасности перестал замыкаться?

1. Если автомобиль оборудован подушками безопасности, отремонтировать его во время ближайшего технического осмотра.
2. Использовать и в дальнейшем автомобиль, но стараться выбирать небольшую скорость.
3. Как можно быстрее отремонтировать замок или заменить его.

Буд.27 **Визуально или с помощью приборов проверять давление воздуха в шинах необходимо:**

1. Только во время проведения периодического технического обслуживания транспортного средства.
2. Только при их замене.
3. Каждый раз через 10—15 минут после начала движения или после проезда 10—15 км.
4. Каждый раз перед началом поездки.

До какого давления следует накачивать запасное колесо транспортного средства?

1. До любого, поскольку это не имеет значения.
2. До среднего давления всех колес транспортного средства.
3. Достаточно до минимального, чтобы удостовериться в герметичности шины.
4. До давления, рекомендованного заводом-изготовителем.

Эксплуатируя транспортное средство, вы должны учитывать, что давление в шинах должно быть таким, каким его:

1. Указал производитель на боковой части шины.
2. Рекомендуют работники автосервиса, которые занимаются ремонтом шин.
3. Определил производитель транспортного средства.

Какое из действий наиболее целесообразно вам сделать для обеспечения безопасности движения после замены колеса?

1. Через 50 км проверить температуру шины.
2. Слегка ударить ногой по шине, чтобы проверить надежность закрепления колеса.
3. Опустив транспортное средство с домкрата до момента, когда нельзя повернуть колесо, дозатянуть болты (гайки) крепления.

Вопрос подобного содержания может быть поставлен вам на теоретическом экзамене в сервисном центре МВД Украины.

Вы должны учитывать, что слишком низкое давление в одном из передних колес автомобиля создает повышенную опасность возвращения автомобиля в сторону колеса с:

1. Более низким давлением.
2. Более высоким давлением.

Что вы должны регулярно проверять в шинах вашего автомобиля?

1. Только давление воздуха в шинах.
2. Только остаточную высоту протектора шин.
3. Только отсутствие внешних повреждений шин.
4. Все вышеперечисленное.

Какие последствия могут наступить вследствие слишком высокого или слишком низкого давления в шинах управляемого вами автомобиля?

1. Только увеличится износ шин.
2. Только ухудшатся ходовые характеристики.
3. Все вышеперечисленное.

Причиной значительного износа протектора шин может быть:

1. Неправильная регулировка схождения колес.
2. Использование летом зимних шин.
3. Неправильная балансировка шин.
4. Все перечисленное в ответах.

Что необходимо проверить, если перестала гореть одна фара?

1. Электрическое напряжение аккумулятора.
2. Исправность рычага, который включает свет фар.
3. Исправность лампочки и соответствующего предохранителя.
4. Целостность линзы фары.

Движение с разбитой линзой передней фары может привести к:

1. Разряду аккумулятора.
2. Расфокусировки пучка света фары и ослепления водителей встречных транспортных средств.
3. Больших затрат электроэнергии на работу лампы.

Причиной неисправности в работе стоп-сигналов может быть:

1. Перегорание лампы.
2. Перегорание предохранителя.
3. Отсутствие контакта между цоколем лампы и местом ее установки.
4. Одна из причин, указанных выше.

Чаще, чем обычно, мигание указателя поворота на приборной панели информирует вас о:

1. Неисправности переключателя поворотов.
2. Неисправности лампы фонаря поворота.
3. Одной из причин, указанных выше.

Буд.39 **Причиной невключения стоп-сигналов при нажатии на тормозную педаль может быть:**

1. Неисправность выключателя стоп-сигналов.
2. Перегорание ламп.
3. Слишком малый свободный ход тормозной педали.
4. Одна из причин, указанных в ответах 1 и 2.

Буд.40 **Как действовать водителю в случае увеличения силы звука выхлопа во время движения транспортного средства?**

1. Заменить воздушный фильтр двигателя.
2. Изменить режим движения, чаще используя холостые обороты двигателя.
3. Проверить исправность и целостность системы отработанных газов.

Вопрос подобного содержания может быть поставлен вам на теоретическом экзамене в сервисном центре МВД Украины.

Буд.41 **При какой среднесуточной температуре окружающей среды рекомендуется производить замену шин автомобиля с летних на зимние или наоборот?**

1. Около 0 ° С.
2. +5 — +7 °С.
3. +10 — +12 °С.

Буд.42 **Для того, чтобы облегчить аккумулятору запуск двигателя в холодное время года следует:**

1. Включать стартер не более чем на 1 мин.
2. Включить на 30 с свет фар и через 1—2 мин включать стартер.
3. Включать стартер при включенном свете фар.

Буд.43 **Можно ли доливать в бак бензин с другим (большим или меньшим) октановым числом?**

1. Да.
2. Нет.

Буд.44 **В емкость с какой пиктограммой заливают жидкость для омывания стекол автомобиля?**

1 2 3

Буд.45 **Уровень масла в двигателе проверяют:**

1. На холодном двигателе.
2. При заведенном двигателе.
3. Через несколько минут после прогрева и выключения двигателя.

Буд.46 **В емкость с какой пиктограммой заливают масло в двигатель автомобиля?**

1 2 3

Буд.47 **Если двигатель автомобиля с автоматической коробкой передач был выключен при положении селектора «D», то для его запуска нужно:**

1. Нажать на педаль тормоза и запустить двигатель.
2. При нажатой педали тормоза перевести селектор в положение «Р» и запустить двигатель.
3. Включить ручной тормоз и запустить двигатель.

Буд.48 **В емкость с какой пиктограммой заливают жидкость для охлаждения двигателя автомобиля?**

1 2 3

На панели приборов кнопкой с какой пиктограммой включается аварийная световая сигнализация?



1 2 3 4 5

О чем свидетельствует такой сигнал на панели приборов автомобиля?

или

1. Превышена температура охлаждающей жидкости в двигателе.
2. Не пристегнут ремень безопасности.
3. Необходимо долить масло в двигатель.
4. Включен ручной (стояночный) тормоз.

Вопрос подобного содержания может быть поставлен вам на теоретическом экзамене в сервисном центре МВД Украины.

41. Работа и отдых водителя транспортного средства

В рабочее время водителя включается время:

1. Простоев в пунктах погрузки и разгрузки.
2. Проведение медицинских осмотров водителя перед выездом на маршрут и после возвращения из него.
3. Проведение работ по устранению технических неисправностей транспортного средства на маршруте.
4. Все перечисленное выше.
5. Только указанное в ответах 1 и 3.

Нормальная продолжительность рабочего времени водителей не должна превышать:

1. 36 часов в неделю.
2. 40 часов в неделю.
3. 41 час в неделю.
4. 42 часа в неделю.

Продолжительность работы (смены) водителя в ночное время сокращается на:

1. 30 минут.
2. 45 минут.
3. 60 минут.

Продолжительность управления водителя в неделю, включая сверхурочные работы, не должна превышать:

1. 42 часа в неделю.
2. 45 часов в неделю.
3. 48 часов в неделю.
4. 52 часа в неделю.

После управления в течение четырех часов водитель должен сделать перерыв для отдыха и питания продолжительностью не менее:

1. 15 минут.
2. 30 минут.
3. 45 минут.
4. 1 час.

Водитель должен сделать перерыв для отдыха и питания после непрерывного управления в течение:

1. 2 часа.
2. 3 часа.
3. 4 часа.
4. 8 часов.

Продолжительность ежедневного отдыха водителя должна быть не менее чем:

1. 8 часов.
2. 10 часов.
3. 12 часов.

Продолжительность еженедельного отдыха водителя должна быть не менее чем:

1. 24 часов.
2. 36 часов.
3. 45 часов.
4. 48 часов.

В случае выполнения двусторонней или транзитной перевозки через территорию стран ЕС максимальное время управления водителем не должно превышать:

1. 42 часа в неделю.
2. 45 часов в неделю.
3. 48 час в неделю.
4. 56 часов в неделю.

В случае выполнения двусторонней или транзитной перевозки через территорию стран ЕС максимальное время непрерывного управления водителем не должно превышать:

1. 3 часа.
2. 4,5 часа.
3. 6 часов.
4. 9 часов.

* Вопрос подобного содержания может быть поставлен вам на теоретическом экзамене в сервисном центре МВД Украины.

42. Эксплуатация транспортного средства и его влияние на окружающую среду

Ек.1

Если при плавном режиме управления автомобилем с дизельным двигателем идет черный дым, то следует проверить:

1. Исправность топливного насоса.
2. Загрязнение воздушного фильтра.
3. Попадание воздуха в топливную систему.
4. Все вышеперечисленное.

Неисправность и неправильная регулировка карбюраторного двигателя может увеличить выбросы окиси азота в:

1. Полтора-два раза.
2. Четыре-шесть раз.
3. Восемь-десять раз.

Ек.2

Неисправность и неправильная регулировка дизельного двигателя может увеличить выбросы сажи в окружающую среду:

1. Два раза.
2. Четыре раза.
3. Десять раз.
4. Двадцать раз.

Максимальное сохранение окружающей среды и экономия топлива при остановке на запрещающий сигнал перед железнодорожным переездом достигается при:

1. Выключении двигателя.
2. Включении нейтральной передачи.

Ек.5

Снижение давления в шинах автомобиля:

1. Увеличивает расход топлива.
2. Увеличивает износ шин.
3. Способствует уменьшению выбросов вредных веществ.
4. Приводит к изложенному в ответах 1 и 2.

Для экономии топлива и уменьшения уровня загрязнения окружающей среды следует выключать двигатель:

1. Только во время остановки в пробке.
2. Только при остановке перед железнодорожным переездом для пропуска поезда.
3. Только во время остановки на запрещающий сигнал светофора
4. Во всех перечисленных случаях.
5. Во всех перечисленных случаях и при остановке перед знаком «Проезд без остановки запрещен».

Заправляя автомобиль топливом:

1. Следует закончить заправку как только заправочный пистолет отключился.
2. Желательно заправлять автомобиль по возможности до максимума.

Переключать передачи автомобиля с механической коробкой передач на более высокую передачу следует:

1. Как можно раньше.
2. Как можно позже.
3. На оборотах чуть выше средних.

Ек.9

Вредное шумовое воздействие во время движения автомобиля возникает в результате движения автомобиля:

1. На низких оборотах двигателя.
2. С неисправным глушителем.
3. С резким ускорением.
4. Во всех перечисленных случаях.

Движение с постоянной низкой скоростью:

1. Увеличивает уровень выбросов вредных веществ.
2. Уменьшает уровень выбросов вредных веществ.
3. Не влияет на уровень выбросов вредных веществ.

Вопрос подобного содержания может быть поставлен вам на теоретическом экзамене в сервисном центре МВД Украины.

О сильном износе двигателя или его неправильной регулировке свидетельствует:

1. Сильный темный дым.
2. Утечка конденсата из глушителя.
3. Оба перечисленные факторы.

Увеличение расхода топлива при движении в часы «пик» в населенном пункте обусловлено:

1. Необходимостью чаще тормозить.
2. Необходимостью чаще разгоняться.
3. Обеими факторами, перечисленными выше.

Начало движения с холодным двигателем:

1. Позволяет экономить топливо.
2. Увеличивает уровень вредных выбросов.

Постоянное движение с высокой скоростью:

1. Увеличивает выбросы оксида азота.
2. Уменьшает выбросы оксида азота.

Резкое начало движения автомобиля:

1. Отвлекает внимание других водителей.
2. Значительно нагружает тормоза задних колес.
3. Вызывает повышенный расход топлива и увеличение вредных выбросов.
4. Правильный ответ изложен в п. 2 и 3.

Каким образом, прогревая холодный двигатель, уменьшают количество вредных выбросов в атмосферу?

1. Прогревают двигатель на нейтральной передаче без нажатия на педаль подачи топлива.
2. Не дожидаясь прогрева до заданной температуры, начинают движение с низким числом оборотов двигателя.
3. Периодически нажимают на педаль подачи топлива для быстрого прогрева двигателя до установленной температуры.

Продлить срок службы шин автомобиля можно:

1. Поддерживая давление в шинах в соответствии с требованиями инструкции по эксплуатации.
2. Эксплуатируя автомобиль летом с зимними шинами.

Расходы топлива легкового автомобиля увеличиваются из-за:

1. Установленного на крыше багажника.
2. Ненужных предметов в багажном отделении и салоне автомобиля.
3. Повышенного давления в шинах автомобиля.
4. Факторов, указанных в ответах 1 и 2.

Экономия топлива достигается:

1. Соблюдением давления в шинах в соответствии с инструкцией по эксплуатации.
2. Снятием багажника с крыши автомобиля.
3. Обоими вышеперечисленными действиями.

В легковом автомобиле с гибридным двигателем:

1. Расходы топлива меньше по сравнению с обычным автомобилем.
2. Расход топлива больше по сравнению с обычным автомобилем из-за наличия второго двигателя.
3. Меньший срок эксплуатации шин из-за наличия второго двигателя.

Вопрос подобного содержания может быть поставлен вам на теоретическом экзамене в сервисном центре МВД Украины.

Ек-21 **Умеренное управление автомобилем и соблюдения давления в шинах в соответствии с требованиями инструкции по эксплуатации способствуют увеличению:**

1. Расхода топлива.
2. Расхода масла двигателем.
3. Срока эксплуатации шин.

Ек-22 **Слишком низкое давление воздуха в шинах приводит к:**

1. Уменьшению расхода топлива.
2. Быстрому износу тормозных механизмов.
3. Перегреву шин.

Ек-23 **Слишком низкое давление воздуха в шинах:**

1. Облегчает вращать руль автомобиля.
2. Уменьшает шум во время движения автомобиля.
3. Увеличивает расход топлива и повышает загрязнение окружающей среды.

Для уменьшения расхода топлива следует:

1. Как можно чаще применять ускорение автомобиля.
2. Использовать топливо с более низким октановым числом.
3. Выбирать передачу в соответствии с дорожными условиями и избегать сильного ускорения.
4. Двигаться только на низкой передаче.

Ек-25 **В каком ответе наиболее правильно указан перечень действий, способствующих экономии топлива?**

1. Двигаться с наиболее высокой возможной скоростью и уменьшить лишний вес автомобиля.
2. Двигаться с самой низкой возможной скоростью и уменьшить лишний вес автомобиля.
3. Управлять автомобилем сдержанно, в пределах разрешенной скорости, следить за давлением воздуха в шинах.

Слишком низкое давление воздуха в шинах способствует:

1. Ускоренному износу шин и ослаблению устойчивости транспортного средства.
2. Только повышенному шуму при движении на большой скорости.
3. Только быстрому износу коробки передач.
4. Повышенному износу рулевого колеса.

Слишком высокое давление воздуха в шинах:

1. Способствует увеличению срока эксплуатации шин.
2. Способствует неравномерному износу шин.
3. Способствует быстрому износу рулевого механизма.
4. Требует приложения повышенных усилий для поворота руля.

Ек-28 **Наиболее экономный расход топлива достигается при движении при:**

1. Включенной низкой передаче и скорости движения свыше 90 км/ч.
2. Включенной передаче на спусках.
3. Передаче, включенной в соответствии с дорожными условиями и умеренной скорости до 90 км/ч.

Ек-29 **Заезжая на закрытую стоянку, следует учитывать то, что:**

1. Двигатель должен работать после остановки транспортного средства не менее 20 мин для выравнивания давления масла в системе смазки.
2. Запрещается стоять с работающим двигателем более 30 мин.
3. Не разрешается стоять с работающим двигателем.

Ек-30 **С учетом выпуска отработанных газов автомобиля заезжать в закрытый бокс для стоянки более безопасно:**

1. Задним ходом.
2. Передним ходом.

Вопрос подобного содержания может быть поставлен вам на теоретическом экзамене в сервисном центре МВД Украины.

От авторов

СОВЕТЫ ТЕМ, КТО БУДЕТ СДАВАТЬ ЭКЗАМЕН В СЕРВИСНОМ ЦЕНТРЕ МВД УКРАИНЫ

- Зная Правила (пусть даже не в совершенстве), вам вполне достаточно будет одной минуты на решение задания. В реальной жизни вам придется принимать решения значительно быстрее;
- знакомясь с билетом, прежде всего, внимательно вчитайтесь в вопрос. Обращайте внимание на такие уточняющие моменты, как «правильно» — «неправильно», «нарушает» — «не нарушает», «разрешается» — «запрещается», а в разделе о техническом состоянии — «эксплуатация транспортного средства» — «дальнейшее движение»;
- обращайте внимание на отрицание «НЕ», поскольку пропустив его, вы можете допустить ошибку;
- читайте все варианты ответов и до конца, поскольку правильным считается тот, который отвечает на вопрос с наибольшей полнотой. На экзамене в ТСЦ МВД ответ, включающий все возможные варианты, может быть первым;
- не путайте ЗОНУ действия и НАПРАВЛЕНИЕ действия, указываемые разными табличками. При обозначении зоны действия стрелки всегда вертикальны, а при обозначении направления — горизонтальны;
- изучая ситуацию на рисунке, прежде всего, определите, на какой дороге происходит действие (или на какой дороге вы находитесь) — главной или второстепенной. Это поможет вам быстрее найти правильный ответ;
- при определении приоритета учитывайте наличие спецавтомобилей, вид дороги (главная, второстепенная), требование знаков, наличие препятствия справа, сигналы, подаваемые участниками дорожного движения;
- делать «шпаргалки» экзаменационных билетов нет смысла: на экзамене компьютер выбирает вопросы случайным образом.

Обращаем внимание!

Экзаменационные вопросы в сервисном центре МВД Украины могут отличаться от приведенных в этой книге (например, рисунки сделаны «с высоты птичьего полета», с использованием 3D-графики, или показана фотография ситуации), но мы уверены, что если вы с легкостью решаете задания этой книги, вам гарантирован успех.

И помните — знания Правил дорожного движения нужны не только для получения водительского удостоверения, а прежде всего для вашей безопасности за рулем.

ТАБЛИЦА ПРАВИЛЬНЫХ ОТВЕТОВ

1. Общие положения

1.1 2 1.10	1.2 1 1.5	1.3 1 1.10	1.4 2 1.10	1.5 4 1.10	1.6 4 1.10	1.7 3 1.10	1.8 3 1.2	1.9 4 1.10	1.10 5 1.10
1.11 3 1.10	1.12 3 1.10	1.13 1 1.9	1.14 3 1.10	1.15 1 1.10	1.16 4 1.5	1.17 3 1.10	1.18 3 1.10	1.19 1 1.10	1.20 2 1.10
1.21 1 1.10	1.22 4 1.10	1.23 3 1.6	1.24 5 1.10	1.25 3 1.10	1.26 4 1.10	1.27 4 1.10	1.28 4 1.10	1.29 1 1.10	1.30 3 1.10
1.31 1 1.10	1.32 2 1.10	1.33 2 1.10	1.34 4 1.10	1.35 5 1.10	1.36 2 1.10	1.37 1 1.10	1.38 3 1.10	1.39 3 1.10	1.40 3 1.5
1.41 1 1.10	1.42 5 1.10	1.43 4 1.10	1.44 1 1.10	1.45 3 1.10	1.46 4 1.10	1.47 3 1.10	1.48 1 1.10	1.49 1 1.10	1.50 4 1.10
1.51 1 1.10	1.52 3 1.10	1.53 4 1.10	1.54 5 1.10	1.55 1 1.10, зн 5.32	1.56 4 1.10	1.57 1 1.10	1.58 1 1.10	1.59 3 1.10	1.60 4 1.10
1.61 4 1.10	1.62 5 1.10	1.63 3 1.10	1.64 3 1.10	1.65 3 1.10	1.66 2 1.10	1.67 1 1.10	1.68 3 1.10	1.69 1 1.10	1.70 3 1.10
1.71 5 1.10, 23.2 а, б	1.72 3 1.10	1.73 2 1.10	1.74 3 1.10	1.75 5 1.10	1.76 3 1.10	1.77 3 1.10	1.78 2 1.10	1.79 2 1.10	1.80 3 1.10
1.81 2 1.10	1.82 1 1.10	1.83 2 1.10	1.84 2 1.10	1.85 4 1.10, 10.7 г, 12.2, 14.6 г, 15.10 г	1.86 3 1.10	1.87 3 1.10	1.88 3 1.10	1.89 3 1.10	1.90 2 1.10
1.91 2 1.10	1.92 5 1.10	1.93 3 1.10	1.94 4 1.10	1.95 2 1.10	1.96 3 1.10	1.97 4 1.10	1.98 3 1.10	1.99 1 1.10	1.100 5 1.10
1.101 3 1.10	1.102 1 1.10	1.103 2 1.10	1.104 1 1.10	1.105 4 1.10	1.106 3 1.10	1.107 1 1.10	1.108 5 1.10	1.109 1 1.10, зн 5.45	1.110 1 1.10

2. Обязанности и права водителей механических транспортных средств

2.1 1 2.11	2.2 4 2.1 а, б, г, 2.4 а	2.3 3 2.7 а	2.4 2 2.10 г	2.5 4 2.3 в	2.6 1 2.9 г	2.7 3 2.8	2.8 3 2.1 г	2.9 4 2.10 а, б, д	2.10 1 2.3 а
2.11 4 2.12 б, г, ґ	2.12 2 2.10 б	2.13 2 2.3 в	2.14 1 2.2	2.15 4 2.12 в	2.16 3 2.9 б	2.17 3 2.13	2.18 4 2.3 ґ, е, є	2.19 1 2.5	2.20 2 2.9 г
2.21 2 2.10 д	2.22 3 2.9 б	2.23 4 2.9 д	2.24 4 2.1 а, б, ґ	2.25 3 2.7 б	2.26 2 2.13	2.27 4 2.9 а	2.28 3 2.3 в	2.29 1 2.8	2.30 2 2.11
2.31 2 2.13	2.32 2 2.10 г	2.33 5 2.1 г	2.34 4 2.9 в, закон*	2.35 3 2.3 а	2.36 5 2.7 а, б	2.37 5 2.14 в, г, ґ, д	2.38 1 2.3 в	2.39 3 2.4 б	2.40 1 2.6
2.41 3 2.2, 2.12 а	2.42 5 2.7 а, б	2.43 1 2.10 г	2.44 3 2.3 в	2.45 2 2.8	2.46 4 2.3 б	2.47 5 2.10 д, 2.11	2.48 5 2.9 в	2.49 2 2.10 є	2.50 3 2.12 а, б

3. Движение транспортных средств со специальными сигналами

3.1 1 3.1	3.2 4 3.6, 8.7.3 е	3.3 2 3.2	3.4 1 3.1, 3.2	3.5 3 3.4	3.6 2 3.2	3.7 2 3.1	3.8 5 3.1	3.9 1 3.1, 3.2	3.10 2 3.2
3.11 1 3.6	3.12 3 3.2	3.13 1 3.1, 3.2	3.14 2 3.4	3.15 1 3.1, 8.8 б	3.16 2 3.1, 3.2	3.17 2 3.3	3.18 2 3.2	3.19 2 3.1	3.20 2 3.4
3.21 3 3.6	3.22 2 3.1	3.23 2 3.2, 11.8	3.24 1 3.4, 3.6	3.25 4 3.1	3.26 2 3.2	3.27 3 3.1	3.28 2 3.2	3.29 2 3.5	3.30 2 3.2
3.31 2 3.6, 16.12	3.32 3 3.1	3.33 1 3.4	3.34 3 3.2	3.35 2 3.1, 3.2, 28.1	3.36 2 3.3	3.37 4 3.1, 3.6	3.38 2 3.4	3.39 2 3.5, 8.8 в	3.40 1 3.5
3.41 2 3.6	3.42 3 3.1	3.43 1 3.2	3.44 2 3.2, 3.3						

4. Обязанности и права пешеходов

4.1 3 4.14 д	4.2 2 4.1	4.3 2 4.16а	4.4 1 4.9	4.5 3 4.14 а, б	4.6 3 4.11	4.7 4 4.6	4.8 1 4.5	4.9 2 4.16 а	4.10 2 4.12

* Закон 1 – Кодекс Украины об административной ответственности.

4.11 1 4.12	4.12 4 4.7	4.13 3 4.14 г	4.14 3 4.4	4.15 3 4.1, 4.3	4.16 2 4.9	4.17 2 4.3	4.18 4 4.11	4.19 2 4.6	4.20 1 4.13
4.21 3 4.15	4.22 2 4.7	4.23 3 4.5	4.24 3 4.3	4.25 3 4.8	4.26 3 4.9	4.27 1 4.2	4.28 5 4.15	4.29 2 4.10	

5. Обязанности и права пассажиров

5.1 3 5.3 г	5.2 4 5.1	5.3 3 5.2 б	5.4 3 5.2 а	5.5 3 5.1	5.6 1 5.3 а	5.7 1 5.2 б	5.8 4 5.4	5.9 4 5.3 в	5.10 3 5.1

6. Требования к велосипедистам

6.1 3 6.6 д	6.2 1 6.3	6.3 3 6.2	6.4 3 6.6 а	6.5 1 6.5	6.6 4 6.6 б	6.7 3 6.6 в	6.8 3 6.6 г	6.9 2 6.6 а	6.10 4 6.6 г, е
6.11 1 6.6 б	6.12 3 6.1	6.13 2 6.6 в	6.14 2 6.5	6.15 1 6.2	6.16 4 6.4, 22.3 б	6.17 4 6.3	6.18 1 6.6 д	6.19 3 6.3	

7. Требования к лицам, управляющим гужевым транспортом, и погонщикам животных

7.1 5 7.7г	7.2 1 7.4	7.3 3 7.3	7.4 2 7.7а	7.5 1 7.7д	7.6 1 7.7в	7.7 2 7.7г	7.8 3 7.7а	7.9 3 7.2	7.10 3 7.3
7.11 1 7.7б	7.12 3 7.7 д	7.13 2 7.1	7.14 3 7.6	7.15 2 7.5	7.16 3 7.3				

8. Регулирование дорожного движения

8.1 2 8.4 д	8.2 2 8.3	8.3 2 8.8 б	8.4 3 8.7.3 б	8.5 2 8.3, 8.8 а	8.6 3 8.1	8.7 2 8.7.3 е, 8.7.5	8.8 1 8.11	8.9 3 8.7.7	8.10 2 8.3, 8.8 а
8.11 2 8.7.3 в	8.12 3 8.8 в, 8.11	8.13 2 8.8 а, 16.2	8.14 3 8.3, 8.8 б	8.15 1 8.7.3д	8.16 1 8.8 б	8.17 2 8.3, 8.8 а	8.18 2 8.2	8.19 3 8.2, зн.1.37, 4.9	8.20 4 8.3, 8.8 б
8.21 2 8.7.4, зн 5.13	8.22 2 8.8 а	8.23 4 8.3, 8.8 б	8.24 3 8.7.3 ж	8.25 1 8.10	8.26 2 8.3, 8.8 б	8.27 3 8.7, 8.7.6	8.28 3 8.3, 8.8 б	8.29 2 8.3, 8.8 а	8.30 3 8.3, 8.8 б
8.31 1 8.3, 8.8 а	8.32 3 8.2	8.33 1 8.7.3 е	8.34 1 8.3	8.35 3 8.2	8.36 4 8.3, 8.8 б	8.37 1 8.7.3 а	8.38 2 8.7.6 б	8.39 2 8.7.5	8.40 1 8.7.1
8.41 3 8.8 а	8.42 2 8.3, 8.8 б	8.43 3 8.7.3 е	8.44 2 8.8 б	8.45 4 8.4 а	8.46 3 8.7.4	8.47 2 8.8	8.48 3 8.7.3 г	8.49 3 8.7.3 б, е	8.50 2 8.3, 8.8 а
8.51 1 8.7.3 д, 16.1	8.52 1 8.7.6 а	8.53 1 8.3, 8.8 а	8.54 2 8.7.3 е	8.55 1 8 3, 8.8 б	8.56 2 8.7.6	8.57 3 8.3, 8.8 а	8.58 4 8.8 а	8.59 3 8.7.3 е	8.60 1 8.7.3 б, е, з
8.61 3 8.1	8.62 4 8.3, 8.8 а	8.63 1 8.7.3 е, 8.7.5	8.64 5 8.7, 8.7.5	8.65 1 8.7.3 д	8.66 2 8.3, 8.8 в, 8.10	8.67 1 8.7.3 ж	8.68 1 8.7.4	8.69 4 8.8 б	8.70 4 8.3, 8.8 а
8.71 2 8.7.6 а	8.72 3 8.8 б	8.73 2 8.3, 8.8 б	8.74 1 8.7.3 д	8.75 3 8.7.3 е, 8.7.5	8.76 1 8.7.3 е	8.77 2 8.11	8.78 3 8.3, 8.8 а	8.79 3 8.7.3 а, е, 16.8	8.80 4 8.3
8.81 2 8.3, 8.8 б	8.82 3 8.8 б	8.83 3 8.7.3 е	8.84 2 8.10	8.85 4 8.3, 8.8 б	8.86 2 8.3	8.87 2 8.7.3 а, б, е	8.88 1 8.4 а	8.89 4 8.3, 8.8 а	8.90 1 8.2
8.91 1 8.8 а	8.92 2 8.3, 8.8 а	8.93 2 8.7.6 а	8.94 2 8.7.3 з	8.95 4 8.10	8.96 2 8.3, 8.8 б	8.97 1 8.7.3 е	8.98 3 8.7.3 е	8.99 1 8.3, 8.8 б	8.100 4 8.8 б
8.101 4 8.8 б	8.102 3 8.9 в	8.103 4 8.3, 8.8 б	8.104 3 8.7.3 а, б, з, 8.7.5	8.105 3 8.4 г	8.106 2 8.3, 8.8 а	8.107 3 8.7.3 е	8.108 2 8.7.3 з	8.109 2 8.7.3 б, е	8.110 3 8.3, 8.8 б
8.111 4 8.3, 8.8 а	8.112 1 8.7.4	8.113 1 8.8 б	8 114 2 8.3, 8.8 б	8.115 3 8.8 а	8.116 3 8.7.3 е, з, 8.7.5	8.117 1 8.3, 8.8 в	8.118 2 8.7.3 е	8.119 4 8.8 б	8.120 1 8.4 б
8.121 4 8.8 б	8.122 2 8.3, 8.8 б, 10.4	8.123 3 8.8	8.124 4 8.3, 8.8 а	8.125 5 8.7.3 а	8.126 1 8.7.3 е, 8.7.5	8.127 1 8.7.7	8.128 4 8.3, 8.8 в	8.129 4 8.8 а	8.130 2 8.3, 8.8 а
8.131 3 8.7.4	8.132 2 8.3, 8.8 а	8.133 2 8.3, 8.8 б, 16.2	8.134 4 8.7.3 а, 8.7.5, зн 4.4	8.135 4 8 3, 8.8 а	8.136 3 8.7.3 б, г	8. 137 2 8.8 б	8.138 2 8.3, 8.8 б	8.139 2 8.4 в	8.140 2 8.3, 8.8 а
8.141 2 8.8 а	8.142 3 8.8 б	8.143 3 8.3, 8.8 б	8.144 1 8.9 а	8.145 4 8.3, 8.8 а	8.146 1 8.7.3 а,б, 8.7.5	8.147 4 8.3, 8.8 б	8.148 2 8.7.3 б	8.149 3 8.7.3 б	8.150 2 8.8 б
8.151 1 8.10	8.152 3 8.3, 8.8 б	8.153 1 8.7.3 б, 8.7.5	8.154 3 8.3, 8.8 а	8.155 3 8.8 б, 8.10	8.156 4 8.4 г	8.157 1 8.7.4	8.158 2 8.3, 8.8 б	8.159 3 8.7.3 е, 8.7.5	8.160 3 8.3, 8.8 б

8.161 2 8.7.5	8.162 2 8.7.7	8.163 1 8.3, 8.8 б	8.164 1 8.8 б, 10.4	8.165 1 8.3, 8.8 б	8.166 3 8.7.3 а, 8.7.5	8.167 4 8.3, 8.8 а	8.168 1 8.8 а	8.169 4 8.3, 8.8 б	8.170 2 8.8 в
8.171 3 8.3, 8.8 б	8.172 2 8.8 б	8.173 1 8.7.3 е	8.174 3 8.3, 8.8 б	8.175 2 8.7.3 е, 8.7.5	8.176 4 8.8 а	8.177 3 8.3, 8.8 б	8.178 1 8.7.7	8.179 3 8.7.4	8.180 3 8.3, 8.8 б
8.181 5 8.9	8.182 1 8.3, 8.8 б	8.183 4 8.7	8.184 3 8.9 а	8.185 4 8.6 в, г, д	8.186 1 8.8 б	8.187 4 8.3, 8.8 б	8.188 1 8.7.3 в, 8.7.5	8.189 3 8.7.3 б	8.190 2 8.3, 8.8 б
8.191 2 8.7.6 а	8.192 4 8.3, 8.8 б	8.193 1 8.7.3 в	8.194 1 8.7.3 а, 8.7.5, зн 4.1	8.195 2 8.3, 8.8 б	8.196 4 8.8 а	8.197 2 8.3, 8.8 а	8.198 1 8.4 е	8.199 3 8.3, 8.8 б	8.200 4 8.3, 8.8 б
8.201 1 8.3, 8.8 б	8.202 2 8.3	8.203 4 8.8 а	8.204 4 8.3, 8.8 а	8.205 3 8.7	8.206 3 8.6 г	8.207 2 8.7.3 є	8.208 1 8.5	8.209 2 8.7.3 а, з, 8.7.5	8.210 3 8.3, 8.8 б
8.211 1 8.3	8.212 3 8.3, 8.8 б	8.213 2 8.8 б	8.214 2 8.7.6 б	8.215 4 8.3, 8.8 б	8.216 3 8.7.3 а, 8.7.5	8.217 4 8.5.2, верт. разм	8.218 2 8.3, 8.8 б	8.219 1 8.7.4	8.220 3 8.3, 8.8 а
8.221 3 8.3, 8.8 б	8.222 1 8.7.3 ж	8.223 3 8.8 б	8.224 2 8.3, 8.8 б	8.225 2 8.8 а	8.226 1 8.7.3 а,б, 8.7.5	8.227 4 8.3, 8.8 а	8.228 3 8 6 а, б, г	8.229 4 8 8 б	8.230 4 8.3, 8.8 б
8.231 2 8.8 б	8.232 2 8.7.4	8.233 2 8.7.3 е, 8.7.5	8.234 3 8.3, 8.8 б	8.235 1 8.8 а	8.236 3 8.7	8 237 2 8.7.1	8.238 3 8.3, 8.8 б	8.239 4 8.7.3 б, е, з	8.240 2 8.3, 8.8 б
8.241 3 8.3, 8.8 а	8.242 4 8.8 б	8.243 1 8.5.1	8. 244 2 8.6 в	8.245 2 8.7.3 а,и, 8.7.5	8.246 2 8.7.5	8.247 4 8.3, 8.8 б	8.248 1 8.7.4, 8.7.3 а	8.249 1 8.7.3 е	8.250 3 8.7.3 е
8.251 2 8.8 б	8.252 2 8.3, 8.8 а, 16.2	8.253 1 8.7.6	8. 254 4 8.3, 8.8 б	8.255 2 8.7.3 б, з	8.256 3 8.8 в	8.257 4 8.3, 8.8 б	8.258 1 8.7.3 а	8.259 3 8.3, 8.8 а	8.260 1 8.7.3 г
8.261 4 8.3, 8.8 в	8.262 3 8.8 б	8.263 2 8.9 г	8. 264 4 8.7.3 а, б, з, 8.7.5	8.265 1 8.7.3 д, 8.7.5	8.266 5 8.3, 8.8 б	8.267 1 8.7.4	8.268 1 8.3, 8.8 б	8.269 1 8.7.3 а, 8.7.5, зн 4.2	8.270 3 8.7.3 е, з, 8.7.5

9. Предупреждающие сигналы

9.1 2 9.8	9.2 4 9.1 а, б, в, г, д	9.3 1 9.3	9.4 3 9.6	9.5 4 2.10 б, 9.9 а, б	9.6 3 9.4	9.7 3 9.11 б	9.8 2 9.2 а, б, 9.3	9.9 1 9.4	9.10 1 9.3
9.11 3 9.10	9.12 3 9.3	9.13 1 9.6	9.14 3 9.10 б	9.15 2 9.9 б	9.16 2 9.9 а	9.17 1 9.8 г	9.18 3 9.9 д	9.19 2 9.7	9.20 2 9.4
9.21 3 9.3	9.22 3 9.4	9.23 2 9.11 а	9.24 2 9.9 г	9.25 2 9.8 а	9.26 3 9.10 а, б	9.27 2 9.10	9.28 3 9.8 д	9.29 3 9,8 г, 9.9 г	9.30 2 9.4
9.31 1 9.4	9.32 2 9.9 б	9.33 3 9.8 в	9.34 2 9.4	9.35 2 9.5	9.36 3 9.9 в	9.37 5 9.9 г	9.38 1 9.3	9.39 1 9.8	9.40 2 9.8
9.41 3 9.11	9.42 2 9.6	9.43 4 9.2 а, б	9.44 1 9.9 а	9.45 4 9.2 а, 9.4	9.46 3 9.9 е, 9.10 а	9.47 2 9.9 в	9.48 1 9.2 а	9.49 3 9.8 б, г	9.50 2 9.8 б

10. Начало движения и изменение его направления

10.1 1 10.7г	10.2 2 10.10	10.3 5 3.1, 10.7 б	10.4 1 10.4	10.5 2 10.8	10.6 2 10.2	10.7 4 10.5	10.8 1 10.3	10.9 2 10.7 г, 10.10	10.10 3 10.4
10.11 4 10.10	10.12 2 3.2	10.13 2 10.5	10.14 3 3.1, 10.7 а	10.15 2 10.7 д	10.16 1 10.5	10.17 1 10.4	10.18 1 10.7 г, 10.10, зн 3.24	10.19 1 10.1	10.20 1 3.1, 3.2, 10.3
10.21 3 10.4	10.22 2 10 8	10.23 2 10.10	10.24 2 10.5	10.25 1 10.3	10.26 1 10.6, 10.11	10.27 2 10.9	10.28 2 10.7 д, 27.2 г	10.29 3 10.4	10.30 1 10.5
10.31 3 10.10	10.32 3 10.8	10.33 4 10.4	10.34 2 10.2	10.35 1 10.6	10.36 1 10.3	10.37 2 10.4	10.38 2 10.11	10.39 2 10.5	10.40 3 10.7 в
10.41 2 10.4	10.42 3 10.10	10.43 2 10.7 г	10.44 2 10.2	10.45 1 10.3	10.46 3 10.7 б	10.47 1 10.6	10.48 2 10.9	10.49 1 10.7 д	10.50 2 3.2
10.51 5 10.10	10.52 5 10.7 а	10.53 1 10.7 г, зн. 1.32	10.54 2 10.3, 10.11	10.55 4 10.7 а	10.56 2 10.7 г	10.57 2 10.8	10.58 3 10.5, 17.2, разм 1.2	10.59 2 10.6	10.60 3 10.4
10.61 1 10.6	10.62 3 10.7 г	10.63 3 10.4	10.64 2 10.11	10.65 1 10.4	10.66 2 10.4	10.67 2 10.11	10.68 1 10.5	10.69 3 10.5	10.70 1 10.3
10.71 3 10.4	10.72 3 10.1	10.73 1 3.1, 3.2, 10.3	10.74 3 10.10	10.75 3 10.10	10.76 4 10.7 б	10.77 1 10.5	10.78 2 10.8	10.79 2 10.8	10.80 4 10.7 б

11. Расположение транспортных средств на дороге

11.1 1 3.1, 3.2	11.2 1 11.2	11.3 4 11.5	11.4 2 11.14	11.5 4 11.3	11.6 2 11.9	11.7 5 11.6	11.8 3 11.2	11.9 1 11.8	11.10 1 11.14

11.11 4 11.9, разм. 1.1	11.12 1 11.14	11.13 3 11.13	11.14 3 11.14	11.15 2 11.9	11.16 3 11.5	11.17 1 11.11	11.18 1 11.8	11.19 1 11.8	11.20 2 11.14
11.21 3 11.3	11.22 1 11.12	11.23 2 11.9	11.24 1 11.2	11.25 1 11.14	11.26 3 11.8	11.27 1 11.8	11.28 1 11.5, 15.3	11.29 4 11.1	11.30 1 3.1, 3.2, 11.8
11.31 4 11.5	11.32 2 11.8	11.33 4 11.4	11.34 2 11.9	11.35 4 11.13	11.36 3 11.4	11.37 3 11.6	11.38 2 11.10	11.39 3 11.8	11.40 2 11.12
11.41 2 11.8	11.42 1 11.8	11.43 2 11.6	11.44 3 11.3	11.45 2 11.9	11.46 1 11.8	11.47 3 11.7	11.48 2 11.8	11.49 1 11.8	11.50 2 11.8
11.51 3 11.3	11.52 3 11.1	11.53 3 11.8	11.54 2 11.2	11.55 2 11.4	11.56 2 11.2, 11.7	11.57 4 11.5	11.58 4 11.2	11.59 3 11.5	11.60 2 11.4
11.61 3 11.14	11.62 1 11.14	11.63 2 11.9	11.64 3 11.8	11.65 2 11.9	11.66 3 11.14	11.67 1 11.6	11.68 2 11.8	11.69 2 11.8	11.70 1 11.14

12. Скорость движения

12.1 4 12.6 г, зн 3.29, 5.47	12.2 2 12.6 а, б	12.3 3 12.4, зн 5.45	12.4 2 12.6 г, г, зн 4.16	12.5 4 12.5	12.6 2 12.6 в	12.7 4 12.6 г, зн 3.30	12.8 1 12.9 б	12.9 4 12.6 г	12.10 3 12.6 а, г
12.11 3 12.4, зн 3.29	12.12 4 12.9 г	12.13 3 12.6 а, зн 3.29	12.14 3 12.6 г, зн 4.17	12.15 1 3.1, 3.6	12.16 1 12.7	12.17 2 12.6 б	12.18 4 12.6 г	12.19 4 12.6 г	12.20 3 12.6 а, 12.9 б
12.21 3 12.8	12.22 1 12.4, зн 5.47	12.23 4 12.6 а, 12.7	12.24 4 12.10	12.25 1 3.1,12.9 б, 3.6	12.26 3 12.4, 12.6 а, 12.8, зн 3.29, 7.9	12.27 4 12.10-1	12.28 5 3.1	12.29 4 12.6 г	12.30 1 12.6 в
12.31 4 12.6 г, зн 5.47	12.32 4 12.6 а, зн 5.47	12.33 3 12.4, зн 5.45	12.34 5 12.6 г, зн 5.1	12.35 4 12.1	12.36 1 12.9 в	12.37 3 12.7	12.38 1 12.5	12.39 2 12.6 г, г, зн 3.30	12.40 2 12.6 а
12.41 3 12.3	12.42 4 12.6 г	12.43 4 12.4, зн 5.30	12.44 1 12.9 б	12.45 3 12.6 г	12.46 3 12.6 г, зн 5.48	12.47 2 12.5, зн 5.33	12.48 4 12.6 в, 12.7, зн 4.16, 7.9	12.49 2 12.6 б, 12.8	12.50 1 12.7
12.51 4 12.6 г, 3.1	12.52 1 12.6 в	12.53 1 12.4, зн 5.45, 4.16, 7.9	12.54 4 12.6 г, 11.6, 27.2 б	12.55 2 12.5, зн 5.32	12.56 1 12.9 б	12.57 4 12.9 а	12.58 2 12.6 а	12.59 1 12.6 а	12.60 5 12.10-2
12.61 4 12.6 г	12.62 3 12.6 г	12.63 1 12.4	12.64 4 12.6 а, г	12.65 1 12.7	12.66 2 12.6 а, г	12.67 4 12.6 г	12.68 3 12.6 а	12.69 4 12.6 а	12.70 1 12.6 б
12.71 1 зн 5.63.1	12.72 1 зн 5.63.1	12.73 1 зн 5.63.1	12.74 3 зн 5.63.2	12.75 1 зн 5.63.2, 12.6 а, г	12.76 4 зн 5.63.2, 12.6 г	12.77 3 12.1	12.78 1 12.2	12.79 3 12.7	12.80 2 12.6 г
12.81 4 12.6 а	12.82 2 12.6 г	12.83 2 12.3	12.84 2 12.6 г	12.85 4 12.6 г, зн.5.47	12.86 4 12.9 б	12.87 4 12.6 в,г, 12.9 б	12.88 3 12.6 а	12.89 5 12.6 б	12.90 3 12.4, зн 3.42

13. Дистанция, интервал, встречный разъезд

13.1 1 13.4	13.2 4 13.1	13.3 1 13.4	13.4 4 13.3	13.5 2 13.4	13.6 1 13.4, 3.1, 3.2	13.7 2 13.4	13.8 2 13.3	13.9 2 13.4	13.10 2 13.2

14. Обгон

14.1 3 14.6 а	14.2 1 14.6 г	14.3 3 14.2 б	14.4 3 14.6 б	14.5 1 14.6 е	14.6 1 14.6 а, 3.1, 3.2	14.7 1 1.10	14.8 2 14.3	14.9 1 14.6 е, 11.4	14.10 2 14.6 а
14.11 1 13.3, 14.6 а	14.12 1 14.2 г	14.13 1 14.6 б	14.14 3 14.6 а	14.15 2 14.6 в	14.16 3 11.5, 14.6 е	14.17 1 14.4, зн 3.25, 3.27	14.18 2 14.6 е, 3.4	14.19 2 14.2 а, разм. 1.6	14.20 1 13.3, 14.6 а
14.21 2 14.6 г	14.22 3 14.6 д	14.23 1 14.6 б, зн 1.28, 1.31.1	14.24 1 14.6 г	14.25 3 14.6 а	14.26 2 14.6 г	14.27 2 14.6 б	14.28 2 14.3	14.29 1 14.5	14.30 2 14.6 а
14.31 2 3.6, 14.6 а	14.32 1 14.6 е	14.33 2 14.6 в	14.34 1 14.6 е, разм. 1.3	14.35 2 14.6 а	14.36 3 14.6 г	14.37 1 14.1, 14.6	14.38 2 14.6 б	14.39 1 13.3, 14.6 а	14.40 2 14.6 в
14.41 2 14.6 д	14.42 2 14.6 а	14.43 2 14.6 е	14.44 1 14.4	14.45 1 13.3, 14.6 г, в	14.46 3 14.2 в	14.47 1 11.2, 13.3, 14.6а	14.48 1 14.6, 3.6	14.49 2 14.6 г	14.50 2 14.6 г
14.51 1 1.10	14.52 2 14.2 а	14.53 2 14.6 е	14.54 3 14.4	14.55 2 14.6 г	14.56 2 14.6 г	14.57 2 14.6 г	14.58 2 14.6 в	14.59 1 14.2 в, г	14.60 3 14.5
14.61 4 14.6 е	14.62 3 14.6 б	14.63 1 11.5, 14.6 е	14.64 2 14.6 е	14.65 3 14.4	14.66 2 14.6 г				

15. Остановка и стоянка

15.1 3 15.1	15.2 2 15.9 и	15.3 1 15.10 г	15.4 1 15.1, 26.2 б, в	15.5 2 15.9 е, рг 1.17	15.6 1 15.3, зн 5.5, 3.35	15.7 4 15.9 г, 5.1, 15.2	15.8 3 15.2, 15.9 д	15.9 1 2.8, 15.3, зн 3.34, 5.5	15.10 4 1.10
15.11 4 27.2 в, разм.1.2	15.12 2 15.8	15.13 3 15.1	15.14 2 15.3, зн.3.34, 7.2.2	15.15 3 15.9 ґ	15.16 4 15.3, 1.10	15.17 3 15.12	15.18 2 15.5, 15.9 д	15.19 4 15.9 а, в, ж	15.20 4 15.1, 15.2, 15.3
15.21 4 15.2, 15.9 д	15.22 4 15.12	15.23 2 15.9 ґ	15.24 1 15.10 в	15.25 3 15.9 г, е	15.26 1 15.3	15.27 3 15.9 г, ґ	15.28 3 15.9 е	15.29 2 15.3	15.30 2 15.10 є
15.31 3 15.3, 15.9 г	15.32 2 15.4	15.33 1 15.9 е	15.34 1 15.9 з	15.35 3 15.9 е	15.36 3 15.4	15.37 5 5.1, 15.3	15.38 3 15.9 ґ	15.39 3 15.2, зн 3.34, 7.5.1	15.40 4 15.9 в
15.41 2 15.2	15.42 4 15.2, 15.10 г	15.43 3 15.3, 15.10 а	15.44 1 15.9 и	15.45 3 15.5	15.46 2 15.10 ґ	15.47 1 15.9 ґ	15.48 3 15.6, зн 5.38, 7.6.3	15.49 3 15.2, 15.9 а, 15.10 г	15.50 3 15.9 г
15.51 3 15.10 ґ	15.52 2 15.9 д	15.53 1 15.2	15.54 1 15.5	15.55 3 15.2, 15.10 г	15.56 4 15.11	15.57 1 15.1	15.58 1 15.9 г	15.59 2 15.3, зн 3.34, 7.2.3	15.60 3 15.6
15.61 3 15.3, зн 5.47	15.62 1 15.3	15.63 2 15.9 е	15.64 1 15.14, 9.9 а	15.65 3 15.9 г	15.66 3 15.9 а	15.67 2 15.9 ґ	15.68 3 зн 5.38, 7.6.1–7.6.5	15.69 2 15.9 є	15.70 2 15.4
15.71 2 15.9 в, 15.10 а	15.72 2 15.2,15.5, 15.10 є	15.73 4 15.9 е, рг 1.17	15.74 2 15.10 а	15.75 4 15.9 в	15.76 3 15.9 д	15.77 1 15.10 е	15.78 1 15.9 в, 15.10 а	15.79 3 зн 5.38, 7.6.4	15.80 3 15.2, 15.3, 15.9
15.81 4 5.1, 15.2, 15.8	15.82 1 15.3	15.83 4 15.9 ґ, д	15.84 2 15.2, 15.3	15.85 4 15.7	15.86 2 15.9 ж	15.87 4 15.2, 15.4	15.88 2 15.11	15.89 1 15.10 е	15.90 2 15.2, 15.9 и
15.91 2 5.1, 15.3	15.92 2 15.2, 15.3, зн 3.35	15.93 1 15.2, 17.2	15.94 3 15.9 г	15.95 3 15.3	15.96 2 15.1	15.97 3 15.2	15.98 1 15.6, зн 5.38, 7.6.1	15.99 3 15.13	15.100 1 15.2
15.101 2 15.4	15.102 3 15.6	15.103 1 15.9 в	15.104 2 15.9 в	15.105 2 15.6, зн 5.38, 7.6.5	15.106 5 15.2, зн 3.35, 7.5.3	15.107 1 15.5	15.108 1 15.8	15.109 3 15.2,15.9 е	15.110 4 15.2, 15.1
15.111 1 15.10 ґ	15.112 3 15.14	15.113 3 зн 5.38, 7.6.1	15.114 2 15.10 д	15.115 2 15.10 е	15.116 3 15.11	15.117 4 5.1, 11.9, 15.2, 15.8	15.118 3 15.9 е, разм. 1.17	15.119 1 15.2	15.120 1 зн 5.39, 7.6.2
15.121 2 5.1, 15.2, 17.2, зн 5.11, разм. 1.2	15.122 3 15.2, 15.9 д	15.123 1 15.9 ґ	15.124 2 15.9 д	15.125 3 15.1, 15.2	15.126 2 15.9 ґ	15.127 1 15.8	15.128 1 15.11	15.129 3 15.9 г	15.130 3 15.9 ґ

16. Проезд перекрестков

16.1 3 16.11, 16.13, зн 2.1	16.2 1 3.1, 3.2	16.3 3 16.2, 16.12, 16.13	16.4 2 16.12, 16.14 зн 2.3, 7.8	16.5 1 16.11, зн 2.1, 7.8	16.6 3 16.11	16.7 2 16.12	16.8 2 3.6, 16.13	16.9 4 16.2, 16.7	16.10 1 16.11, зн 2.3, 7.8
16.11 3 16.2	16.12 2 16.5	16.13 3 16.11, 16.12, 16.14, зн 2.3, 7.8	16.14 5 16.1	16.15 1 16.11	16.16 2 15.9 г, 16.3	16.17 1 16.12, 16.13	16.18 3 16.11, зн 2.1, 7.8	16.19 3 16.7	16.20 4 16.12
16.21 3 3.2, 16.14, 16.11	16.22 3 16.12, 16.13	16.23 3 16.2, 16.11, 16.12, зн 2.1, 7.8	16.24 4 16.11, зн 2.3, 7.8	16.25 1 3.1, 3.2	16.26 1 16.11, 16.13, 16.14	16.27 3 16.11, 16.12, зн 2.1	16.28 4 16.11, зн 2.3, 7.8	16.29 1 16.7	16.30 1 3.2
16.31 2 16.9	16.32 3 16.11, 16.12, 16.14 зн 2.3, 7.8	16.33 3 16.12, 16.13	16.34 2 3.2, 16.11, разм 1.13, 1.20	16.35 2 16.1	16.36 3 16.11, 16.13, зн 2.3	16.37 1 16.12	16.38 2 3.1, 3.2	16.39 3 16.11, 16.13, зн 2.1	16.40 3 16.12, 16.13
16.41 1 16.13	16.42 1 16.11, 16.12, 16.14, зн 2.3, 7.8	16.43 3 16.11, зн 2.3, 7.8	16.44 1 16.12	16.45 3 16.2, 18.1	16.46 3 16.2, 16.7	16.47 3 16.11	16.48 4 3.1, 3.2, 16.6	16.49 3 16.2, 16.11, зн 2.1	16.50 2 3.6, 16.12, 16.14, зн 2.1, 7.8
16.51 1 16.11, зн 2.3	16.52 1 16.2, 16.6	16.53 3 16.12	16.54 2 3.1, 3.2	16.55 1 16.10	16.56 2 16.11, 16.12, 16.14, зн 2.1, 7.8	16.57 3 16.11, 16.12	16.58 1 16.13	16.59 4 16.1	16.60 4 16.2, 16.12
16.61 1 3.1, 3.2	16.62 1 16.12	16.63 1 16.2, 16.11, 16.12, 16.14, зн 2.3, 7.8	16.64 3 16.11, 16.13 зн 2.1	16.65 2 16.12	16.66 3 16.12, 16.13	16.67 3 16.12, 16.13	16.68 1 16.12	16.69 3 16.2, 16.11, зн 2.1, 7.8	16.70 3 16.5
16.71 2 16.1, 16.6	16.72 3 16.11, 6.12, 16.14, зн 2.1, 7.8	16.73 2 16.12	16.74 1 3.1, 3.2	16.75 3 16.11, зн 2.3	16.76 1 16.12	16.77 1 16.5	16.78 3 16.2, 16.11, 16.14, 16.12, зн 2.1, 7.8	16.79 3 16.11, 16.14, зн 2.3, 7.8	16.80 4 16.14, зн 2.1, 7.8
16.81 1 16.12, 16.14, зн 2.1, 7.8	16.82 2 16.11, 16.12, зн 2.3	16.83 2 16.12	16.84 2 16.12	16.85 3 16.8	16.86 5 16.2, 16.13, 16.12	16.87 2 3.2, 16.12, 16.13	16.88 3 16.7	16.89 3 16.11, зн 2.1, 7.8	16.90 4 16.4
16.91 1 16.11, 16.13, зн 2.3	16.92 2 16.2	16.93 2 16.1, 16.6	16.94 1 3.1, 16.12	16.95 4 3.2, 16.14, зн 2.1, 7.8	16.96 3 16.3	16.97 3 16.12, 16.13	16.98 1 16.12, 16.13	16.99 3 16.11, зн 2.3, 7.8	16.100 1 16.12, 16.13
16.101 1 16.12	16.102 1 16.12	16.103 3 16.11, 16.13, зн 2.1	16.104 2 16.11, зн 2.1, 7.8	16.105 2 16.6	16.106 3 16.12, 16.13	16.107 1 16.11, 16.12, зн 2.3	16.108 1 16.12	16.109 2 16.11	16.110 2 16.2, 16.11, зн 2.3, 7.8

16.111 1 16.10	16.112 3 16.2, 16.11, 16.13, зн 2.1	16.113 3 16.11, зн 2.1, 7.8	16.114 1 16.2, 16.11, 16.13, зн 2.3	16.115 2 16.13	16.116 1 16.6	16.117 3 16.11, 16.12, 16.14, зн 2.1, 7.8	16.118 1 16.12, 16.14, зн 2.3, 7.8	16.119 1 3.1, 3.2	16.120 2 16.12
16.121 1 16.12, 16.14, зн 2.3, 7.8	16.122 1 3.1, 3.2	16.123 3 16.11,16.12, 16.14, зн 2.1, 7.8	16.124 2 16.9	16.125 2 16.8, зн 5.62	16.126 1 16.2, 16.11, зн 2.3, 7.8	16.127 3 16.11, зн 2.3, 7.8	16.128 1 3.2	16.129 3 16.12, 16.13	16.130 3 16.11, 16.13, зн 2.3
16.131 3 16.2, 16.13	16.132 3 16.1, 16.6	16.133 3 16.11, зн 2.1, 7.8	16.134 2 16.12	16.135 2 16.9	16.136 1 16.11, зн 2.1	16.137 1 16.7	16.138 2 16.11,16.12, 16.14, зн 2.3, 7.8	16.139 2 3.6, 16.6	16.140 2 16.12
16.141 1 8.7.3 б, 16.9	16.142 1 16.12	16.143 1 3.2	16.144 3 16.11, зн 2.1	16.145 2 16.7	16.146 3 16.14, 16.12, зн 2.3, 7.8	16.147 3 16.11, 16.13, зн 2.2	16.148 2 16.15	16.149 2 3.6, 16.11, зн 2.3, 7.8	16.150 1 16.11, зн 2.1
16.151 1 16.2, 16.11, зн 2.3	16.152 2 16.11,16.12, 16.13, зн 2.1, 7.8	16.153 2 16.9	16.154 1 3.1, 3.2	16.155 3 16.2, 16.11, зн 2.3, 7.8	16.156 2 16.2	16.157 4 16.15	16.158 1 16.7	16.159 1 16.12	16.160 2 16.13
16.161 2 3.6, 16.12, 16.14, зн 2.3, 7.8	16.162 3 16.2, 16.11, зн 2.1, 7.8	16.163 2 16.11, зн 2.1	16.164 3 16.6	16.165 2 16.12	16.166 2 3.1, 3.2	16.167 3 16.13	16.168 2 16.11, 16.12, 16.14, зн 2.3, 7.8	16.169 1 16.5	16.170 2 16.7
16.171 3 16.10, 8.7.3 е	16.172 1 16.2	16.173 2 16.12	16.174 2 16.12	16.175 3 16.11, 16.12, 16.14, зн 2.1,7.8	16.176 4 16.2, 16.6	16.177 1 16.11, зн 2.3, 7.8	16.178 2 16.11, зн 2.3, 7.8	16.179 1 3.1, 3.2	16.180 2 16.2
16.181 3 16.11, 16.13, зн 2.3	16.182 3 16.2, 16.11, 16.13, зн 2.3	16.183 1 16.2, 16.11, зн 2.3, 7.8	16.184 1 16.11,16.13, зн 2.1	16.185 4 16.2	16.186 2 16.10	16.187 1 16.9	16.188 2 16.9	16.189 2 16.11	16.190 2 16.3
16.191 1 16.2	16.192 1 3.1, 3.2	16.193 3 16.12, 16.13	16.194 2 16.7	16.195 2 16.12	16.196 3 16.11, 16.12, 16.14, зн 2.1, 7.8	16.197 2 16.12	16.198 4 16.14, зн 2.1, 7.8	16.199 2 16.11, 16.12, зн 2.1	16.200 2 16.1, 16.12
16.201 3 16.5	16.202 1 16.8	16.203 2 16.12	16.204 1 3.1, 3.2	16.205 5 16.2,16.11, 16.12, 16.14, зн 2.1,7.8	16.206 3 16.9	16.207 3 16.2	16.208 1 16.12	16.209 2 16.11, 16.12, 16.14, зн 2.3, 7.8	16.210 1 16.2, 16.11, 16.12, 16.14, зн 2.3, 7.8
16.211 2 3.6, 16.12	16.212 2 16.1, 16.11	16.213 2 16.12	16.214 2 16.9	16.215 3 16.11, зн 2.1, 7 8	16.216 2 16.12	16.217 3 16.14, 16.12, зн 2.3, 7.8	16.218 2 16.2	16.219 2 16.12, 16.13	16.220 2 16.13, 16.12
16.221 1 16.12	16.222 2 3.6, 16.6	16.223 2 16.12	16.224 2 16.13	16.225 1 16.7	16.226 3 16.12	16.227 1 16.6	16.228 3 16.4	16.229 3 16.14, зн 2.1, 7.8	16.230 3 16.11, зн 2.1
16.231 1 16.10	16.232 1 16.12, 16.13	16.233 3 16.11, 16.13	16.234 1 3.1, 3.2	16.235 5 16.14	16.236 3 16.12, 16.13	16.237 2 16.7	16.238 2 16.2	16.239 1 16.12	16.240 3 16.12, 16.11, зн 2.1
16.241 3 16.11	16.242 1 16.12	16.243 2 16.13	16.244 4 16.2, 16.11, зн 2.1, 7.8	16.245 1 3.1, 3.2	16.246 2 16.7	16.247 3 16.11, зн 2.1, 7.8	16.248 2 16.2, 16.11, зн 2.3, 7.8	16.249 3 3.2, 16.14, 16.11	16.250 1 16.11,16.13 зн 2.3
16.251 2 16.14	16.252 1 16.12	16.253 1 16.11, 16.13	16.254 3 16.11, 16.13	16.255 2 ст. 41 [1], 16.12	16.256 1 ст. 41 [1, 16.12]				

17. Преимущества маршрутных транспортных средств

17.1 1 17.4, 3.6	17.2 2 17.3, 10.2	17.3 2 17.1, разм. 1.2	17.4 1 17.2	17.5 1 17.4	17.6 2 17.1, разм. 1.2	17.7 3 17.2, 10.4, 10.5	17.8 2 17.3, 3.1, 3.2	17.9 1 17.4, 9.4	17.10 2 17.3, 3.2, 10.2
17.11 3 17.3	17.12 1 17.1, 3.1, , разм. 1.2	17.13 1 17.2	17.14 1 17.2	17.15 2 17.2	17.16 3 17.1				

18. Проезд пешеходных переходов и остановок транспортных средств

18.1 3 18.8	18.2 2 18.4	18.3 2 18.1	18.4 1 18.9	18.5 2 18.5	18.6 1 18.2	18.7 1 18.8, 4.10	18.8 2 18.6	18.9 3 18.4, 3.6	18.10 1 18.1
18.11 2 18.1	18.12 1 18.8	18.13 3 18.4	18.14 1 18.6	18.15 1 3.1, 4.13	18.16 1 18.1, 1.10	18.17 2 18.7	18.18 2 18.2	18.19 1 18.3, 4.9	18.20 2 18.1
18.21 2 18.5	18.22 3 18.7	18.23 1 18.8	18.24 2 18.8	18.25 3 18.3	18.26 1 18.2, 4.9	18.27 2 18.8	18.28 2 8.7.3 д		

19. Пользование внешними световыми приборами

19.1 3 19.5	19.2 5 19.1 а	19.3 3 19.2	19.4 3 19.9	19.5 2 19.4	19.6 1 19.6	19.7 3 19.8	19.8 2 19.1 в	19.9 1 19.3	19.10 2 19.4
19.11 2 19.1 в	19.12 3 19.4	19.13 2 19.1 а	19.14 3 19.5	19.15 1 19.2	19.16 2 19.3	19.17 3 19.1 б	19.18 3 19.1 а	19.19 3 19.2	19.20 2 19.7

20. Движение через железнодорожные переезды

20.1 2 20.5 б, в, 8.7.3 е	20.2 1 20.1	20.3 2 20.9	20.4 2 20.3, 20.5 б	20.5 2 20.5 г	20.6 4 20.2	20.7 2 20.5 г	20.8 4 20.5 а, 8.11	20.9 2 20.8 а	20.10 2 20.5 в, 8.7.6 а

20.11 3 20.4	20.12 4 20.5 в, 3.1	20.13 1 20.8 в	20.14 3 20.2	20.15 3 20.7	20.16 2 20.10	20.17 3 20.6	20.18 2 20.3	20.19 2 20.5 в	20.20 2 20.5 в
20.21 3 20.5 а	20.22 1 20.9	20.23 1 20.5 б	20.24 2 20.8	20.25 2 20.4	20.26 1 20.7	20.27 4 20.2	20.28 3 20.2	20.29 4 20.7	20.30 1 20.5 в

21. Перевозка пассажиров

21.1 3 21.11 б	21.2 3 21.6	21.3 3 21.10	21.4 1 21.5	21.5 4 21.11 а	21.6 2 21.1	21.7 3 21.8	21.8 4 21.3	21.9 2 21.7	21.10 1 21.11 в
21.11 3 21.5	21.12 2 21.9	21.13 5 21.2	21.14 2 21.11 г						

22. Перевозка груза

22.1 1 22.3 г	22.2 1 22.3 а	22.3 3 22.4, 30.3 з	22.4 3 22.1	22.5 1 22.6	22.6 4 22.3 а, в, г	22.7 1 22.5	22.8 1 22.2	22.9 4 22.3 г	22.10 1 22.3 б
22.11 2 22.4	22.12 1 22.3 а	22.13 1 22.2, 22.3 б	22.14 2 22.4	22.15 5 22.6	22.16 2 22.2	22.17 5 22.3 в	22.18 2 22.4	22.19 1 22.3 а	22.20 2 22.4

23. Буксировка и эксплуатация транспортных составов

23.1 2 23.10 а	23.2 1 23.1	23.3 1 23.10 г	23.4 1 23.3	23.5 3 23.9	23.6 2 23.6	23.7 1 23.10 в	23.8 3 23.2 б, 23.7	23.9 4 23.9	23.10 3 23.7
23.11 4 23.10 а, б, в	23.12 2 23.10 б	23.13 1 23.3	23.14 3 23.8	23.15 3 23.4	23.16 3 23.1	23.17 3 23.10 г	23.18 3 23.5	23.19 2 23.11	23.20 2 23.4
23.21 2 23.3	23.22 3 23.10 г	23.23 3 23.1	23.24 1 23.9	23.25 1 23.3	23.26 3 23.10 г	23.27 3 23.10 г	23.28 3 23.10 д	23.29 5 23.10 б	23.30 4 23.10 г, ґ, д

24. Учебная езда

24.1 1 24.3	24.2 2 24.2	24.3 5 24.4	24.4 2 24.2	24.5 2 24.9, 27.2 д	24.6 2 24.2	24.7 3 24.5	24.8 3 24.9	24.9 2 24.3, 1.9	24.10 4 24.8

25. Движение транспортных средств в колоннах

25.1 1 25.3	25.2 1 25.1	25.3 2 25.4	25.4 1 25.2	25.5 2 25.5	25.6 5 25.1	25.7 1 25.5	25.8 3 25.1, 25.2	25.9 3 25.6	25.10 4 3.1, 25.2, 25.3

26. Движение в жилой и пешеходной зоне

26.1 5 26.4	26.2 3 26.1	26.3 1 26.3	26.4 3 26.2 б	26.5 5 26.2 г, 3.2	26.6 2 26.1	26.7 3 26.4	26.8 3 26.2 в	26.9 3 26.1	26.10 1 26.2 г, ґ

27. Движение по автомагистралям и дорогам для автомобилей

27.1 3 27.2 в	27.2 1 27.4	27.3 1 27.2 а	27.4 4 27.2 д	27.5 5 27.2 б, 12.6 г, 12.9 б	27.6 3 27.2 г	27.7 3 27.3	27.8 2 27.2 ґ	27.9 3 27.5	27.10 1 27.1
27.11 3 27.2 а, 6.7 б, 7.7 а	27.12 5 27.4, 4.14 д, 6.7 б	27.13 2 27.2 б	27.14 1 27.2 ґ	27.15 3 27.2 в	27.16 3 27.2 в	27.17 1 27.3	27.18 2 27.4 в	27.19 1 27.5	

28. Движение по горным дорогам и на крутых спусках

28.1 3 28.3 в	28.2 5 28.3 а	28.3 2 28.3 б	28.4 1 28.1	28.5 2 28.3 а	28.6 2 28.2 а	28.7 2 3.1, 3.2, 28.1	28.8 1 28.2 б	28.9 1 28.3 в	28.10 1 28.3 б

29. Международное движение

29.1 3 29.2	29.2 4 29.1 а, б	29.3 2 29.1 б

30. Номерные, опознавательные знаки, надписи и обозначения

30.1 1 30.6, 9.11	30.2 1 30.3 и	30.3 3 30.1	30.4 1 30.3 з, 22.4	30.5 2 30.3 г	30.6 3 30.3 д	30.7 3 30.3 й	30.8 2 30.3 ґ	30.9 4 30.4	30.10 4 30.3 е
30.11 4 30.7	30.12 2 30.3 и	30.13 2 30.3 є, 25.1	30.14 2 30.2	30.15 2 30.3 з	30.16 3 30.3 в	30.17 3 30.5	30.18 2 30.3 ґ	30.19 3 30.3 і	30.20 1 30.3 ж
30.21 3 30.3 а	30.22 1 30.3 к, 24.8	30.23 4 30.3 и	30.24 2 30.3 д	30.25 2 30.3 л	30.26 2 30.6	30.27 2 30.3 з, 22.4	30.28 1 30.3 ї	30.29 2 30.3 б	30.30 3 30.3 е

30.31 3 30.3 и	30.32 2 30.3 й	30.33 1 30.3 ж	30.34 1 30.3 г	

31. Техническое состояние транспортных средств и их оборудование

31.1 2 31.4.3 прим1	31.2 2 31.4.5 а	31.3 4 31.5	31.4 4 31.4.1 б, 31.4.2 а, 31.4.5 є	31.5 3 31.4.1д	31.6 3 31.4.7 д, ґ	31.7 1 31.3 б	31.8 4 31.4.2 б	31.9 3 31.6 б	31.10 5 31.4.3 б, в
31.11 1 31.3 а	31.12 3 31.4.5 а	31.13 4 31.6 а	31.14 2 31.3 в	31.15 4 31.4.1 б, 31.4.2 а, 31.4.5 є	31.16 2 31.4.7 г	31.17 1 31.4.7 прим	31.18 3 31.4.1 в,ґ	31.19 2 31.4.5 г	31.20 4 31.4.7 д, і, ї
31.21 4 31.4.1 ґ, 31.4.2 а, в	31.22 3 31.4.7 є прим. 2	31.23 4 31.4.1 б, 31.4.2 а, 31.4.5 є	31.24 3 31.5	31.25 5 31.6 в	31.26 2 31.4.5 а	31.27 3 31.4.7 б	31.28 3 31.6 а, 23.7	31.29 3 31.4.3 ґ	31.30 3 31.4.7 а
31.31 3 31.4.5 а	31.32 3 31.5	31.33 4 31.4.1г	31.34 1 31.4.7 г	31.35 3 31.4.1а	31.36 2 31.6 а	31.37 3 31.4.4 а, б	31.38 3 31.6 б	31.39 4 31.4.7 є	31.40 2 31.4.5 є
31.41 1 31.4.1 б	31.42 2 31.4.3 прим2	31.43 2 31.4.7 д	31.44 2 31.4.1 в	31.45 3 31.4.7 ж	31.46 4 31.4.1 е, 31.4.7 б, г	31.47 4 31.4.2 г	31.48 3 31.4.6 в	31.49 2 31 6 г	31.50 2 31.4.5 а
31.51 3 31.4.3 прим3	31.52 2 31.6 а	31.53 2 31.4.5 д	31.54 2 31.4.1д	31.55 2 31.4.5 в	31.56 2 31.6 б	31.57 3 31.4.7 в	31.58 3 31.4.3 г	31.59 1 31.4.2 в	31.60 2 31.4.7 прим
31.61 3 31.4.7 а	31.62 4 31.4.2 а	31.63 3 31.6 г	31.64 2 31.4.5 е	31.65 1 31.4.7 и, і	31.66 1 31.4.7 е	31.67 2 31.4.6 а	31.68 3 31.4.5 б	31.69 3 31.4.7 ґ	31.70 2 31.4.5 г
31.71 3 31.6 в	31.72 4 31.4.3 а	31.73 1 31.4.7 а	31.74 1 31.4.6 б	31.75 3 31.4.7 а	31.76 1 31.4.6 в	31.77 1 31.3 г	31.78 3 31.4.1 д		

32. Отдельные вопросы дорожного движения, требующие согласования

32.1 3 32.2 а	32.2 3 32.1 а	32.3 3 32.2 б	32.4 3 32.1 б	32.5 1 32.1 в	32.6 4 32.3	32.7 2 32.2 б	32.8 4 32.2 а	32.9 3 32.1 г	32.10 3 32.3

33. Дорожные знаки

33.1 3 зн 1.37	33.2 3 зн 4.4, 7.5.3	33.3 4 зн 5.23	33.4 2 2.7, 30.3 б, зн 3.34, 7.18	33.5 3 зн 6.15	33.6 3 зн 3.42	33.7 3 зн 3.1, 7.4.1	33.8 2 зн 1.27	33.9 4 зн 7.16, 1.32, 5.35.2	33.10 2 зн 2.5
33.11 2 зн 5.45	33.12 3 зн 3.41	33.13 1 зн 1.39	33.14 2 зн 4.1	33.15 3 зн 5.18	33.16 3 зн 3.3, 7.3.2	33.17 2 зн 7.8	33.18 2 зн 1.1, 1.6, 1.13, 1.22, 1.32	33.19 4 зн 3.24	33.20 2 зн 5.1
33.21 4 зн 4.10, 3.22, п. 10.5	33.22 1 зн 2.1	33.23 3 зн 3.29, 1.39, п.12.10-2 а	33.24 4 зн 1.6	33.25 2 зн 5.57.2	33.26 3 2.8, зн 3.34, 7.18	33.27 3 зн 5.11, разм. 1.2	33.28 4 зн 3.21	33.29 3 зн 6.21	33.30 2 зн 5.61.1
33.31 2 зн 1.38	33.32 2 зн 3.1, 3.34	33.33 1 зн 5.13	33.34 2 зн 2.3	33.35 2 зн 5.26	33.36 2 зн 3.25	33.37 3 зн 4.16	33.38 4 зн3.36	33.39 4 зн 1.14	33.40 2 зн 5.62
33.41 3 зн 7.2.2	33.42 4 зн 4.11	33.43 1 зн 3.43	33.44 1 зн 5.38, 7.17	33.45 2 зн 6.12	33.46 4 зн 3.29	33.47 3 зн 5.9	33.48 1 зн 3.2, 7.3.2, п. 1.10	33.49 2 зн 1.29	33.50 2 зн 5.35.1, 5.35.2
33.51 5 зн 2.2	33.52 2 зн 5.38, 7.2.1, 7.17	33.53 1 зн 3.35, 7.4.3	33.54 2 зн 1.27, 1.31.3	33.55 5 зн 3.1	33.56 2 зн 5.8	33.57 4 зн 1.16	33.58 3 зн 4.2	33.59 2 зн 5.17.2	33.60 4 зн 3.4
33.61 5 зн 1.8, 1.25, 1.27, 1.33, 1.37	33.62 4 зн 5.38, 7.6.5	33.63 4 зн 3.3	33.64 2 зн 5.3, п. 10.10	33.65 5 зн 3.34	33.66 2 зн 1.21	33.67 2 зн 5.13	33.68 4 зн 2.5	33.69 4 зн 6.19	33.70 2 зн 3.35, 7.4.5
33.71 4 зн 4.12	33.72 3 зн 3.36, 3.37	33.73 3 зн 5.31	33.74 1 зн 1.2, 5.48	33.75 2 зн 5.24.1, 5.24.2	33.76 3 зн 3.22	33.77 3 зн 5.37.2	33.78 1 зн 3.34, 7.18	33.79 4 зн 5.5	33.80 3 зн 7.1.2
33.81 1 зн 1.4.2	33.82 3 зн 3.22	33.83 3 зн 5.21.2	33.84 4 зн 2.1	33.85 3 зн 3.35, п 2.8	33.86 1 зн 5.1	33.87 2 зн 1 27, 1.31 1	33.88 2 зн 4.16, 5.30	33.89 3 зн 3.27	33.90 3 зн 5.38, 7.6.3
33.91 3 зн 3.19	33.92 3 зн 5.51	33.93 2 зн 1.29	33.94 1 зн 3.3, 5.19	33.95 2 зн 6.1	33.96 1 зн 3.36, 7.4.4	33.97 3 зн 5.2	33.98 4 зн 1.13	33.99 2 зн 3.23	33.100 2 зн 5.33
33.101 2 зн 2.6	33.102 1 зн 4.11, 7.9	33.103 3 зн 5.12	33.104 3 зн 3.2	33.105 2 зн 5.38, 7.14	33.106 2 зн 3.15	33.107 3 зн 1.5.2	33.108 2 зн 1.24	33.109 1 зн 3.35, 7.5.1	33.110 1 зн 5.18
33.111 3 зн 1.28	33.112 4 зн 5.35.1	33.113 3 зн 3.27	33.114 3 зн 7.20	33.115 3 зн 3.34	33.116 4 зн 1.37	33.117 3 зн 5.3	33.118 3 зн 6.8	33.119 2 зн 3.15	33.120 1 зн 5.61.3
33.121 3 зн 5.57.1	33.122 3 зн 3.1, п. 2.8	33.123 4 зн 4.1, 5.5	33.124 2 зн 1.30	33.125 4 зн 5.10.2	33.126 3 зн 3.34	33.127 3 зн 5.36.2	33.128 3 зн 3.10	33.129 2 зн 1.6	33.130 4 зн 7.2.1
33.131 5 зн 1.22, 2.1, 2.3	33.132 2 зн 2.4	33.133 4 зн 3.35	33.134 2 зн 5.49	33.135 2 зн 5.25	33.136 3 зн 3.3, 5.28.2	33.137 2 зн 1.3.2	33.138 3 зн 6.4	33.139 2 зн 5.41, 15.9 е	33.140 3 зн 3.29, 7.5.6
33.141 3 зн 4.10	33.142 1 зн 1.18	33.143 3 зн 3.25	33.144 2 зн 5.42, п 15.9 е	33.145 1 зн 1.39, 7.1.1	33.146 3 зн 5.10.1	33.147 2 зн 3.12	33.148 4 зн 7.2.2, 7.2.3, 7.2 4	33.149 2 зн 5.59	33.150 2 зн 3.35, 7.4.1

33.151 1 зн 5.54	33.152 2 зн 3.4	33.153 2 зн 1.12	33.154 1 зн 5.29.2	33.155 3 зн 6.17	33.156 2 зн 1.25	33.157 2 зн 4,1, п 8.7.3 а	33.158 1 зн 3.36	33.159 1 зн 5.20.3	33.160 1 зн 3.30, п 11,5, 12.6 г
33.161 3 зн 2.1, 2.4	33.162 3 зн 1.35	33.163 3 зн 3.41	33.164 2 зн 5.56	33.165 5 зн 4.11	33.166 2 зн 1.31.6	33.167 1 зн 3.25	33.168 2 зн 5.33, п. 26.3	33.169 2 зн 5.39, 7.14	33.170 3 зн 3.17, 7.1.1
33.171 3 зн 4.4	33.172 3 зн 1.1	33.173 2 зн 6.6	33.174 1 зн 3.31	33.175 3 зн 5.39, 7.6.4	33.176 1 зн 1.20	33.177 2 зн 3.33	33.178 4 зн 5.25	33.179 2 зн 3.38	33.180 2 зн 5.19
33.181 2 зн 5.8, 3.35, 7.5.4	33.182 5 зн 3.20	33.183 2 зн 1.15	33.184 1 зн 7.10	33.185 1 зн 5.52	33.186 1 зн 3.1, 3.6, 3.21	33.187 4 зн 2.2	33.188 2 зн 1.32	33.189 2 зн 5.18	33.190 3 зн 3.34
33.191 3 зн 1.4.1	33.192 2 зн 3.39	33.193 2 зн 5.3, п. 27.2	33.194 1 зн 4.2, 7.5.7	33.195 2 зн 5.31	33.196 4 зн 3.3, 5.28.1, 7.3.1	33.197 2 зн 6.23	33.198 2 зн 1.28, 1.31.1	33.199 4 зн 5.60	33.200 2 зн 3.22, 7.5.5
33.201 4 зн 2.4	33.202 2 зн 1.5.2	33.203 3 зн 3.5, 7.3.3	33.204 1 зн 5.58.2	33.205 2 зн 1.22	33.206 2 зн 3.35	33.207 2 зн 5.7.2	33.208 2 зн 6.3	33.209 4 зн 5.24.2	33.210 2 зн 3.27
33.211 2 зн 7.1.4, 1.28	33.212 3 зн 3.24	33.213 1 зн 1.39	33.214 3 зн 5.44	33.215 2 зн 6.14	33.216 3 зн 5.35.2	33.217 2 зн 1.2	33.218 3 зн 4.14	33.219 2 зн 3.42	33.220 4 зн 5.30
33.221 5 зн 1.4.3	33.222 1 зн 6.9	33.223 2 зн 3.26	33.224 3 зн 5.15	33.225 4 зн 2.2, разм 1.12	33.226 2 зн 3.14	33.227 1 зн 1.8, 7.11	33.228 5 зн 4.12	33.229 3 зн 7.6.2	33.230 2 зн 1.31.5
33.231 4 зн 4.7	33.232 2 зн 3.28	33.233 2 зн 1.14	33.234 2 зн 5.47	33.235 1 зн 2.3	33.236 2 зн 3.6	33.237 3 зн 6.13	33.238 3 зн 5.6	33.239 4 зн 7.8	33.240 2 зн 1.36, 7.2.1
33.241 3 зн 5.51	33.242 1 зн 3.9	33.243 1 зн 1.9	33.244 4 зн 4.11	33.245 1 зн 5.38, 7.6.1	33.246 4 зн 3.2, 3.3, 3.5, п. 1.10	33.247 1 зн 1.13, 7.13	33.248 3 зн 6.24	33.249 2 зн 5.21.2	33.250 1 зн 1.31.2
33.251 2 зн 3.11	33.252 2 зн 1.3.1	33.253 2 зн 5.53	33.254 3 зн 6.7	33.255 2 зн 4.1, 7.5.2	33.256 2 зн 1.19	33.257 4 зн 5.14	33.258 3 зн 7.4.6	33.259 3 зн 3.17	33.260 2 зн 5.23
33.261 2 зн 5.27	33.262 3 зн 1.27, 1.31.3, 1.31.6	33.263 3 зн 3.34	33.264 4 зн 6.16	33.265 2 зн 5.35.1, 5.35.2, 7.16	33.266 2 зн 1.17	33.267 4 зн 3.27	33.268 3 зн 4.15	33.269 1 зн 5.61.1	33.270 2 зн 3.22
33.271 2 зн 4.3	33.272 3 зн 3.18	33.273 5 зн 1.26	33.274 4 зн 5.40	33.275 3 зн 2.5	33.276 4 зн 3.24, 4.3, 4.6	33.277 4 зн 1.7	33.278 2 зн 5.50	33.279 3 зн 6.22	33.280 3 зн 1.3.2, 7.2.1
33.281 3 зн 1.5.1	33.282 3 зн 5.43	33.283 2 зн 3.13	33.284 2 зн 5.21.1	33.285 1 зн 3.37	33.286 5 зн 1.29	33.287 2 зн 5.39, 7.7, 7.19	33.288 4 зн 3.21	33.289 3 зн 1.34	33.290 3 зн 6.20
33.291 2 зн 4.5	33.292 3 зн 6.15, 7.15	33.293 1 зн 1.24	33.294 2 зн 2.1	33.295 1 зн 3.6	33.296 4 зн 5.7.1	33.297 4 зн 3.15	33.298 3 зн 5.29.3	33.299 3 зн 3.30, 4.17	33.300 4 зн 5.16
33.301 1 зн 1.37, 4.11, 5.57.2	33.302 2 зн 3.8	33.303 1 зн 5.45, 5.47	33.304 2 зн 4.10	33.305 2 зн 3.36, 3 37	33.306 3 зн 1.13, 7.12	33.307 4 зн 5.55	33.308 4 зн 6.5	33.309 2 зн 3.16	33.310 2 зн 5.32
33.311 2 зн 6 2	33.312 1 зн 1.23.4	33.313 1 зн 5.5, 3 36, п. 15.3	33.314 2 зн 3.7	33.315 1 зн 4.8	33.316 2 зн 5.24.1	33.317 1 зн 3.27, разм. 1.1	33.318 3 зн 1.10	33.319 2 зн 5.48	33.320 1 зн 3.4, 7.3.3
33.321 2 зн 6.18	33.322 3 зн 1.4.2	33.323 1 зн 5.20.1	33.324 1 зн 3.23	33.325 5 зн 1.15	33.326 2 зн 5.17.1, п 11.4, 14.6 е	33.327 2 зн 3.12	33.328 2 зн 7.12	33.329 2 зн 5.4	33.330 4 зн 3 10
33.331 1 зн 3.2, 7.5.8	33.332 1 зн 5.46, п 12.6 г	33.333 3 зн 1.30	33.334 3 зн 6.10	33.335 3 зн 5.38, 7.6.3	33.336 1 зн 3.40, 7.1.1	33.337 4 зн 1.23.3	33.338 2 зн 4.16	33.339 2 зн 3.25	33.340 4 зн 5.13
33.341 2 зн 3.19	33.342 3 зн 7.2.2, 7.2.6	33.343 2 зн 1.11	33.344 1 зн 5.29.1	33.345 2 зн 3.3	33.346 3 зн 5.11	33.347 1 зн 3.29	33.348 5 зн 4.4, п 10.4	33.349 3 зн 5.22	33.350 3 зн 1.5.3
33.351 2 зн 5.9	33.352 3 зн 3.20	33.353 3 зн 1.6	33.354 3 зн 5.34	33.355 2 зн 4.13	33.356 3 зн 3.32	33.357 5 зн 5.26	33.358 4 зн 3.34, 7.18, п 2.8	33.359 2 зн 1.21	33.360 4 зн 3.35, 7.4.2
33.361 2 зн 3.27	33.362 2 зн 5.62	33.363 3 зн 3.25	33.364 2 зн 5.62	33.365 2 зн 3.25	33.366 2 зн 2.5	33.367 4 зн 3.42	33.368 2 зн 2.6	33.369 1 зн 2.2	33.370 2 зн 2.4
33.371 2 зн 1.28, 1.31.1	33.372 2 зн 2.1	33.373 2 зн 1.34	33.374 2 зн 1.38	33.375 2 зн 1.4.2	33.376 2 зн 1.39, 7.2.1	33.377 1 зн 1.10	33.378 2 зн 1.40, 7.1.4	33.379 3 зн 1.18	33.380 2 зн 1.5.1
33.381 2 зн 3.27, 7 2.1	33.382 4 зн 4.1, 7.5.1	33.383 4 зн 3.24, 7.5.2	33.384 1 зн 3.24, 7.5.2	33.385 2 зн 2.1, 7.1.2	33.386 2 зн 1.32, 7.1.1	33.387 3 зн 5.70	33.388 3 зн 5 38, 7 6.2	33.389 3 зн 2.1, 2 2	33.390 3 зн 3.23, 4.5
33.391 1 зн 4.13	33.392 2 зн 5.6	33.393 3 зн 4.9, разм. 2.3	33.394 2 зн 5.10.2	33.395 2 зн 3.34	33.396 3 зн 3 35	33.397 5 зн 3.35, 7 2.4	33.398 1 зн 3 35, 7 2.2	33.399 2 зн 3.34, 7.18	33.400 1 зн 3.34, розм.1.4
33.401 2 зн 3.34, 7.2.2	33.402 5 зн 3.34, 7.2.3	33.403 1 зн 3.34, 7.2.2	33.404 3 зн 3.34, 7.2.2	33.405 2 зн 3.34, 7.2.4	33.406 3 зн 3.34, 5.5	33.407 1 зн 3.38	33.408 3 зн 4.3	33.409 2 зн 4.4	33.410 2 зн 4.3
33.411 4 зн 3.2, 7.3.1	33.412 2 розм. 1.10.1, зн 3.35	33.413 1 зн 3.21	33.414 4 зн 4.1	33.415 2 зн 5.33	33.416 2 8 2, зн 4.1, 5.26	33.417 3 зн 3.1, 7.4.2	33.418 4 зн 5.26	33.419 3 зн 3.2	33.420 3 зн 5.73
33.421 2 зн 2.4, 7.1.1	33.422 2 8.10, зн 2.2	33.423 2 зн 2.1, 7.1.2	33.424 3 зн 3.4	33.425 1 зн 2.2	33.426 3 зн 3.4	33.427 2 зн 2.2, 16.1	33.428 3 зн 3 8	33.429 1 зн 2.2	33.430 1 зн 3 9
33.431 2 зн 1.5.2	33.432 1 зн 2.1, 7.1.1	33.433 2 зн 1.7	33.434 2 зн 3.22	33.435 1 зн 1.21	33.436 1 зн 3.23	33.437 2 зн 1.29.1	33.438 3 зн 3.23	33.439 3 зн 1.14	33.440 2 зн 3.24

33.441 2 зн 3.21	33.442 2 зн 3.29	33.443 3 зн 3.15	33.444 4 зн 3.29	33.445 3 зн 3.21, 7.1.1	33.446 3 зн 3.30	33.447 2 зн 3.21, 4.10	33.448 1 зн 3.27	33.449 2 зн 3.25	33.450 3 зн 3.27
33.451 3 зн 5.38	33.452 3 зн 5.39	33.453 3 зн 1.23.4	33.454 1 зн 1.33, 7.2.1	33.455 2 зн 1.28, 1.31.1	33.456 2 зн 1.29	33.457 2 зн 1.27, 1.31.3, 1.30	33.458 3 зн 1.24	33.459 2 зн 1.32	33.460 3 зн 1.26, 5.6
33.461 2 зн 4 6	33.462 2 зн 4.6	33.463 1 зн 4.1	33.464 2 зн 4.1	33.465 1 зн 4.1	33.466 2 зн 4.1	33.467 2 зн 3.38	33.468 1 зн 4.1	33.469 2 зн 1,37, 4.7, 5.5	33.470 3 зн 1.3.2, 7.2.1
33.471 4 зн 5.8, 5.10.1, 5.11	33.472 2 зн 1.39, 7.21.3	33.473 2 зн 1.39, 7.21.1	33.474 4 зн 5.38, 7.6.1	33.475 2 зн 5.38, 7.6.3	33.476 3 зн 5.38, 7.7	33.477 3 зн 3.29, 7.9	33.478 2 зн 5.38, 7.17	33.479 2 12.7, зн 5.20.2	33.480 4 зн 5.9.2
33.481 2 зн 5.5	33.482 2 зн 5.15	33.483 5 зн 5.5	33.484 2 зн 5.15	33.485 3 зн 5.16	33.486 3 зн 4.16, 7.9	33.487 3 8 8 б, зн 5.7.1	33.488 3 8.2, зн 1.37, 4.8	33.489 4 зн 5.7.2	33.490 4 зн 4.11, 7.9
33.491 2 зн 5.29.3	33.492 3 зн 5.27	33.493 3 зн 5.30, 7.13	33.494 2 зн 5.24.1	33.495 3 зн 5.32	33.496 2 зн 5.24.2	33.497 3 зн 5.33	33.498 1 зн 5.63.1	33.499 4 зн 3.3, 5.28.3	33.500 3 зн 5.41.1, 15.9 е, 15.10 а

34. Дорожная разметка

34.1 4 разм 1.2, 1.23	34.2 4 разм 1.5, 1.6	34.3 1 разм 1.19	34.4 1 разм 1.4	34.5 4 разм 1.9	34.6 1 разм 1.12, п. 8.10	34.7 1 разм 1.10.1	34.8 2 разм 1.18	34.9 3 разм 1.3	34.10 2 разм 1.2
34.11 2 разм 1.2	34.12 3 разм 1.30	34.13 2 разм 1.11	34.14 2 разм 1.14.1	34.15 1 разм 1.5	34.16 2 разм 1.13	34.17 3 разм 1.27	34.18 3 разм 1.8	34.19 2 разм 1.2	34.20 1 разм 1.21
34.21 2 разм 1.23	34.22 3 разм 1.15	34.23 2 разм 1.18	34.24 2 разм 1.9, 8.7.4	34.25 2 разм 1.16.3	34.26 3 разм 1.11	34.27 2 разм 1.14.4	34.28 1 разм 1.9, п. 8.7.4	34.29 2 разм 1.18	34.30 1 разм 1.1
34.31 1 разм 1.17, 15.9 е	34.32 3 разм 1.1	34.33 2 разм 1.5	34.34 2 поясн. к разм, зн 1.32, 4.9, п. 8.2	34.35 3 разм 1.1, 1.16.4	34.36 3 разм 1.6	34.37 1 разм 2.6	34.38 2 разм 1.16.2	34.39 4 разм 1.19	34.40 3 разм 1.1
34.41 2 разм 1.1	34.42 2 разм 2.2	34.43 2 разм 1.1, п 14.6 г	34.44 2 п. 8.6 ж	34.45 2 разм 1.11, 17.1	34.46 1 разм 1.17, 15.9 е	34.47 2 разм 2.3	34.48 2 разм 1.14.3	34.49 4 разм 1.22	34.50 2 разм 2.7
34.51 1 разм 1.11	34.52 3 разм 1.17	34.53 3 разм 1.14.2	34.54 3 разм 1.7	34.55 3 разм 2.5	34.56 1 разм 2.1	34.57 3 разм 1.20	34.58 2 разм 1.11		

35. Основы безопасности дорожного движения

БДР 1 1	БДР 2 1	БДР 3 3	БДР 4 4	БДР 5 3	БДР 6 3	БДР 7 2	БДР 8 3	БДР 9 1	БДР 10 3
БДР 11 3	БДР 12 3	БДР 13 1	БДР 14 1	БДР 15 2	БДР 16 1	БДР 17 2	БДР 18 2	БДР 19 2	БДР 20 3
БДР 21 2	БДР 22 3	БДР 23 2	БДР 24 3	БДР 25 2	БДР 26 1	БДР 27 3	БДР 28 3	БДР 29 3	БДР 30 2
БДР 31 1	БДР 32 4	БДР 33 2	БДР 34 2	БДР 35 1	БДР 36 2	БДР 37 1	БДР 38 1	БДР 39 3	БДР 40 3
БДР 41 4	БДР 42 1	БДР 43 1	БДР 44 3	БДР 45 2	БДР 46 3	БДР 47 4	БДР 48 1	БДР 49 2	БДР 50 2
БДР 51 1	БДР 52 2	БДР 53 1	БДР 54 3	БДР 55 3	БДР 56 2	БДР 57 2	БДР 58 4	БДР 59 1	БДР 60 4
БДР 61 2	БДР 62 2	БДР 63 2	БДР 64 3	БДР 65 3	БДР 66 2	БДР 67 4	БДР 68 1	БДР 69 2	БДР 70 4

36. Основы оказания первой медицинской помощи при дорожно-транспортных происшествиях

Мед. 1 2	Мед. 2 2	Мед. 3 1	Мед. 4 3	Мед. 5 2	Мед. 6 3	Мед. 7 3	Мед. 8 3	Мед. 9 1	Мед. 10 3
Мед. 11 2	Мед. 12 1	Мед. 13 5	Мед. 14 3	Мед. 15 3	Мед. 16 2	Мед. 17 3	Мед. 18 3	Мед. 19 2	Мед. 20 1
Мед. 21 1	Мед. 22 3	Мед. 23 2	Мед. 24 1	Мед. 25 1	Мед. 26 2	Мед. 27 4	Мед. 28 2	Мед. 29 2	Мед. 30 3
Мед. 31 3	Мед. 32 2	Мед. 33 2	Мед. 34 3	Мед. 35 3	Мед. 36 1	Мед. 37 3	Мед. 38 2	Мед. 39 2	Мед. 40 3
Мед. 41 2	Мед. 42 1	Мед. 43 2	Мед. 44 3	Мед. 45 2	Мед. 46 2	Мед. 47 3	Мед. 48 3	Мед. 49 3	Мед. 50 1

37. Основы автотранспортного права

Зак.1 4 ст.16 [1], ст.7 [4], п.2.14 в, г [6]	Зак.2 5 ст.16 [1], п.2.14 е[6]	Зак.3 4 п.3 [7]	Зак.4 2 ст 262-1 [4]	Зак.5 4 ст.27 [5]	Зак.6 5 ч.7 ст.121, ч.2 ст.130 [4]	Зак.7 1 ст. 263 [4]	Зак.8 4 п. 4 [8]	Зак.9 4 ч.1 ст.286 [3]	Зак.10 2 ч.2 ст.286 [3]
Зак.11 2 ч.3 ст.286 [3]	Зак.12 4 ст.286 [3]	Зак.13 3 ст.136 [3]	Зак.14 1 ст.265 [4]	Зак.15 4 ст.122-4 [4]	Зак.16 5 ст.122-2 [4]	Зак.17 1 ч.1 ст.130 [4]	Зак.18 4 ч. 2 ст.123 [4]	Зак.19 4 ч.1 ст.130 [4]	Зак.20 4 ч.1 ст.130 [4]

Зак.21	Зак.22	Зак.23	Зак.24	Зак.25	Зак.26	Зак.27	Зак.28	Зак.29	Зак.30
4 п. 9, 12 [8]	1 п. 8 [8]	3 ст.266 [4]	5 ст.124 [4]	1 ч.2 ст.126 [4]	1 ч.4 ст.126 [4]	3 ст.267 [4]	1 ч.3 ст.122 [4]	2 ст.221 [4]	3 ст.264 [4]

38. Европротокол

Єв.1	Єв.2	Єв.3	Єв.4	Єв.5	Єв.6	Єв.7	Єв.8	Єв.9	Єв.10
1 2.11 [6]	3 ст.33 [2]	3 ст.33 [2]	3 ст.33 [2]	1 ст.33 [2]	3 ст.33 [2]	4 ст.33 [2]	2 ст.33 [2]	2 ст.33 [2]	2 ст.33 [2]

39. Этика и психофизиология водителя

Ет.1	Ет.2	Ет.3	Ет.4	Ет.5	Ет.6	Ет.7	Ет.8	Ет.9	Ет.10
2	2	3	3	3	2	2	2	2	2
Ет.11	Ет.12	Ет.13	Ет.14	Ет.15	Ет.16	Ет.17	Ет.18	Ет.19	Ет.20
2	1	1	1	4	3	4	5	2	4

40. Основы устройства транспортного средства

Буд. 1	Буд. 2	Буд. 3	Буд. 4	Буд. 5	Буд. 6	Буд. 7	Буд. 8	Буд. 9	Буд. 10
4	4	1	4	4	4	3	5	3	2
Буд. 11	Буд. 12	Буд. 13	Буд. 14	Буд. 15	Буд. 16	Буд. 17	Буд. 18	Буд. 19	Буд. 20
4	2	4	4	3	4	2	3	3	4
Буд. 21	Буд. 22	Буд. 23	Буд. 24	Буд. 25	Буд. 26	Буд. 27	Буд. 28	Буд. 29	Буд. 30
3	4	1	1	3	3	4	4	3	3
Буд. 31	Буд. 32	Буд. 33	Буд. 34	Буд. 35	Буд. 36	Буд. 37	Буд. 38	Буд. 39	Буд. 40
1	4	3	4	3	2	4	2	4	3
Буд. 41	Буд. 42	Буд. 43	Буд. 44	Буд. 45	Буд. 46	Буд. 47	Буд. 48	Буд. 49	Буд. 50
2	2	1	3	3	1	2	3	3	4

41. Работа и отдых водителя транспортного средства [9]

Пв. 1	Пв. 2	Пв. 3	Пв. 4	Пв. 5	Пв. 6	Пв. 7	Пв. 8	Пв. 9	Пв. 10
4	2	3	3	3	3	2	3	4	2

42. Эксплуатация транспортного средства и его влияние на окружающую среду

Ек. 1	Ек. 2	Ек. 3	Ек. 4	Ек. 5	Ек. 6	Ек. 7	Ек. 8	Ек. 9	Ек. 10
4	1	4	1	4	4	1	3	4	1
Ек. 11	Ек. 12	Ек. 13	Ек. 14	Ек. 15	Ек. 16	Ек. 17	Ек. 18	Ек. 19	Ек. 20
1	3	2	1	3	1	1	4	3	1
Ек. 21	Ек. 22	Ек. 23	Ек. 24	Ек. 25	Ек. 26	Ек. 27	Ек. 28	Ек. 29	Ек. 30
3	3	3	3	3	1	2	4	3	2

[1] – Закон Украины «О дорожном движении»
[2] – Закон Украины «Об обязательном страховании гражданско-правовой ответственности владельцев наземных транспортных средств»
[3] – Уголовный Кодекс Украины
[4] – Кодекс Украины об административных правонарушениях
[5] – Гражданский процессуальный Кодекс Украины
[6] – Постановление Кабинета Министров Украины № 1036 от 10.10.2001 «О Правилах дорожного движения Украины»
[7] – Постановление Кабинета Министров Украины № 137 от 30.01.2012 «Об утверждении Порядка проведения обязательного технического контроля и объемов проверки технического состояния транспортных средств, технического описания и образца протокола проверки технического состояния транспортного средства»
[8] – Постановление Кабинета Министров Украины № 1103 от 17.12.2008 «Об утверждении Порядка направления водителей транспортных средств для проведения осмотра с целью выявления состояния алкогольного, наркотического или другого опьянения или пребывания под влиянием врачебных препаратов, снижающих внимание и скорость реакции, и проведение такого осмотра»
[9] – Приказ Министерства транспорта и связи Украины от 07.06.2010 № 340 «Об утверждении Положения о рабочем времени и времени отдыха водителей колесных транспортных средств» (зарегистрирован в Министерстве юстиции Украины 14.09.2010 под № 811/18106).

Обратная сторона экзаменационной карточки, используемой при сдаче практического экзамена по управлению транспортными средствами в сервисных центрах МВД Украины *

ПЕРШИЙ ЕТАП ПРАКТИЧНОГО ІСПИТУ (кат. « _____ »)

Типові помилки	Кількість помилок: 1 спроба	2 спроба	3 спроба
1. Підготовка до початку руху Не підготувався до початку руху (не пристебнув пасок безпеки, не відрегулював дзеркала, підголівник та сидіння під себе), не увімкнув/вимкнув світловий покажчик повороту перед/після початком руху.	1 ☐ 2 ☐	1 ☐ 2 ☐	1 ☐ 2 ☐
2. Зупинка транспортного засобу на підйомі/спуску Перетнув стоп-лінію, не зупинився в установленому місці, зупинив роботу двигуна при виконанні вправи, ТЗ відкотився назад більш ніж на 20 см.	1 ☐ 2 ☐	1 ☐ 2 ☐	1 ☐ 2 ☐
3. Заїзд у двір «гараж» з правого/лівого боку (ширина гаражу + 1 м до ширини автомобіля) Зупинив роботу двигуна при виконанні вправи, доторкнувся до фішки/конуса або її збив, зовнішні контури ТЗ виступають за контрольні лінії.	1 ☐ 2 ☐	1 ☐ 2 ☐	1 ☐ 2 ☐
4. Маневрування (змійка, вісімка, габаритне коло) 4.1. Невиконання розворотів та поворотів малого радіуса. 4.2. Торкання під час виконання маневру дорожнього покриття ногою (ногами).	1 ☐ 2 ☐	1 ☐ 2 ☐	1 ☐ 2 ☐
5. Розворот в обмеженому просторі з одноразовим включенням задньої передачі Зупинив роботу двигуна при виконанні вправи, доторкнувся до фішки або її збив.	1 ☐ 2 ☐	1 ☐ 2 ☐	1 ☐ 2 ☐
6. Паркування ТЗ біля бордюру (паралельно) заднім ходом (довжина - 6 м, ширина - 2,5 м) Доторкнувся до фішки/конуса або її збив, зовнішні контури ТЗ виступають за контрольні лінії.	1 ☐ 2 ☐	1 ☐ 2 ☐	1 ☐ 2 ☐
7. Рух по прямій 7.1. Відхилення від заданої траєкторії під час керування ТЗ на мінімальній швидкості (5 км/год.), не знімаючи ніг з підніжки. 7.2. Невиконання переключення передач з нижчих на вищі і вищих на нижчі.	1 ☐ 2 ☐	1 ☐ 2 ☐	1 ☐ 2 ☐

ДРУГИЙ ЕТАП ПРАКТИЧНОГО ІСПИТУ (кат. « _____ »)

Типові помилки	Кількість помилок: 1 спроба	2 спроба	3 спроба
1. Підготовка до початку руху Не підготувався до початку руху (не пристебнув пасок безпеки, не відрегулював дзеркала, підголівник та сидіння під себе), не увімкнув/вимкнув світловий покажчик повороту перед/після початком руху, не подивився в дзеркало заднього виду, не повернув голову в бік виконання маневру.	1 ☐ 2 ☐	1 ☐ 2 ☐	1 ☐ 2 ☐
2. Маневрування, швидкість руху 2.1. Не увімкнув/вимкнув світловий покажчик повороту під час виконання/завершення маневру, не впевнився в безпечності виконання маневру, перевищив установлену швидкість руху ТЗ. 2.2. Перед поворотом (розворотом) завчасно не зайняв відповідне крайнє положення на проїзній частині. 2.3. Під час маневрування, повороту або розвороту не пропустив (створив перешкоду) ТЗ. 2.4. Під час руху не дотримувався дистанції (3 сек) і бічного інтервалу, що забезпечують безпеку руху.	1 ☐ 2 ☐	1 ☐ 2 ☐	1 ☐ 2 ☐
3. Розміщення ТЗ на проїзній частині, дотримання вимог дорожньої розмітки та знаків 3.1. Проїхав у напрямку, не дозволеному розміткою 1.18 або дорожніми знаками 5.16, 5.17.1, 5.17,2, 5.18, 5.19 та знаками 3.1 - 3.4, 3.7 та 4.1 - 4.3. 3.2. Виїхав на розділювальну смугу, узбіччя, тротуар, пішохідну доріжку.	1 ☐ 2 ☐	1 ☐ 2 ☐	1 ☐ 2 ☐
4. Сигнали регулювання, проїзд перехресть 4.1. При зупинці на заборонний сигнал світлофора або на заборонний жест регулювальника перетнув «СТОП-лінію», позначену дорожніми знаками або дорожньою розміткою. 4.2. Виїхав на перехрестя (пішохідний перехід) при утвореному заторі, створив перешкоду для руху ТЗ і пішоходів. 4.3. Проїхав на заборонний сигнал світлофора або на заборонний жест регулювальника.	1 ☐ 2 ☐	1 ☐ 2 ☐	1 ☐ 2 ☐
5. Зупинка і стоянка 5.1. Здійснив зупинку/стоянку в місцях, де вона заборонена, а також в зоні дії знаків 3.34 - 3.35. 5.2. Відкрив двері ТЗ, створив перешкоду іншим учасникам руху або залишив ТЗ, не переконавшись, що самостійний рух ТЗ неможливий.	1 ☐ 2 ☐	1 ☐ 2 ☐	1 ☐ 2 ☐
6. Проїзд пішохідних переходів і зупинок маршрутних ТЗ, пріоритет маршрутних ТЗ 6.1. Не зупинився (не зменшив швидкість руху) перед пішохідним переходом, щоб пропустити пішоходів, які перетинають проїзну частину. 6.2. Рухався по смузі для руху маршрутних ТЗ. 6.3. Не надав дорогу тролейбусу/автобусу, який починав рух від позначеного місця.	1 ☐ 2 ☐	1 ☐ 2 ☐	1 ☐ 2 ☐
7. Аварійні ситуації 7.1. Виконав обгін, розворот у випадках, коли це заборонено, або в місцях, де це заборонено. 7.2. При проїзді перехрестя не надав дорогу (створив перешкоду) ТЗ, які мають перевагу в русі. 7.3. Під час руху або виконанні маневру не пропустив (створив перешкоду) ТЗ або пішоходам, які мали перевагу в русі. 7.4. Не зупинився на заборонний сигнал світлофора або жест регулювальника. 7.5. Не виконав вимоги ПДР, створивши ситуацію, що викликала необхідність втручання екзаменатора в управління автомобілем для запобігання дорожньо-транспортної пригоди.	1 ☐ 2 ☐	1 ☐ 2 ☐	1 ☐ 2 ☐

З маршрутом руху ознайомлений(а) _____ (підпис особи, що складатиме іспит)

З помилками ознайомлений(а) _____ (підпис особи, що складала іспит)

сервісний центр МВС України

hsc.gov.ua (044) 290-19-88 fb.com/hsc.gov.ua

* Ссылка: http://hsc.gov.ua/wp-content/uploads/2018/04/CHek-list.pdf

В каких случаях может остановить полицейский

О том, каким образом полицейский может останавливать транспортные средства, изложено в ***Правилах дорожного движения Украины:***

8.9. Требование об остановке транспортного средства подается полицейским с помощью:

а) сигнального диска с красным сигналом или светоотражателем либо руки, указывающей на соответствующее транспортное средство и дальнейшее место его остановки;

б) включенного проблескового маячка синего и красного или только красного цвета и (или) специального звукового сигнала;

в) громкоговорящего устройства;

г) специального табло, на котором указывается требование об остановке транспортного средства.

Водитель должен остановить транспортное средство в указанном месте с соблюдением правил остановки.



На месте ДТП или в месте проведения контроля за соблюдением безопасности дорожного движения полицейский может подавать сигнал об остановке, предусмотренный пунктом 8.8 «в» Правил.

3.5. Приближаясь к неподвижному транспортному средству с включенным проблесковым маячком синего цвета и специальным звуковым сигналом (либо без включенного специального звукового сигнала), стоящему на обочине (возле проезжей части) или на проезжей части, водитель должен снизить скорость до 40 км/ч и в случае подачи регулировщиком соответствующего сигнала остановиться. Продолжать движение можно только с разрешения регулировщика.

Право останавливать транспортные средства (ТС) предоставлено полицейским статьей 31 Закона Украины «О Национальной полиции».

Основания (статья 35 Закона), позволяющие полицейским останавливать ТС:

1) водитель нарушил Правила дорожного движения;

2) есть очевидные признаки, свидетельствующие о **технической неисправности** ТС;



3) есть информация, свидетельствующая о причастности водителя или пассажиров ТС **к совершению ДТП, уголовного или административного правонарушения**, или если есть информация, которая свидетельствует о том, что ТС или груз могут быть объектом или орудием совершения ДТП, уголовного или административного правонарушения;

4) ТС находится в розыске;

5) необходимо осуществить опрос водителя или пассажиров об обстоятельствах совершения ДТП, уголовного или административного правонарушения, свидетелями которого они являются или могли быть;

6) необходимо привлечь водителя ТС к оказанию помощи другим участникам дорожного движения или полицейским **или как свидетеля** при оформлении протоколов об административных правонарушениях или материалов ДТП;

7) уполномоченный орган государственной власти принял **решение об ограничении или запрете движения;**

8) способ закрепления груза на ТС **создает опасность** для других участников дорожного движения;

9) нарушение порядка установки на ТС **специальных световых или звуковых сигнальных устройств.**

Полицейский обязан проинформировать водителя о конкретной причине остановки им ТС с подробным описанием основания остановки.

Обращаясь к лицу, или в случае обращения лица к полицейскому, полицейский обязан назвать свою фамилию, должность, специальное звание и предъявить по его требованию служебное удостоверение, предоставив возможность ознакомиться с изложенной в нем информацией, не выпуская его из рук (часть 3 статьи 18 Закона).

ПЕРЕЧЕНЬ МЕДИКАМЕНТОВ АВТОМОБИЛЬНОЙ АПТЕЧКИ АМА-1*

(легковые автомобили и ТС с количеством пассажиров до 9 человек)

Согласно ДСТУ 3961-2000 и изменению № 2, утвержденному приказом Минэкономразвития № 622 от 11.06.2013 года (вступили в силу с 1 сентября 2013 года)

НАБОР № 1

1. Средства для остановки кровотечений, наложения повязок при травмах	
Жгут для остановки кровотечения (1 ед.)	Применяют для временной остановки кровотечения из сосудов конечностей в случае, если не удалось остановить кровотечение другими способами. Накладывают на 10–15 см выше места ранения на одежду или мягкую ткань. Концы жгута фиксируются, после чего на рану накладывается стерильная повязка. Натяжение жгута каждый час (на морозе – каждые 30 мин.) следует ослаблять для восстановления кровообращения. Под жгут кладется записка с указанием даты и времени наложения жгута. **Накладывается на время более чем 1,5 часа.**
Бинт эластичный 5 м х 10 см (1 ед.)	Для наложения повязок, особенно в случае венозных кровотечений. Можно использовать для фиксации шин.
Бинт марлевый стерильный 5 м х 10 см (1 ед.), 7 м х 14 см (1 ед.)	Для перевязки, фиксации салфеток, а также для наложения повязки непосредственно на рану.
Бинт марлевый нестерильный 5 м х 10 см (1 ед.) и 7 м х 14 см (1 ед.)	Для фиксации стерильных элементов, наложенных непосредственно на рану, для фиксации шин.
Салфетки с хлоргексидином или их заменители 6 см х 10 см (2 ед.)	Для наложения на открытую рану (обезболивают и ускоряют заживление ран, **обладают антисептическим действием**). Перед использованием необходимо смочить салфетку водой, наложить на рану (после остановки кровотечения) и зафиксировать бинтом или пластырем. Периодически салфетку нужно смачивать водой.
Салфетки для обработки ран с фурагином 6 см х 10 см (2 ед.)	Для наложения на открытую рану (обезболивают и ускоряют заживление, **обладают выраженным кровоостанавливающим действием**). Перед использованием необходимо смочить одну (или несколько) салфеток водой, наложить на рану. Наиболее эффективны при капиллярном кровотечении. Поверх салфетки с фурагином накладываются марлевые салфетки для увеличения впитывания и уменьшения подсыхания повязки. Салфетки фиксируют бинтом или пластырем.
При большом кровотечении на рану накладывают салфетку с хлоргексидином, затем с фурагином, а поверх – стерильную салфетку.	
Салфетки стерильные 6 см х 10 см (6 ед.)	После открытия пакета накладывают непосредственно на рану, ожоги. После наложения салфетки на рану ее нужно зафиксировать бинтом или пластырем.
2. Дополнительные средства	
Ножницы (1 ед.)	Для разрезания бинта, одежды и т. п. Во время разрезания ножницы тупым концом должны прилегать к телу пострадавшего.

НАБОР № 2

1. Средства для наложения повязок при травмах	
Косынка медицинская перевязочная 50 см х 50 см (1 ед.)	Используется для фиксации конечностей при переломах, вывихах, для наложения повязок и остановки кровотечений. Для остановки кровотечения косынку несколько раз обматывают вокруг конечности, концы завязывают узлом, под который подкладывают деревянную палочку и вращают ее до тех пор, пока кровотечение не остановится. Для того, чтобы закрутка не раскрутилась, один конец палочки фиксируют под материю. Для восстановления кровообращения закрутку каждые 15 мин. следует ослаблять, а потом снова затягивать.
Гелевая повязка для ожогов или противоожоговый набор на гелевой основе (1 ед.)	Используют при ожогах на догоспитальном этапе. Накладывают непосредственно на место ожога и фиксируют бинтом.
2. Дополнительные средства	
Пленка (клапан) для проведения искусственной вентиляции легких (1 ед.)	Предназначены для защиты спасателя и пострадавшего при проведении искусственной вентиляции легких методом «рот-в-рот». Помогают избежать непосредственного контакта со ртом, носом и лицом (со слюной или кровью) потерпевшего. Применяется так: пленкой накрывается рот и нос пострадавшего, клапан размещается над открытым ртом, затем вдыхается воздух в рот пострадавшего.
Перчатки № 8 полиэтиленовые, комплект (1 ед.)	Предназначены для непродолжительной защиты кожи рук от воздействия агрессивной среды во время оказания экстренной медицинской помощи пострадавшему.
Термопокрывало мед. назначения 160 см х 210 см (1 ед.)	Используют для обогрева пострадавшего при низких температурах и для его размещения в противошоковом положении. После открытия пакета термопокрывало полностью разворачивают и накрывают им все тело, за исключением головы. При утоплении предварительно нужно снять мокрую одежду с потерпевшего.
Пинцет (1 ед.)	Используют для удаления мелких инородных предметов из раны.
Булавки английские (2 ед.)	Применяются для фиксации между собой бинтов, повязок, косынки и т. п.

ОБРАТИТЕ ВНИМАНИЕ!

Изложенные советы являются рекомендательными: перед применением любых препаратов проконсультируйтесь с врачом.

Автомобильную аптечку можно самостоятельно доукомплектовать, добавив в нее «исключенные» лекарственные препараты, а также те лекарства, которые необходимы для поддержания здоровья своего и родных: например, сердечные, для снижения кровяного давления, сосудорасширяющие, болеутоляющие, спазмолитические и пр. При этом смотрите на срок годности лекарств (как правило, 2 года с даты изготовления).

Принимать лекарства без консультации квалифицированного специалиста опасно!

* Из состава старых аптечек исключены такие препараты, как буторфанол тартрат, нитроглицерин (сердечный), перекись водорода и йод (антисептики), раствор аммиака (нашатырный спирт), сульфацил натрия (капли для промывания глаз), а также вата и медицинский лейкопластырь. (*Прим. редакции*)

СОДЕРЖАНИЕ

Предисловие 3
1. Общие положения 4
2. Обязанности и права водителей механических транспортных средств 15
3. Движение транспортных средств со специальными сигналами 20
4. Обязанности и права пешеходов 25
5. Обязанности и права пассажиров 28
6. Требования к велосипедистам 29
7. Требования к лицам, управляющим гужевым транспортом, и погонщикам животных 31
8. Регулирование дорожного движения 33
9. Предупреждающие сигналы 60
10. Начало движения и изменение его направления 65
11. Расположение транспортных средств на дороге 73
12. Скорость движения 80
13. Дистанция, интервал, встречный разъезд 89
14. Обгон 90
15. Остановка и стоянка 97
16. Проезд перекрестков 110
17. Преимущества маршрутных транспортных средств 136
18. Проезд пешеходных переходов и остановок транспортных средств 138
19. Пользование внешними световыми приборами 141
20. Движение через железнодорожные переезды 143
21. Перевозка пассажиров 146
22. Перевозка груза 148
23. Буксировка и эксплуатация транспортных составов 150
24. Учебная езда 153
25. Движение транспортных средств в колоннах 154
26. Движение в жилой и пешеходной зоне 155
27. Движение по автомагистралям и дорогам для автомобилей 156
28. Движение по горным дорогам и на крутых спусках 158
29. Международное движение 159
30. Номерные, опознавательные знаки, надписи и обозначения 160
31. Техническое состояние транспортных средств и их оборудование 164
32. Отдельные вопросы дорожного движения, требующие согласования 172
33. Дорожные знаки 173
34. Дорожная разметка 223
35. Основы безопасного управления дорожными транспортными средствами 229
36. Основы оказания первой медицинской помощи 236
37. Основы автотранспортного права 241
38. Европротокол 244
39. Этика и психофизиология водителя 245
40. Основы устройства транспортного средства 247
41. Работа и отдых водителя транспортного средства 252
42. Эксплуатация транспортного средства и его влияние на окружающую среду 253

От авторов
Советы тем, кто будет сдавать экзамен в сервисном центре МВД Украины 256
Таблица правильных ответов 257
Обратная сторона экзаменационной карточки, используемой при сдаче практического экзамена по управлению транспортными средствами в сервисных центрах МВД Украины 268
В каких случаях может остановить полицейский 269
Перечень медикаментов автомобильной аптечки АМА-1 270

Навчальне видання

ДЕРЕХ Зіновій Дмитрович
ЗАВОРИЦЬКИЙ Юрій Євгенович

ТЕМАТИЧНІ ЗАПИТАННЯ

для перевірки знань Правил і безпеки дорожнього руху, законодавства, основ надання першої медичної допомоги, складання Європротоколу, етики та режимів праці й відпочинку водія, основ будови й експлуатації ТЗ, його впливу на екологію

5-те видання, доповнене та перероблене

Схвалено Міністерством освіти і науки України

(*Російською мовою*)

Підп. до друку 07.02.2019. Формат 84х108/16. Друк офс. Папір газ.
Ум. друк. арк. 22,68. Зам. 1891

«Видавництво "Арій"»,
03148, м. Київ, просп. Леся Курбаса, 2-Б
тел. 537-2920, www.ariy.com.ua; e-mail: info@ariy.com.ua

Свідоцтво Держкомтелерадіо України ДК № 5230 від 11.10.2016

Віддруковано з готового оригінал-макета
в ТОВ "Фактор-Друк"
61030, м. Харків, вул. Саратовська, 51
тел. 8(057)7-175-185

ВІДПОЧИНОК НА БЕРЕЗІ ЧОРНОГО МОРЯ

База відпочинку
«РАЯНА»
від **1600** грн.

ХЕРСОНСЬКА ОБЛАСТЬ,
ЗАЛІЗНИЙ ПОРТ

ДЕНЬ НЕЗАЛЕЖНОСТІ
Тур 3 дні - 1450 грн.

7 ДНІВ

ПРОЇЗД ТА ПРОЖИВАННЯ

тел.: 096-330-01-77, 068-000-89-50, Яна

www.rayana.com.ua

В путівку входить проїзд на комфортабельному автобусі та проживання на новій базі.

В оплату відпочинку входять всі комунальні послуги.

Є номери стандарт, напівлюкс і люкс класу.

На базі працює магазин.

Власне водопостачання та гаряча вода постійно.

На базі є Wi-Fi

Преподаватели автошкол рекомендуют

Эти и другие книги вы можете приобрести в издательстве «АРИЙ»:
03148, г. Киев 148, а/я 24
(044) 537-2920, (044) 407-1030
info@ariy.com.ua
www.ariy.com.ua
ISBN 978-966-498-067-5

АРИЙ 22659
Все легальные экземпляры этого пособия имеют защитные голограммы ООО «Издательство "Арий"». Экземпляры **без защитных голограмм являются контрафактными**.